د پوهنې وزارت

ریاضي ۱۱

ټولګی

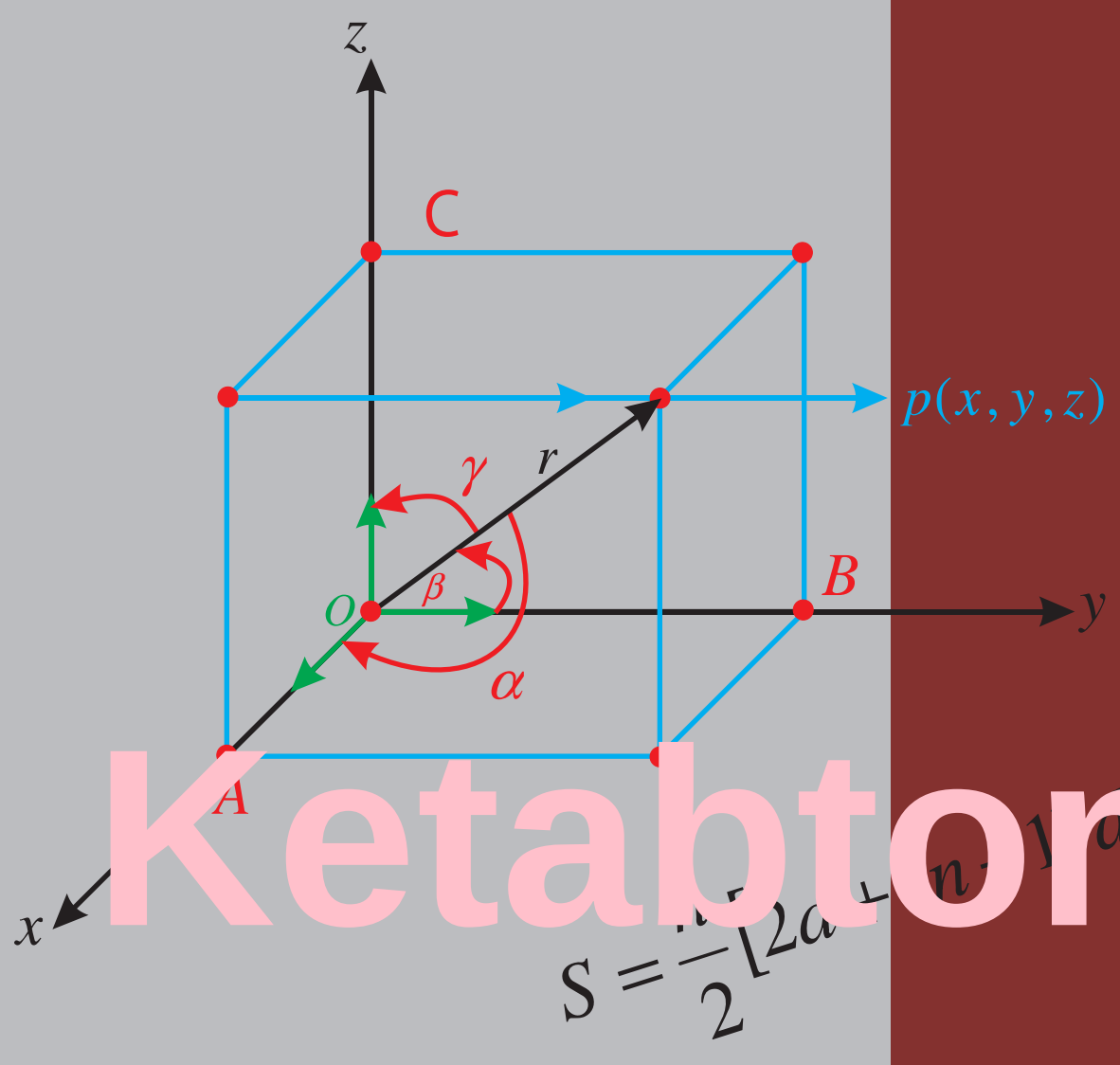

Ketabton.com

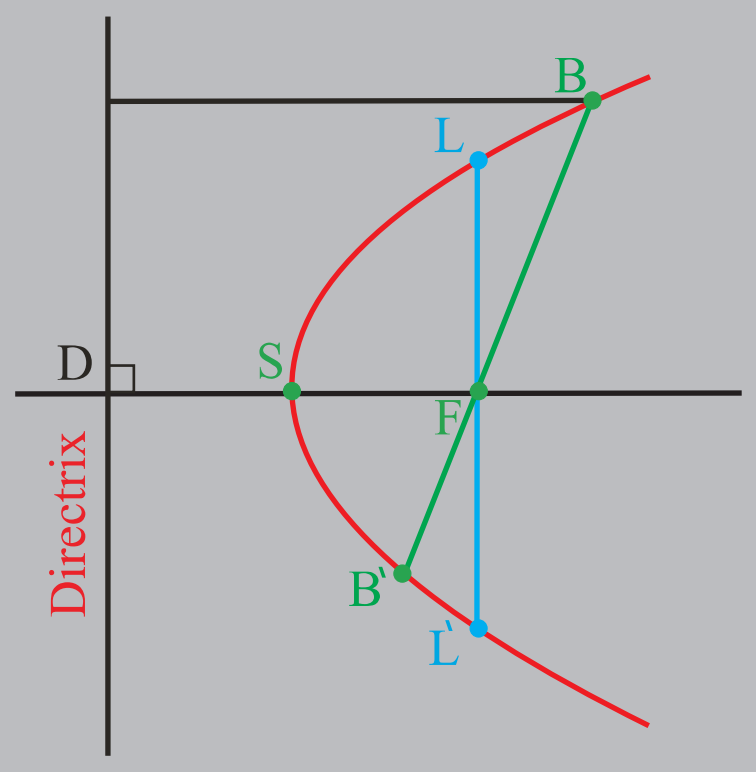

د چاپ کال: ۱۳۹۸

ریاضي ۱۱ ټولګی

(c) ketabton.com: The Digital Library

ملي سرود

دا وطن افغانستان دی
کور د سولې کور د تورې
دا وطن د ټولو کور دی
د پښتون او هزاره وو
ورسره عرب، گوجر دي
براهوي دي، قزلباش دي
دا هیواد به تل ځلیږي
په سینه کې د آسیا به
نوم د حق مو دی رهبر

دا عزت د هر افغان دی
هر بچی یې قهرمان دی
د بلوڅو د ازبکو
د ترکمنو د تاجکو
پامیریان، نورستانیان
هم ایماق، هم پشه یان
لکه لمر پر شنه آسمان
لکه زړه وي جاویدان
وایو الله اکبر وایو الله اکبر

(c) ketabton.com: The Digital Library

بسم الله الرحمن الرحيم

د پوهنې وزارت

رياضي ۱۱ ټولګی

د چاپ کال: ۱۳۹۸ هـ. ش.

(c) ketabton.com: The Digital Library

د کتاب ځانګړتیاوې

مضمون: رياضي

مؤلفين: د تعليمي نصاب د رياضياتو د څانګې علمي او مسلکي غړي

اډيټ کوونکي: د پښتو ژبې د اډيټ علمي او مسلکي غړي

ټولګی: يوولسم

د متن ژبه: پښتو

انکشاف ورکوونکی: د تعليمي نصاب د پراختيا او درسي کتابونو د تأليف لوی رياست

خپروونکی: د پوهنې وزارت د اړيکو او عامه پوهاوي رياست

د چاپ کال: ۱۳۹۸ هجري شمسي

د چاپ ځای: کابل

چاپخونه:

برېښناليک پته: curriculum@moe.gov.af

د درسي کتابونو د چاپ، وېش او پلورلو حق د افغانستان اسلامي جمهوريت د پوهنې وزارت سره محفوظ دی. په بازار کې يې پلورل او پېرودل منع دي. له سرغړوونکو سره قانوني چلند کېږي.

(c) ketabton.com: The Digital Library

د پوهنې د وزير پيغام

اقرأ باسم ربک

د لوی او ښښونکي خدای ﷻ شکر په ځای کوو، چې موږ ته يې ژوند رابښلی، او د لوست او ليک له نعمت څخه يې برخمن کړي يو، او د الله تعالی پر وروستي پيغمبر محمد مصطفی ﷺ چې الهي لومړنی پيغام ورته (لوستل) و، درود وايو.

څرنګه چې ټولو ته ښکاره ده ۱۳۹۷ هجري لمريز کال د پوهنې د کال په نامه ونومول شو، له دې امله به د ګران هېواد ښوونيز نظام، د ژورو بدلونونو شاهد وي. ښوونکی، زده‌کوونکی، کتاب، ښوونځی، اداره او د والدينو شوراګانې د هېواد د پوهنيز نظام شپږګوني بنسټيز عناصر بلل کيږي، چې د هېواد د ښوونې او روزنې په پراختيا او پرمختيا کې مهم رول لري. په داسې مهم وخت کې د افغانستان د پوهنې وزارت د مشرتابه مقام، د هېواد په ښوونيز نظام کې د ودې او پراختيا په لور بنسټيزو بدلونونو ته ژمن دی.

له همدې امله د ښوونيز نصاب اصلاح او پراختيا، د پوهنې وزارت له مهمو لومړيتوبونو څخه دي. همدارنګه په ښوونځيو، مدرسو او ټولو دولتي او خصوصي ښوونيزو تأسيساتو کې، د درسي کتابونو محتوا، کيفيت او توزيع ته پاملرنه د پوهنې وزارت د چارو په سر کې ځای لري. موږ په دې باور يو، چې د باکيفيته درسي کتابونو له شتون پرته، د ښوونې او روزنې اساسي اهدافو ته رسېدلی نشو.

پورتنيو موخو ته د رسېدو او د اغېزناک ښوونيز نظام د رامنځته کولو لپاره، د راتلونکي نسل د روزونکو په توګه، د هېواد له ټولو زړه سواندو ښوونکو، استادانو او مسلکي مديرانو څخه په درناوي هيله کوم، چې د هېواد بچيانو ته دې د درسي کتابونو په تدريس، او د محتوا په لېږدولو کې، هيڅ ډول هڅه او هاند ونه سپموي، او د يوه فعال او په ديني، ملي او انتقادي تفکر سمبال نسل په روزنه کې، زيار او کوښښ وکړي. هره ورځ د ژمنې په نوي کولو او د مسؤوليت په درک سره، په دې نيت لوست پيل کړي، چې د نن ورځې ګران زده‌کوونکي به سبا د يوه پرمختللي افغانستان معماران، او د ټولنې متمدن او ګټور اوسېدونکي وي.

همدا راز له خوږو زده کوونکو څخه، چې د هېواد ارزښتناکه پانګه ده، غوښتنه لرم، څو له هر فرصت څخه ګټه پورته کړي، او د زده کړې په پروسه کې د ځيرکو او فعالو ګډونوالو په توګه، او ښوونکو ته په درناوي سره، له تدريس څخه ښه او اغېزناکه استفاده وکړي.

په پای کې د ښوونې او روزنې له ټولو پوهانو او د ښوونيز نصاب له مسلکي همکارانو څخه، چې د دې کتاب په ليکلو او چمتو کولو کې يې نه ستړې کېدونکي هلې ځلې کړې دي، مننه کوم، او د لوی خدای ﷻ له دربار څخه دوی ته په دې سپېڅلې او انسان جوړوونکې هڅې کې بريا غواړم.

د معياري او پرمختللي ښوونيز نظام او د داسې ودان افغانستان په هيله چې وګړي يې خپلواک، پوه او سوکاله وي.

د پوهنې وزير

دکتور محمد ميرويس بلخي

(c) ketabton.com: The Digital Library

لړليک

سرليک | مخونه

لومړی څپرکی مخروطي مقاطع

- مخروطي مقاطع ۳
- بيضوي ۵
- د بيضوي معادله ۹
- د هغې بيضوي معادله چې مرکز يې يو اختياري ټکی وي ۱۳
- پارابولا ۱۷
- د پارابولا معادله ۱۹
- د هغې پارابولا معادله چې راس يې يو اختياري ټکی وي ۲۳
- هايپربولا ۲۷
- د هايپربولا معادله ۲۹
- د هغې هايپربولا معادله چې مرکز يې يو اختياري ټکی وي ۳۳
- د مستقيم خط موقعيت نظرمخروطي مقاطعو ته ۳۷
- د څپرکي مهم ټکي ۴۱
- د څپرکي پوښتنې ۴۴

دويم څپرکی مثلثات

- د ساين قانون ۴۹
- د کوساين قانون ۵۵
- د تانجنټ قانون ۵۹
- مثلثاتي مطابقتونه ٦۳
- مثلثاتي معادلې ٦۹
- دويمه درجه مثلثاتي معادلې ۷۵
- د دوه مجهوله مثلثاتي معادلو يا سيستمونو حل ۷۹
- د څپرکي مهم ټکي ۸۹
- د څپرکي پوښتنې ۹۱

(c) ketabton.com: The Digital Library

دریم څپرکی فضايي هندسه

- اساسي مفاهيم او اکسيومونه ۹۵
- په درېِ بُعدي فضا کې کرښه او مستوي ۹۷
- په فضا کې موازي مستقيمونه ۱۰۱
- په فضا کې د دوو مستقيمو کرښو تر منځ زاويه ۱۰۳
- په فضا کې موازي مستقيمونه او موازي مستويګانې ۱۰۵
- په فضا کې متعامدې مستقيمې کرښې او مستويګانې ۱۰۷
- په فضا کې موازي مستويګانې ۱۰۹
- د څپرکي مهم ټکي ۱۱۱
- د څپرکي پوښتنې ۱۱۳

څلورم څپرکی ترادفونه

- ترادفونه ۱۱۷
- حسابي ترادف ۱۱۹
- هندسي ترادف ۱۲۷
- د ترادفونو قسمي مجموعه ۱۳۳
- د حسابي ترادف د n لومړيو حدونو قسمي مجموعه ۱۳۷
- د يوه هندسي ترادف د n حدونو د جمعې حاصل ۱۴۱
- لايتناهي هندسي سلسلې ۱۴۳
- د څلورم څپرکي مهم ټکي ۱۴۷
- د څپرکي پوښتنې ۱۴۹

پنځم څپرکی لوګاريتم

- اکسپوننشيل تابع ګانې ۱۵۳
- لوګاريتم ۱۵۷
- لوګاريتمي تابع ګانې ۱۵۹
- معمولي لوګاريتم ۱۶۳
- د لوګاريتم قوانين ۱۶۷
- د لوګاريتم د قاعدې اړول په بله قاعده ۱۷۱
- کرکټرستيک او مانتيس ۱۷۵
- د لوګاريتم جدول ۱۷۹
- انتي لوګاريتم ۱۸۳
- خطي انټرپولېشن ۱۸۵
- د لوګاريتمي او اکسپوننشيل معادلو حل ۱۸۹
- درياضيکي عمليو په سرته رسولو کې له لوګاريتم څخه کار اخيستنه ۱۹۳
- د څپرکي مهم ټکي ۱۹۷
- د څپرکي پوښتنې ۱۹۹

(c) ketabton.com: The Digital Library

شپږم څپرکی متریکسونه

- متریکسونه ۲۰۵
- د متریکسونو ډولونه ۲۰۹
- د متریکسونو جمع او تفریق ۲۱۳
- په متریکس کې د سکالر ضرب ۲۱۵
- د دوو متریکسونو ضرب ۲۱۷
- د یوه متریکس ترانسپوز متریکس ۲۲۱
- دیترمینانت ۲۲۳
- د دیترمینانت خاصیتونه ۲۲۷
- د 2×2 مرتبې متریکسونو ضربي معکوس ۲۲۹
- له معکوس متریکس څخه په کار اخېستنې د خطي معادلو د سیستم حل ۲۳۱
- د خطي معادلو د سیستم حل د کرامر په طریقه ۲۳۵
- د معادلو د سیستم حل د ګوس(Gouse) په طریقه ۲۳۹
- د شپږم څپرکي مهم ټکي ۲۴۳
- د څپرکي پوښتنې ۲۴۵

اووم څپرکی وکتورونه

- د وضعیه کمیتونو په قایم سیستم کې وکتورونه ۲۴۹
- د دوو ټکو ترمنځ واټن او منځنی ټکی ۲۵۱
- وکتورونه په سطح او فضا کې ۲۵۳
- په درې بعدي فضا کې د ټکي مختصات ۲۵۵
- د یوه وکتور د جهت زاویې او کوساینونه ۲۵۹
- د دوو وکتورونو د سکالري ضرب حاصل ۲۶۱
- د وکتوري ضرب حاصل ۲۶۵
- د څپرکي مهم ټکي ۲۷۵
- د څپرکي پوښتنې ۲۷۷

(c) ketabton.com: The Digital Library

اتم څپرکی احصایه

- دبدلونونو ضریب ۲۸۱
- په نورمال منحني کې تیتوالی ۲۸۳
- دنورمال توزیع دډول شاخصونه ۲۸۵
- څو متحوله ټولنې ۲۸۷
- د تیتوالي ګراف ۲۸۹
- پیوستون او دپیوستون ضریب ۲۹۱
- د خطي میلان معادله ۲۹۵
- د اتم څپرکي مهم ټکي ۲۹۹
- د څپرکي پوښتنې ۳۰۱

نهم څپرکی احتمالات

- پرموټېشن یا ترتیب ۳۰۵
- ترکیب یا کمبینیشن ۳۰۹
- ترکیب ۳۱۱
- تبدیل ۳۱۳
- د بینوم قضیه ۳۱۷
- دوه جمله یي احتمال ۳۱۹
- د څپرکي مهم ټکي ۳۲۲
- د څپرکي پوښتنې ۳۲۳

(c) ketabton.com: The Digital Library

لومړی څپرکی

مخروطي مقاطع

(c) ketabton.com: The Digital Library



(c) ketabton.com: The Digital Library

مخروطي مقاطع

sections of Conic

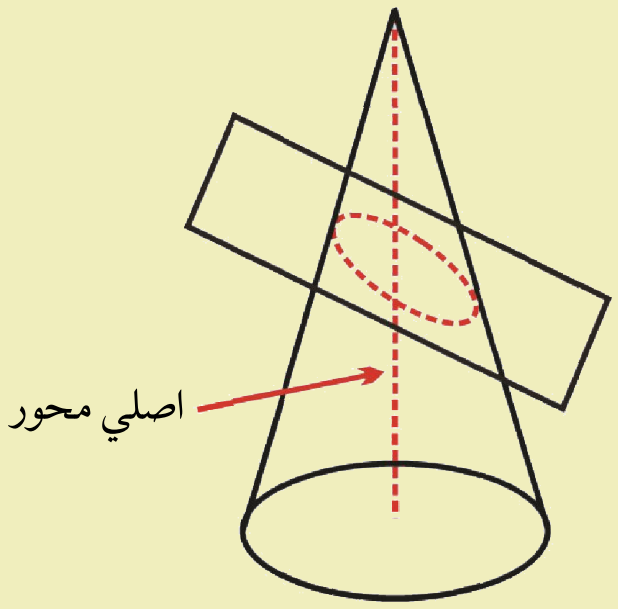

آیا ویلای شئ چي د یوې مستوي او مخروط د تقاطع لـه ګډ فصل څخه څه ډول منحني ګاني لاس ته راځي.

د مخروطي مقاطعو تعریف

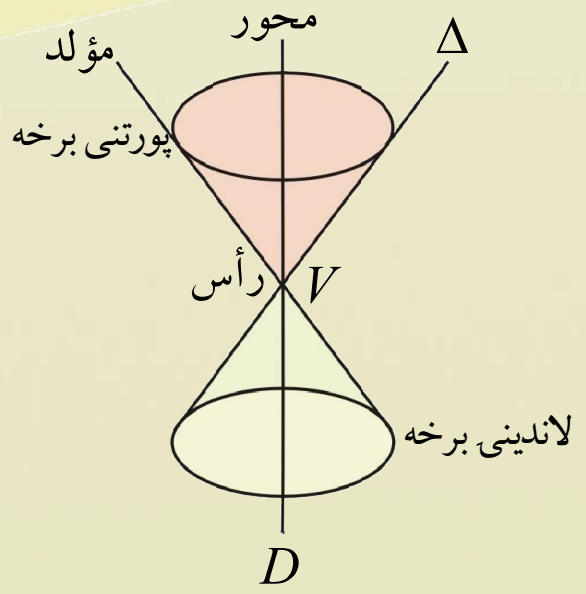

د Δ او D دوه مستقیم خطونه داسې په پام کې نیسو چې یو بل د v پـه ټکـي کـې قطع کـړي. کـه چیـرې د D خـط ثابـت او د Δ خـط د هغـه پـه چـاپیر وڅرخیږي، له دې څرخولو څخه پـه فضا کې دوه شکلونه چې یـو یـې د v (ټکی) پورته او بل یې د v د ټکي ښکته خواتـه جوړیږي. هـر یـو یـې مخـروط دی، لکه: مخامخ شکل د D مـستقیم خط د مخروط اصلي محور او د Δ مستقیم خط د هغه مولد دی.

د یوې مستوي په واسطه د یوه مخروط قطع کول مختلف حالتونه لري چې مختلفي منحني ګاني منځ ته راځي چې مخروطي مقاطع بلل کېږي. په راتلونکي کې به هر یو په تفصیل سره ولوستل شي.

فعالیت

- یو مخروط د مستوي په واسطه داسې قطع کړئ چې مستوي د مخروط په اصلي محور بانـدې عمـود او یـا لـه قاعدو سره موازي وي، ویلای شئ، ګډ فصل یې څه ډول منحني ده؟
- یو مخروط د یوې مستوي په واسطه داسې قطع کړئ چې مستوي نسبت د مخروط اصلي محور تـه مایلـه وي، ګډ فصل یې څه ډول منحني ده؟
- یو مخروط د یوې مستوي په واسطه داسې قطع کړئ چې مستوي د مخروط له مولد سره موازي وي، نوتقاطع یا ګډ فصل یې څه ډول منحني ده؟
- دوه مخروطه چې راسونه یې سر په سر (منطبق) او قاعدې یې موازي وي، د یوې مستوي په واسطه چې اصلـي محور سره موازي وي قطع کړئ. ویلای شئ چې له ګډ فصل څخه یې څه ډول منحني په لاس راځي؟
- یو مخروط د یوې مستوي په واسطه داسې قطع کړئ چې مـستوي د مخروط اصلـي محور پـه بـر کـې ولـري، تقاطع یاګډ فصل یې څه ډول هندسي شکل دی؟

(c) ketabton.com: The Digital Library

له پورته فعالیت څخه لاندې پایله په لاس راځي:



پایله:

- که چېرې مستوي یو مخروط داسې قطع کړي چې مستوي د مخروط په اصلي محور عمود او یا موازي له قاعدو سره وي، نو لاس ته راغلی شکل یې یوه دایره(Circle) ده.
- که چېرې مستوي مخروط داسې قطع کړي چې مستوي نسبت د مخروط اصلي محور ته مایل وي، نو لاس ته راغلی شکل بیضوی (Ellipse) ده.
- که چېرې یوه مستوي یو مخروط داسې قطع کړی وي چې اصلي محور ته موازي اما هغه په بر کې ونه لري، نو په دې حالت کې د هغوی له لاس ته راغلي شکل څخه پارابولا (Parabola) په لاس راځي.
- که چېرې یوه مستوي دوه څوکې په څوکې مخروطونه داسې قطع کړي چې د مخروط له اصلي محور سره موازي وي خو هغه په ځان کې ونه لري نو، له لاس ته راغلي شکل څخه یې هایپربولا (Hyperbola) په لاس راځي.
- که چېرې یوه مستوي سطحه اصلي محور په برکې ولري، نو لاس ته راغلی شکل یې له دوو متقاطع خطونو څخه عبارت دی چې هر یو یې په پورته شکلونو کې ښودل شوی دي.

پوښتنې

1- پورتني شکل ته په کتو سره، د مستوي او مخروط هغه متقاطع حالت رسم کړئ چې ګډ فصل یې یوه دایره او یا یو ټکی وي.

2- که چېرې یوه مستوي دوه څوکې په څوکې مخروطونه داسې قطع کړي چې د دواړو مخروطونو اصلي محورونه په برکې ولري، ګډ فصل یې څه ډول هندسي شکل دی؟

3- د یوې مستوي او یو مخروط ګډ فصل په کوم حالت کې یوه کرښه ده؟ په شکل کې یې وښیی؟

(c) ketabton.com: The Digital Library



بیضــوي

Ellipse

د سیارو حرکت د لمریز نظام په شاوخوا څه ډول منحني ګاڼي جوړوي؟

فعالیت

- د میز پر سر د یوې سپینې کاغذي پاڼې پر مخ دوه ستنې په یوه معین او ثابت واټن سره د F او F′ په دوو ټکو کې وټومبئ.
- د یو تار ځوکه چې اوږدوالی یې د دوو ستنو ترمنځ د فاصلې څخه زیات یا د $\overline{FF'}=2c$ وي، په دواړو ستنو کې وتړئ، لاندې شکل ته په کتو سره یو پنسل د تار په غاړه د ستنو په شاوخوا وڅرخوئ.
- هغه شکل چې له یوې بشپړې دورې څخه په لاس راځي څه ډول منحني ده؟

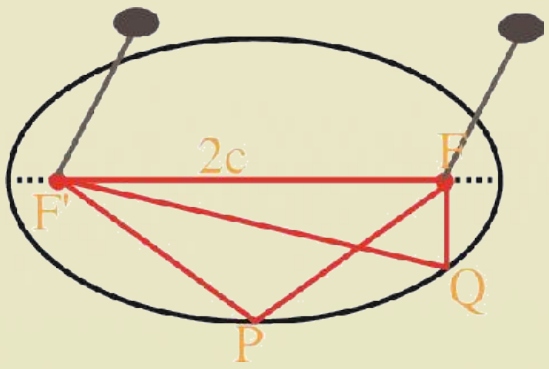

له پورته فعالیت څخه لاندې پایله بیانولای شو:

پایله: هغه شکل چې ددوو ستنو تر منځ د معین او ثابت واټن په اندازه د تار په غاړه د پنسل له څرخولو څخه په لاس راځي، بیضوي بلل کیږي، د F او F′ ټکي د بیضوي د محراقونو په نامه یادیږي.

فعالیت

- په مخامخ شکل کې د F،F′، M،M′، A′ او A ټکو مختصات درکړل شوي، د دوو ټکو ترمنځ د فاصلې د پیداکولو له فارمول څخه په کار اخیستنې د $|MF'|$, $|MF|$ او $|AA'|$ اوږدوالی پیدا کړئ او د $|MF|+|MF'|$ جمع حاصل لاس ته راوړئ او د $|AA'|$ اوږدوالی سره یې پرتله کړئ.

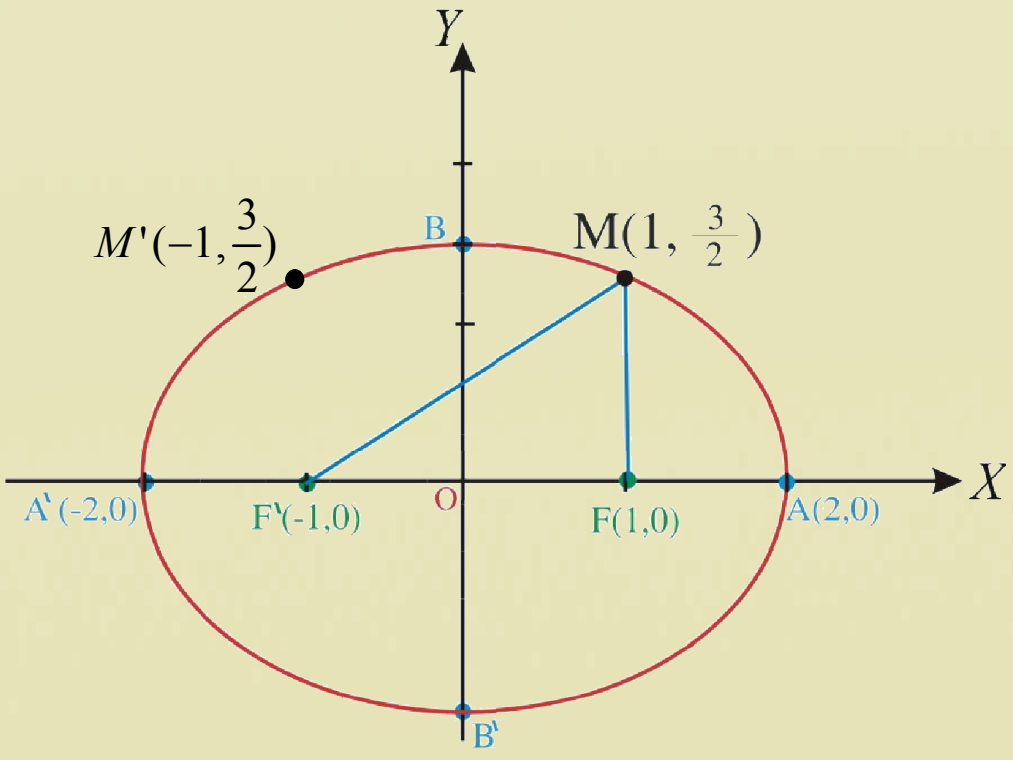

(c) ketabton.com: The Digital Library

- د $M'(-1,\frac{3}{2})$ ټکی د بیضوي په محیط باندې وټاکئ او پورتنۍ ذکر شوې مرحلې د M' په ټکی باندې تطبیق کړئ. همدارنگه د M ټکی هم په پام کې ونیسئ.
- وروسته د $|MF'| + |MF|$ او $|M'F| + |M'F'|$ قیمتونه یو له بله سره پرتله کړئ.

له پورتني فعالیت څخه لاندې تعریف بیانولای شو:

تعریف: په یوه مستوي کې د ټولو هغو ټکو هندسي محل چې له دوو ثابتو ټکو څخه یې د فاصلو د جمعې حاصل تل مساوي یا ثابت اوږدوالی $(2a)$ ولري، بیضوي بلل کېږي، مستقر ټکی چې په F او F' تورو ښودل شوی، د بیضوي محراقونه او A', A د بیضوي راسونه چې $AA' = 2a$ ثابت اوږدوالی دی.

$$|M'F| + |M'F'| = 2a \quad , \quad |MF| + |MF'| = 2a$$

نو:

$$|M'F| + |M'F'| = |MF| + |MF'| = 2a$$

د بیضوي قطرونه او راسونه

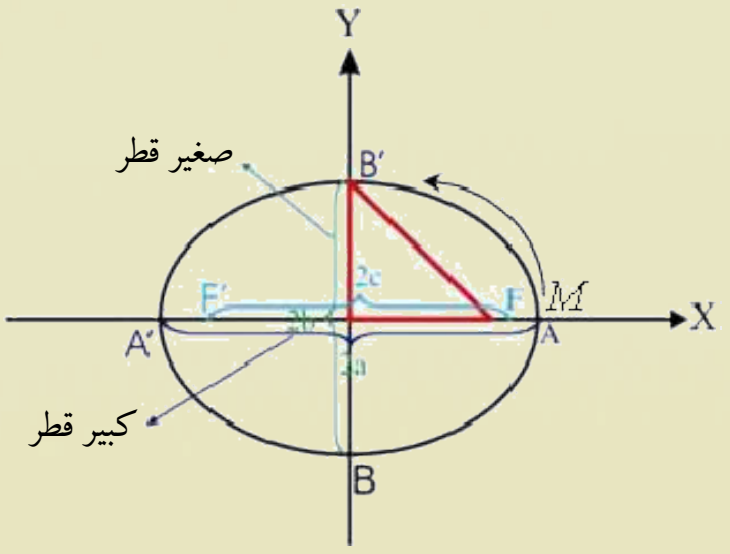

بیضوي بې شمېره قطرونه لري، تر ټولو اوږد قطر یې چې له محراقونو څخه تېرېږي او بیضوي په دوو ټکو (A او A') کې قطع کوي، د کبیر قطر (Major axis) په نامه او تر ټولو لنډ قطر یې چې د FF' د تنصیف په ټکي باندې عمود دی، د صغیر قطر (Minor axis) په نامه یادېږي. د A, A' او B, B' ټکي د بیضوی راسونه دي، کبیر قطر په AA' چې اوږدوالی یې $AA' = 2a$ او صغیر قطر په BB' چې اوږدوالی یې $BB' = 2b$ دی، ښودل کېږي.

یاددښت

که چېرې د M ټکی د صغیر قطر په یوه راس باندې یعنې په B یا B' باندې منطبق شي، په دې صورت کې، په پورته شکل کې: $\overline{MF} = \overline{MF'}$ سره کېږي.

د بیضوی له تعریف څخه پوهېږو چې:

$$|MF| + |MF'| = 2a$$

$$2\overline{MF} = 2a$$

$$\overline{MF} = a$$

(c) ketabton.com: The Digital Library

د محراقونو او قطرونو ترمنځ رابطه

د محراقونو او قطرونو ترمنځ اړیکې د فیثاغورث د قضیې له مخې لیکلای شو:

$$a^2 = b^2 + c^2$$
$$c^2 = a^2 - b^2$$
$$c = \pm\sqrt{a^2 - b^2}$$

د بیضوي تناظري مرکز او تناظري محور

بیضوي دوه تناظري محورونه لري، یو یې اوږد محور چې د AA' پر قطر باندې منطبق دی، محراقي محور هم بلل کېږي او بل یې لنډ محور چې د BB' پر قطر باندې منطبق دی، تناظري محور په نامه یادېږي.

د دې دواړو تناظري محورونو د تقاطع ټکی د بیضوي تناظري مرکز بلل کیږي او په (O) سره ښودل کیږي.

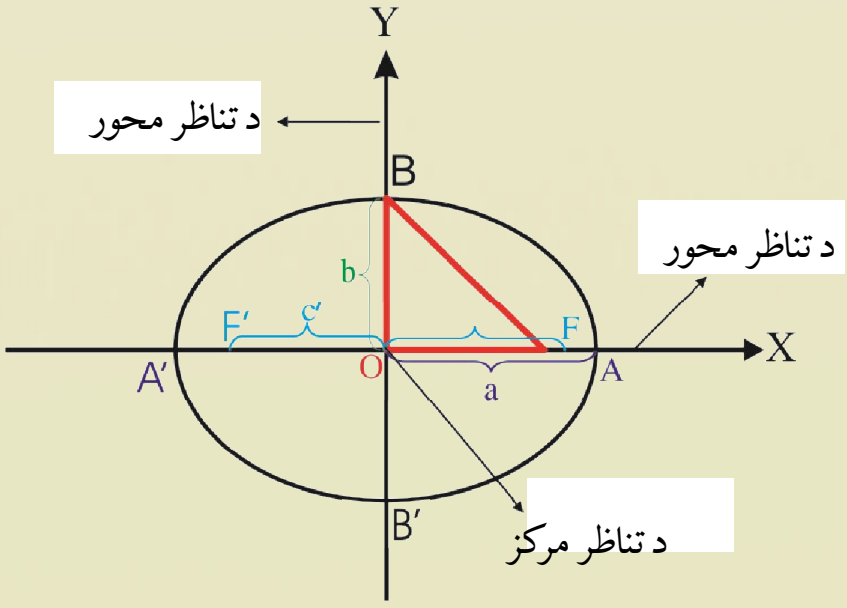

$$\overline{OA} = \overline{OA'} = a$$
$$\overline{OB} = \overline{OB'} = b$$
$$\overline{OF} = \overline{OF'} = c$$

عن المرکزیت (Eccentricity): د محراقونو د اوږدوالي او د کبیر قطر د اوږدوالي نسبت ته عن المرکزیت وایې چې د یوې بیضوي شکل د هغه په واسطه ټاکل کېږي ، د بیضوي عن المرکزیت په e سره ښودل کیږي.

$$e = \frac{2c}{2a} = \frac{c}{a}$$

پوهېږو چې په هره بیضوي کې $0 < c < a$ دی، نو $0 < e < 1$ کېږي، ولې؟

د بیضوي د عن المرکزیت او قطرونو تر منځ داسې رابطه $e = \sqrt{1 - \frac{b^2}{a^2}}$ ده، د $e = \frac{c}{a}$ د رابطې په کارولو سره هغه لاس ته راوړئ.

(c) ketabton.com: The Digital Library

يادونه: که چيرې د e قيمت صفر ته نژدې شي، محراقونه د مرکز خوا ته نژدې کېږي او بيضوي تقريباً دايروي شکل غوره کوي. که چېرې e د 1 عدد ته نژدې شي، په دې صورت کې محراقونه د قطرونو د راسونو خواته نژدې کېږي چې يو اوږد شکل غوره کوي، د بيضوي د ډېرو مسايلو په حل کې د عن المرکزيت څخه کار اخيستل کېږي.

پوښتنې

1 – که چېرې په بيضوي کې د کبير او صغير قطر اوږدوالی يو له بل سره مساوي وي، څه ډول منحنې په لاس راځي؟

2 – که چېرې د بيضوي عن المرکزيت $\frac{2}{3}$ وي، په دې صورت کې د کبير قطر او صغير قطر نسبت پيدا کړئ.

(c) ketabton.com: The Digital Library

د بیضوي معادله

آیا د هغې بیضوي معادله چې مرکز یې د وضعیه کمیاتو په مبدا کې وي، پیدا کولای شئ؟

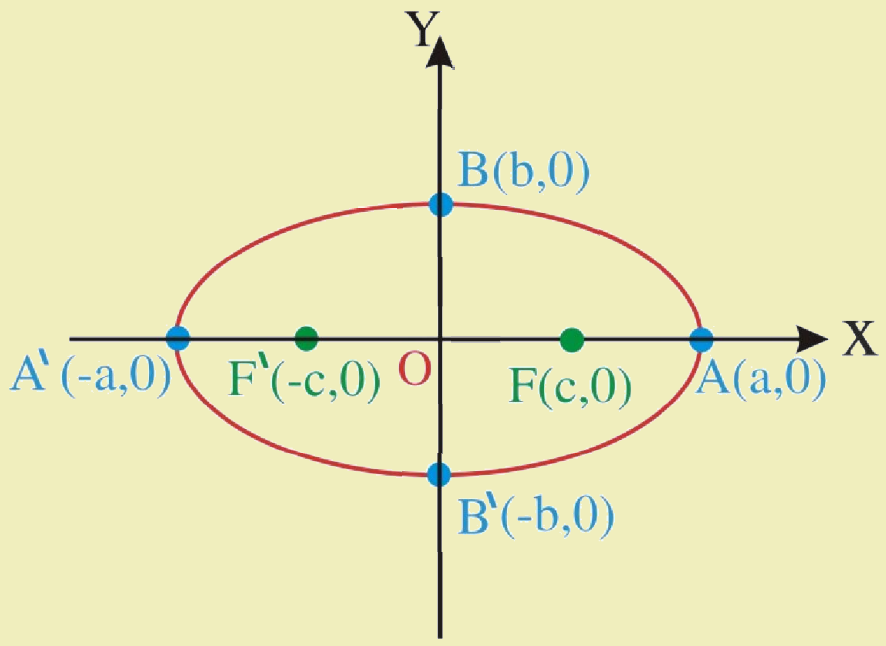

فعالیت

- داسې بیضوي رسم کړی چې مرکز یې د وضعیه کمیاتو په مبدا کې وي او محراقونه یې د x د محور په مخ وټاکئ.
- د $M(x,y)$ یو اختیاري ټکی، د بیضوي پر محیط باندې وټاکئ او هغه له محراقونو سره ونښلوئ.
- د بیضوي د تعریف رابطه نظر د M ټکی ته ولیکئ.
- د دوو ټکو ترمنځ د فاصلې د پیداکولو له فارمول څخه په کار اخیستنې د MF او MF' اوږدوالی پیداکړئ او دهغه په اساس د بیضوي معادله په لاس راوړئ.

د بیضوي د معادلې ثبوت

لومړی حالت: موږ لرو:

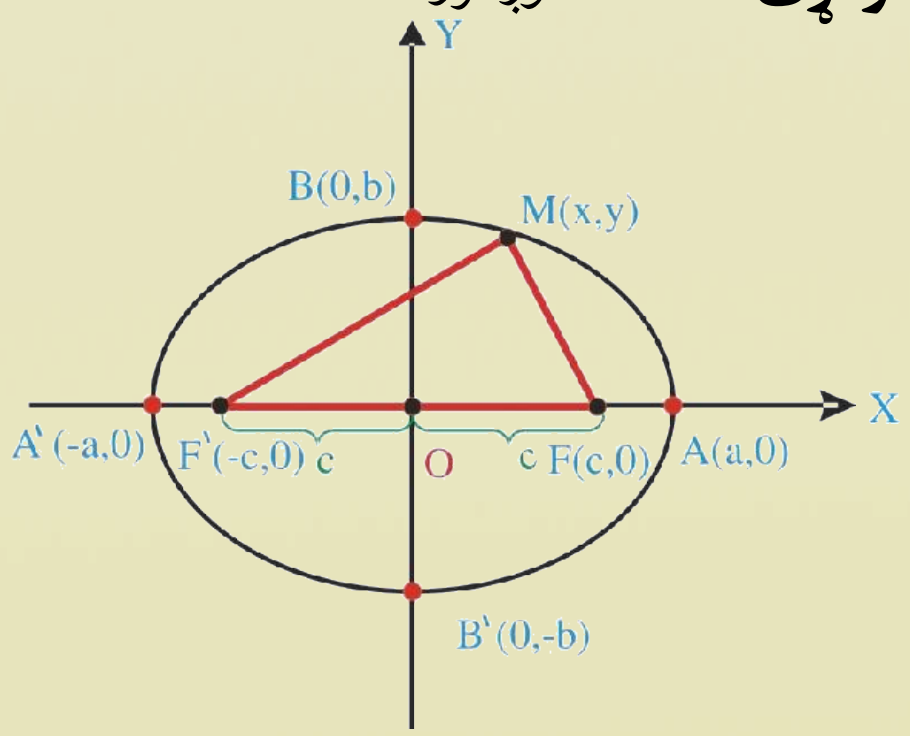

$$|MF|+|MF'|=2a$$
$$\sqrt{(x-c)^2+(y-0)^2}+\sqrt{(x+c)^2+(y-0)^2}=2a$$
$$\sqrt{(x-c)^2+y^2}+\sqrt{(x+c)^2+y^2}=2a$$

$$(\sqrt{(x-c)^2+y^2})^2=(2a-\sqrt{(x+c)^2+y^2})^2$$

د دواړو خواوو له مربع کولو وروسته لیکو چې:

$$(x-c)^2+y^2=4a^2-4a\sqrt{(x+c)^2+y^2}+(x+c)^2+y^2$$
$$x^2-2cx+c^2+y^2=4a^2-4a\sqrt{(x+c)^2+y^2}+x^2+2cx+c^2+y^2$$
$$x^2-2cx+c^2+y^2-4a^2-x^2-2cx-c^2-y^2=-4a\sqrt{(x+c)^2+y^2}$$
$$-4cx-4a^2=-4a\sqrt{(x+c)^2+y^2}\quad /\div(-4)$$

(c) ketabton.com: The Digital Library

یا $a^2+cx=a\sqrt{(x+c)^2+y^2}$

د پورته رابطې دواړه خواوې بیا مربع کوو او لیکو:

$$(a^2+cx)^2=(a\sqrt{(x+c)^2+y^2})^2$$
$$a^4+2a^2cx+c^2x^2=a^2[(x+c)^2+y^2]$$
$$a^4+2a^2cx+c^2x^2=a^2(x^2+2cx+c^2+y^2)$$
$$a^4+2a^2cx+c^2x^2=a^2x^2+2a^2cx+a^2c^2+a^2y^2$$
$$a^4+c^2x^2-a^2x^2-a^2c^2-a^2y^2=0/(-1)$$
$$a^2x^2+a^2c^2+a^2y^2-c^2x^2-a^4=0$$
$$x^2(a^2-c^2)+a^2y^2=a^4-a^2c^2$$
$$x^2(a^2-c^2)+a^2y^2=a^2(a^2-c^2)$$

څرنګه چې $a^2=b^2+c^2$ دي، نو $b^2=a^2-c^2$ کېږي، په دې صورت کې پورته معادله په لاندې توګه لیکو:

$$x^2b^2+a^2y^2=a^2b^2 \quad / \div a^2b^2$$
$$\frac{x^2}{a^2}+\frac{y^2}{b^2}=1 \quad , \qquad a>b$$

د بیضوي په پورته معادله کې a د کبیر قطر نیمایي او b د صغیر قطر نیمایي دی چې مرکز یې د وضعیه کمیاتو په مرکز کې او محراقي محور یې د x پرمحور دی.

د کبیر او صغیر قطر د راسونو او د محراقونو مختصات عبارت وي له:

$$\begin{cases}A(a،\ 0)\\A'(-a,0)\end{cases}\qquad\begin{cases}B(0،b\ )\\B'(0،\ -b)\end{cases}\qquad\begin{cases}F(c،\ 0)\\F'(-c،\ 0)\end{cases}$$

دویم حالت: که چېرې د بیضوي محراقونه د y په محور باندې وي، په دې صورت کې د بیضوي معادله عبارت ده له: $\frac{y^2}{a^2}+\frac{x^2}{b^2}=1$

د هغه ګراف رسم او د اوږد قطر، لنډ قطر د راسونو او محراقونو مختصات یې ولیکي.

لومړی مثال: که چېرې د بیضوي اوږد قطر د y پر محور باندې او اوږدوالی یې $|AA'|=6$ او د لنډ قطر اوږدوالی یې $|BB'|=4$ واحده وي، د بیضوي معادله پیدا کړئ.

حل:
$$|AA'|=2a=6\Rightarrow\ a=3$$
$$|BB'|=2b=4\ \ \Rightarrow\ b=2$$

اوس د a او b قیمتونه په عمومي معادله کې ایږدو: $\frac{x^2}{b^2}+\frac{y^2}{a^2}=1\ \Rightarrow\ \frac{x^2}{4}+\frac{y^2}{9}=1$

(c) ketabton.com: The Digital Library

دویم مثال:که چیرې اوږد قطر د x پر محور او اوږدوالی یې $|AA'|=10$ او د لنډ قطر اوږدوالی یې $|BB'|=8$ واحده وي، د بیضوي د اوږده او لنډ قطرونو د راسونو او محراقونو مختصات، محراقي فاصله، د عن المرکزیت قیمت پیدا او گراف یې رسم کړئ.

حل: پوهیږو چې:

$$|AA'|=2a=10 \Rightarrow a=\pm 5$$
$$|BB'|=2b=8 \Rightarrow b=\pm 4$$

د اوږده قطر د راسونو مختصات له $A(5,0)$ او $A'(-5,0)$ څخه عبارت دي.

د لنډ قطر د راسونو مختصات له $B(0,4)$ او $B'(0,-4)$ څخه عبارت دي.

د محراقونو د مختصاتو د پیداکولو لپاره د c قیمتونه پیداکوو:

$$a^2=b^2+c^2 \Rightarrow (5)^2=(4)^2+c^2$$
$$c^2=a^2-b^2 \Rightarrow 5^2-4^2=25-16=9$$
$$c=\pm 3$$

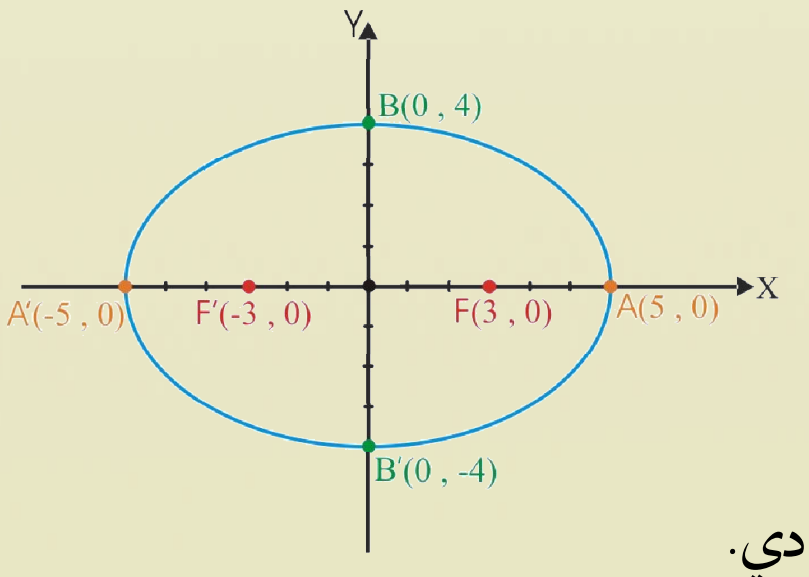

د محراقونو مختصات له $F(3,0)$ او $F'(-3,0)$ څخه عبارت دي.

عین المرکزیت: $e=\frac{c}{a}=\frac{3}{5}$ دی.

دریم مثال: د داسې بیضوي گراف رسم کړئ چې معادله یې $4x^2+y^2=16$ وي، د راسونو او محراقونو مختصات یې پیداکړئ.

حل: د معادلې دواړه خواوې په 16 وېشو او لاندې معادله لاس ته راځي:

$$\frac{4x^2}{16}+\frac{y^2}{16}=\frac{16}{16} \Rightarrow \frac{x^2}{4}+\frac{y^2}{16}=1$$

د راسونو مختصات:

$$a^2=16 \Rightarrow a=\pm 4 \Rightarrow A(0،4) \;،\; A'(0\;،\;-4)$$
$$b^2=4 \Rightarrow b=\pm 2 \Rightarrow B(2،0) \;،\; B'(-2\;،\;0)$$

(c) ketabton.com: The Digital Library

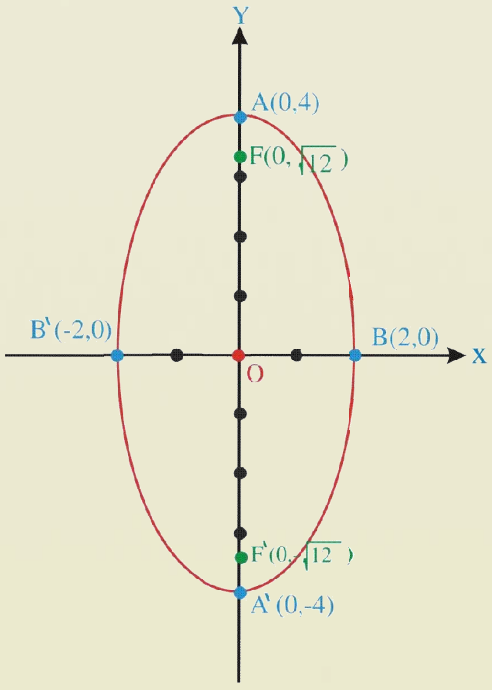

د محراقونو مختصات:

$$c^2 = a^2 - b^2$$
$$c^2 = (4)^2 - (2)^2$$
$$c^2 = 16 - 4 = 12 \Rightarrow c = \pm\sqrt{12}$$
$$F(0,\sqrt{12}),\ F'(0,-\sqrt{12})$$

خلورم مثال:د بیضوي د محیط پر مخ د یوه ټکي مختصات $P(2,4)$ او د محراقونو مختصات يې له $F'(-3\sqrt{2},0), F(3\sqrt{2},0)$ څخه عبارت دي. د اوږده او لنډ قطر اوږدوالی يې پیدا کړئ.

حل: د بیضوي د تعریف له مخې لرو چې:

$$|PF| + |PF'| = 2a \qquad \ldots\ \mathrm{I}$$

د PF او PF′ د فاصلو اوږدوالی پیدا کوو $|PF| = \sqrt{(2+3\sqrt{2})^2 + 4^2}$ او $|PF'| = \sqrt{(2-3\sqrt{2})^2 + 4^2}$

پورتني قیمتونه د I په رابطه کې ایږدو:

$$\sqrt{(2+3\sqrt{2})^2 + 4^2} + \sqrt{(2-3\sqrt{2})^2 + 4^2} = 2a$$
$$\Rightarrow \sqrt{4+12\sqrt{2}+18+16} + \sqrt{4-12\sqrt{2}+18+16} = 2a$$
$$\Rightarrow \left(\sqrt{38+12\sqrt{2}} + \sqrt{38-12\sqrt{2}}\right)^2 = (2a)^2$$
$$38+12\sqrt{2} + 2\sqrt{(38+12\sqrt{2})(38-12\sqrt{2})} + 38-12\sqrt{2} = 4a^2$$
$$76 + 2\sqrt{1444-288} = 4a^2 \Rightarrow 76 + 2\cdot 34 = 4a^2$$
$$\Rightarrow 76+68 = 4a^2 \Rightarrow 144 = 4a^2 \ /\div 4$$
$$\Rightarrow 36 = a^2 \Rightarrow a = \pm 6$$
$$|AA'| = 2a = 2\cdot 6 = 12$$
$$b^2 = a^2 - c^2$$
$$b^2 = 6^2 - (3\sqrt{2})^2 \Rightarrow b^2 = 36 - 9\cdot 2 \Rightarrow b = \pm 3\sqrt{2}$$
$$|BB'| = 2b = 2\cdot 3\sqrt{2} = 6\cdot\sqrt{2}$$

پوښتنې

1 – لاندې معادلې په پام کې ونیسئ د اوږده قطر اوږدوالی او د محراقونو ترمنځ فاصله يې پیدا کړئ.

$a)\ \dfrac{x^2}{36} + \dfrac{y^2}{16} = 1$ $\qquad b)\ \dfrac{x^2}{100} + \dfrac{y^2}{36} = 1$

2 – د هغې بیضوي معادله ولیکئ چې عن‌المرکزیت يې 0.8 وي.

(c) ketabton.com: The Digital Library

د هغې بیضوي معادله چې مرکزیې یو اختیاري ټکی وي

آیا داسې بیضوي معادله پیدا کولای شو چې مرکزیې

د وضعیه کمیاتو په مبدا کې نه وي؟

$$\frac{(x-h)^2}{a^2}+\frac{(y-k)^2}{b^2}=1$$

$$\frac{(x-h)^2}{b^2}+\frac{(y-k)^2}{a^2}=1$$

فعالیت

- یوه بیضوي د وضعیه کمیاتو په سیستم کې رسم کړئ چې مرکزیې (h,k) اوږد قطریې د x له محور سره موازي وي.
- د $P(x,y)$ یو ټکی د بیضوي په محیط باندې په پام کې ونیسئ او هغه له F او 'F سره ونښلوئ.
- د بیضوي د مرکز مختصات (h,k) په پام کې نیولو سره د محراقونو F او 'F، راسونو A , A' او B,B' وضعیه کمیات په شکل کې وښیاست.

لومړی حالت: د دوو ټکو تر منځ د فاصلې د پیدا کولو له فارمول او د بیضوي د تعریف څخه په کار اخیستنې سره د بیضوي معادله په لاس راوړو:

د PF او PF' قیمتونه د بیضوي د تعریف په رابطه کې ایږدو.

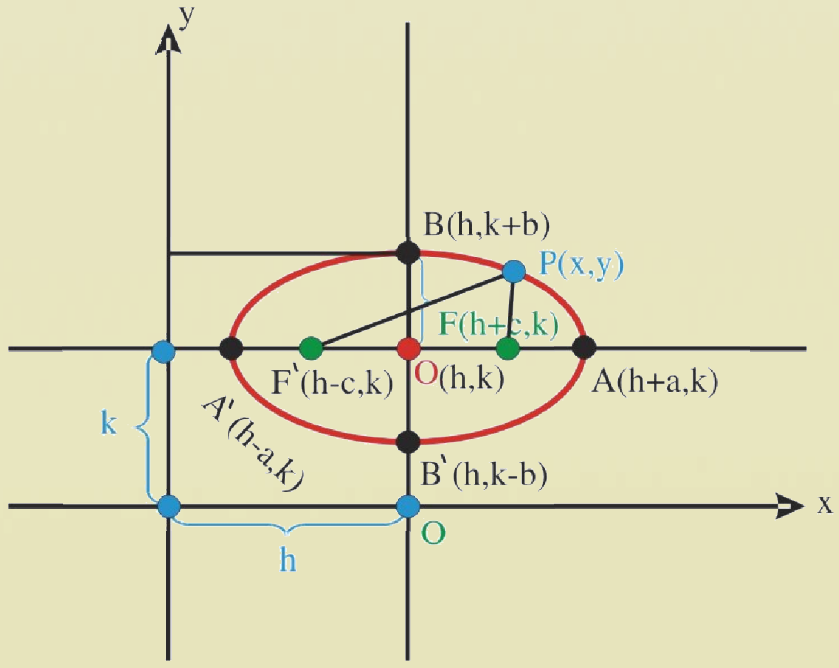

$$\left|\overline{PF}\right|+\left|\overline{PF'}\right|=2a$$

$$\left|\overline{PF}\right|=\sqrt{[x-(h+c)]^2+(y-k)^2}$$

$$\left|\overline{PF'}\right|=\sqrt{[x-(h-c)]^2+(y-k)^2}$$

$$\sqrt{[x-(h+c)]^2+(y-k)^2}+\sqrt{[x-(h-c)]^2+(y-k)^2}=2a$$

$$\sqrt{[(x-h)-c]^2+(y-k)^2}=2a-\sqrt{[x-(h-c)]^2+(y-k)^2}\ /(\ )2$$

$$[x-(h+c)]^2+(y-k)^2=4a^2-4a\sqrt{[x-(h-c)]^2+(y-k)^2}+[x-(h-c)]^2+(y-k)^2$$

$$x^2-2x(h+c)+(h+c)^2=4a^2-4a\sqrt{[x-(h-c)]^2+(y-k)^2}+x^2-2x(h-c)+(h-c)^2$$

(c) ketabton.com: The Digital Library

$$x^2-2hx-2cx+h^2+2hc+c^2=4a^2-4a\sqrt{[x-(h-c)]^2+(y-k)^2}+x^2-2hx+2cx+h^2-2hc+c^2$$
$$4hc-4cx=4(a^2-a\sqrt{[x-(h-c)]^2+(y-k)^2})/\div 4$$
$$hc-cx=a^2-a\sqrt{[x-(h-c)]^2+(y-k)^2}$$
$$c(h-x)-a^2=-a\sqrt{[x-(h-c)]^2+(y-k)^2}\quad /\div(-1)$$
$$c(x-h)+a^2=a\sqrt{[x-(h-c)]^2+(y-k)^2}$$

دواړه خواوې مربع کوو:

$$c^2(h-x)^2+2ca^2(x-h)+a^4=a^2[\{x-(h-c)\}^2+(y-k)^2]$$
$$c^2(x-h)^2+2ca^2(x-h)+a^4=a^2[(x-h)+c]^2+a^2(y-k)^2$$
$$c^2(x-h)^2+2ca^2(x-h)+a^4=a^2(x-h)^2+2a^2c(x-h)+a^2c^2+a^2(y-k)^2$$
$$c^2(x-h)^2-a^2(x-h)^2-a^2(y-k)^2=a^2c^2-a^4$$
$$(x-h)^2(c^2-a^2)-a^2(y-k)^2=a^2(c^2-a^2)$$
$$-(x-h)^2(a^2-c^2)-a^2(y-k)^2=-a^2(a^2-c^2)$$

څرنګه چې په بیضوي کې $a^2-c^2=b^2$ کېږي، نو لیکلای شو:

$$-b^2(x-h)^2-a^2(y-k)^2=-a^2b^2\quad /\ \div(-a^2b^2)$$
$$=\frac{(x-h)^2}{a^2}+\frac{(y-k)^2}{b^2}=1$$

لومړی مثال: د یوې بیضوي د مرکز، محراقونو او اوږد قطر د راسونو مختصات چې معادله یې $\frac{(x-6)^2}{36}+\frac{(y+4)^2}{16}=1$ ده، پیدا او ګراف یې رسم کړئ.

حل: څرنګه چې نوموړې معادله عمومي شکل لري، له دې امله د مرکز مختصات یې $(6,-4)$ دي، اوږد محور یې د x له محور سره موازي دی.

$$a^2=36\Rightarrow a=\pm 6$$
$$b^2=16\Rightarrow b=\pm 4$$
$$c=\pm\sqrt{a^2-b^2}=\sqrt{36-16}=\sqrt{20}=\pm 2\sqrt{5}$$

د اوږد قطر د راسونو مختصات عبارت دي له:

$$A(h+a\ ,\ k)=A(6+6,-4)=A(12,-4)$$
$$A'(h-a\ ,k)=A'(6-6,-4)=A'(0,-4)$$

(c) ketabton.com: The Digital Library

د تناظري محور د راسونو مختصات عبارت دي له:

$$B(h,k+b)=B(6,-4+4)=B(6,0)$$
$$B'(h,k-b)=B'(6,-4-4)=B'(6,-8)$$

د محراقونو مختصات عبارت دي له:

$$F(h+c,k)=F(h+c,k)=(6+2\sqrt{5},-4)$$
$$F'(h-c,k)=F'(h-c,k)=(6-2\sqrt{5},-4)$$

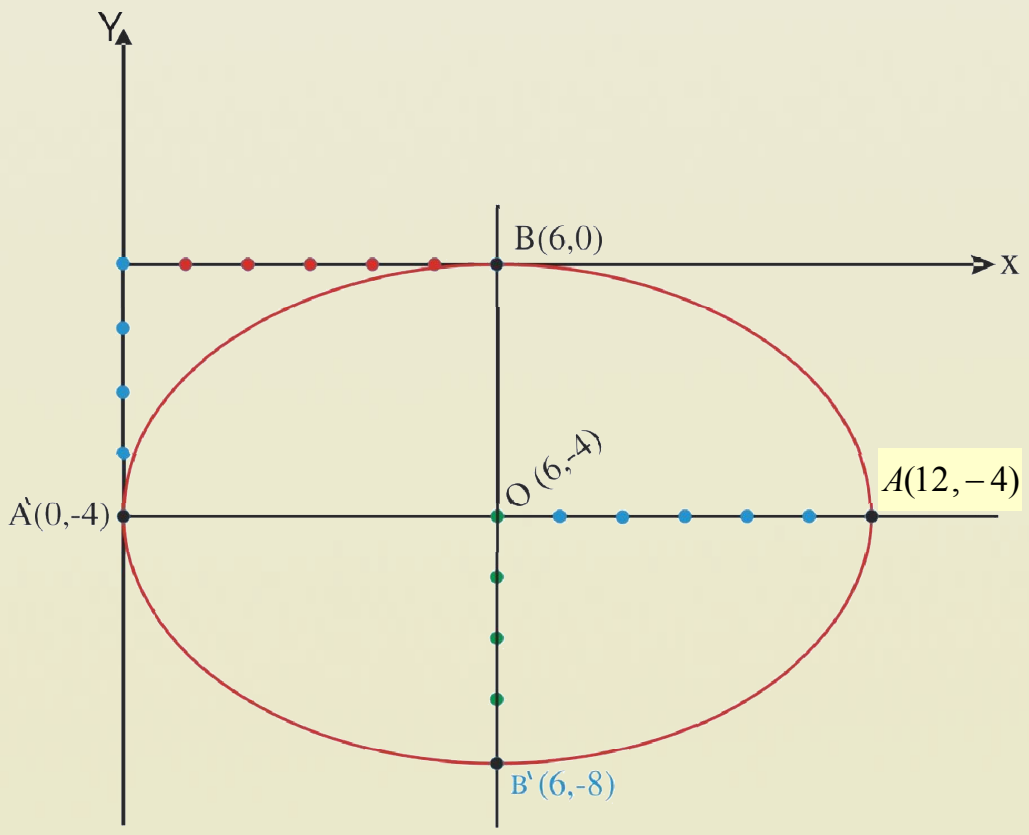

دويم حالت: که چېرې محراقي محور د y له محور سره موازي وي، په دې حالت کې معادله لاندې بڼه غوره کوي.

$$\frac{(y-k)^2}{a^2}+\frac{(x-h)^2}{b^2}=1$$
$$A(h\ ,\ k+a)\ ,\ \ A'(h,k-a)$$
$$B'(h-b\ ,k)\ ,\ \ B(h+b,k)$$
$$F'(h,k-c)\ \ ,\ \ F(h\ ,k+c)$$

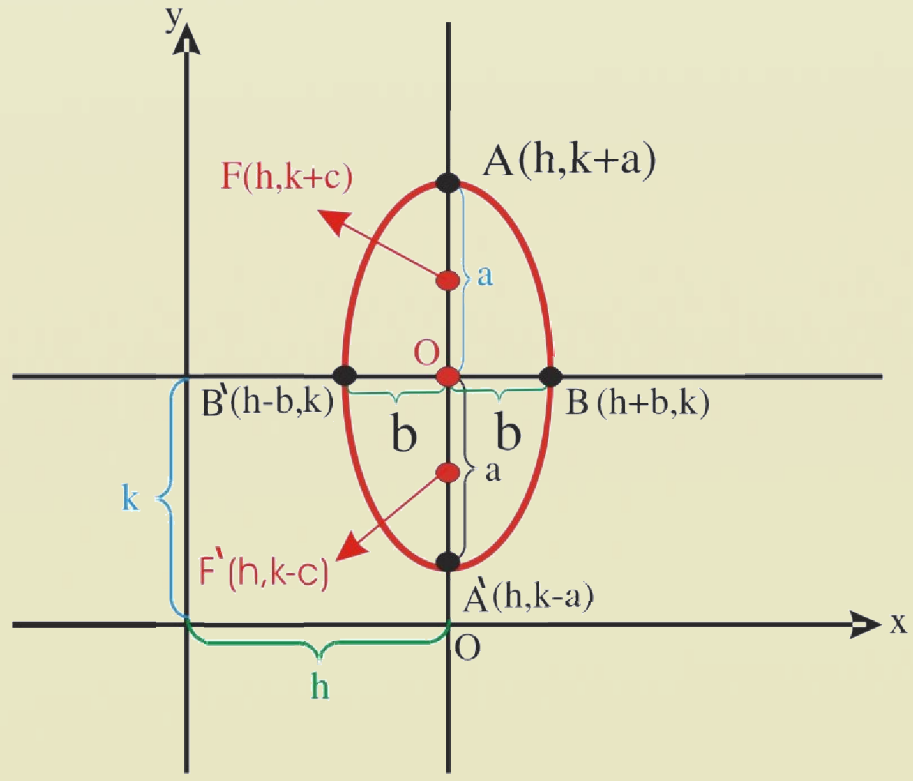

يادونه: د $Ax^2+Cy^2+Dx+Ey+F=0$ معادله هم د بيضوي عمومي معادله ده، په داسې حال کې چې $A\neq C$ او هم علامه وي، يعنې $A>0\ ,\ C>0$ يا $A<0\ ,\ C<0$

دويم مثال: د $16x^2+25y^2-64x+50y-311=0$ معادله د بيضوي د معياري معادلې په ډول وليکئ.

حل: د مربع له بشپړولو څخه په کار اخيستنې سره يې په معياري ډول بدلوو .

$$16x^2+25y^2-64x+50y=311$$
$$16(x^2-4x)+25(y^2+2y)=311$$
$$16(x^2-4x+4-4)+25(y^2+2y+1-1)=311$$
$$16[(x-2)^2-4]+25[(y+1)^2-1]=311$$
$$16(x-2)^2-64+25(y+1)^2-25=311$$
$$=16(x-2)^2+25(y+1)^2=311+64+25$$
$$16(x-2)^2+25(y+1)^2=400$$

(c) ketabton.com: The Digital Library

د پورته معادلې دواړه خواوې په 400 ویشو: $\frac{(x-2)^2}{25}+\frac{(y+1)^2}{16}=1$

پورتنۍ معادله د داسې بیضوي معادله ده چې مرکز یې د (1−، 2) ټکی دی.

دریم مثال: د بیضوي لاندې معادله د معیاري معادلې په ډول ولیکئ.

$$x^2+9y^2+4x-18y-23=0$$

حل : لومړی معادله ترتیب بیا د مربع له بشپړولو څخه په کار اخېستنې سره هغه په معیاري شکل بدلوو:

$$x^2+9y^2+4x-18y-23=0$$

$$x^2+4x+9(y^2-2y)-23=0$$

$$x^2+4x+(2)^2-(2)^2+9[y^2-2y+(1)^2-(1)^2]-23=0$$

$$\underbrace{x^2+4x+(2)^2}_{\text{کامله مربع}}-(2)^2+9\underbrace{\left[y^2-2y+(1)^2\right]}_{\text{کامله مربع}}-9-23=0$$

$$(x+2)^2-4+9(y-1)^2-9-23=0$$

$$(x+2)^2+9(y-1)^2-36=0$$

$$(x+2)^2+9(y-1)^2=36$$

د مساواتو دواړه خواوې په 36 ویشو:

$$\frac{(x+2)^2}{36}+\frac{9(y-1)^2}{36}=\frac{36}{36}$$

$$\frac{(x+2)^2}{36}+\frac{(y-1)^2}{4}=1$$

پوښتنې

1. د لاندې هر یوه بیضوي په معادلو کې د مرکز، محراقونو، راسونو مختصات او د کبیر قطر اوږدوالی پیدا کړئ.

$a)\ \frac{(x+3)^2}{2}+\frac{(y-1)^2}{9}=1$ $\qquad b)\ x^2+2y^2+4x-12y+20=0$

2. د داسې بیضوي معادله ولیکئ چې مرکز یې د (1,2) ټکی، محراق یې د (2, 6) ټکی وي او د (4,6) له ټکي څخه تېره شي.

3. د بیضوي لاندې معادلې د معیاري معادلو په ډول ولیکئ، د مرکز، راسونو، محراقونو وضعیه کمیات او د اوږده قطر، لنډ قطر اوږدوالی، عن المرکزیت پیدا او ګرافونه یې رسم کړئ.

$a)\ 9x^2+25y^2-36x-150y+36=0$ $\qquad b)\ 16x^2+4y^2+96x-8y+84=0$

(c) ketabton.com: The Digital Library

پارابـولا

Parabola

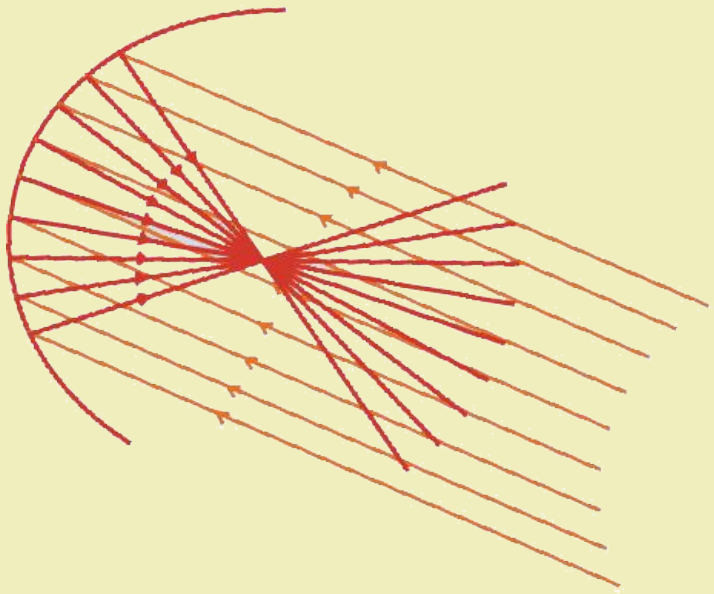

که چېرې د لمر وړانګې په يوې معقرې عدسيې ولوېږي، انعکاسـي وړانګې يې له کوم ټکي څخه تېرېږي؟ دغه ټکـی څه نـومېږي او د عدسې ګډ فصل له يوې متقاطع مستوي سره چې د عدسيې اصلي محور په بر کې ولري. څه ډول منحني ده؟

فعاليت

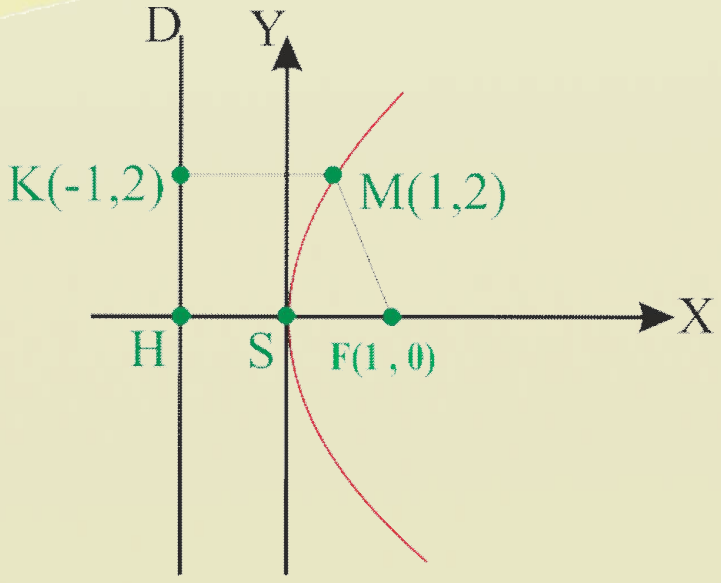

په مخامخ شکل کې د M، F او K ټکو مختصات درکړل شـوي دي، د دوو ټکو ترمنځ د فاصلې د پيداکولـو لـه فـارمول څخـه پـه کار اخيستنې سره د FM او KM هر يو اوږدوالـی پيـدا او يـو لـه بل سره يې پرتله کړئ.

له پورته فعاليت څخه لاندې تعريف بيانولای شو:

تعريف: په يوه مستوي کې د ټولو هغو ټکو هندسي محل چې د يوه ثابت يا مستقر ټکي او يـوه ثابـت مـستقيم خـط څخه په مساوي فاصله کې پراته وي، پارابولا بلل کيږي. دغه ثابت يـا مـستقر ټکـی د پـارابولا محـراق (F) او د D ثابت مستقيم خط ته د پارابولا هادي خط يا موجه خط (Directrix) وايي $\overline{MF}=\overline{MK}$

هغه مستقيم خط چې د پارابولا له محراق او راس څخه تير او د موجه (D) پر مـستقيم خـط عمـود وي، د پـارابولا د محراقي يا تناظري محور په نامه يادېږي.

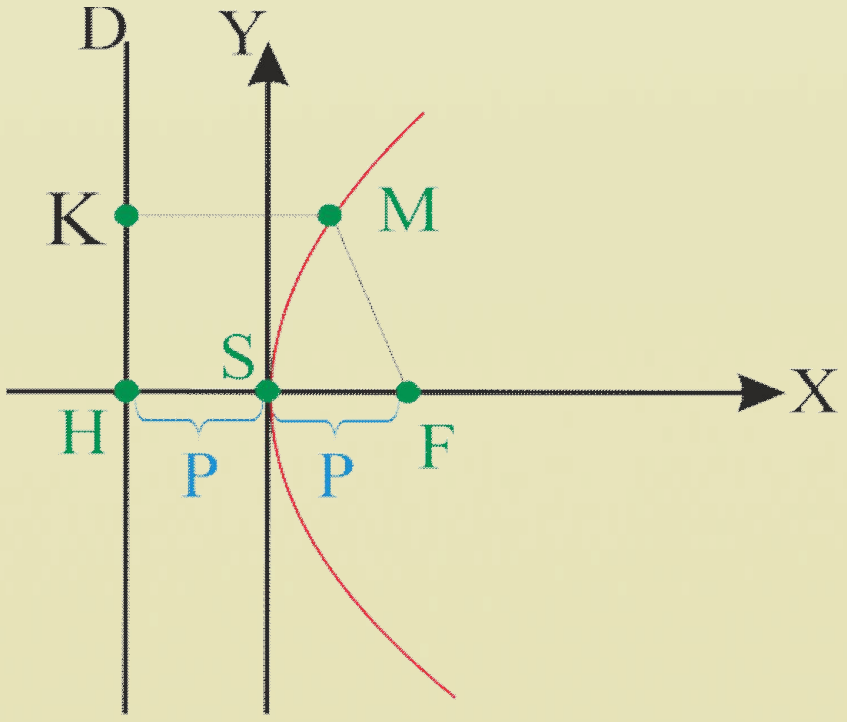

د تناظري محور او منحني ګډ ټکـی د پـارابولا راس او پـه S سره ښودل کيږي.

آيا ويلای شئ چې S د $\overline{FH}$ نيمايي ټکی دی، ولې؟

په پارابولا کې عن المرکزيت $(e=1)$ دی، ولې؟

(c) ketabton.com: The Digital Library

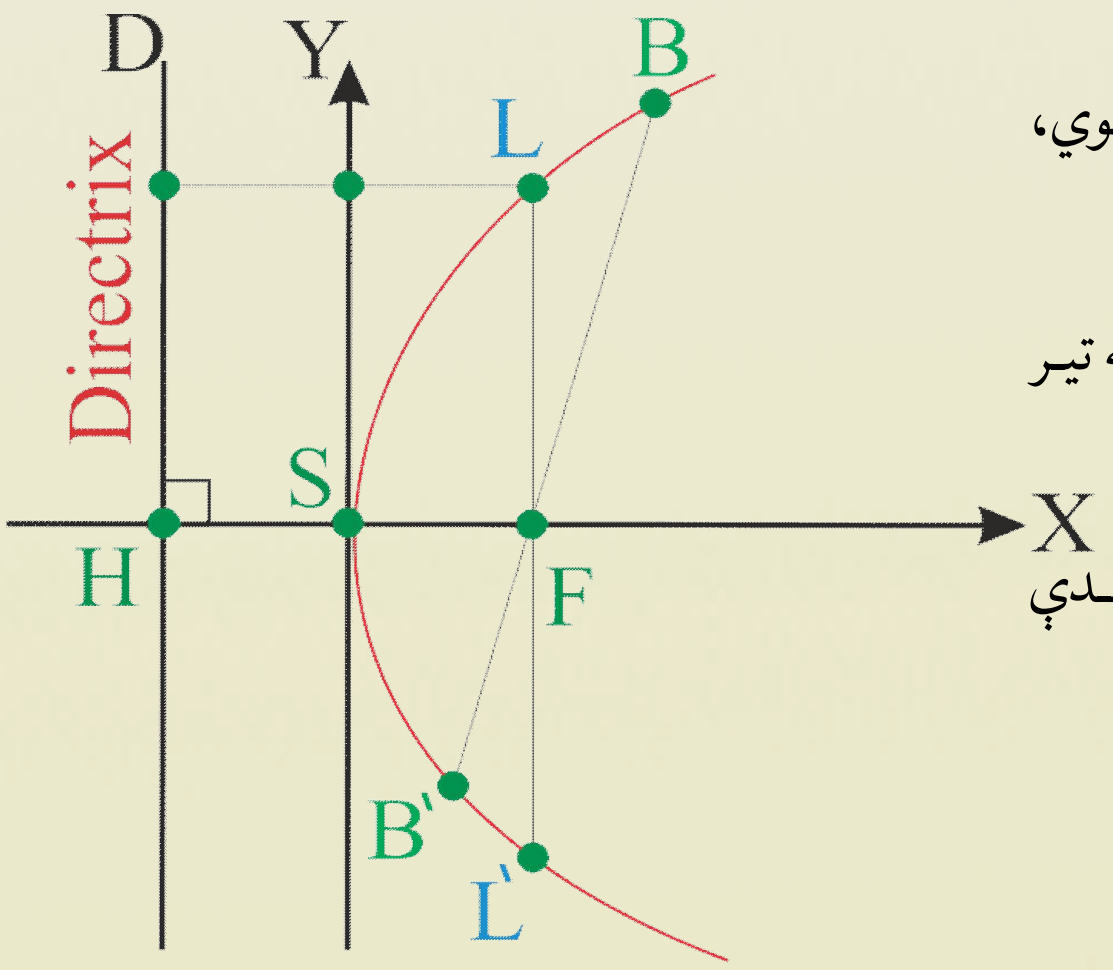

د پارابولا وترونه

هغه مستقیم خط چې د پارابولا دوه ټکي سره ونښلوي، د پارابولا وتر بلل کيږي.

په شکل کې $\overline{BB'}$ چې د پارابولا له محراق څخه تیر شوي دی، محراقي وتر دی.

LL' چې د محراق په ټکي کې د تناظر پر محور باندې عمود دی عمودي وتر بلل کیږي.

پوښتنې

د پورته شکل په مرسته وښيئ چې د پارابولا د عمودي وتر اوږدوالی د $\overline{FH}$ خط د اوږدوالي څو برابره دی.

(c) ketabton.com: The Digital Library

د پارابولا معادله

ځنګه کولای شو د هغه پارابولا معادله چې راس یې د وضعیه کمیاتو په مبدا کې وي، پیدا کړو.

$$y^2 = 4px$$
$$x^2 = 4py$$

فعالیت

- د وضعیه کمیاتو قایم سیستم په پام کې ونیسئ او د y له محور سره د هادي موازي خط رسم کړئ.
- د پارابولا منحني داسې رسم کړئ چې راس يې د وضعیه کمیاتو په مبدا کې وي.
- د x پر محور باندې محراق داسې وټاکئ چې فاصله يې له مبدا څخه د هادي خط له فاصلې سره مساوي وي.
- په منحني باندې د $M(x,y)$ ټکی وټاکئ، هغه له F سره ونښلوئ او د M له ټکي څخه یو عمود پر هادي(موجه خط) باندې رسم او د تقاطع ټکي ته یې K ووایاست.
- د F او K د ټکو مختصات ولیکئ.

اوس د دوو ټکو ترمنځ د فاصلې پیداکولو له فارمول څخه په کار اخیستنې سره د F, M او K, M ټکو ترمنځ فاصله پیدا کړئ او دا قیمتونه د پارابولا د تعریف په رابطه کې کیږدي. $|MF| = |MK|$

ثبوت لومړی حالت: پوهیږو چې:

$$|MF| = \sqrt{(p-x)^2 + y^2}$$
$$|MK| = x + p$$

اوس د $|MF|$ او $|MK|$ قیمتونه د $|MF| = |MK|$ په رابطه کې ایږدو:

$$\sqrt{(p-x)^2 + y^2} = x + p$$

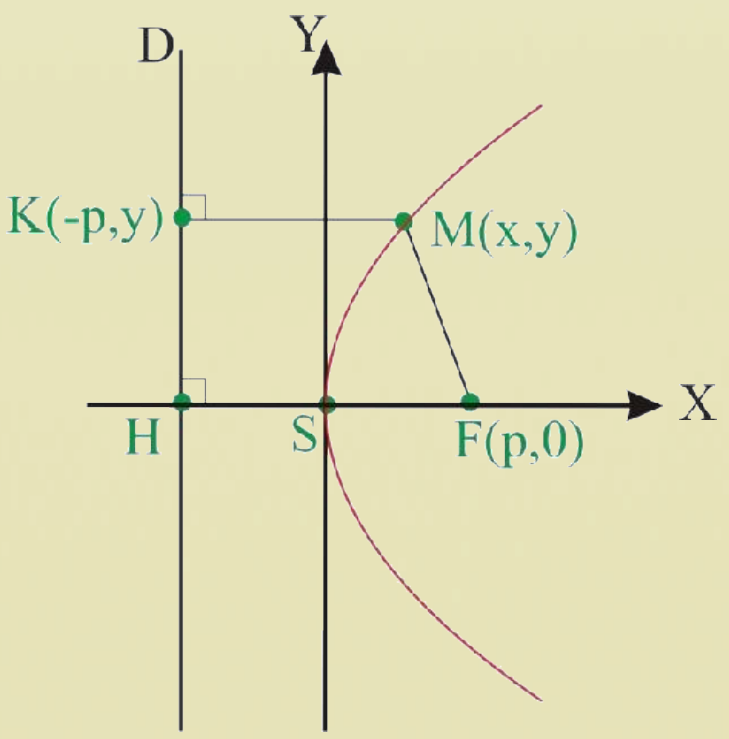

د پورته معادلې دواړه خواوې مربع کوو:

$$(\sqrt{y^2 + (p-x)^2})^2 = (x+p)^2$$
$$y^2 + (p-x)^2 = (x+p)^2$$
$$y^2 + p^2 - 2px + x^2 = x^2 + 2px + p^2$$
$$\Rightarrow y^2 = 4px$$

(c) ketabton.com: The Digital Library

وروستی رابطه دداسې پارابولا معادله راښيي چې راس يې د وضعيه کمياتو په مبدا کې، محراق يې په $F(p,0)$ کې، د تناظر محور يې د x پر محور باندې منطبق دی او د موجه خط معادله يې $x=-p$ دی.

که چېرې $p>0$ وي، د پارابولا خوله په افقي محور ښي خواته خلاصه ده.

که چېرې $p<0$ وي، د پارابولا خوله په افقي محور باندې کيڼې خواته خلاصه ده.

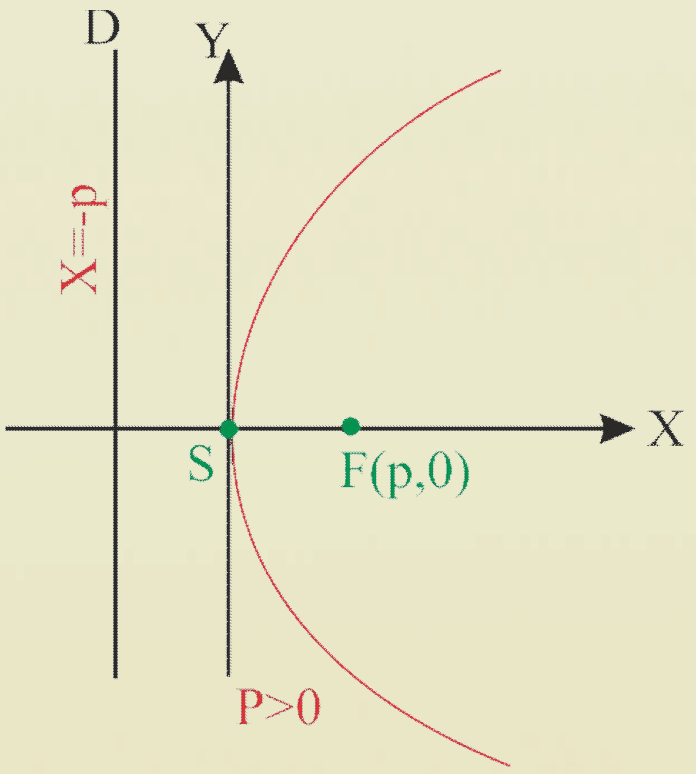

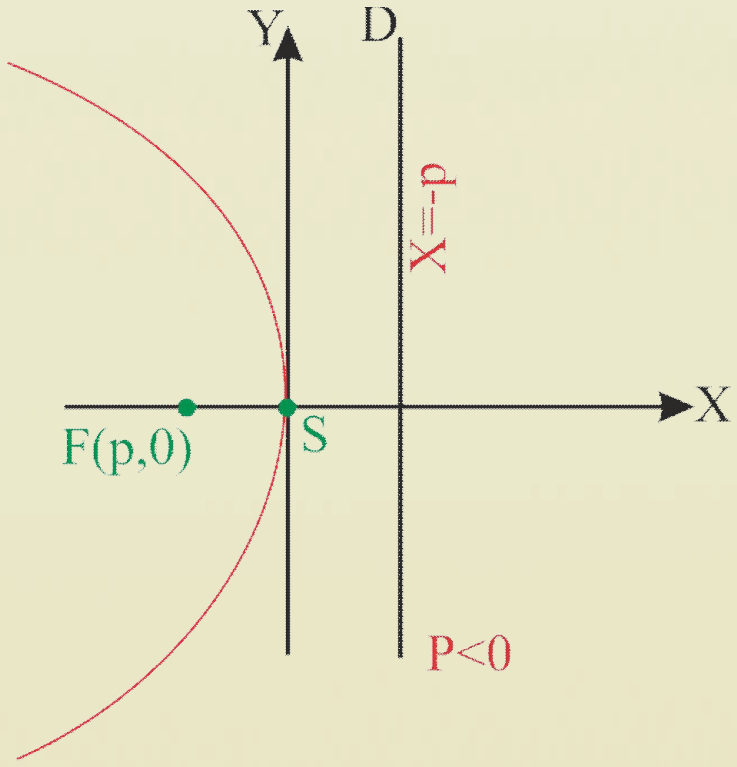

لومړی مثال: د داسې پارابولا معادله په لاس راوړئ چې د محراق مختصات يې $F(2,0)$، د هادي مستقيم خط معادله $x=-2$ سره وي، د عمودي وتر د انجامونو مختصات يې پيدا کړئ.

حل : د محراق مختصات چې د x په محور باندې دي، ويلای شو $P=2>0$، له دې امله د پارابولا خوله ښي خواته خلاصه ده.

لرو چې: $y^2=4px$

اوس د $P=2$ قيمت په معادله کې ايږدو:

$$y^2=4\cdot 2x \quad\Rightarrow\quad y^2=8x$$

که چېرې د $x=2$ قيمت د $y^2=8x$ په معادله کې کېږدو، په دې صورت کې د پارابولا دوه ټکي چې د عمودي وتر انجامونه دي په لاس راځي، هغه عبارت دي له:

$$y^2=8\cdot 2 \quad\Rightarrow\quad y^2=16$$

$$y=\pm 4$$

د عمودي وتر د انجامونو مختصات: $M(2,4)\ ,\ M'(2,-4)$

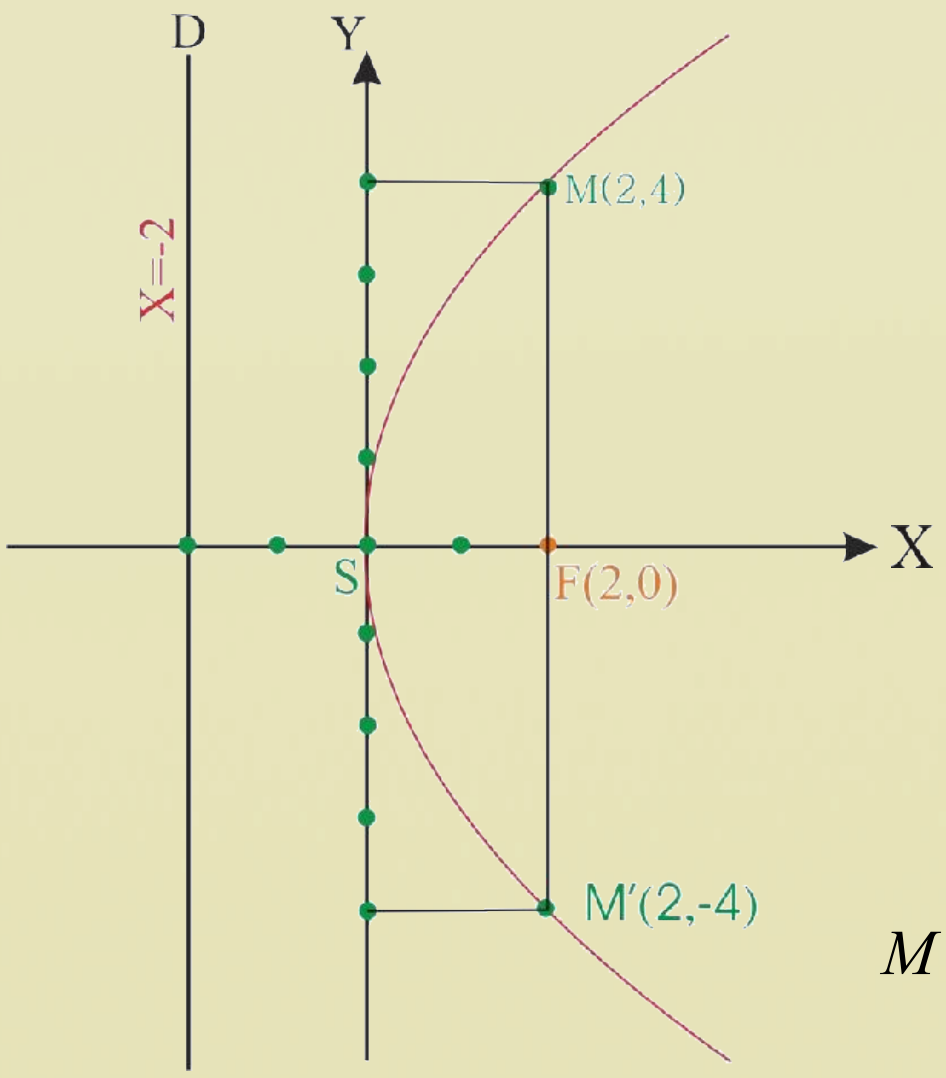

(c) ketabton.com: The Digital Library

دويم حالت: که چېرې د پارابولا محراق (F) د y پر محور باندې پروت او د D مستقیم خط د x له محور سره موازي وي، د پارابولا معیاري معادله پیدا کړئ.

ثبوت: د پارابولا منحني پرمخ باندې د $M(x,y)$ ټکي په پام کې نیسو د تعریف له مخې لیکلای شو:

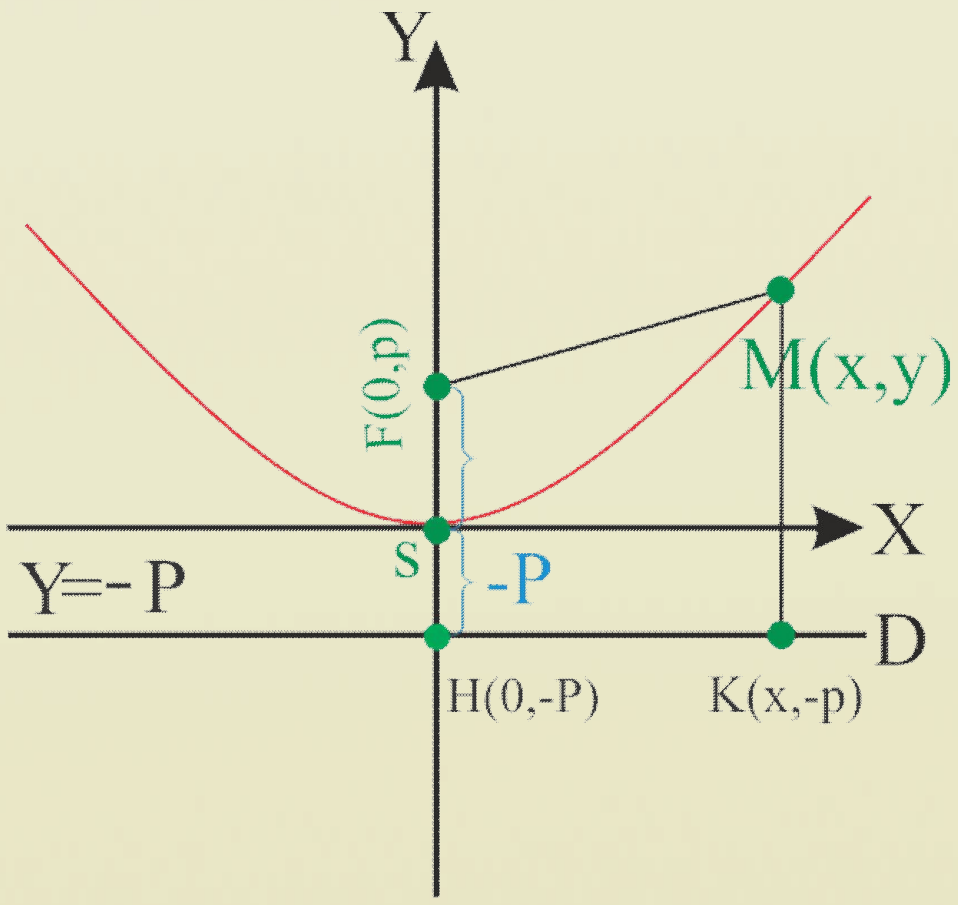

$$|\overline{MF}| = |MK|$$

$$|\overline{MF}| = \sqrt{(x-0)^2+(y-p)^2} = \sqrt{x^2+(y-p)^2}$$

$$|\overline{MK}| = \sqrt{(x-x)^2+[(y-(-p)]^2} = \sqrt{(y+p)^2}$$

$$(\sqrt{x^2+(y-p)^2})^2 = (\sqrt{(y+p)})^2 \; /(\;\;)^2$$

$$\Rightarrow x^2+(y-p)^2 = (y+p)^2$$

$$\Rightarrow x^2+y^2-2py+p^2 = y^2+2py+p^2$$

$$\Rightarrow x^2 = 4py$$

پورته معادله دداسې پارابولا معادله ده چې راس یې د وضعیه کمیاتو د سیستم په مبدا کې او محراقي محور یې د y محور دی چې د محراق مختصات یې $F(0,p)$ او $y=-p$ یې د هادي مستقیم خط معادله ده.

که چېرې $p > 0$ وي، د پارابولا خوله پورته خواته خلاصه ده.

که چېرې $p < 0$ وي، د پارابولا خوله ښکته خواته خلاصه ده.

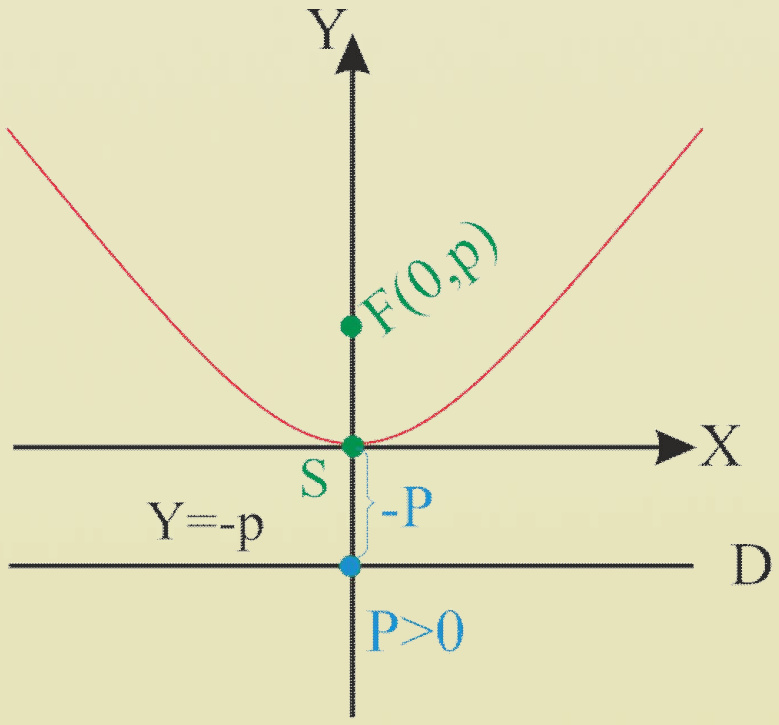

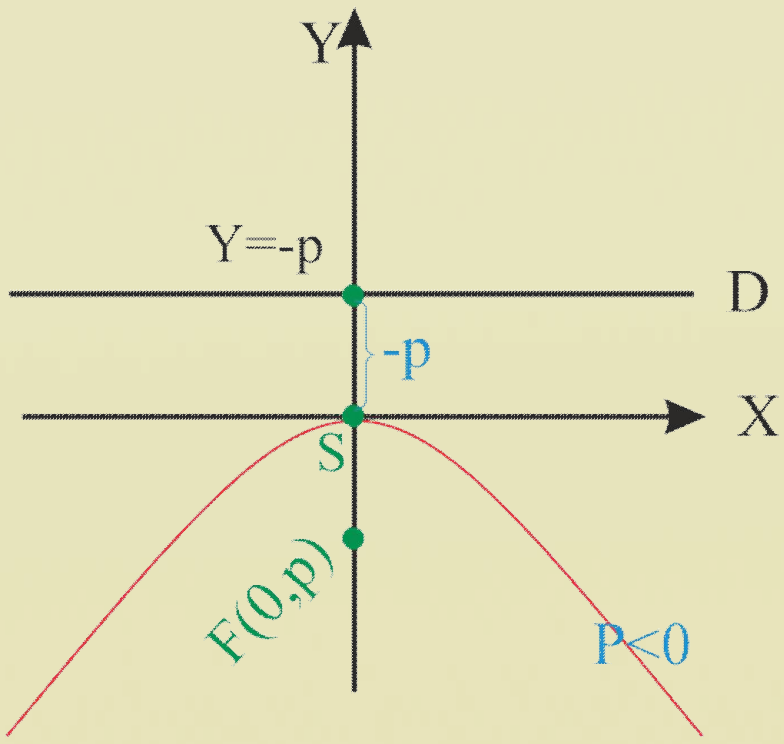

(c) ketabton.com: The Digital Library

دويم مثال: د $x^2 = 12y$ په معادله کې د پارابولا د راس او محراق مختصات او د هادي خط معادله پيدا کړی.

حل : **لومړي** د $x^2 = 4py$ په معادله کې د p قيمت په لاس راوړو.

$$4p = 12 \Rightarrow p = 3$$

خرنگه چي $P = 3 > 0$ شخه دی، نو د پارابولا خوله پورته خواته خلاصه ده.

1 – د راس مختصات عبارت دي له: $\left.\begin{matrix} x^2 = 0 \Rightarrow x = 0 \\ 3y = 0 \Rightarrow y = 0 \end{matrix}\right\} \Rightarrow S(0,0)$

2 – د محراق مختصات عبارت دي له : F (0, 3)

3 – د هادي خط معادله عبارت ده له: $y = -p \Rightarrow y = -3$

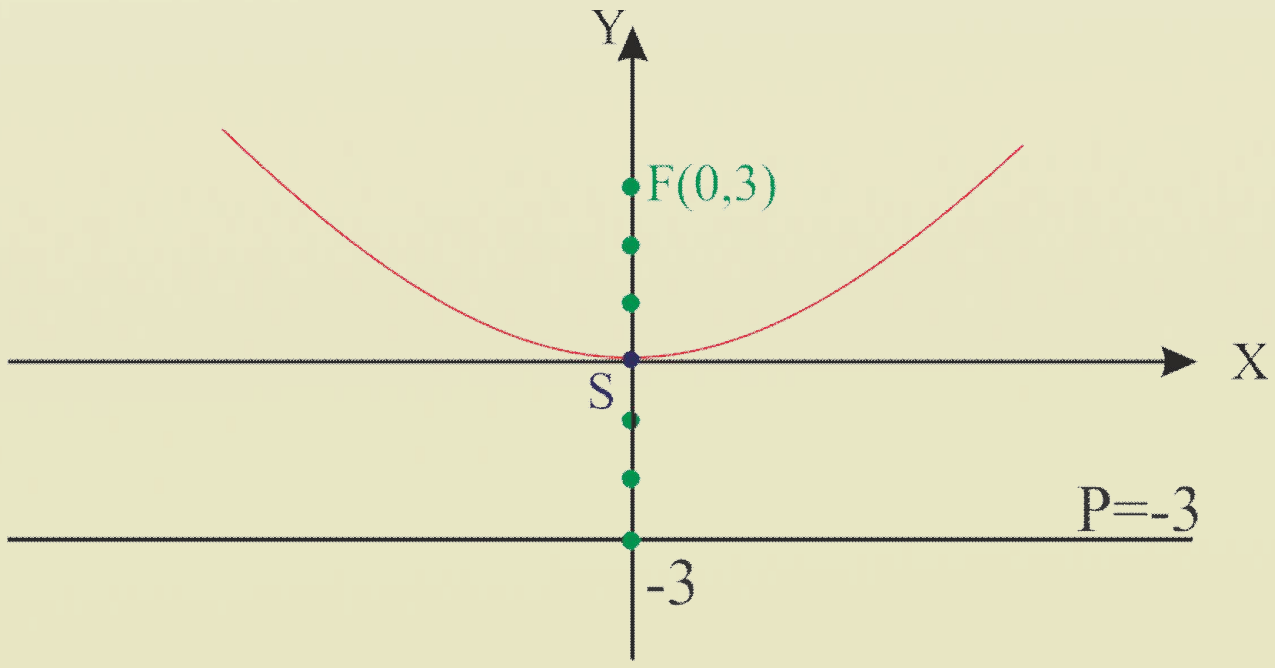

پوښتني

1 – د $y^2 - 4x = 0$ او $x^2 = 2y$ معادلو کې د هرې پارابولا د راس وضعيه کميات او د هادي (موجه خط معادلې پيدا او گرافونه يې رسم کړئ.

2 – د لاندې قيمتونو له مخې د هرې پارابولا معادله پيدا کړئ.

$a)\ S(0,0) \qquad F(0,5)$

$b)\ S(0,0) \qquad F(-2,0)$

(c) ketabton.com: The Digital Library

د هغې پارابولا معادله چې راس يې يو اختياري ټکی وي

آيا د داسې پارابولا معادله پيداکولای شو چې د راس مختصات يې د وضعيه کمياتو په مبداکې نه وي.

$$(y-k)^2=4p(x-h)$$
$$(x-h)^2=4p(y-k)$$

فعاليت

- يوه پارابولا د وضعيه کمياتو په سيستم کې رسم کړئ چې راس يې (h,k) او تناظري محور يې د x له محور سره موازي وي.
- د پارابولا په منحني باندې د $M(x,y)$ ټکی وټاکئ او هغه له F سره ونښلوئ، بيا د M له ټکي څخه يو عمود خط پر هادي خط(موجه) باندې رسم او هغه ته N ووایاست.

لومړی حالت: د دوو ټکو ترمنځ د فاصلې له فورمول څخه په ګټې اخيستنې سره د F,M او N,M ټکو ترمنځ فاصله پيداکړئ، بيا د هغې پارابولا معادله چې راس يې $S(h,k)$ ده، په لاس راوړئ.

ثبوت:څرنګه چې د F او M ټکو وضعيه کميات پيژنو او همدارنګه د N وضعيه کميات له $(h-p,y)$ څخه عبارت دی، د پارابولا د تعريف له مخې ليکو

$$|MF|=|MN|$$

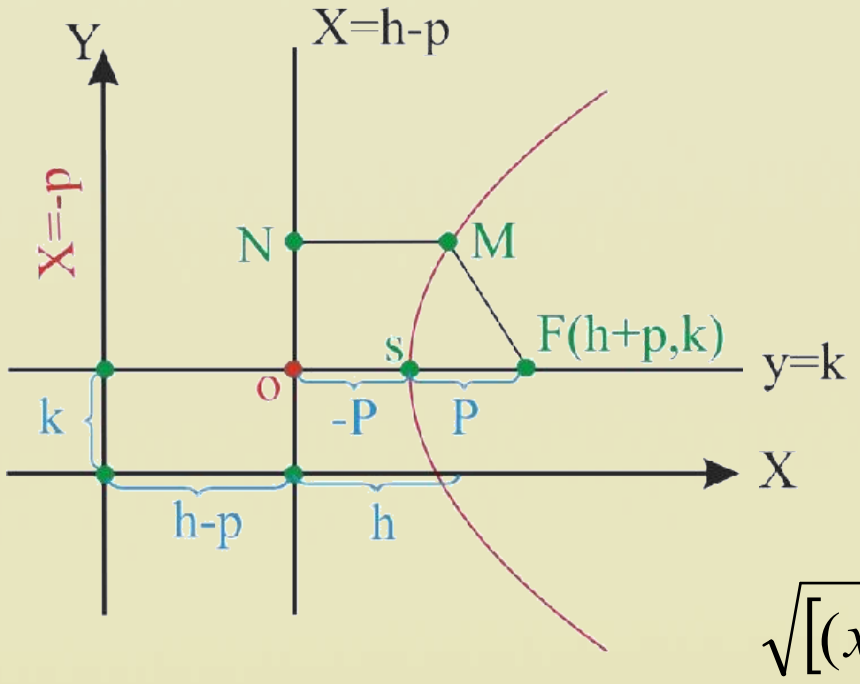

$$\sqrt{[(x-(h+p)]^2+(y-k)^2}=\sqrt{[x-(h-p)]^2+(y-y)^2}$$

دواړه خواوې مربع کوو او له اختصار وروسته ليکو:

$$[(x-(h+p)]^2+(y-k)^2=[x-(h-p)]^2$$
$$\Rightarrow x^2-2(h+p)x+(h+p)^2+y^2-2ky+k^2=x^2-2(h-p)x+(h-p)^2$$

د پورته رابطې له پراختيا او ساده کولو وروسته په لاس راځي چې:

$$y^2-2ky+k^2=4px-4ph$$
$$(y-k)^2=4p(x-h)$$

(c) ketabton.com: The Digital Library

پورتنی معادله د هغې پارابولا معادله ده، چې د راس او محراق وضعیه کمیات یې په ترتیب سره $S(h,k)$ او $F(h+p,k)$ دي، او د موجه خط معادله یې $x=-p+h$ ، تناظري محور یې $y=k$ دی.

که چېرې $p>0$ وي، د پارابولا خوله ښي خواته خلاصه ده.

که چېرې $p<0$ وي، د پارابولا خوله چپې خواته خلاصه ده.

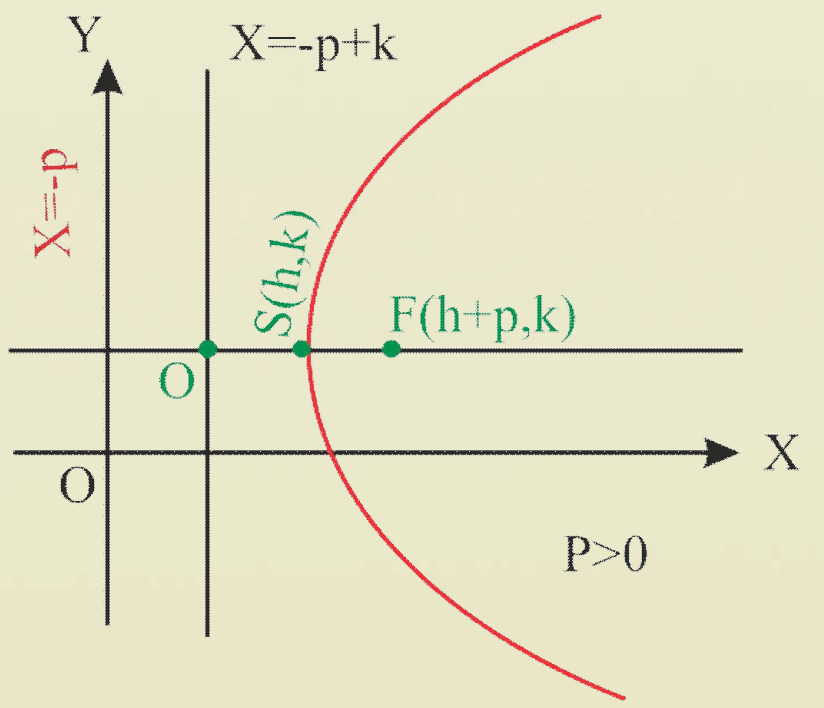

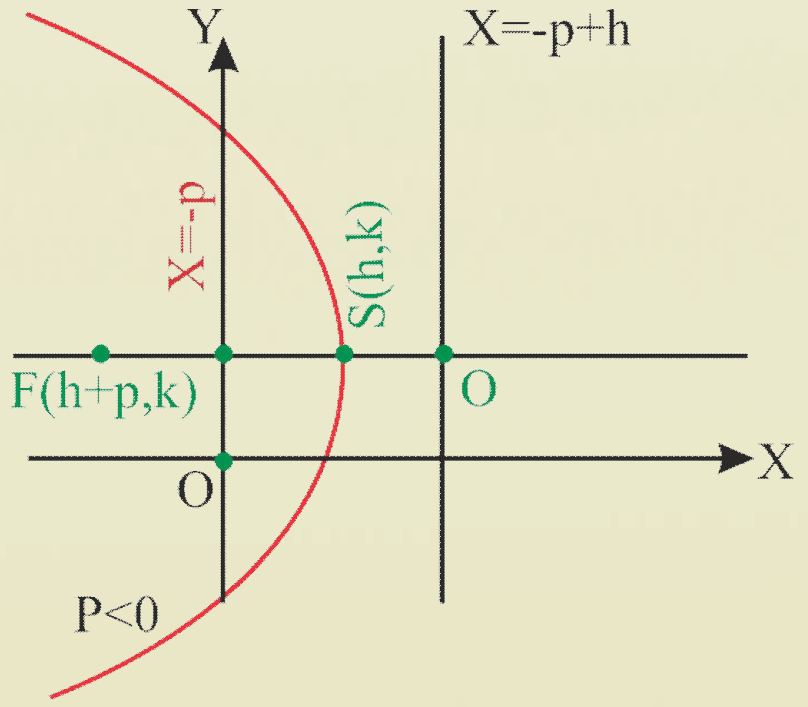

دویم حالت:د هغې پارابولا معادله چې راس یې (h,k) او د تناظر محور یې د y له محور سره موازي وي، عبارت ده له: $(x-h)^2=4p(y-k)$

چې د پارابولا د راس مختصات $S(h,k)$ او د محراق مختصات یې $F(h,k+p)$ دي.

$y=k-p$ د پارابولا د هادي خط معادله او $x=-h$ تناظري محور دی.

که چېرې $p>0$ وي، د پارابولا خوله پورته خواته خلاصه ده.

که چېرې $p<0$ وي، د پارابولا خوله ښکته خواته خلاصه ده.

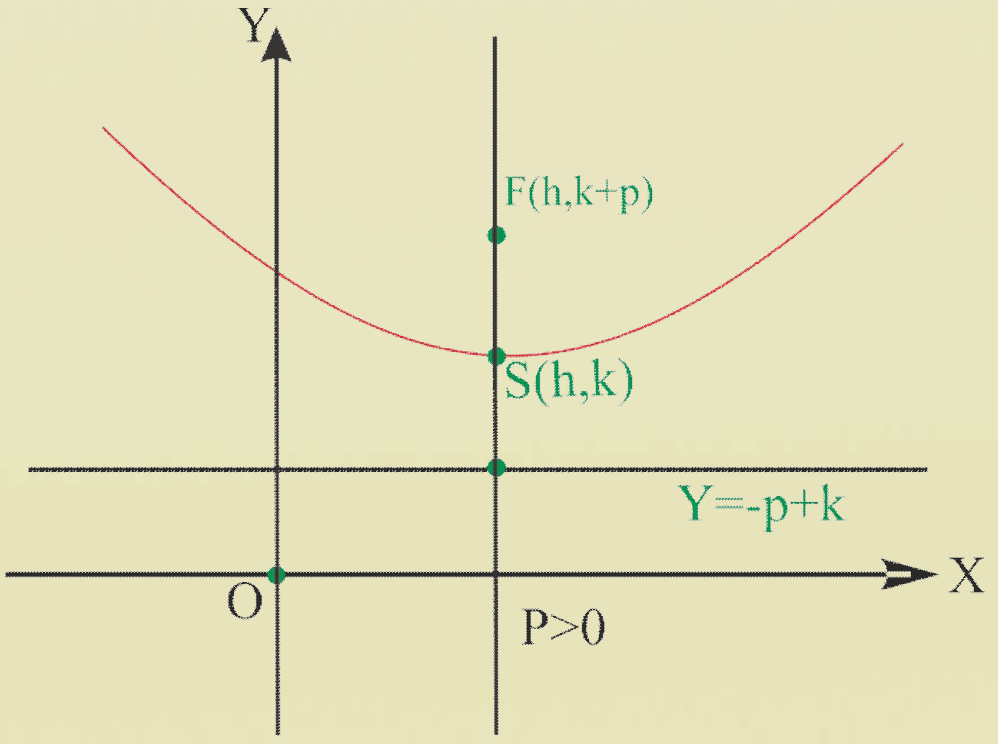

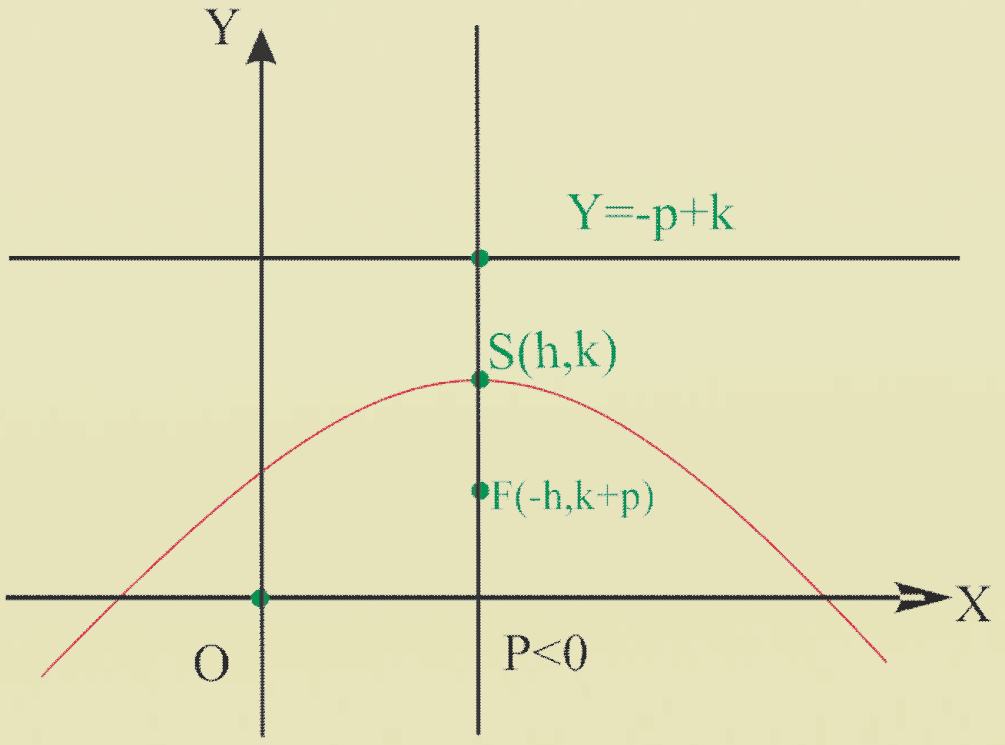

لومړي مثال: غواړو د $(x-1)^2=12(y-2)$ پارابولا په معادله کې د راس مختصات، د محراق مختصات، د موجه خط معادله، تناظري محور او د عمودي وتر د انجامونو مختصات پیدا کړو.

حل: څرنګه چې معادله د $(x-h)^2=4p(y-k)$ عمومي شکل لري.

(c) ketabton.com: The Digital Library

نو $k=2,h=1$ کېږي، په دې صورت کې د پارابولا د رأس وضعیه کمیات عبارت دي له: $S(1,2)$

$$4p=12\Rightarrow p=\frac{12}{4}=3$$

د محراق مختصات: $F(h,k+p)=F(1,2+3)\ \Rightarrow\ F(1,5)$

د موجه خط معادله $y=k-P\ \Rightarrow\ y=2-3=-1$

د تناظر محور: $x=h\Rightarrow x=1$

د عمودي وتر د انجامونو د مختصاتو د پیداکولو لپاره د y قیمت چې په محراق کې لـرو پـه عـمـومي معادلـه کې ایږدو یعنې $y=5$ دی.

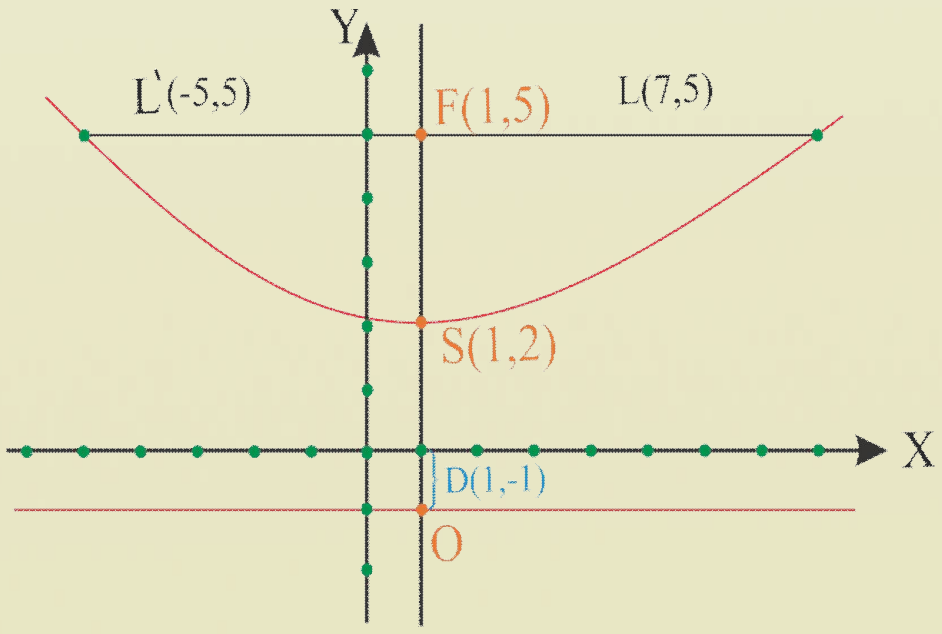

$$(x-2)^2=12(5-2)$$
$$(x-1)^2=12\cdot 3\Rightarrow(x-1)^2=36$$
$$(x-1)=\pm 6$$
$$x_1=6+1=7,\ \ x_2=-6+1=-5$$
$$L(7,5)\qquad L'(-5,5)$$

دویم مثال: د $(y-4)^2=-6(x+3)$ معادله په پام کې ونیسی، د پارابولا د راس او محراق مختصات، د موجه خط معادله، د تناظري محور معادله، د عمودي وتر د انجامونو مختصات پیدا او ګراف یې رسم کړئ.

حل:دراس مختصات: $k=4,h=-3\ \Rightarrow\ S(-3,4)$

$$4P=-6\Rightarrow P=-\frac{3}{2}$$

څرنګه چې $0<-\frac{3}{2}$ ده، نو د پارابولا خوله چپې خواته خلاصه ده.

د محراق مختصات: $F(h+p,k)=(-\frac{9}{2},4)$

موجه خط معادله عبارت ده له: $x=h-p\ \Rightarrow\ x=-\frac{3}{2}$

د تناظري محور معادله: $y=k\ \Rightarrow\ y=4$

د محراق $x=-\frac{9}{2}$ مختصې قیمت په معادله کې ایږدو او د عمودي وتر د انجامونو مختصات په لاس راځي.

(c) ketabton.com: The Digital Library

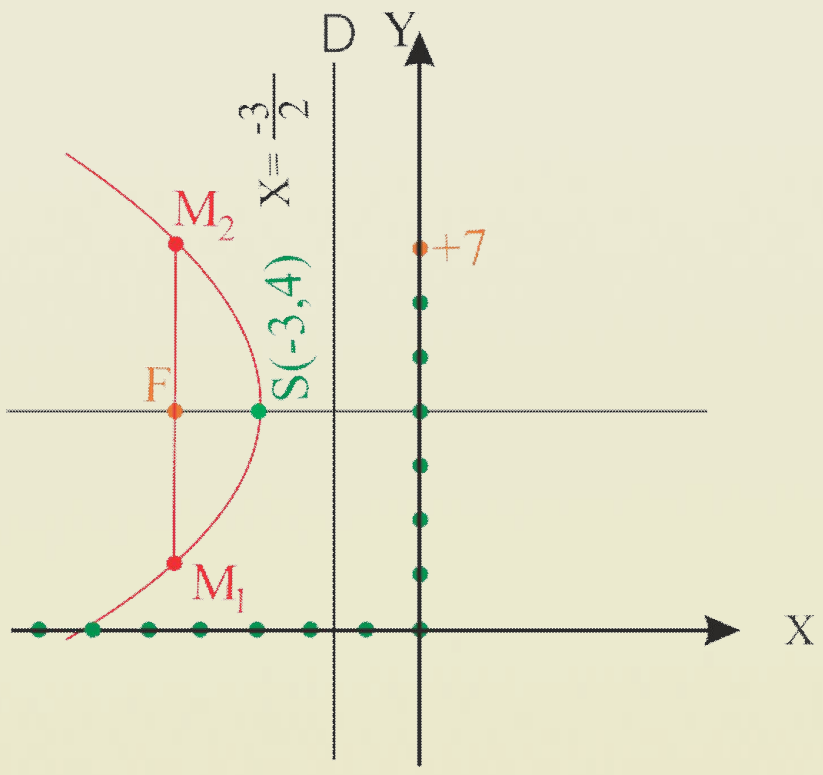

$$(y-4)^2=-6(x+3)=-6(-\frac{9}{2}+3)$$
$$(y-4)^2=9 \quad \Rightarrow \quad y-4=\pm 3$$
$$y_1=3+4=7$$
$$y_2=-3+4=1$$
$$M_2(-\frac{9}{2},7) \ , \ M_1(-\frac{9}{2},1)$$

یادونه: د $AX^2+CY^2+DX+EY+F=0$ د معادلې ګراف یوه پارابولا ده، په داسې حال کې چې A یا C صفر وي نه دواړه $(C\neq 0\ ,\ A=0)$ وي یا $C=0, A\neq 0$ وي).

پوښتنه: د $(x-h)^2=4p(y-k)$ معادله په توسعوي ډول ولیکئ.

دریم مثال: د $y^2-2y+8x+25=0$ پارابولا معادله، د پارابولا د معیاري معادلې په ډول ولیکئ د راس او محراق مختصات، د مؤجه خط او تناظري محور معادلې یې پیدا کړئ.

حل: په راکړل شوې معادله کې $A=0$ دی، نو نظر د y متحول ته یې، مربع بشپړوو.

$$y^2-2y+(1)^2-(1)^2+8x+25=0$$
$$(y-1)^2+8x+24=0 \quad \Rightarrow \quad (y-1)^2+8(x+3)=0$$
$$\Rightarrow (y-1)^2=-8(x+3)$$

په معادله کې لیدل کېږي: $4P=-8 \quad \Rightarrow \quad P=-2$

د راس مختصات: $k=1\ ,\ h=-3 \quad \Rightarrow \quad S(-3,1)$

د محراق مختصات: $F(h+p,k)\Rightarrow F(-3-2,1)\Rightarrow F(-5,1)$

د موجه خط معادله $x=h-p \quad \Rightarrow \quad x=-3+2=-1$

د تناظر محور : $y=k \quad \Rightarrow \quad y=1$.

پوښتنې

1. د لاندې پارابولا معادله پیداکړئ، په داسې حال کې چې:

$S(1,3), F(-1,3)$

2- د $(y-1)^2=12(x-4)$ معادلې ګراف د ټولو جزئیاتو سره رسم کړئ.

3- لاندې معادلې د پارابولا د معیاري معادلو په ډول ولیکئ او ګراف یې رسم کړئ.

a) $y^2-6y+8x+41=0$ b) $x^2-2x-6y-53=0$

(c) ketabton.com: The Digital Library

هـايپـربـولا

Hyperbola

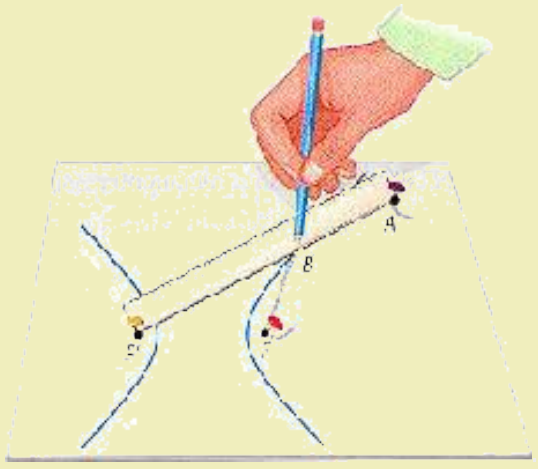

په یوه مستوي کې د ټولو هغو ټکو هندسي محل چې د فاصلو تفاضل یې له دوو مستقرو ټکو څخه تل له یوه ثابت اوږدوالي سره مساوي وي، څه ډول یوه منحني کېدلای شي؟

فعالیت

- په لاندې شکل کې د F, F', M, M', A او A' ټکو مختصات درکړل شوي دي.
- د دوو ټکو ترمنځ د فاصلې د پیداکولو له فارمول څخه په کار اخیستنې سره د $|MF|, |MF'|$ او $|AA'|$ اوږدوالی پیدا کړئ.
- د $|MF'| - |MF|$ د تفریق حاصل په لاس راوړئ او د $|AA'|$ له اوږدوالي سره یې پرتله کړئ.
- پورتنی فعالیت د M' ټکي لپاره تطبیق او پایله یې ولیکئ
- د $|MF'| - |MF|$ او $|M'F'| - |M'F|$ د تفریق حاصل یو له بل سره پرتله کړئ.

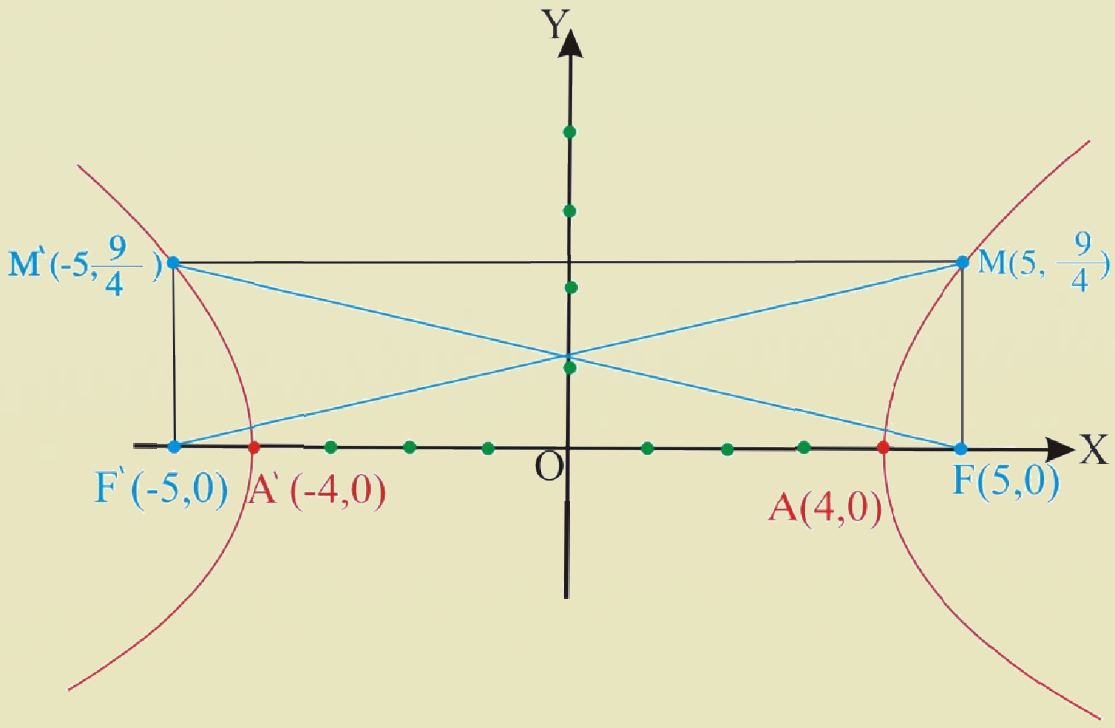

د پورتني فعالیت له سرته رسولو وروسته لاندې تعریف بیانولای شو:

تعریف: په یوه مستوي کې د هغو ټکو هندسي محل چې د فاصلو تفاضل یې له دوو مستقرو ټکو څخه تل مساوي اوږدوالی ولري، هایپربولا Hyperbola بلل کېږي، یعنې: $|MF'| - |MF| = |AA'| = 2a$

په شکل کې F او F' د هایپربولا محراقونه، M او M' د هایپربولا دوه اختیاري ټکي دي.

د FF' منځنی ټکی د هایپربولا مرکز دی، د مرکز او هر یوه راس ترمنځ فاصله په a او د مرکز او هر یوه محراق ترمنځ فاصله په c سره ښیي. $AA' = 2a$ او $FF' = 2c$.

(c) ketabton.com: The Digital Library

د هایپربولا تناظري محورونه او راسونه:

د بیضوي په څېر هایپربولا هم دوه تناظري محورونه لري چې یو یې په FF' بانـدې منطبق دی او بل یې د FF' عمودي ناصف کوونکی دی. د دې دواړو محورونو د تقاطع ټکی یا ځای، د ها یپربولا مرکز بلل کېږي.

هغه تناظري محور چې له FF' څخه تېرېږي، د متقاطع محور (Transverse axis) په نامه یادېږي، ځکـه چې هایپربولا د A او A' په دوو ټکوکې قطع کوي چې دې دوو ټکو ته د هایپربولا حقیقي راسونه وایې او اوږدوالی یې له $|AA'| = 2a$ څخه عبارت دی.

هغه تناظري محور چې د هایپربولا په مرکز کې په متقاطع محور باندې عمود دی او هایپربولا نه قطع کوي، د مزدوج محور (conjugate axis) په نوم یـادېږي. د مرکـز دواړو خواوتـه د B او B' دوه ټکـي پـر نوموړي محـور بانـدې داسې په نظر کې نیسو چې $OB = OB' = b$ وي، دا دوه ټکي د هـایپربولا غیـرې حقیقـي راسـونه بلـل کیـږي چې ترمنځ يې فاصله $|BB'| = 2b$ ده.

په یوه هایپربولا کې د a, b او c اوږدوالي ترمنځ داسې رابطه شته: $c^2 = a^2 + b^2$

عن المرکزیت: څرنګه چې پـه هـایپربولا کـې $c > a$ دي، نـو $e > 1$ کیـږي. چې د a, b, c او عـن المرکزیـت ترمنځ د $e = \sqrt{1 + \frac{b^2}{a^2}}$ رابطه شته. د $e = \frac{c}{a}$ لـه رابطې څخه په کار اخېستې سره نوموړې رابطه په لاس راوړې.

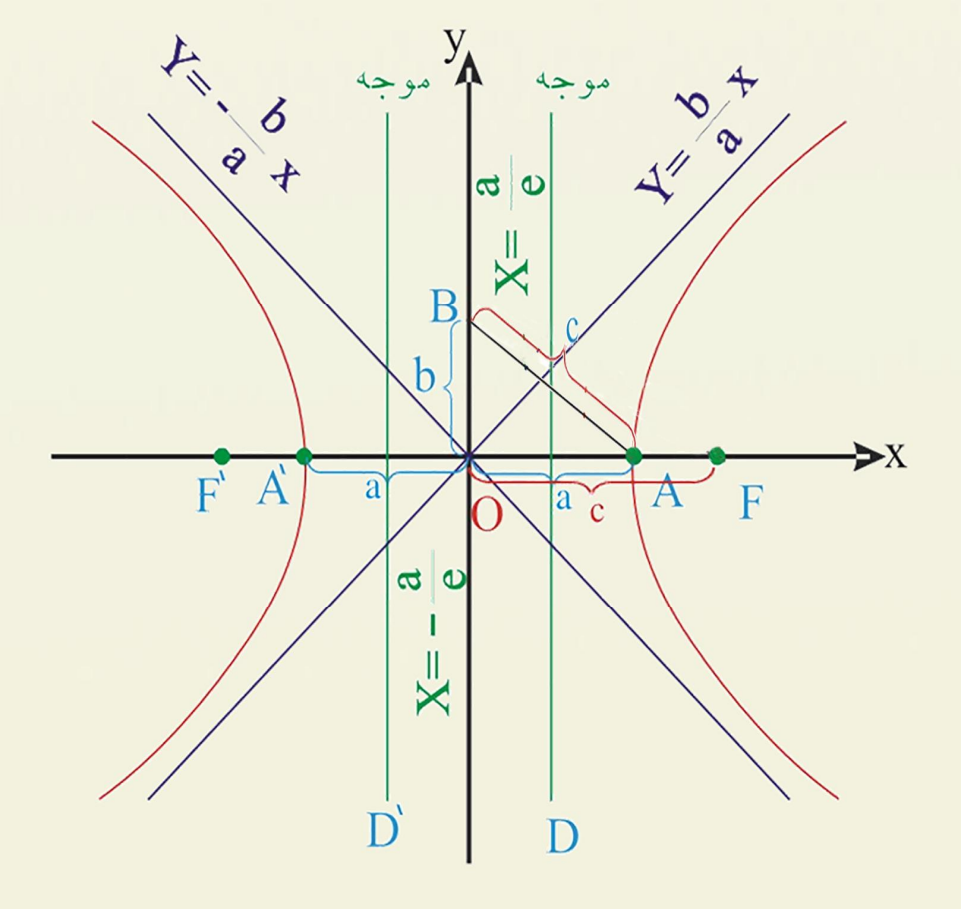

پوښتنې

د هایپربولا یو شکل رسم کړئ او پـه هغـه کې د هـایپربولا مرکـز، محراقونـه، حقیقـي او غیـري حقیقـي راسونه، متقاطع او مزدوج محورنه وښیئ.

(c) ketabton.com: The Digital Library

د هایپربولا معادله

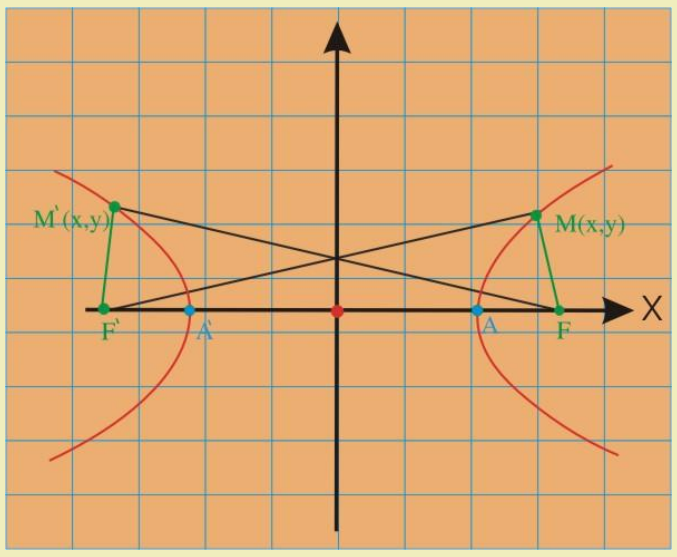

آیا داسې یوه هایپربولا رسمولای شئ چې مرکز یې د وضعیه کمیاتو په مبدا کې وي؟

فعالیت

- داسې هایپربولا رسم کړئ چې مرکز یې د وضعیه کمیاتو په مبدا کې وي.
- د $P(x,y)$ ټکی د هایپربولا د منحني په یوې څانګې باندې وټاکئ او هغه د F او F' سره ونښلوئ
- د F,P او F' ټکو ترمنځ د هایپربولا د تعریف رابطه ولیکئ.
- د دوو ټکو ترمنځ د فاصلې د پیداکولو له فارمول څخه په کار اخیستنې سره د PF او PF' فاصلې پیدا کړئ او هغه د هایپربولا د تعریف په رابطه کې ولیکئ.

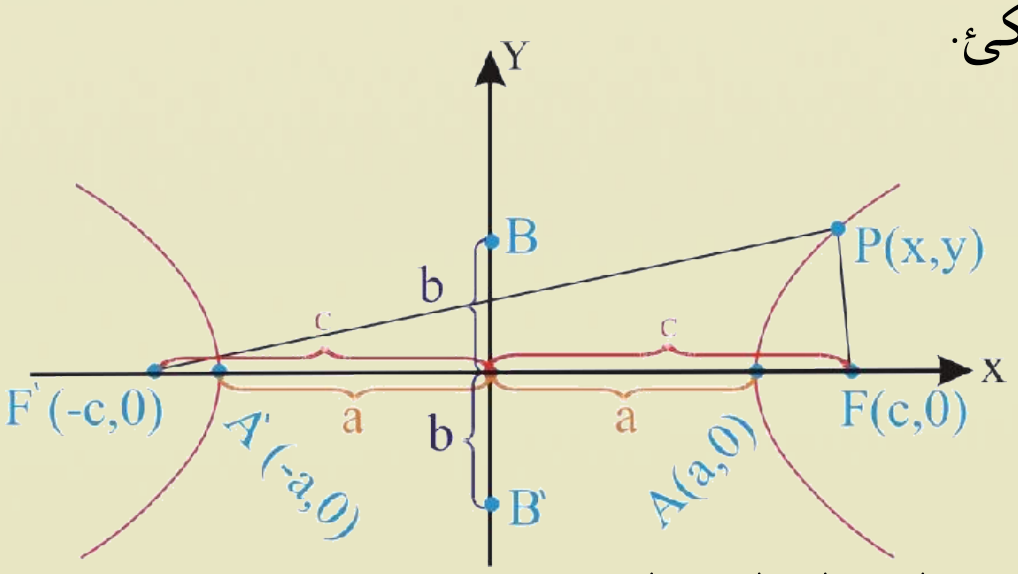

د هایپربولا د معادلې د پیداکولو لپاره د تعریف له مخې لرو: $|PF'|-|PF|=2a$

$$\sqrt{(x+c)^2+y^2}-\sqrt{(x-c)^2+y^2}=2a$$

$$\sqrt{(x+c)^2+y^2}=2a+\sqrt{(x-c)^2+y^2}$$

د مساواتو د دواړو خواو له مربع کولو څخه وروسته لرو:

$$x^2+2cx+c^2+y^2=4a^2+4a\sqrt{(x-c)^2+y^2}+x^2-2cx+c^2+y^2$$

$$\Rightarrow 4cx-4a^2=4a\sqrt{(x-c)^2+y^2}\ /\div 4$$

$$\Rightarrow cx-a^2=a\sqrt{(x-c)^2+y^2}$$

بیا هم د مساوات دواړه خواوې مربع کوو:

$$(cx-a^2)^2=a^2(x-c)^2+y^2$$

$$c^2x^2-2a^2cx+a^4=a^2(x^2-2cx+c^2+y^2)$$

$$c^2x^2-2a^2cx+a^4=a^2x^2-2a^2cx+a^2c^2+a^2y^2$$

$$\Rightarrow c^2x^2-a^2x^2-a^2y^2=a^2c^2-a^4 \quad \Rightarrow (c^2-a^2)x^2-a^2y^2=a^2(c^2-a^2)$$

(c) ketabton.com: The Digital Library

ځرنګه چې په هایپربولا کې $c^2 = a^2 + b^2$ رابطه شتون لري، نو $c^2 - a^2 = b^2$ کېږي، نو په پورته افاده کې

د $c^2 - a^2$ د قیمت په اېښودلو سره لیکلای شو: $b^2x^2 - a^2y^2 = a^2b^2 \ /\div a^2b^2 \Rightarrow \frac{x^2}{a^2} - \frac{y^2}{b^2} = 1$

پورتنی معادله د داسي هایپربولا معادله ده چې مرکز یې د وضعیه کمیاتو په مبدأ او محراقونه یې په افقي محور پراته دي.

دویم حالت: که چیرې د هایپربولا متقاطع محور $\overline{AA'}$ د y پر محور پروت وي، نو د هایپربولا معادله عبارت ده له:
$$\frac{y^2}{a^2} - \frac{x^2}{b^2} = 1$$

د پورتنی رابطې ګراف رسم، فارمول یې ثبوت او د محراقونو او راسونو مختصات یې پیدا کړئ.

د هایپربولا موجه خطونه

که چیرې د هایپربولا محراقونه د x یا y په محورونو پراته وي، په دې صورت کې لیکلای شو چې:

$$e = \frac{c}{a} \quad \Rightarrow \quad e = \frac{\sqrt{a^2 + b^2}}{a}$$

له دې امله ویلای شو چې دا موجه خطونه په متقاطع محور باندې عمود دي چې د هغو فاصله د هایپربولا له مرکز ځخه د $\pm \frac{a}{e}$ یا $\pm \frac{a^2}{c}$ ځخه عبارت ده.

د هغې هایپربولا د موجه (ها دي) خطونو معادلې چې محراقونه یې د y پر محور باندې پراته دي له $y = \pm \frac{a}{e}$ ځخه عبارت دي.

او د هغې هایپربولا د موجه خطونو معادلې چې محراقونه یې د x پر محور باندې پراته دي له $x = \pm \frac{a}{e}$ ځخه عبارت دي.

د هایپربولا مجانبونه

هغه مستقیم خطونه چې د هایپربولا له مرکز ځخه تیر اوپه لایتناهي کې د هایپربولا له منحني سره مماس وي.

د هایپربولا مجانبونه بلل کیږي .

(c) ketabton.com: The Digital Library

د $\frac{x^2}{a^2}-\frac{y^2}{b^2}=1$ هایپربولا معادله په پام کې نیسو:

$$a^2y^2=b^2x^2-a^2b^2$$
$$a^2y^2=b^2(x^2-a^2)$$
$$y^2=\frac{b^2}{a^2}(x^2-a^2)=\frac{b^2}{a^2}\left[x^2(1-\frac{a^2}{x^2})\right]$$
$$\Rightarrow y=\pm\frac{b}{a}x\sqrt{1-\frac{a^2}{x^2}}$$

که چیرې په پورتنی رابطه کې x لایتناهي ته نژدې شي د $\frac{a^2}{x^2}$ کسر د صفر خواته نژدې کیږي په پایله کې $\left(1-\frac{a^2}{x^2}\right)$ د یوه عدد ته تقرب کوي، په دې صورت کې $y=\pm\frac{b}{a}x$ لاس ته راځي.

نو $y=\pm\frac{b}{a}x$ د هغو مجانبونو معادلې دي چې د هایپربولا محراقونه د x پر محور باندې پراته وي.

که چیرې محراقونه د y پر محور باندې پراته وي، د مجانبونو معادلې یې له $y=\pm\frac{a}{b}x$ څخه عبارت دي.

لومړی مثال: د هایپربولا د $\frac{x^2}{16}-\frac{y^2}{4}=1$ په معادله کې د محراقونو مختصات، د راسونو مختصات، د موجه خطونو معادلې او د مجانبونو معادلې پیدا او په شکل کې یې وښایاست.

حل: د رأسونو مختصات: $a^2=16\Rightarrow a=\pm4\Rightarrow A(4,0),A'(-4,0)$

$$b^2=4\ \Rightarrow\ b=\pm2\ \Rightarrow\ B(0،2)\ ،\ B'(0،-2)$$

د محراقونو مختصات: $c=\sqrt{a^2+b^2}=\sqrt{16+4}=\sqrt{20}=\sqrt{4\cdot5}=\pm2\sqrt{5}$

$$\Rightarrow F(2\sqrt{5},0),F'(-2\sqrt{5},0)$$

د موجه خطونو معادلې: څرنګه چې محراقونه د x پر محور باندې پراته دي، له دې امله:

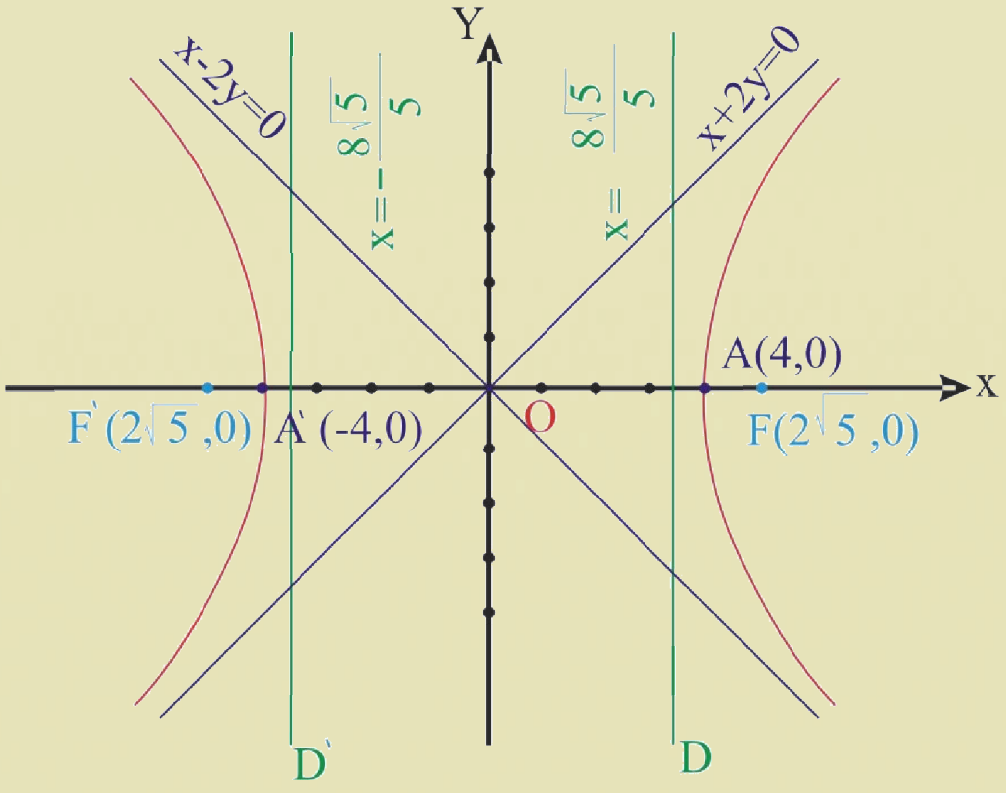

$$x=\pm\frac{a}{e}=\frac{a^2}{c}=\frac{4^2}{2\sqrt{5}}=\frac{16}{2\sqrt{5}}=\frac{8}{\sqrt{5}}=\frac{8\sqrt{5}}{5}$$
$$y=\pm\frac{b}{a}x\ \Rightarrow\ y=\pm\frac{2}{4}x=\pm\frac{1}{2}x$$
$$2y=\pm x$$

یا: $x=\pm2y\ \Rightarrow\ x+2y=0,x-2y=0$

(c) ketabton.com: The Digital Library

دويم مثال: د $\frac{y^2}{4}-\frac{x^2}{9}=1$, معادله د هايپربولا يوه معادله ده، په نوموړې معادله کې د محراقونو، راسونو مختصات، د مجانبونو او موجه خطونو معادلې پيدا اوګراف يې رسم کړئ.

حل: پورتنی معادله د هايپربولا معادله ده چې مرکز يې د وضعيه کمياتو په مبدا کې او د y محور يې متقاطع محور دی.

د راسونو مختصات: $$a^2=4\Rightarrow a=\pm 2\Rightarrow A(0,2)\ ,\ A'(0,-2)$$

$$b^2=9\Rightarrow b=\pm 3\Rightarrow B(3\ ,0)\ \ ,\ \ B'(-3\ ,0)$$

د محراقونو مختصات: $$c^2=a^2+b^2\Rightarrow c^2=4+9=13\Rightarrow c=\pm\sqrt{13}$$

$$F(0,\sqrt{13})\quad ,\quad F'(0,-\sqrt{13})$$

د مجانبونو معادلې:څرنګه چې متقاطع محور د y پر محور باندې منطبق دی، نو د مجانبونو معادلې يې عبارت دي له:

$$y=\pm\frac{a}{b}x\ \Rightarrow\ y=\pm\frac{2}{3}x\ \Rightarrow\ 3y=\pm 2x$$

$$3y-2x=0\qquad ,\qquad 3y+2x=0$$

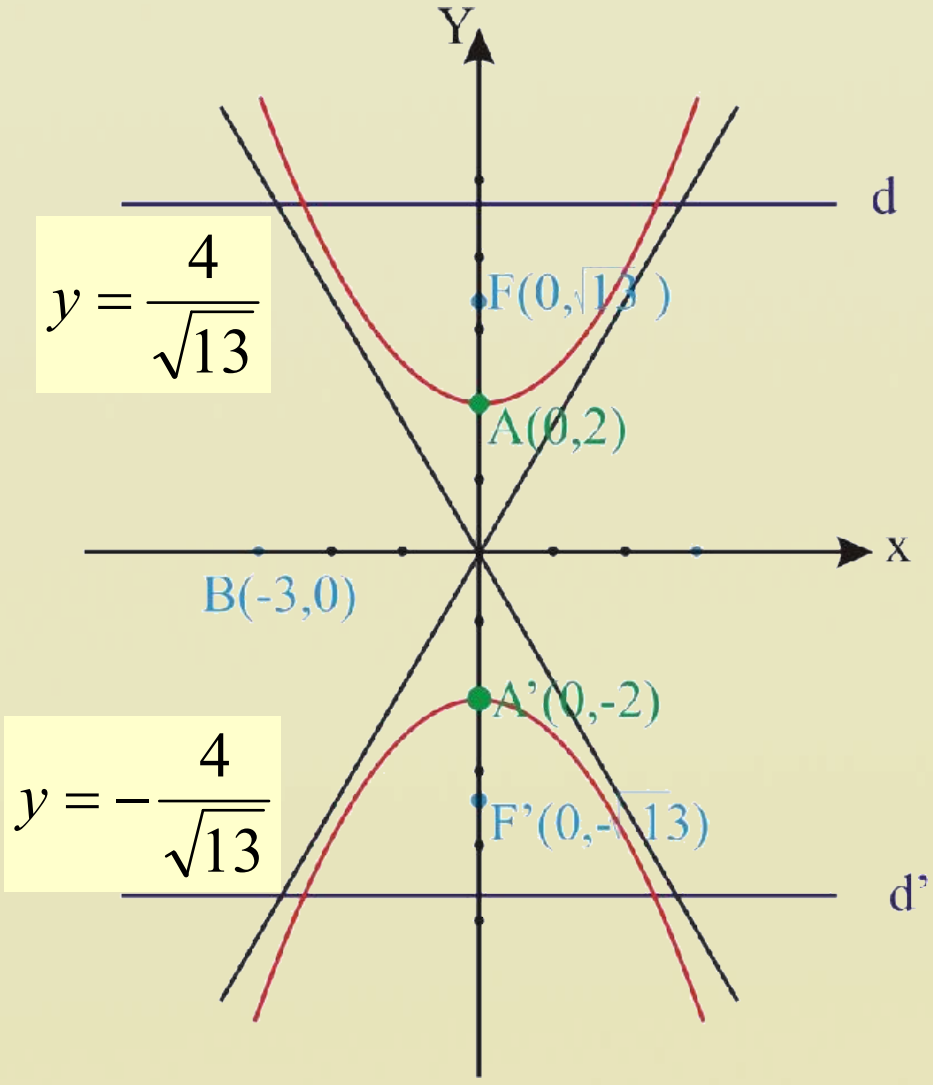

د موجه خط معادله: څرنګه چې د هايپربولا متقاطع محور د y پر محور باندې منطبق دی، نو د موجه خطونو معادلې عبارت دي له:

$$y=\pm\frac{a}{e}=\pm\frac{a^2}{c}=\pm\frac{4}{\sqrt{13}}=\pm\frac{4\sqrt{13}}{13}$$

$$y_1=\frac{4\sqrt{13}}{13}\ ,\quad y_2=-\frac{4\sqrt{13}}{13}$$

پوښتنې

د $4x^2-y^2=16$ هايپربولا له معادلې څخه د محراقونو وضعيه کميات، د راسونو وضعيه کميات، د موجه خطونو او د مجانبونو معادلې په لاس راوړئ اوګراف يې رسم کړئ.

(c) ketabton.com: The Digital Library

د هغې هایپربولا معادله چې مرکز یې یو اختیاري ټکی وي

آیا د داسې هایپربولا معادله شته چې مرکز یې د وضعیه کمیاتو په مبدا کې نه وي؟

$$\frac{(y-k)^2}{a^2}-\frac{(x-h)^2}{b^2}=1$$

$$\frac{(x-h)}{a^2}-\frac{(y-k)^2}{b^2}=1$$

فعالیت

- د وضعیه کمیاتو په سیستم کې داسې هایپربولا رسم کړئ چې د مرکز مختصات یې (h,k) او متقاطع محور یې د x له محور سره موازي وي.

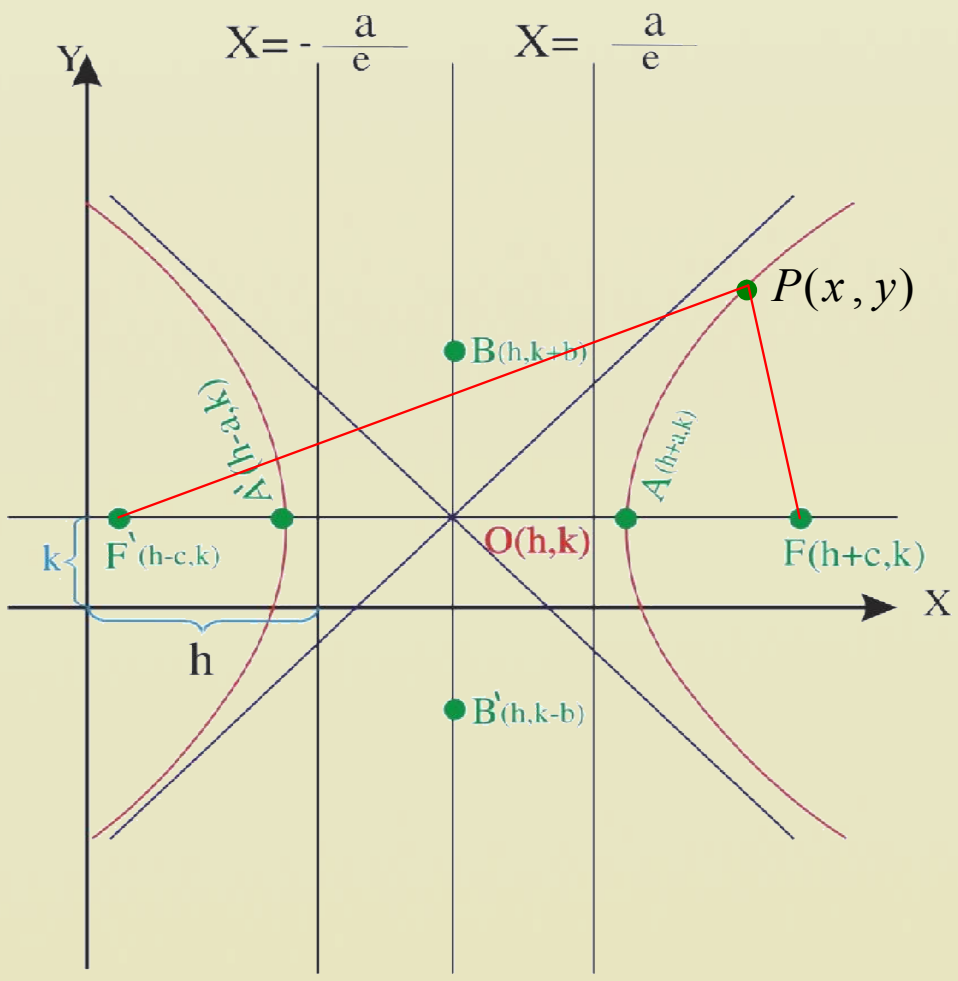

- د هایپربولا د منحنی پرمخ باندې د $p(x,y)$ یو اختیاری ټکی په پام کې ونیسئ او هغه د F او F' سره ونښلوئ.
- د هایپربولا د مرکز (h,k) په پام کې نیولو سره د محراقونو مختصات یعنې F او F'، د راسونو مختصات یعنې A, A', B او B' په شکل کې وښایاست.

د شکل څخه په کار اخیستنې سره د $|PF'|-|PF|=2a$ رابطه حساب کړئ.

لومړی حالت: د دوو ټکو تر منځ د فاصلې د پیداکولو له فارمول او د هایپربولا د تعریف له رابطې څخه په کار اخیستنې سره لیکلای شو:

$$|PF'|-|PF|=2a$$

$$\sqrt{[x-(h-c)]^2+(y-k)^2}-\sqrt{[x-(h+c)]^2+(y-k)^2}=2a$$

یا

$$\sqrt{[x-(h-c)]^2+(y-k)^2}=2a+\sqrt{[x-(h+c)]^2+(y-k)^2}$$

د پورتنې مساواتو دواړه خواوې مربع کوو:

$$\left(\sqrt{[x-(h-c)]^2+(y-k)^2}\right)^2=\left(2a+\sqrt{[x-(h+c)]^2+(y-k)^2}\right)^2$$

$$[x-(h-c)]^2+(y-k)^2=4a^2+4a\sqrt{[x-(h+c)]^2+(y-k)^2}+[x-(h+c)]^2+(y-k)^2$$

$$x^2-2x(h-c)+(h-c)^2=4a^2+4a\sqrt{[x-(h+c)]^2+(y-k)^2}+x^2-2x(h+c)+(h+c)^2$$

(c) ketabton.com: The Digital Library

د مشابه حدونو له جمعې او تفریق وروسته لیکلاي شو:

$$cx-(ch+a^2)=a\sqrt{[x-(h+c)]^2+(y-k)^2}\ /(\ \ )^2$$

$$c^2x^2-2cx(ch+a^2)+(ch+a^2)^2=a^2[x-(h+c)]^2+a^2(y-k)^2$$

د ضرب، او توانونو له ساده کولو وروسته مشابه حدونه جمع او تفریق کوو او پورتنی رابطه په لاندې ډول لیکو:

$$c^2x^2-a^2x^2-2c^2hx+2a^2hx+c^2h^2-a^2h^2-a^2(y-k)^2=a^2c^2-a^4$$

$$x^2(c^2-a^2)-2hx(c^2-a^2)+h^2(c^2-a^2)-a^2(y-k)^2=a^2(c^2-a^2)$$

$$(c^2-a^2)(x^2-2hx+h^2)-a^2(y-k)^2=a^2(c^2-a^2)$$

$$(c^2-a^2)(x-h)^2-a^2(y-k)^2=a^2(c^2-a^2)$$

څرنګه چې $c^2-a^2=b^2$ دې، نو پورته رابطه په لاندې ډول لیکو:

$$b^2(x-h)^2-a^2(y-k)^2=a^2b^2$$

دواړه خواوې په a^2b^2 ویشو:

$$\frac{b^2(x-h)^2}{a^2b^2}-\frac{a^2(y-k)^2}{a^2b^2}=\frac{a^2b^2}{a^2b^2}$$

$$\frac{(x-h)^2}{a^2}-\frac{(y-k)^2}{b^2}=1$$

د حقیقي راسونو مختصات: $A(h+a,k)\quad A'(h-a,k)$

د غیرې حقیقي راسونو مختصات: $B(h,k+b)\quad B'(h,k-b)$

د محراقونو مختصات: $F(h+c,k)\ ,\ F'(h-c,k)$

د مجانبونو معادلې: $y=\pm\frac{b}{a}(x-h)+k$

د موجه خطونو معادلې: $x-h\pm\frac{a}{e}$

دویم حالت: که چیرې متقاطع محور د y له محور سره موازي وي، نو د هایپربولا معادله عبارت ده، له:

$$\frac{(y-k)^2}{a^2}-\frac{(x-h)^2}{b^2}=1$$

د شکل له مخې د هایپربولا د رأسونو او محراقونو مختصات د مؤجه خطونو او د مجانبونو معادلې پیدا کړئ.

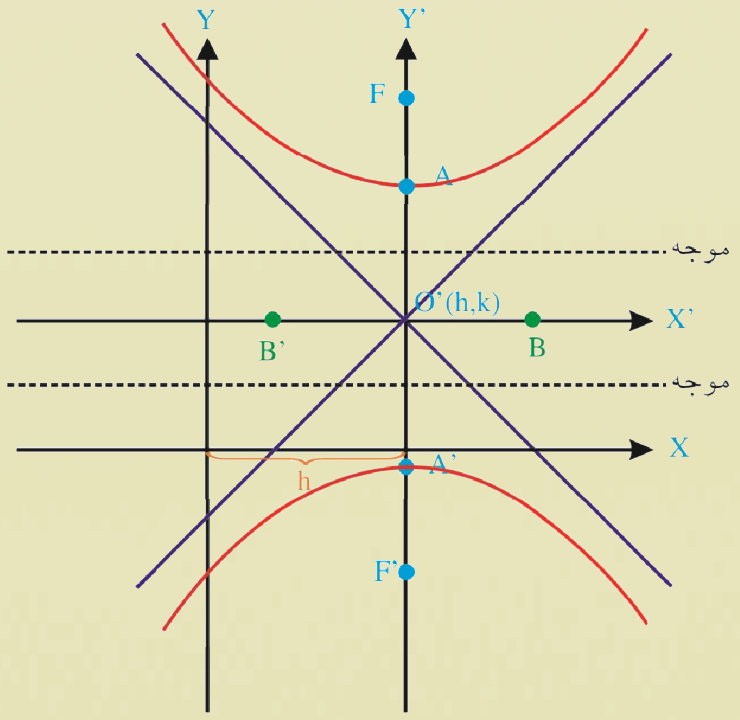

(c) ketabton.com: The Digital Library

یادونه: د هایپربولا پراختیایي معادله له $AX^2+BY^2+DX+EY+F=0$ څخه عبارت ده په داسې حال کې چې $A,B\neq 0$ او $A\neq B$ یا $A=B$ خو مختلف الاشاره وي.

لومړي مثـال: د $9(x-3)^2-4(y+1)^2=144$ معادلـه پـه پـام کـې ونیسئ، د مرکـز، د راسـونو، محراقونـو مختصات او د مجانبونو معادلې پیدا کړئ.

حل: راکړل شوي معادله په معیاري ډول لیکو:

$$\frac{9(x-3)^2}{144}-\frac{4(y+1)^2}{144}=\frac{144}{144}$$

$$\frac{(x-3)^2}{16}-\frac{(y+1)^2}{36}=1$$

د مرکز مختصات: $k=-1, h=3$ یعنې $(3,-1)$ دي

د راسونو مختصات: $a^2=16\Rightarrow a=\pm4$

$$A(h+a,k)=A(3+4,-1)=A(7,-1)$$

$$A'(h-a,k)=A'(3-4,-1)=A'(-1,-1)$$

او همدارنګه پوهېږو چې:

$$\begin{cases} b^2=36\Rightarrow b=\pm6 \\ B(h,k+b)=B(3,-1+6)=B(3,5), \\ B'(h,k-b)=B'(3,-1-6)=B'(3,-7) \end{cases}$$

پوهېږو چې په هایپربولا کې: $c^2=a^2+b^2\Rightarrow c^2=16+36=52\Rightarrow c=\pm\sqrt{52}$

د محراقونو مختصات: $F(h+c,k)=F(3+\sqrt{52},-1)$ $\quad F'(h-c,k)=F'(3-\sqrt{52},-1)$

که چیرې متقاطع محور د x له محور سره موازي وي، نو د مجانبونو معادلې عبارت دي له:

$$y-k=\pm\frac{b}{a}(x-h)\ \Rightarrow\ y=\pm\frac{6}{4}(x-3)-1=\pm\frac{3}{2}(x-3)-1$$

$$y=\pm\frac{3}{2}(x-3)-1\ /\cdot2\Rightarrow 2y=\pm3(x-3)-2$$

$$2y=3x-9-2\ \Rightarrow\ 2y-3x+11=0$$

$$2y=-3x+9-2\ \Rightarrow\ 2y+3x-7=0$$

دویم مثال: د هایپربولا $2x^2-8x-3y^2-18y-31=0$ معادله په پام کې ونیسئ. د مرکز، راسونو او د محراقونو مختصات او د موجه خطونو او محانبونو معادلې په لاس راوړئ.

(c) ketabton.com: The Digital Library

حل:

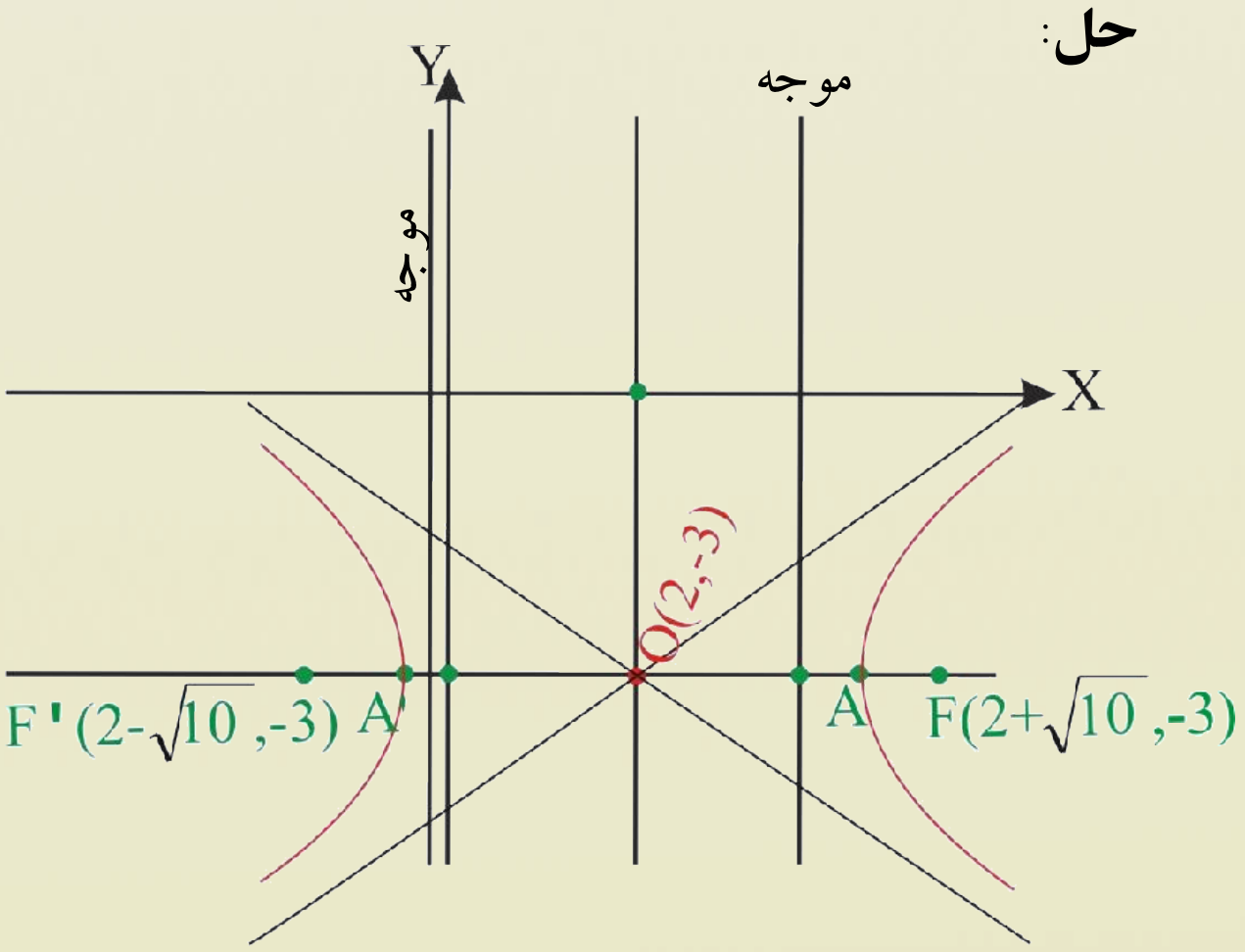

$$2(x^2-4x)-3(y^2+6y)-31=0$$
$$2[(x-2)^2-4]-3[(y+3)^2-9]-31=0$$
$$2(x-2)^2-8-3(y+3)^2+27-31=0$$
$$2(x-2)^2-3(y+3)^2+27-39=0$$
$$2(x-2)^2-3(y+3)^2-12=0$$
$$2(x-2)^2-3(y+3)^2=12$$
$$\frac{2(x-2)^2}{12}-\frac{3(y+3)^2}{12}=\frac{12}{12}$$
$$\frac{(x-2)^2}{6}-\frac{(y+3)^2}{4}=1$$

پورتنی معادله په معیاري ډول واړول شوه، لیدل کیږي چې $h=2$ او $k=-3$ یعني د مرکز مختصات يې: $O(2,-3)$

له بلې خوا:

$$b^2=4\Rightarrow b=\pm 2 \quad , \quad a^2=6\Rightarrow a=\pm\sqrt{6}$$
$$c^2=a^2+b^2\Rightarrow \quad c=\pm\sqrt{a^2+b^2}=\pm\sqrt{6+4}=\pm\sqrt{10}$$

د محراقونو مختصات: $F(h\pm c,k)\Rightarrow F(2+\sqrt{10},-3) \quad , \quad F'(2-\sqrt{10},-3)$

د حقیقي راسونو مختصات: $A(h\pm a,k)\Rightarrow A(2+\sqrt{6},-3) \quad , \quad A'(2-\sqrt{6},-3)$

د غیرې حقیقي راسونو مختصات: $B(h,k\pm b)\Rightarrow B(2,-1) \quad , \quad B'(2,-5)$

د موجه خطونو معادلې: $x-h=\pm\frac{a}{e}\Rightarrow x=\pm\frac{a}{e}+h=\pm\frac{6\sqrt{10}}{10}+2\Rightarrow x=\pm\frac{3\sqrt{10}}{5}+2$

د مجانبونو معادلې: څرنګه چې متقاطع محور د x له محور سره موازي دی، نو لیکلای شو:

$$y-k=\pm\frac{b}{a}(x-h)\Rightarrow y=\pm\frac{b}{a}(x-h)+k$$
$$y=\pm\frac{2}{\sqrt{6}}(x-2)-3/\cdot\sqrt{6}\Rightarrow \sqrt{6}y=\pm 2(x-2)-3\sqrt{6}$$
$$\begin{cases}\sqrt{6}y-2x+4+3\sqrt{6}=0\\ \sqrt{6}y+2x-4+3\sqrt{6}=0\end{cases}$$

پوښتنې

د $9x^2-4y^2+54x+16y-79=0$ معادله د هایپربولا پر معیاري معادلې باندې واړوئ.

(c) ketabton.com: The Digital Library

د مستقيم خط موقعيت نظر مخروطي مقاطعو ته

يوه اختياري مستقيم خط، يوه دايره د امكان په صورت

كې په څو ټكو كې قطع كولاى شئ؟

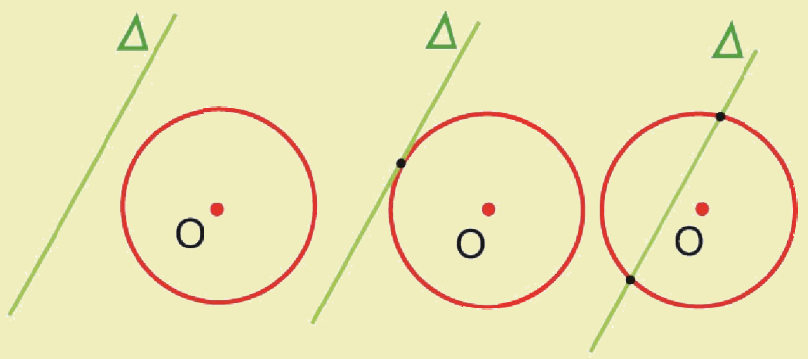

فعاليت

د O دايره او د Δ مستقيم خط په پام كې ونيسئ:

- يوه دايره او مستقيم خط داسې رسم كړئ، چې يوازې يو ګډ ټكى سره ولري.
- آيا كيداى شي چې يوه مستقيم خط، يوه دايره له دوو ټكو څخه په زياتو ټكو كې قطع كړي؟
- كه چيرې د دايرې د مركز او مستقيم خط تر منځ واټن، د دايرې له شعاع څخه لوى وي. دايره او مستقيم خط څو ګډ ټكي لري؟

له پورتني فعاليت څخه لاندې پايله په لاس راځي:

پايله: په يوه مستوي كې يوه اختياري مستقيم خط او يوه دايره امكان لري، يوازې يوه، دوه او يا هيڅ ګډ ټكى ونلري.

لومړى مثال: په وضعيه كمياتو كې د $x^2+y^2=9$ دايره او $y=x+3$ مستقيم خط رسم او موقعيت يې و ټاكئ.

حل: په شكل كې ليدل كيږي، چې دايره او مستقيم خط يو بل په $(0,3)$ او $(-3,0)$ دوو ټكو كې قطع كوي ددې پايلې د لاس ته راوړلو لپاره كه چيرې د مستقيم خط له معادلې څخه د y قيمت د دايرې په معادله كې وضع كړو عين نتيجه په لاس راځي:

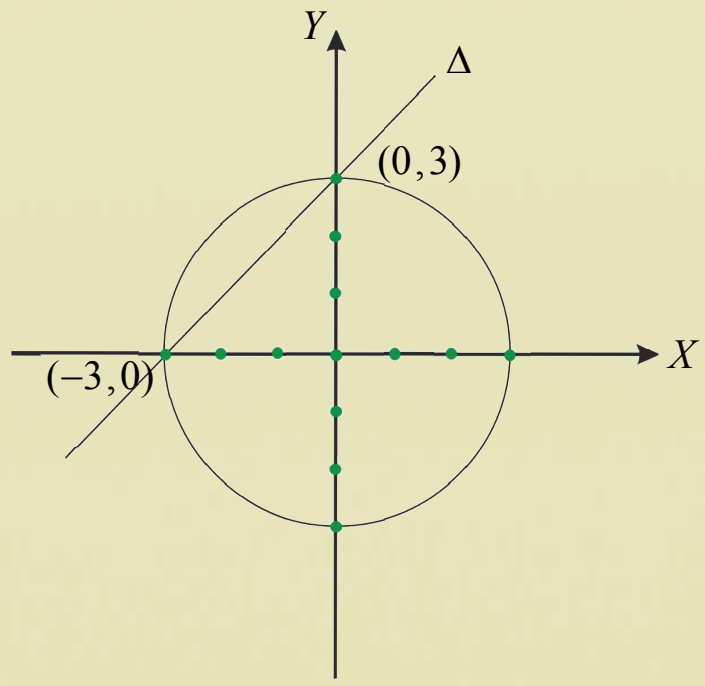

$$y=x+3$$
$$x^2+y^2=9 \Rightarrow x^2+(x+3)^2=9$$
$$x^2+x^2+6x+9=9$$
$$\Rightarrow 2x^2+6x=0$$
$$x_1=0 \quad , \quad x_2=-3$$

د x قيمتونه د $y=x+3$ په معادله كې ايږدو او د y قيمت په لاس راځي.

$$y_1=0+3 \Rightarrow y_1=3$$
$$y_2=-3+3 \Rightarrow y_2=0$$

د $(0,3)$ او $(-3,0)$ ټكي د دايرې او مستقيم خط د تقاطع ټكى دى.

(c) ketabton.com: The Digital Library

په عمومي ډول کله چې د مستقیم خط له معادلې څخه د x یا y متحول قیمت د مخروطي مقاطعو په معادله کې کېږدو، د حل لپاره یوه دویمه درجه معادله لاس ته راځي چې حل یې د Δ په قیمت پورې اړه لري. دغه مسئله په لاندې ډول د څېړلو،او پام وړ، پایلې لري:

1- که چېرې $\Delta > 0$ وي، معادله دوه حلونه لري، نو په دې ډول مستقیم خط او منحني یوبل په دوو ټکو کې قطع کوي.

2- که چېرې $\Delta = 0$ وي، معادله دوه مضاعف یا مساوي حلونه لري او په دې ډول مستقیم خط د مخروطي مقاطعو له منحني سره یوازې یو ګډ ټکی چې مماس بلل کېږي، لري.

3- که چېرې $\Delta < 0$ وي، معادله حل نلري، په بل عبارت، مستقیم خط او منحني یو بل نه قطع کوي.

دویم مثال: د $x^2 + y^2 - 2x + 4y - 4 = 0$ دایره او $3y - 4x - 15 = 0$ مستقیم خط په پام کې ونیسئ او موقعیتونه یې له یو بل سره و څېړئ.

حل: لومړی د دایرې معادله په معیاري شکل بدلوو.

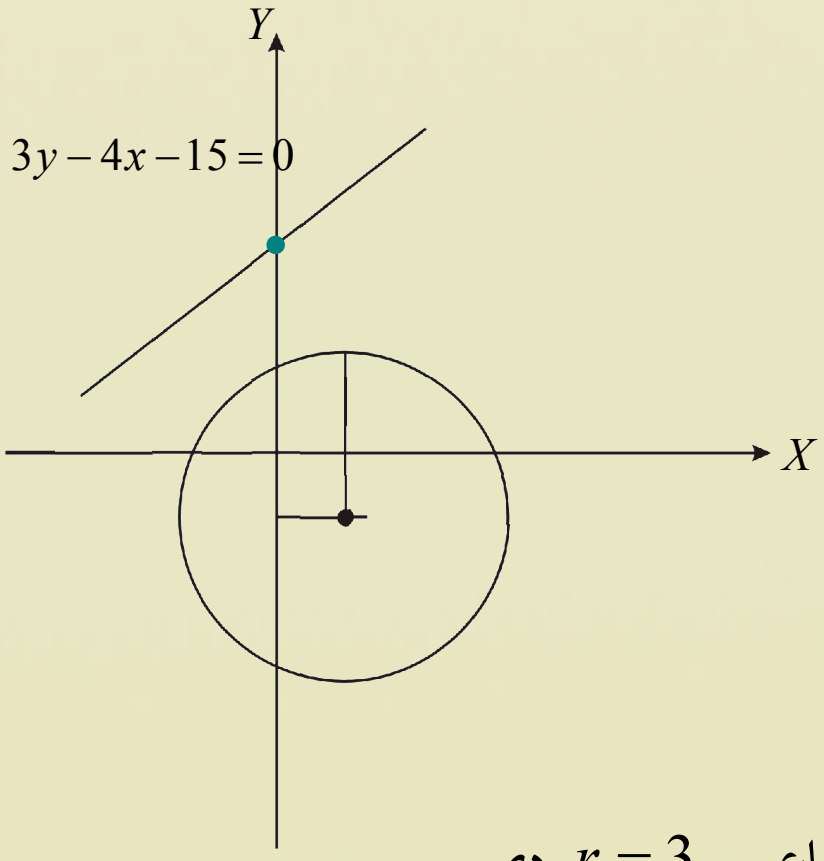

$$x^2 + y^2 - 2x + 4y - 4 = 0$$
$$x^2 - 2x + (1)^2 - (1)^2 + y^2 + 4y + (2)^2 - (2)^2 - 4 = 0$$
$$(x-1)^2 + (y+2)^2 - 9 = 0$$
$$\Rightarrow\ (x-1)^2 + (y+2)^2 = 9 \qquad C(1,-2)$$

د دایرې له معیاري معادلې څخه پوهېږو چې د دایرې مرکز $C(1,-2)$ او شعاع یې $r = 3$ دی.

همدغه راز د مستقیم خط معادله معیاري شکل ته اړوو.

$$3y - 4x - 15 = 0 \Rightarrow 3y = 4x + 15 \Rightarrow y = \frac{4}{3}x + 5$$

(c) ketabton.com: The Digital Library

که چیرې د مستقیم خط له معادلې څخه د y قیمت د x له جنسه د دایرې په معیاري معادله کې کېږدو، نو لاندې پایله په لاس راځي.

$$(x-1)^2+(\frac{4}{3}x+5+2)^2=9$$

$$\Rightarrow x^2-2x+1+(\frac{4}{3}x+7)^2=9 \Rightarrow x^2-2x+1+\frac{16}{9}x^2+14\frac{4}{3}x+49-9=0$$

$$\Rightarrow 9\cdot\frac{25}{9}x^2-9\cdot\frac{50}{3}x+9\cdot 41=0$$

$$\Rightarrow 25x^2+150x+369=0$$

$$\Delta=b^2-4ac$$

$$\Delta=22500-36900=-14400 \quad , \quad \Delta<0$$

څرنګه چې $\Delta<0$ ده، نو مستقیم خط او دایره ګډ ټکی نه لري.

دریم مثال : د $y=x-1$ د مستقیم خط موقعیت د $y-x^2+1=0$ پارابولا ته وڅیړئ.

حل: د پورتنۍ مسئلې د څیړلو لپاره د y قیمت د پارابول په معادله کې وضع کوو، او بیاګام په ګام د معادلې حل په پام کې نیسو:

$$y=x-1$$

$$y-x^2+1=0 \Rightarrow (x-1)-x^2+1=0$$

$$\Rightarrow x-1-x^2+1=0 \Rightarrow x^2-x=0$$

$$\Delta=b^2-4ac \Rightarrow \Delta=(-1)^2-4(1)(0)=1-0 \Rightarrow \Delta=1$$

څرنګه چې $\Delta=1>0$ ده، نو $y=x-1$ مستقیم خط د $y-x^2+1=0$ پارابول په دوو ټکو کې قطع کوي چې کولای شو حلونه یې په لاندې ډول پیدا کړو.

$$x^2-x=0$$

$$x_{1,2}=\frac{-b\pm\sqrt{\Delta}}{2a}=\frac{1\pm\sqrt{1}}{2}$$

$$x_1=1 \quad , \quad x_2=0$$

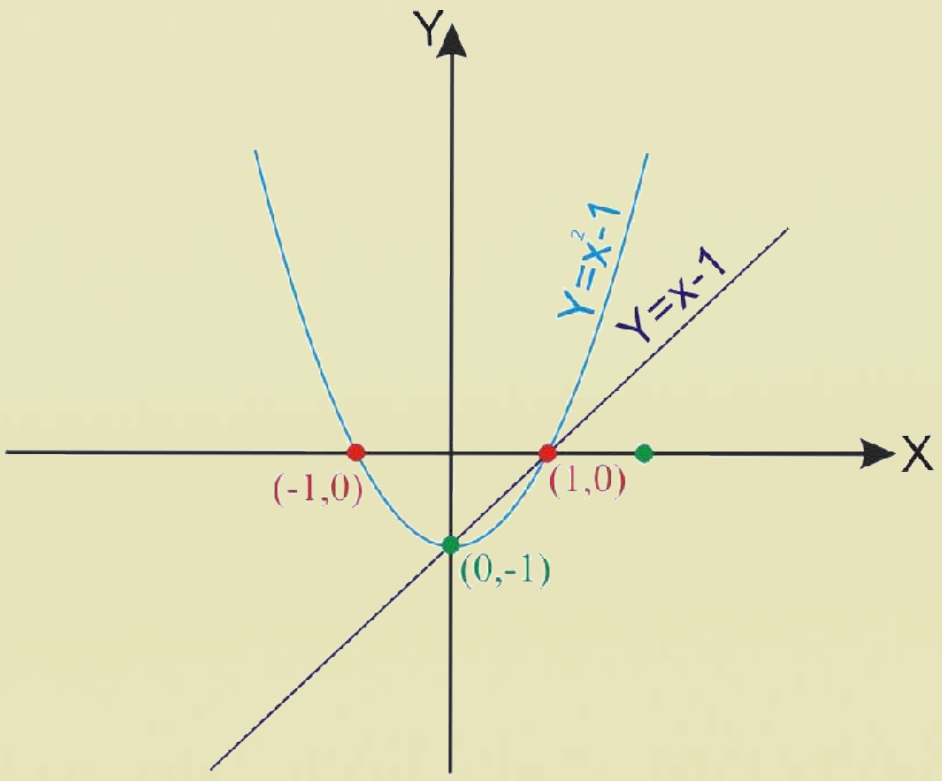

که چیرې په لاس راغلي قیمتونه د مستقیم خط په معادله کې کېږدو، نو د نوموړي مستقیم خط او پارابولا د قطع کولو ټکي په لاس راځي، هغه عبارت دي له : $(1,0)$, $(0,-1)$ چې دغه ټکي په ګراف کې هم په ښکاره ډول لیدل کېږي.

(c) ketabton.com: The Digital Library

ځلورم مثال: د $x=5$ مستقیم خط او $\frac{(x-2)^2}{9}+\frac{y^2}{4}=1$ بیضوي موقعیتونه وڅېړئ.

حل: که چېرې د $x=5$ د مستقیم خط قیمت د بیضوي په معادله کې کېښېږدو، نو په لاس راځي:

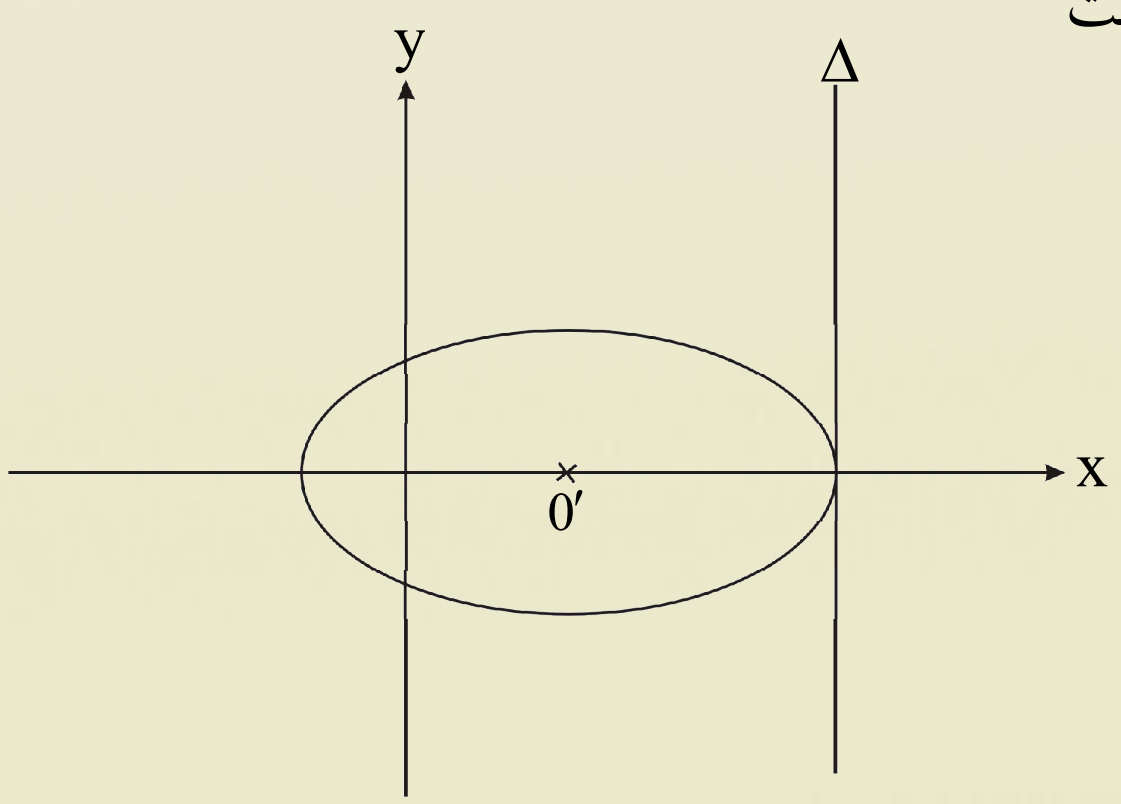

$$\frac{(5-2)^2}{9}+\frac{y^2}{4}=1 \Rightarrow \frac{9}{9}+\frac{y^2}{4}=1$$

$$\Rightarrow \frac{y^2}{4}=1-1 \Rightarrow y^2=0$$

څرنګه چې: $\Delta=b^2-4ac=0$

په دې ډول وېلای شو چې مستقیم خط او بیضوي یو ګډ ټکی لري چې په شکل کې په ښکاره ډول لیدل کېږي.

یادونه: د مخروطي مقاطعو غزیدلی یا انکشاف ورکړل شوي، معادله په لاندې ډول ده:

$$A,B,D,E,F \in IR \quad , Ax^2+By^2+Dx+Ey+F=0$$

د پورتنی معادلې د پېژندلو لپاره په یاد ولرئ چې:

1- که چېرې $A,B\neq 0$ ، $\mathrm{A}=\mathrm{B}$ او یو شان علامې ولري، یوه دایره ده.

2- که چېرې $A,B\neq 0$ ، $A\neq B$ او یو شان علامې ولري، یو بیضوی دی.

3- که چېرې $A,B\neq 0$ ، $A\neq B$ یا $\mathrm{A}=\mathrm{B}$ او مختلفې علامې ولري، هایپربولا ده.

4- که چېرې معادلې لاندې شکل ولري، ګراف یې یو پارابولا ده.

$$Ay^2+By+Cx+D=0 \text{ او } Ax^2+Bx+Cy+D=0$$

پوښتنې

1- د لاندې معادلو ډول د هغوی د ګرافونو د رسم کولو وروسته وټاکئ.

$a)\ y^2-2y+x+3=0$

$b)\ 9x^2+9y^2=27$

$c)\ 25x^2+16y^2=400$

$d)\ x^2-y^2=0$

$e)\ y^2+6y-x+2=0$

2- د $9x^2+4y^2=36$ بیضوي او $y=3$ مستقیم خط یو بل په څو ټکو کې قطع کوي؟

3- د $y=x$ خط او $x^2-2y^2=4$ هایپربول د تقاطع ټکي پیداکړئ.

(c) ketabton.com: The Digital Library

د خپرکي مهم ټکي

مخروطي مقاطع: د مستوي تقاطع له مخروط سره په مختلفو حالتونو کې مختلف منحني ګان منځ ته راوړي چې د مخروطي مقاطعو په نوم یادیږي.

بیضوي: په یوه مستوي کې د ټولو هغو ټکو هندسي محل چې له دوو مستقرو ټکو څخه یې د فاصلو د جمعې حاصل یو ثابت اوږدوالی وي، بیضوي بلل کیږي، مستقر ټکي چې په F' او F تورو ښودل شوي، د بیضوي محراقونه بلل کیږي او $AA'=2a$ ثابت اوږدوالی دی

شمیره	معادلې	د مرکز وضعیه کمیات	د اوږده قطر انجامونه	دلنډ قطر انجامونه	محراقونه
1	$\frac{x^2}{a^2}+\frac{y^2}{b^2}=1$ $a>b$	$(0,0)$	$(a,0),(-a,0)$ د x پر محور باندې دي	$(0,b),(0,-b)$ د y پر محور باندې دي	$(c,0),(-c,0)$
2	$\frac{x^2}{b^2}+\frac{y^2}{a^2}=1$	$(0,0)$	$(0,a),(0,-a)$ د y پر محور باندې دي	$(b,0),(-b,0)$ د x پر محور باندې دي	$(0,c),(0,-c)$
3	$\frac{(x-h)^2}{a^2}+\frac{(y-k)^2}{b^2}=1$	(h,k)	$(h\pm a,k)$ په لوی قطر باندې چې د x له محور سره موازي دی	$(h,k\pm b)$ په لنډ قطر باندې چې د y له محور سره موازي دی	$(h\pm c,k)$
4	$\frac{(y-k)^2}{a^2}+\frac{(x-h)^2}{b^2}=1$	(h,k)	$(h,k\pm a)$ په لوی قطر باندې چې د y له محور سره موازي دی	$(h\pm b,k)$ په لنډ قطر باندې چې د x له محور سره موازي دی	$(h,k\pm c)$

د بیضوي عمومي معادله عبارت ده له: $AX^2+CY^2+DX+EY+F=0$

په داسې حال کې چې A او C دواړه هم علامه وي.

(c) ketabton.com: The Digital Library

پارابولا: په یوه مستوي کې د ټولو هغو ټکو هندسي محل چې د یوه ثابت یا مستقر ټکي او ثابت مستقیم خط څخه په مساوي فاصله کې پراته وي، پارابولا بلل کیږي، دغه ثابت یا مستقر ټکي ته د پاراپولا محراق (F) او ثابت مستقیم خط ته د پارابولا هادي(موجه) وایي.

تناظري محور	د موجه خط معادله	د محراق مختصات	دراس وضعیه کمیات	د پارابولا معادلې	شمیره
$x=0$	$x=-p$	$F(P,0)$	$S(0,0)$	$y^2=4Px$	1
$y=0$	$y=-p$	$F(0,P)$	$S(0,0)$	$x^2=4Py$	2
$y=k$	$x=h-p$	$F(h+p,k)$	$S(h,k)$	$(y-k)^2=4P(x-h)$	3
$x=h$	$y=k-p$	$F(h,k+p)$	$S(h,k)$	$(x-h)^2=4P(y-k)$	4

د پارابولا عمومي معادله $Ax^2+Cy^2+Dx+Ey+F=0$ په داسې حال کې چې $A=0$ یا $C=0$ وي، نه دواړه ($C\neq 0, A=0$ یا $C=0, A\neq 0$ وي)، په پارابولا کې عن المرکزیت $e=1$ سره دی.

(c) ketabton.com: The Digital Library

هایپربولا: په یوه مستوي کې د هغو ټکو هندسي محل چې د فاصلو تفاضل یې له دوو ثابتو مستقرو ټکو څخه تل ثابت اوږدوالی ولري، هایپربولا بلل کېږي.

د مجانبونو معادلې	د موجه خطونو معادلې	محراقونه	غیر حقیقي رأسونه	د رأسونو وضعیه کمیات	د مرکز وضعیه کمیات	د هایپربولا معادلې
$y=\pm\frac{b}{a}x$	$x=\pm\frac{a}{c}$	$F(c,0)$ $F'(-c,0)$ د x پر محور باندې	$(0,b),(0,-b)$ د y پر محور باندې	$(a,0),(-a,0)$ د x پر محور پراته دي	$S(0,0)$	$\frac{x^2}{a^2}-\frac{y^2}{b^2}=1$
$y=\pm\frac{a}{b}x$	$y=\pm\frac{a}{c}$	$F(0,\pm c)$ د y پر محور باندې.	$(b,0),(-b,0)$ د x پر محور باندې.	$(0,a),(0,-a)$ د y پر محور پراته دي	$S(0,0)$	$\frac{y^2}{a^2}-\frac{x^2}{b^2}=1$
$y-k=\pm\frac{b}{a}(x-h)$	$x=h\pm\frac{a}{c}$	$F(h\pm c,k)$	$B(h,k\pm b)$	$A(h\pm a,k)$	$S(h,k)$	$\frac{(x-h)^2}{a^2}-\frac{(y-k)^2}{b^2}=1$
$y-k=\pm\frac{a}{b}(x-h)$	$y=k\pm\frac{a}{c}$	$F(h,k\pm c)$	$B(h\pm b,k)$	$A(h,k\pm a)$	$S(h,k)$	$\frac{(y-k)^2}{a^2}-\frac{(x-h)^2}{b^2}=1$

د هایپربولا عمومي معادله $Ax^2+By^2+Dx+Ey+F=0$ څخه عبارت ده، په داسې حال کې چې $A=B$ یا $A\neq B$ ، خو مختلف الاشاره وي. په هایپربولا کې عن المرکزیت $e>1$ دی.

(c) ketabton.com: The Digital Library

د څپرکي پوښتنې

هرې پوښتنې ته څلور ځوابونه ورکړل شوي دي، سم ځواب يې په نښه او کرښه ترې تاو کړئ.

1- که چېرې يو مستوي يو مخروط په مايل ډول قطع کړي، نو د مستوي او مخروط ګډ فصل عبارت دی له:

a) بيضوي b) دايره c) هايپربولا d) دوه متقاطع خطونه

2- د بيضوي محراقونه هغه ټکي دي چې د بيضوي له مرکز څخه:

a) برابر واټن لري b) مختلف واټنونه لري

c) د اوږد قطر نيمايي واټن لري d) د لنډ قطر نيمايي ده.

3- که چيرې M د بيضوي يو ټکی F او F' محراقونه او $2a$ د اوږده قطر اوږدوالی وي، نو په دې صورت کې لرو چې:

a) $|MF|-|MF'|=2a$ b) $|MF|+|MF'|=a$

c) $|MF|+|MF'|=2a$ d) $|MF'|+|MF|=0$

4- د بيضوي عن المرکزيت له لاندې کومې يوې رابطې څخه په لاس راځي:

a): $e=\frac{a}{c}$ b): $e=\frac{c}{a}$ c): $e=\frac{b}{c}$ d): $e=\frac{c}{b}$

5- په بيضوی کې د لنډ قطر، اوږد قطر او محراقونو ترمنځ اړيکه عبارت ده له:

a) $a^2=b^2-e^2$ b) $a^2+b^2=c^2$

c) $a^2=b^2+e^2$ d) $a^2=b^2+c^2$

6- د $(y-k)^2=4p(x-h)$ په معادله کې که $p>0$ سره وي، نو:

a) د پارابولا خوله پاس خواته خلاصه ده. b) دپارابولا خوله لاندې خواته خلاص ده

c) دپارابولا خوله ښي خواته خلاص ده d) دپارابولا خوله کيڼې خواته خلاص ده.

7- د $(x+1)^2=8(y-2)$ پارابولا معادله په پام کې ونيسئ. د محراق وضعيه کميات يې عبارت دي له:

a) $F(-1,-2)$ b) $F(-1,4)$ c) $F(-1,2)$ d) $F(-4,-1)$

8- که چېرې F او F' د هايپربولا محراقونه وي، د p ټکی په کوم شرط د هايپربولا د محيط يو ټکی کيدلای شي؟

a) $|PF|+|PF'|=2a$ b) $|PF|-|PF'|=a$

c) $|PF|-|PF'|=2a$ d) $|PF|-|PF'|=0$

(c) ketabton.com: The Digital Library

9- د $y = x^2$ د پارابولا گراف متناظر دی نظر:

a) د y محور ته　　b) د x محور ته

c) د x او y محورونو ته　　c) د وضعیه کمیاتو مبدأ ته

10- په لاندې ځوابونو کې کوم یو د هایپربولا عن المرکزیت ښیي؟

a) $e<1$　　b) $e=1$　　c) $e>1$　　d) $e=-1$

11- د $\frac{x^2}{4}+y^2=1$ د بیضوي د اوږد قطر موقعیت:

a) د y پر محور باندې دی.　　b) د x پر محور باندې دی.

c) د x پر محور عمود دی.　　d) د y له محور سره موازي دی.

12- په یوه مستوي کې د ټولو هغو ټکو هندسي محل چې له یوه ثابت ټکي څخه مساوي فاصلې لري. د څه په نامه یادېږي؟

a) کره　　b) دایره　　c) پارابولا　　d) بیضوي

13- د $y^2=-4(x+2)$ پارابول دراس مختصات عبارت دي له:

a) $(2,4)$　　b) $(4,2)$　　c) $(2,0)$　　d) $(-2,0)$

14- د $4x^2+4y^2+8y+3=0$ معادله عبارت ده له:

a) دایرې　　b) بیضوي　　c) پارابولا　　d) هایپربولا

لاندې پوښتنې حل کړئ.

1- لاندې معادلې په پام کې ونیسئ، لومړی هغه په معیاري ډول ولیکئ، بیا یې گرافونه رسم کړئ.

$a)\ x^2+4y^2=4$　　$b)\ 9x^2+2y^2=15$

$c)\ 16x^2-96x+9y^2+90y+225=0$　　$d)\ x^2+12x-120y+288=0$

2- د لاندې قیمتونو له مخې د هرې یوې بیضوي معادله پیدا کړئ:

a) $(0,0)$ مرکزي مختصه، $a=4$ ، $e=0,8$ دي او کبیر قطر یې د y پر محور باندې پروت دی.

b) $(0,0)$ مرکزي مختصه، $b=6$ $e=0,8$ دي او کبیر قطر یې د x پر محور باندې پروت دی.

3- په لاندې معادلو کې د بیضوي کبیر قطر، صغیر قطر، د راسونو او محراقونو مختصات پیدا کړئ.

a) $4(x-1)^2+y^2=4$　　b) $\frac{x^2}{4}+\frac{y^2}{9}=1$

(c) ketabton.com: The Digital Library

4- د پارابولا لاندې معادلې لومړی په معیاري شکل ولیکئ او بیایې ګرافونه رسم کړئ.

a) $x^2 - 11y = 0$

b) $y^2 - 4y - 4x + 2 = 0$

5- د هایپربولا لاندې هره یوه معادله په معیاري ډول واړوئ:

a) $4x^2 - y^2 - 8y - 32 = 0$

b) $2y^2 + 4y - x^2 + 10x - 25 = 0$

6- د هغې هایپربولا معادله پیدا کړئ چې $(-4,0)$ او $(4,0)$ د حقیقي راسونو مختصات او $y = \pm\frac{5}{4}x$ د مجانبونو معادلې وي.

7- د هغې هایپربولا معادله پیدا کړئ چې $(-1,3)$ ، $(1,3)$ د حقیقي راسونو مختصات او د محراقونو ترمنځ اوږدوالی یې 4 واحده وي.

8- د $y = 2x$ مستقیم خط د $\frac{(x+1)^2}{4} - \frac{(y-2)^2}{9} = 1$ هایپربولا په څو ټکو کې قطع کوي؟

(c) ketabton.com: The Digital Library

دویم څپرکی

مثلثات

(c) ketabton.com: The Digital Library

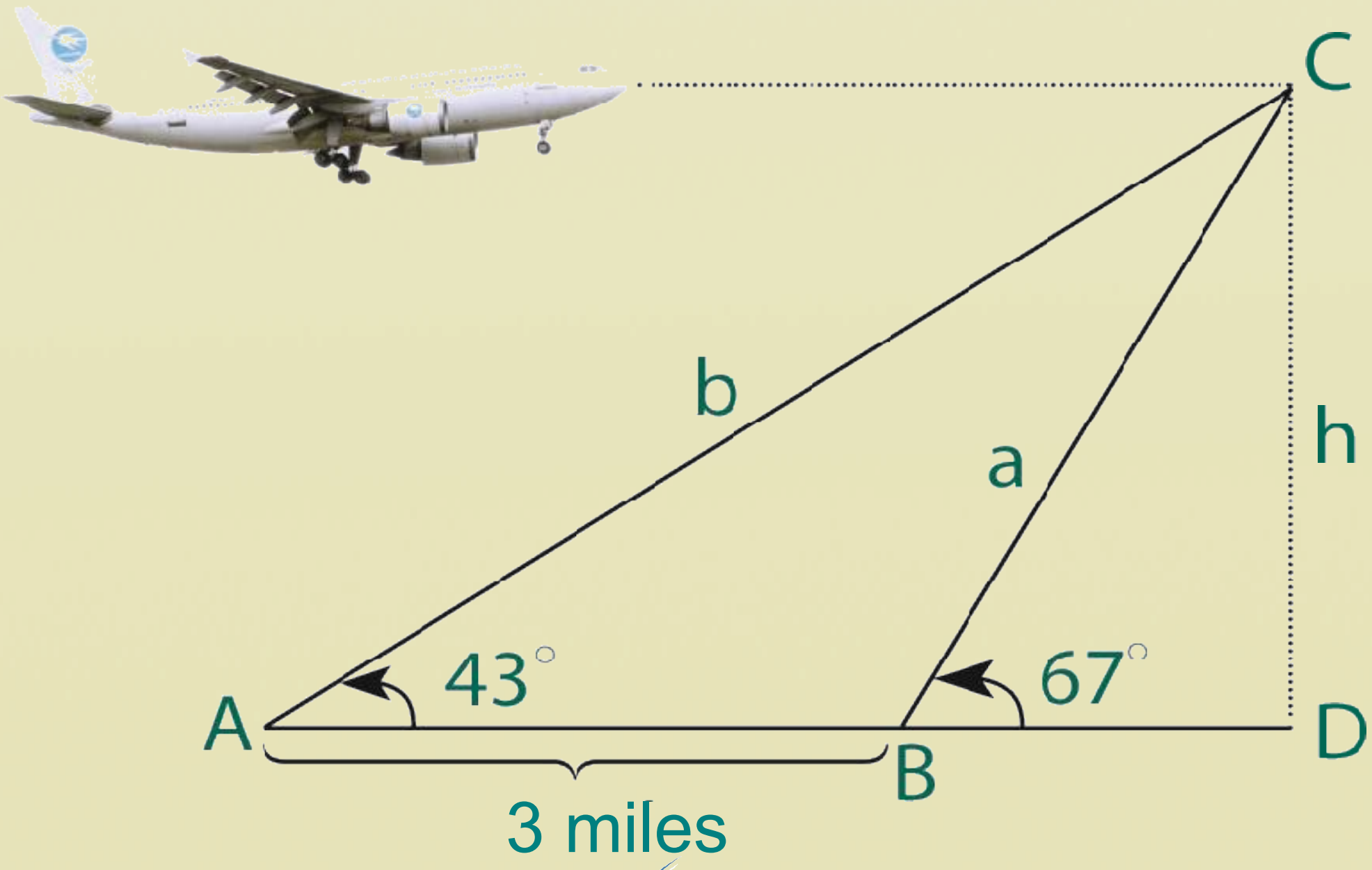

(c) ketabton.com: The Digital Library

د ساین قانون

Law of sine

خرنګه کولای شو په مخامخ شکل کې د a د ضلعې او C زاويې اندازه پيدا کړو؟

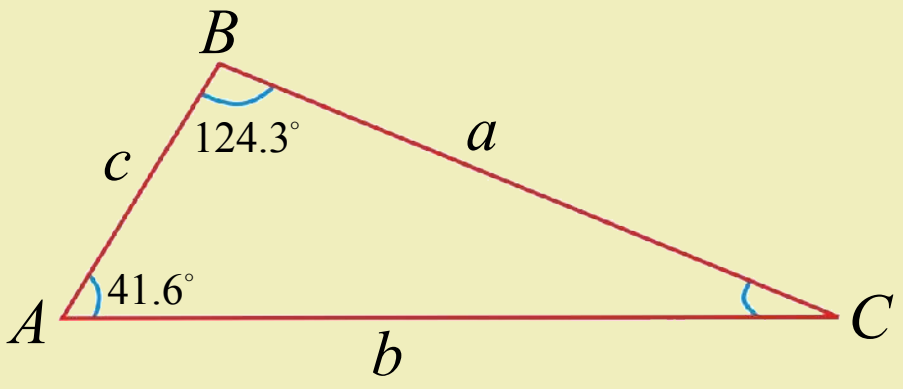

فعالیت

- د ABC يو حادهالزاويه مثلث رسم او د ضلعو اوږدوالی يې وټاکئ.
- د مثلث له هر رأس څخه د هغې پرمخامخ ضلعې د ($\overline{AH}_1$, $\overline{BH}_3$, $\overline{CH}_2$) ارتفاع ګانې رسم کړئ.
- د ABH_1 او ACH_1 په قايمالزاويه مثلثونو کې د ($\overline{AH}_1$) ارتفاع د $\sin B$ او $\sin C$ له جنسه پيدا او يو له بله سره يې پرتله کړئ.
- د ABH_2 او BCH_2 پـه قـايمالزاويـه مثلثونـو کـې د ($\overline{BH}_2$) ارتفاع د $\sin A$ او $\sin C$ له جنسه پيدا او يو له بله سره يې پرتله کړي.

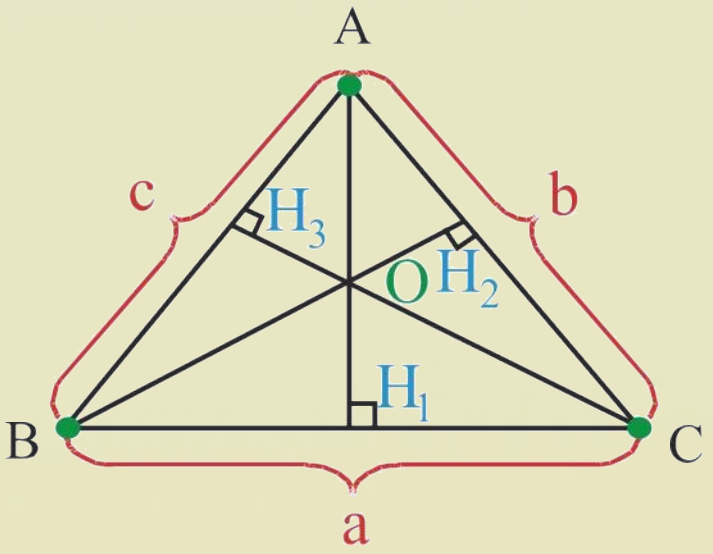

له پورتني فعاليت څخه لاندې ثبوت په لاس راوړای شو.

ثبوت: د ACH_1 او ACH_1 په قايمالزاويه مثلثونو کې لرو چې:

$$\sin B = \frac{\overline{AH}_1}{\overline{AB}} = \frac{\overline{AH}_1}{c}$$

$$\overline{AH}_1 = c\sin B \quad .... \quad (1)$$

$$\sin C = \frac{\overline{AH}_1}{\overline{AC}} = \frac{\overline{AH}_1}{b}$$

$$\overline{AH}_1 = b\sin C \quad .... \quad (2)$$

د (1) او (2) رابطو له پرتلې څخه ليکلی شو چې:

$$c\sin B = b\sin C \,/\div bc$$

اويا:

$$\frac{\sin B}{b} = \frac{\sin C}{c} \quad .... \quad \text{I}$$

(c) ketabton.com: The Digital Library

په همدې ډول د ABH_2 او BCH_2 قایم‌الزاویه مثلثونو په مرسته لیکلی شو چې:

$$\sin A = \frac{\overline{BH}_2}{c} \Rightarrow \overline{BH}_2 = c\sin A \;\ldots\ldots\ldots\; (3)$$

$$\sin C = \frac{\overline{BH}_2}{a} \Rightarrow \overline{BH}_2 = a\sin C \;\ldots\ldots\ldots\; (4)$$

د (3) او (4) د رابطو له پرتلې څخه لرو چې: $c\sin A = a\sin C \,/ \div ac$

اویا: $$\frac{\sin A}{a} = \frac{\sin C}{c} \;\ldots\ldots\ldots\; \text{II}$$

د I او II د رابطو له پرتلې څخه لیکلی شو چې: $$\frac{\sin A}{a} = \frac{\sin B}{b} = \frac{\sin C}{c}$$

پورتنۍ اړیکه(رابطه) په یوه مثلث کې د ساین د قانون(Law of sine) په نامه یادیږي.

پایله: په هر $\overset{\Delta}{ABC}$ کې چې A, B, C یې زاویې او a, b, c یې د ضلعو اوږدوالی وي، لرو:

$$\frac{a}{\sin A} = \frac{b}{\sin B} = \frac{c}{\sin C}$$

د ساین د قضیې ثبوت په منفرج الزاویه مثلث کې:

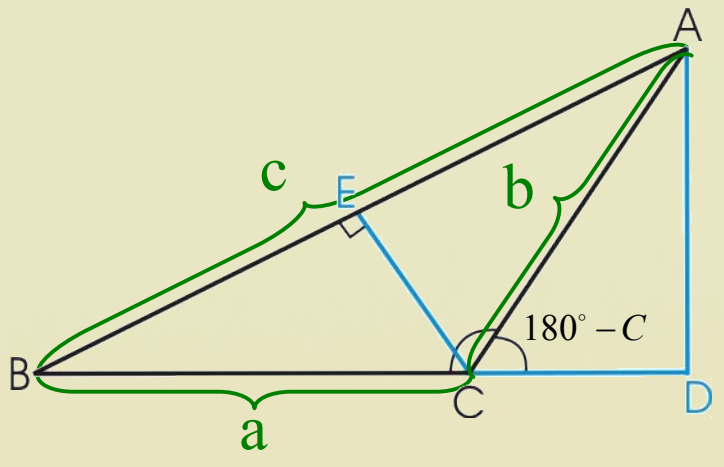

د ABC په مثلث کې چې د C زاویه یې منفرجه ده

د $\overline{AD}$ او $\overline{CE}$ ارتفاع ګانې رسموو.

د ADC په قایم الزاویه مثلث کې لرو: $\sin(180^\circ - C) = \dfrac{\overline{AD}}{b}$

د بلې خوا د متممو زاویو څخه پوهیږو چې: $\sin(180^\circ - C) = \sin C$

نو : $$\sin C = \frac{\overline{AD}}{b} \ldots\ldots (1)$$

همدارنګه د ADB له قایم الزاویه مثلث څخه لرو چې: $$\sin B = \frac{\overline{AD}}{c} \ldots\ldots (2)$$

اوس (1) او (2) رابطې خوا په خوا یو پر بل ویشو:

د تناسب د خواصونو له مخې د وسطینو ځایونه بدلوو. $$\frac{\sin C}{\sin b} = \frac{c}{b}$$

نو : $$\frac{\sin B}{b} = \frac{\sin C}{c} \;\ldots\ldots\ldots\; \text{I}$$

(c) ketabton.com: The Digital Library

اوس د ACE قایم الزاویه مثلث له مخې لیکلی شو:

$$\sin A = \frac{\overline{CE}}{b} .....(3)$$

د BEC په مثلث کې لیدل کیږي:

$$\sin B = \frac{\overline{CE}}{a} .....(4)$$

پورته 3 او 4 رابطې خوا په خوا یو پر بل ویشو:

$$\frac{\sin A}{\sin B} = \frac{a}{b}$$

که چیرې د وسطینو ځایونه بدل کړو، نو:

$$\frac{\sin A}{a} = \frac{\sin B}{b} ......(II)$$

اوس د I او II رابطو له پرتلې څخه لیکلی شو چې:

$$\frac{\sin A}{a} = \frac{\sin B}{b} = \frac{\sin C}{c} \quad \text{یا} \quad \frac{a}{\sin A} = \frac{b}{\sin B} = \frac{c}{\sin C}$$

فعالیت

- د ساین قانون په قایم‌الزاویه مثلث کې وڅیړئ او ثبوت یې کړئ.

لومړی مثال:په لاندې ABC قایم الزاویه مثلث کې د یوې ضلعې او دوو زاویو قیمت پیدا کړئ داسې چې د یوې زاویې او دوو ضلعو قیمت درکړل شوی دی؟

حل: د ساین د قضیې یا قانون له مخې لیکلی شو چې:

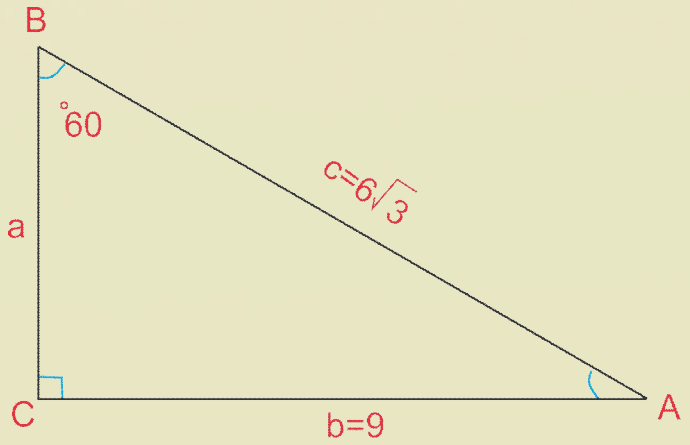

$$\frac{b}{\sin B} = \frac{c}{\sin C}$$

$$\frac{9}{\sin 60^\circ} = \frac{6\sqrt{3}}{\sin C} \Rightarrow \sin C = \frac{6\sqrt{3} \cdot \sin 60^\circ}{9} = \frac{6\sqrt{3} \cdot \frac{\sqrt{3}}{2}}{9}$$

$$\sin C = \frac{3 \cdot 3}{9} = \frac{9}{9} = 1 \quad \Rightarrow \sin C = 1$$

څرنګه چې: $\sin 90^\circ = 1$ دی، نو: $\quad C = 90^\circ$

همدارنګه پوهیږو چې په یوه مثلث کې:

$$A + B + C = 180^\circ$$
$$A + 60^\circ + 90^\circ = 180^\circ$$
$$A = 180^\circ - 150^\circ$$
$$A = 30^\circ$$

(c) ketabton.com: The Digital Library

د a ضلعې قیمت په لاندې ډول پیدا کولی شو :

$$\frac{\sin A}{a}=\frac{\sin B}{b}\Rightarrow a=b\cdot\frac{\sin A}{\sin B}\Rightarrow a=9\cdot\frac{\sin 30^\circ}{\sin 60^\circ}=\frac{9\cdot\frac{1}{2}}{\frac{\sqrt{3}}{2}}\Rightarrow a=\frac{9}{\sqrt{3}}=\frac{9\cdot\sqrt{3}}{3}=3\sqrt{3}$$

$$\Rightarrow a=3\sqrt{3}\,cm$$

دویم مثال: یو ساختماني انجینر غواړي چې د دوو ټکو تر منځ واټن چې په منځ کې یې یوه غونډۍ پرته ده پیدا کړي.

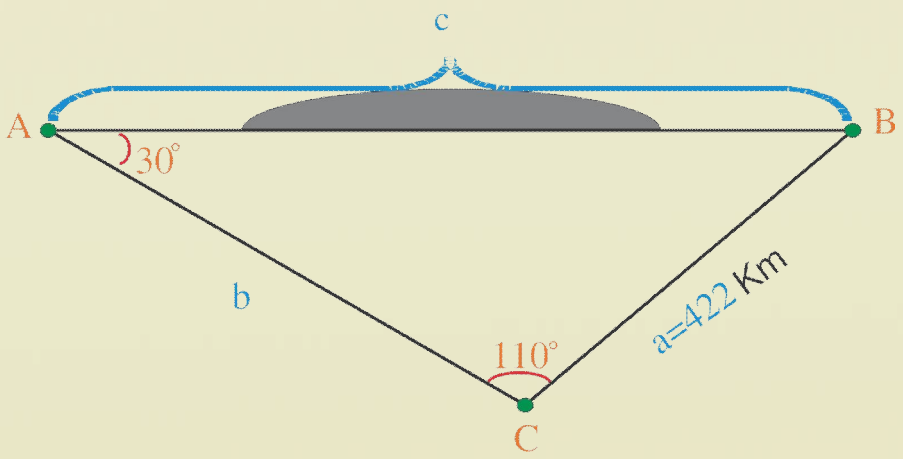

حل: د ساین د قانون په کارولو سره $\sin A$ او $\sin C$ ترمنځ رابطه په پام کې نیسو:

$$\frac{\sin A}{a}=\frac{\sin C}{c}$$

$$c=\frac{a\cdot\sin C}{\sin A}=\frac{422km\cdot\sin 110^\circ}{\sin 30^\circ}$$

خرنګه چې: $\sin 110^\circ=0.9396$ او $\sin 30^\circ=0.5$ دی.

نو: $$c=\frac{422km\cdot 0.9396}{0.5}\Rightarrow c=793.0224km$$

دریم مثال: په مخامخ شکل کې د دوو زاویو او یوې ضلعې اندازه درکړل شوې ده، د یوې نامعلومې زاویې او دوو ضلعو اندازې پیدا کړئ.

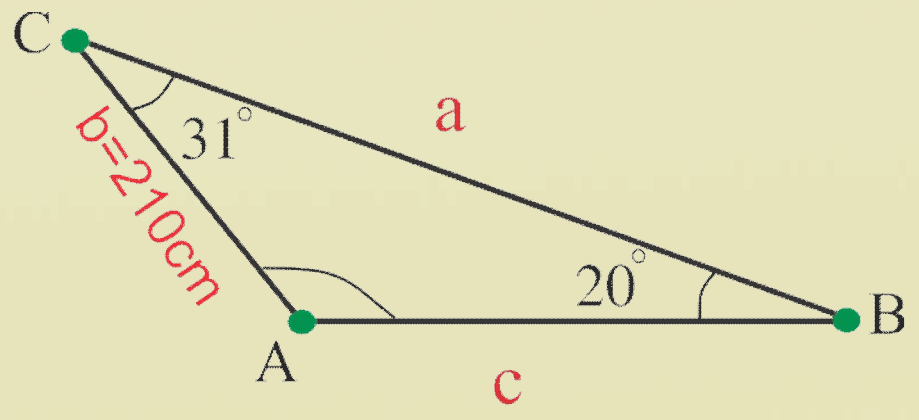

حل: پوهېږو چې د یوه مثلث د داخلي زاویو مجموعه 180° ده؛ نو نامعلومه زاویه یې داسې پیدا کولی شو:

$$A=180^\circ-(31^\circ+20^\circ)=180^\circ-51^\circ$$

$$A=129^\circ$$

(c) ketabton.com: The Digital Library

د a ضلعې د اوږدوالي د پيداکولو لپاره د ساين قانون په پام کې نيسو:

$$\frac{\sin A}{a}=\frac{\sin B}{b} \quad \Rightarrow \quad \frac{\sin 129^\circ}{a}=\frac{\sin 20^\circ}{210}$$

$$\Rightarrow a=\frac{\sin 129^\circ \cdot 210cm}{\sin 20^\circ}$$

خرنگه چې $\sin 20^\circ = 0.342$ او $\sin 129^\circ = 0.7771$ دي؛ نو:

$$a=\frac{0.7771\cdot 210}{0.342}=\frac{163.191}{0.342}=477.166cm$$

$$a=477.166cm$$

اوس د c ضلعې اوږدوالی د $\frac{\sin B}{b}=\frac{\sin C}{c}$ له رابطې څخه پيداکوو:

$$\frac{\sin B}{b}=\frac{\sin C}{c} \quad \Rightarrow \quad \frac{\sin 20^\circ}{210}=\frac{\sin 31^\circ}{c}$$

$$\Rightarrow c=\frac{210cm\cdot \sin 31^\circ}{\sin 20^\circ}$$

خرنگه چې $\sin 31^\circ = 0.5150$ دی د قيمتونو په اېښودلو سره ليکلای شو چې:

$$\Rightarrow c=\frac{210\cdot 0.5150}{0.342}=\frac{108.15}{0.342}=316.228cm$$

يادونه:

د ساين قانون هغه وخت کارولی شو چې:

- دوې زاويې او د معلومې زاويې مخامخ ضلع يې معلومه وي، يعنې: ($A\ \ AS$).
- دوه ضلعې او د معلومې ضلعې مخامخ زاويه يې معلومه وي، يعنې:(SAS).

بايد ووايو چې دلتهA د Angle او s د side مخفف دي.

(c) ketabton.com: The Digital Library

پوښتنې

1. که چیرې د یوه قایم الزاویه مثلث د ضلعو اوږدوالی $a = 8m$, $b = 6m$ او $c = 10m$ وي، د مثلث د زاویو اندازه پیدا کړئ.

2. لاندې شکل په پام کې ونیسئ د A او B د ښارونو ترمنځ واټن پیدا کړئ؟

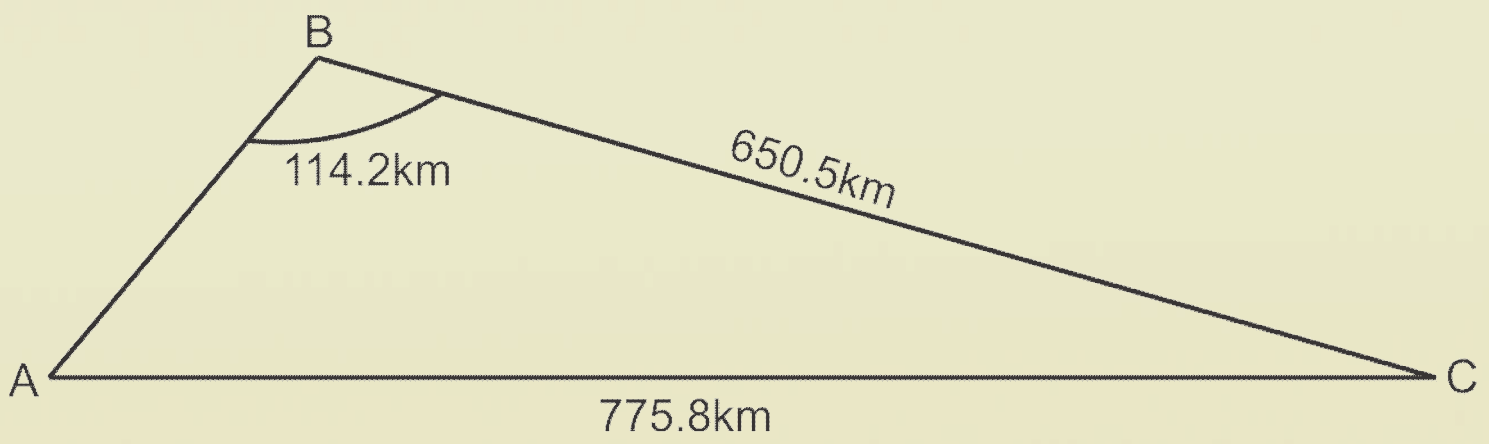

(c) ketabton.com: The Digital Library

د کوساین قانون

Law of cosine

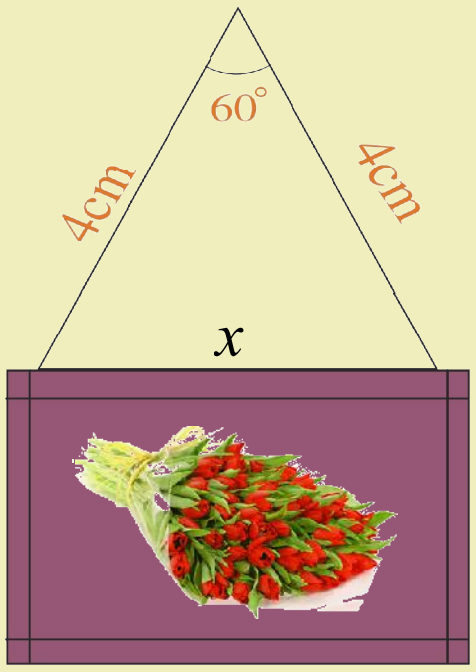

د یوه شکل چارت د مېخ په مرسته د دېوال پـر مـخ ځـړول شوی دی، که چېرې د مېخ د دوو خواوو د تار اوږدوالی هر یـو $4\,cm$ وي او د منـځ زاویـه یـې 60° وي، د تـار د دوو ټکو ترمنځ واټن (x) څرنګه پیدا کولی شو؟

فعالیت

- د ABC کیفي مثلث رسم او د C, B, A راسونو مخامخ ضلعې په ترتیب سره په c, b, a وښایاست.
- د B له رأس څخه د $\overline{AC}$ پر ضلع د H په ټکی کې ارتفاع رسم کړئ.
- په جوړ شوو قایم‌الزاویه مثلثونو کې د فیثاغورث قضیه تطبیق کړئ.
- په ABH قایم‌الزاویه مثلث کې د $\overline{AH}$ قیمت د A زاویې د کوساین د له جنسه پیـدا او د فیثاغورث په رابطه کې یې وضع کړئ.
- ممکنه الجبري محاسبې ترسره او وروستی رابطه یې ولیکئ.

د پورتني فعالیت د سرته رسولو څخه وروسته داسې ثبوتو:

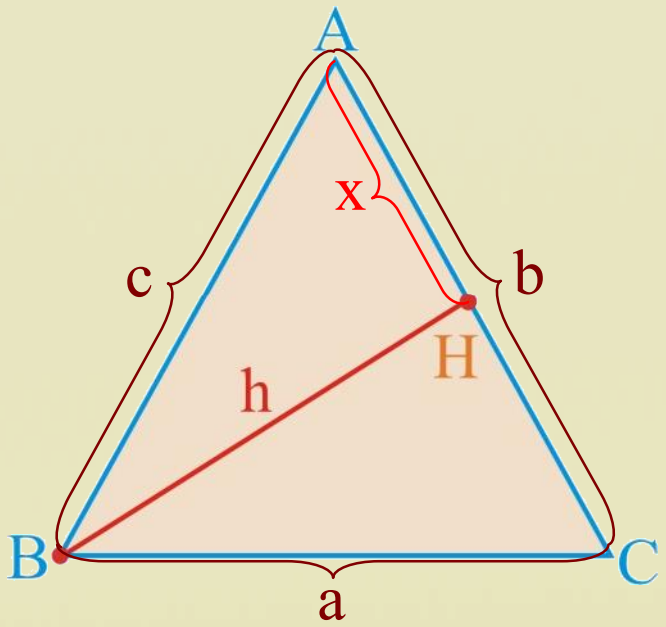

ثبوت: د ABC په حادەالزاویـه مثلـث کـې د $\overline{BH}$ ارتفـاع رسـموو

$$\overline{CH} = b - x \quad , \quad \overline{AH} = x \quad , \quad \overline{BH} = h$$

د BCH په قایم الزاویه مثلث کې لرو:

$$\overline{BC}^2 = \overline{CH}^2 + \overline{BH}^2$$

$$a^2 = (b - x)^2 + h^2 \quad .... \quad \text{I}$$

د AHB په قایم الزاویه مثلث کې د h اوږدوالی پیداکوو:

$$h^2 = c^2 - x^2 \quad .... \quad \text{II}$$

د I په رابطه کې د h^2 قیمت لیکو

$$a^2 = (b - x)^2 + c^2 - x^2$$

$$a^2 = b^2 - 2bx + x^2 + c^2 - x^2$$

$$a^2 = b^2 + c^2 - 2bx$$

(c) ketabton.com: The Digital Library

د AHB په قايم‌الزاويه مثلث کې:

$$\cos A=\frac{x}{c}\quad\Rightarrow\quad x=c\cdot\cos A$$

په $a^2=b^2+c^2-2bx$ رابطه کې د x پر ځای $c\cdot\cos A$ قیمت اېږدو، نو:

$$\cos A=\frac{b^2+c^2-a^2}{2bc}\qquad \text{یا}\qquad a^2=b^2+c^2-2bc\cos A$$

پایله:په يو اختياری مثلث کې مو دا $\cos A=\dfrac{b^2+c^2-a^2}{2bc}...I$ یا $a^2=b^2+c^2-2bc\cos A$

رابطه ثبوت کړه، په همدې ډول لاندې رابطې هم ثبوت کولای شو.

$$\cos B=\frac{a^2+c^2-b^2}{2ac}....II\qquad \text{یا}\qquad b^2=a^2+c^2-2ac\cos B$$

$$\cos C=\frac{a^2+b^2-c^2}{2ab}....III\qquad \text{یا}\qquad c^2=b^2+a^2-2ba\cos C$$

په هر مثلث کې د يوې زاويې کوساين (Cos) مساوی دی د زاويې د دواړو ضلعو د مربعاتو مجموعه منفي د زاويې د مقابلې ضلعې مربع د زاويې د دواړو ضلعو د حاصل ضرب په دو چند باندې.

فعالیت

- د تېرمخ د مثلث د شکل په مرسته د کوساين قانون د II او III رابطې ثبوت کړئ.

يادونه: د کوساين قانون هغه وخت کارولی شو چې:

- چې دوې ضلعې او د منځ زاويه يې معلومه وي. (SAS).
- د مثلث درې ضلعې معلومې وي. (SSS).

د ساين او کوساين د قانون له کارولو څخه، د مثلث د عناصرو د پیداکولو لپاره له لاندې جدول څخه کار اخلو:

د یوه مثلث د عناصرو پيدا کول	
کله چې د یوه مثلث د دريو ضلعو اوږدوالی معلوم وي، د کوساين له قانون څخه ګټه اخلو.	(SSS) (ضلع، ضلع، ضع)
کله چې د یوه مثلث د دوو زاويو او د يوې معلومې زاويې د مقابلې ضلعې اندازه معلومه وي، د ساين له قانون څخه ګټه اخلو.	SAA (زاويه، زاويه، ضلع)
کله چې د یوه مثلث د دوو ضلعو او د يوې معلومې ضلعې د مقابلې زاويې اندازه معلومه وي، د ساين له قانون څخه ګټه اخلو.	ASA (زاويه، ضلع، زاويه)
کله چې د يو مثلث د دوو ضلعو او د هغوی ترمنځ د زاويې اندازه معلومه وي، د کوساين له قانون څخه ګټه اخلو.	SAS (ضلع،زاويه، ضلع)
امکان نه لري	AAA (زاويه، زاويه، زاويه)

(c) ketabton.com: The Digital Library

لومړی مثال: د ABC په مثلث کې د هغو دریو ضلعو اندازې په لاندې ډول راکړل شوي دي، د A زاویې اندازه وټاکئ.

حل:

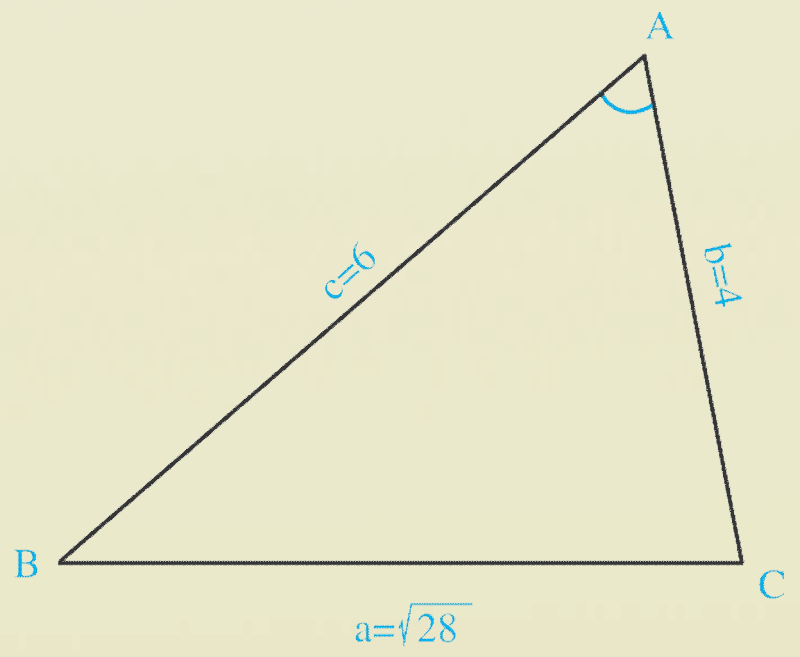

$$a=\sqrt{28}\quad,\quad b=4\quad,\quad c=6\quad,\quad A=?$$
$$a^2=b^2+c^2-2bc.\cos A$$
$$(\sqrt{28})^2=(4)^2+(6)^2-2\cdot4\cdot6\cos A$$
$$28=16+36-48\cos A\quad\Rightarrow\quad 28=52-48\cos A$$
$$48\cos A=52-28\quad\Rightarrow\quad 48\cos A=24$$
$$\cos A=\frac{24}{48}=\frac{1}{2}$$
$$\boxed{A=60^\circ}$$

دویم مثال: که چېرې د ABC په مثلث کې د دوو ضلعو اوږدوالی $a=16$, $b=10$ واحده او د منځ زاویه یې $C=110^\circ$ وي، د c ضلعې اوږدوالی یې پیدا کړئ.

حل:

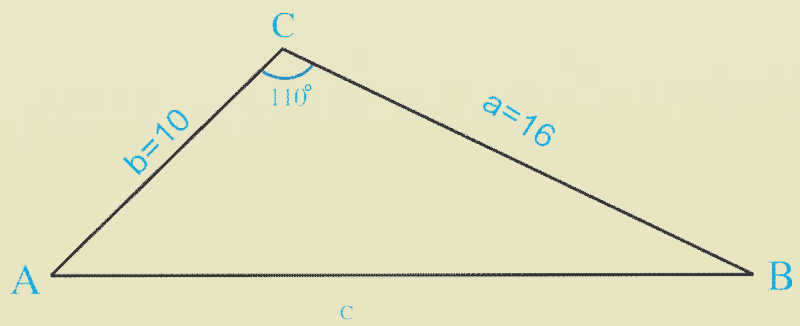

$$c^2=a^2+b^2-2ab\cos C$$
$$c^2=(16)^2+(10)^2-2(16)(10)\cos110^\circ$$
$$c^2=256+100-320\cos110^\circ$$
$$c^2=356-320\cos110^\circ$$
$$c=\sqrt{356-320\cos110^\circ}$$

څرنګه چې : $\cos110^\circ=-0.342$ دی، نو:

$$c=\sqrt{356-320(-0.342)}\quad\Rightarrow\quad c=\sqrt{356+109.44}$$
$$\boxed{c=21.57}$$

درېیم مثال: یو پتنګ(کاغذ پران) له $100\,m$ تار سره په هوا کې دی، که تار د ځمکې له سطحې سره 60° زاویه جوړه کړې وي، له ځمکې څخه د پتنګ لوړوالی پیدا کړئ.

حل: د OHL په قایم‌الزاویه مثلث کې لرو چې:

$$\cos60^\circ=\frac{\overline{OL}}{\overline{OH}}=\frac{x}{100}\quad\Rightarrow\quad x=100\cdot\cos60^\circ=100\cdot\frac{1}{2}=50m$$

(c) ketabton.com: The Digital Library

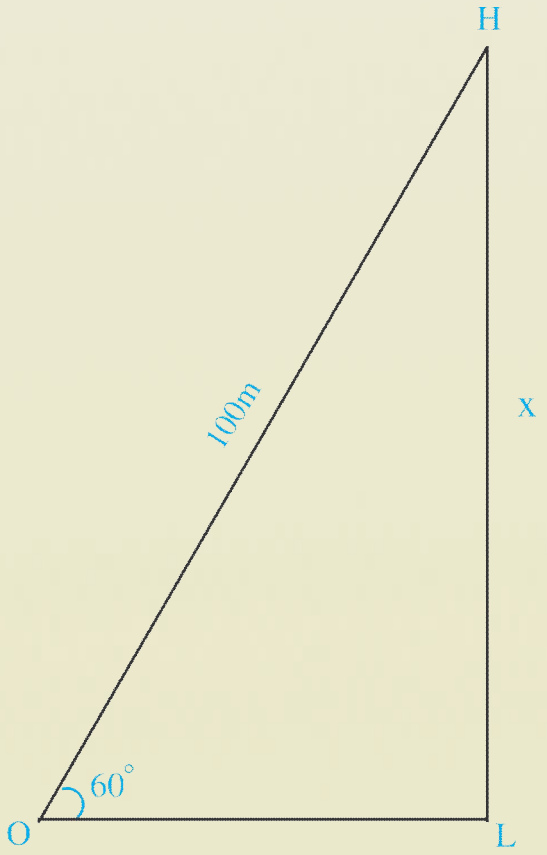

د کوساین قانون له مخې لرو چې:

$$\overline{HL}^2 = \overline{OH}^2 + \overline{OL}^2 - 2\overline{OH}\cdot\overline{OL}\cdot\cos 60^\circ$$

$$\overline{HL}^2 = (100)^2 + (50)^2 - 2\cdot 100\cdot 50\cdot\frac{1}{2}$$

$$\overline{HL}^2 = 10000 + 2500 - 5000$$

$$\overline{HL}^2 = 7500m^2 \quad \Rightarrow \overline{HL} = \sqrt{7500}m = 50\sqrt{3}\,m$$

$$\overline{HL} = 86.6m$$

څلورم مثال: که چېرې د ABC په مثلث کې د $\hat{A} = 60^\circ$, $b = 5, c = 8$ وي، د a او $\sin C$ اندازه پیدا کړئ.

حل: لومړی د کوساین د قضیې په کارلو سره د a ضلع او بیا $\sin C$ پیدا کوو.

$$a^2 = b^2 + c^2 - 2bc\cos A \quad \Rightarrow \quad a^2 = 25 + 64 - 80\cdot\frac{1}{2} = 89 - 40$$

$$a^2 = 49 \quad \Rightarrow \quad a = 7$$

د ساین د قضیې له مخې لیکو چې:

$$\frac{\sin C}{c} = \frac{\sin A}{a}$$

$$\sin C = \frac{c\cdot\sin A}{a} = \frac{8\cdot\frac{\sqrt{3}}{2}}{7}$$

$$\Rightarrow \sin C = \frac{4\sqrt{3}}{7}$$

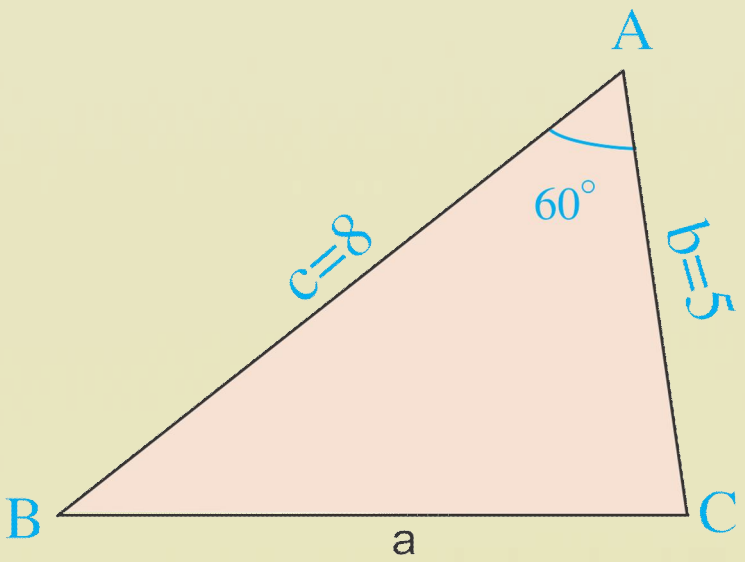

پوښتنې

1. که چېرې د ABC په مثلث کې $b = 4ft, a = 5ft$ او $A = 45^\circ$ وي، د مثلث نامعلومې ضلعې او زاویې پیدا کړئ.

2. که چېرې په یوه مثلث کې $a = 3cm$ او $b = 9cm$ او د دوی ترمنځ زاویه 60° وي د c د ضلعې اوږدوالی یې پیدا کړئ؟

(c) ketabton.com: The Digital Library

$$\frac{a+b}{a-b}=\frac{\tan\frac{A+B}{2}}{\tan\frac{A-B}{2}}$$

د ټانجنټ قانون

Law of tangent

آیا په هر مثلث کې د زاویو او ضلعو ترمنځ مخامخ اړیکه شتون لري؟

فعالیت

- د ساین قانون رابطه ولیکئ او هغه له D سره مساوي په پام کې ونیسئ.
- د $\frac{b}{\sin B}=\frac{a}{\sin A}$ تناسب هر نسبت په جلا جلا ډول مساوي له D سره ولیکئ.
- پورته دوه نسبتونه د ضلعو د اوږدوالي له مخې ولیکئ.
- دوه پورتنی اړیکې لومړی جمع او بیا یې تفریق کړئ.
- لاس ته راغلې اړیکې یو پر بل وویشئ.
- الجبري محاسبې ترسره او د پایلې فورمول ولیکئ.

د پورته فعالیت د سرته رسولو وروسته لاندې پایله لاس ته راځي.

پایله: په هر مثلث کې د ټانجنټ قانون عبارت ده له :

$$\frac{a+b}{a-b}=\frac{\tan\frac{A+B}{2}}{\tan\frac{A-B}{2}}$$

ثبوت: د ساین قانون دوه نسبتونه له D سره مساوي لیکو:

$$\frac{a}{\sin A}=\frac{b}{\sin B}=D$$

$$\frac{a}{\sin A}=D \quad\Rightarrow\quad a=D\sin A \qquad , \qquad \frac{b}{\sin B}=D \quad\Rightarrow\quad b=D\sin B$$

پورتنی اړیکې لومړی جمع او بیا تفریقوو:

$$a+b=D(\sin A+\sin B)$$

$$a-b=D(\sin A-\sin B)$$

پورتنی اړیکې یو پر بل وېشو:

$$\frac{a+b}{a-b}=\frac{\sin A+\sin B}{\sin A-\sin B}$$

د ضرب له فورمولونو څخه لرو:

$$\sin A+\sin B=2\sin\frac{A+B}{2}\cos\frac{A-B}{2}$$

$$\sin A-\sin B=2\cos\frac{A+B}{2}\sin\frac{A-B}{2}$$

(c) ketabton.com: The Digital Library

$$\frac{a+b}{a-b}=\frac{\sin A+\sin B}{\sin A-\sin B}=\frac{2\sin\frac{A+B}{2}\cos\frac{A-B}{2}}{2\cos\frac{A+B}{2}\sin\frac{A-B}{2}}=\frac{\sin\frac{A+B}{2}}{\cos\frac{A+B}{2}}\cdot\frac{\cos\frac{A-B}{2}}{\sin\frac{A-B}{2}}$$

$$\Rightarrow\frac{a+b}{a-b}=\tan\frac{A+B}{2}\cdot\cot\frac{A-B}{2}$$

څرنګه چې $\frac{1}{\tan\frac{A-B}{2}}=\cot\frac{A-B}{2}$ دی.

نو په پایله کې لیکلی شو چې:

$$\frac{a+b}{a-b}=\frac{\tan\frac{A+B}{2}}{\tan\frac{A-B}{2}}$$

فعالیت

- لاندې رابطې ثبوت کړئ.

$$\frac{b+c}{b-c}=\frac{\tan\frac{B+C}{2}}{\tan\frac{B-C}{2}}\quad,\quad\frac{c+a}{c-a}=\frac{\tan\frac{C+A}{2}}{\tan\frac{C-A}{2}}$$

- پورتنۍ رابطې په یوه مثلث کې د ټانجنټ قانون بلل کېږي.

لومړی مثال: د ABC په مثلث کې $\frac{1}{\sqrt{3}}=\frac{b-c}{b+c}$ او $A=90^\circ$ دی، د B او C زاویو اندازه پیدا کړئ.

حل: پوهېږو چې په هر مثلث کې:

$$A+B+C=180^\circ$$

$$\Rightarrow B+C=180^\circ-A=180^\circ-90^\circ\Rightarrow B+C=90^\circ\quad ...I$$

$$B+C=90^\circ\Rightarrow\frac{B+C}{2}=45^\circ$$

$$\frac{b-c}{b+c}=\frac{\tan\frac{B-C}{2}}{\tan\frac{B+C}{2}}\Rightarrow\frac{\sqrt{3}}{3}=\frac{\tan\frac{B-C}{2}}{\tan 45^\circ}$$

څرنګه چې $\tan 45^0=1$ سره ده، نو:

$$\tan\frac{B-C}{2}=\frac{\sqrt{3}}{3}$$

پوهېږو چې $\tan 30=\sqrt{\frac{3}{3}}$ سره ده، نو:

(c) ketabton.com: The Digital Library

$$\tan\frac{B-C}{2}=\frac{\sqrt{3}}{3}\Rightarrow \tan 30^\circ=\tan\frac{B-C}{2}$$
$$\frac{B-C}{2}=30^\circ \Rightarrow B-C=60^\circ \quad ...II$$

له I او II اړیکو څخه لاندې پایله په لاس راځي:

$$B-C=60^\circ \quad .... \text{ I}$$
$$B+C=90^\circ \quad .... \text{ II}$$
$$2B=150^\circ$$
$$\boxed{B=75^\circ}$$

اوس د B قیمت په اېښودلو سره د C زاویه پیدا کوو:

$$B-C=60^\circ$$
$$75^\circ-C=60^\circ$$
$$-C=60^\circ-75^\circ$$
$$\boxed{C=15^\circ}$$

دویم مثال: که چېرې د ABC په مثلث کې $c=432\ ,\ B=42^\circ\ \ 30'$ او $a=925$ وي، د تانجنټ قانون څخه په ګټې د مثلث نورې نامعلومې اجزاوې پیدا کړئ.

حل:

$$A+B+C=180^\circ \ \Rightarrow\ A+C=180^\circ-B \ \Rightarrow\ A+C=180^\circ-42^\circ\ \ 30'$$
$$\Rightarrow A+C=179^\circ\ 60'-42^\circ\ \ 30'\Rightarrow A+C=137^\circ\,30' \ \ .... \text{ I}$$
$$\frac{A+C}{2}=\frac{137^\circ\ 30'}{2}\Rightarrow\frac{A+C}{2}=\frac{136^\circ\,90'}{2}=68^\circ\ \ 45'$$
$$\frac{\tan\frac{A+C}{2}}{\tan\frac{A-C}{2}}=\frac{a+c}{a-c}\Rightarrow\frac{\tan 68^\circ\ 45'}{\tan\frac{A-C}{2}}=\frac{925+432}{925-432}\ \Rightarrow\ \frac{\tan 68^\circ\ 45'}{\tan\frac{A-C}{2}}=\frac{1357}{493}$$
$$\Rightarrow 1357\cdot\tan\frac{A-C}{2}=493\cdot\tan 68^\circ\ 45'\ \Rightarrow\ \tan\frac{A-C}{2}=\frac{493}{1357}\cdot\tan 68^\circ\ 45'$$

(c) ketabton.com: The Digital Library

له مثلثاتي جدول څخه پوهېږو چې $\tan 68^\circ \ 45' = 2.571$ دی؛ نو:

$$\tan\frac{A-C}{2} = 0.363 \cdot 2.571 \ \Rightarrow \tan \ \frac{A-C}{2} = 0,933$$

$$\Rightarrow \frac{A-C}{2} = 43^0 \Rightarrow \boxed{A-C = 86^\circ \quad .... \ \text{II}}$$

اوس د I او II رابطو په پام کې نیولو سره د A زاوېې قیمت پیدا کوو:

$$A + C = 137^\circ \ 30' \quad ...I$$
$$\underline{A - C = 86^\circ \qquad} ...II$$
$$2A = 223^\circ \, 30 \Rightarrow 2A = 222^\circ \, 90' \Rightarrow A = 111^\circ 45'$$

اوس غواړو د C زاویې قیمت پیدا کړو:

$$A + C = \ 137^\circ 30' = 136^\circ 90'$$

$$\Rightarrow C = 136^\circ \ 90' - A = 136^\circ 90' - 111^\circ 45'$$

$$\Rightarrow C = 25^\circ 45'$$

اوس د ساین قانون په مرسته د b ضلعې اوږدوالی پیدا کوو:

$$\frac{b}{\sin B} = \frac{c}{\sin C} \Rightarrow b = c \cdot \frac{\sin B}{\sin C}$$

$$b = 432 \cdot \frac{\sin 42^\circ 30'}{\sin 25^\circ \ 45'}$$

په پورته رابطه کې د زاویو د ساین قیمتونه لیکو:

$$\sin 25^\circ \ 45' = 0.434$$

$$\sin 42^\circ \ 30' = 0.676$$

$$b = 432 \cdot \frac{0.676}{0.434} = 672.885$$

پوښتنې

د مثلث نامعلومې اجزاوې د ټانجنټ قانون په کارونې سره پیدا کړئ.

a) که چېرې $a = 35 ft$, $B = 60^\circ$ او $C = 75^\circ$ وي.

b) که چېرې $A = 45^\circ$, $b = 37m$ او $B = 75^\circ$ وي.

(c) ketabton.com: The Digital Library

مثلثاتي مطابقتونه

Trigonometry identities

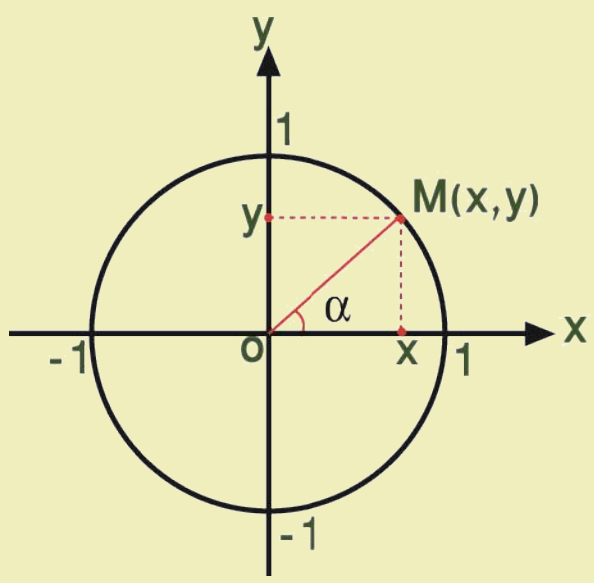

پـوهېږو چــې $(a+b)^2 = a^2 + 2ab + b^2$ يــو الجبــري مطابقــت دی، ځکــه د a او b پــه ټولــو قيمتونــو سـره د مساوات داوړه خواوې برابرېږي.

آيا $\sin^2\alpha + \cos^2\alpha = 1$ يو مثلثاتي مطابقت کېدلی شي؟

فعاليت

- په لاندې جدول کې د α د مختلفو قيمتونو لپاره د A او B افادو قيمتونه بشپړ کړئ.

α	$A = \dfrac{\cot\alpha}{\csc\alpha - 1}$	$B = \dfrac{\csc\alpha + 1}{\cot\alpha}$
0°		
30°		
45°		
60°		
90°		

- د جدول له بشپړولو څخه وروسته د A او B قيمتونه پرتله او رابطه يې وليکئ.

له پورتني فعاليت څخه لاندې تعريف لاس ته راځي.

تعريف: هغه مثلثاتي مساوات چې د زاويې پـه ټولـو قيمتونـو سره ، د مـساوات دواړه خـواوې برابـرې شــي، مثلثاتي مطابقت بلل کېږي،لکه:

$$\frac{\cot\alpha}{\csc\alpha - 1} = \frac{\csc\alpha + 1}{\cot\alpha}$$

که α هر قيمت واخلي، د پورته مساواتو دواړه خواوې مساوي کېږي.

(c) ketabton.com: The Digital Library

د $\sin^2\alpha + \cos^2\alpha = 1$ مطابقت ثبوت کړئ.

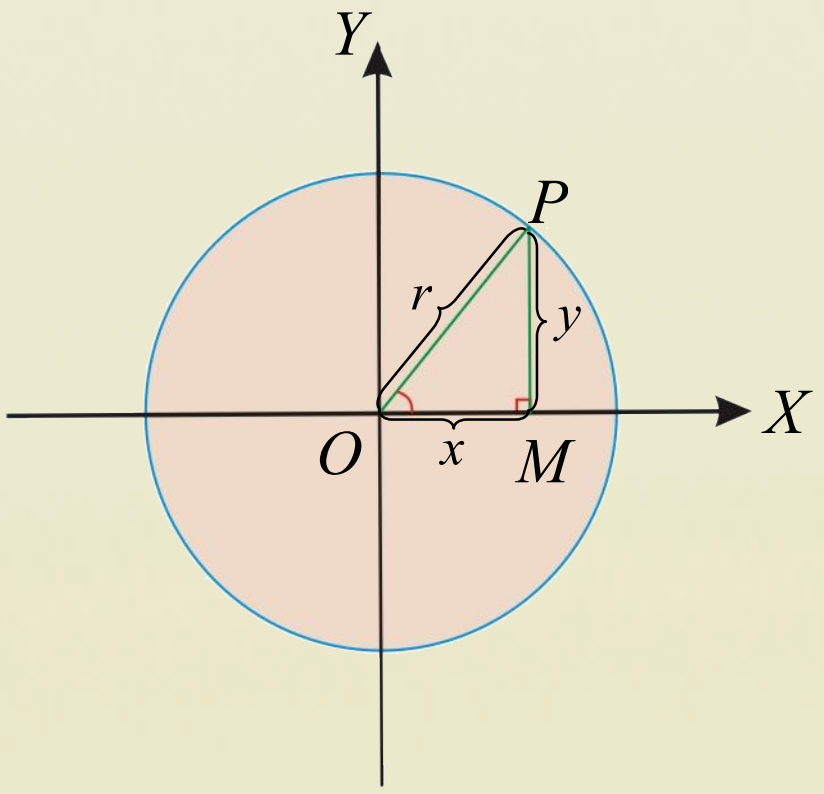

ثبوت: د $C(O,r)$ په دایره کې د OMP قایم‌الزاویه مثلث

د سموو او کولای شو ویې لیکو:

$$\sin\alpha = \frac{y}{r} \text{ او } \cos\alpha = \frac{x}{r}$$

د فیثارغورث د قضیې څخه کولای شو ولیکو:

$$y^2 + x^2 = r^2$$

د مساوات دواړه خواوې په r^2 ویشو:

$$\frac{x^2}{r^2} + \frac{y^2}{r^2} = \frac{r^2}{r^2} \quad \text{یا} \quad (\frac{x}{r})^2 + (\frac{y}{r})^2 = 1$$

اوس د $\frac{y}{r}$ په ځای $\sin\alpha$ او $\frac{x}{r}$ په ځای $\cos\alpha$ لیکو.

نو لیکلی شو: $\sin^2\alpha + \cos^2\alpha = 1$

د مثلثاتو اساسي رابطې عبارت دي له:

$$\sin^2\alpha + \cos^2\alpha = 1 \quad , \quad 1 + \tan^2\alpha = \sec^2\alpha \quad , \quad 1 + \cot^2\alpha = \csc^2\alpha$$

د مثلثاتو فرعي رابطې عبارت دي له:

$$\sec\alpha = \frac{1}{\cos\alpha} \quad , \quad \cos\alpha \cdot \sec\alpha = 1$$

$$\csc\alpha = \frac{1}{\sin\alpha} \quad , \quad \sin\alpha \cdot \csc\alpha = 1 \quad , \quad \cot\alpha = \frac{\cos\alpha}{\sin\alpha}$$

$$tag\,\alpha = \frac{\sin\alpha}{\cos\alpha} \quad , \quad \tan\alpha \cdot \cot\alpha = 1 \quad , \quad \cot\alpha = \frac{1}{\tan\alpha}$$

اوس غواړو د $1 + \tan^2\alpha = \sec^2\alpha$ رابطه ثبوت کړو.

ثبوت: د فیثاغورث د قضیې په کارلو سره لیکو $x^2 + y^2 = r^2$

د مساوات دواړه خواوې په x^2 ویشو. $\frac{x^2}{x^2} + \frac{y^2}{x^2} = \frac{r^2}{x^2} \Rightarrow 1 + (\frac{y}{x})^2 = (\frac{r}{x})^2$

په نتیجه کې په پورته افاده کې د $\frac{r}{x} = \sec\alpha$ او $\frac{y}{x} = \tan\alpha$ د قیمتونو په ایښودلو سره کولای شو

ولیکو: $1 + \tan^2\alpha = \sec^2\alpha$

(c) ketabton.com: The Digital Library

فعالیت

- د مثلثاتي نسبتونو په کارولو سره ثبوت کړئ چې:

$$\sec\alpha = \frac{1}{\cos\alpha} \quad , \quad \cot\alpha = \frac{1}{\tan\alpha} \quad , \quad 1+\cot^2\alpha = \csc^2\alpha$$

په عمومي توګه د مطابقتونو د حل یا ثبوت لپاره د مساوات د یوې خوا له افادې څخه د بلې خوا افاده لاس ته راوړو، یعنې د مطابقتونو یوې خواته مختلفې عملیې لکه: مربع کول، تجزیه، ضرب او نورې عملیې سر ته رسوو، څو د بلې خوا افاده لاس ته راشي، که چېرې د یوې الجبري افادې حدود د یوې یا څو زاویو د مثلثاتي نسبتونو له جنسه وي، مثلثاتي افاده بلل کېږي، د مثلثاتي رابطو په واسطه مثلثاتي افادې ساده کولی شو. د موضوع د لا ښه پوهېدو لپاره لاندې مثلثاتي مطابقتونو مثالونه په پام کې ونیسئ.

لومړی مثال: د $\dfrac{\sin\alpha\cos\alpha\cdot\tan\alpha\cot\alpha}{1-\sin^2\alpha}$ مثلثاتي افاده ساده کړئ.

حل:

$$\frac{\sin\alpha\ \cos\alpha\ \dfrac{\sin\alpha}{\cos\alpha}\cdot\dfrac{\cos\alpha}{\sin\alpha}}{\cos^2\alpha} = \frac{\sin\alpha\cdot\cos\alpha}{\cos^2\alpha} = \frac{\sin\alpha}{\cos\alpha} = \tan\alpha$$

دویم مثال: د $\sin^2\beta\cdot\cot^2\beta+\cos^2\beta\cdot\tan^2\beta+\tan^2\beta = 1+\tan^2\beta$ مثلثاتي افاده ساده کړئ.

حل: په لاندې ډول افاده ساده کوو:

$$\sin^2\beta\cot^2\beta+\cos^2\beta\tan^2\beta+\tan^2\beta = \sin^2\beta\frac{\cos^2\beta}{\sin^2\beta}+\cos^2\beta\cdot\frac{\sin^2\beta}{\cos^2\beta}$$

$$+\tan^2\beta = \cos^2\beta+\sin^2\beta+\tan^2\beta = 1+\tan^2\beta$$

دریم مثال: لاندې افاده د $\cos\beta$ له جنسه حساب کړئ.

$$(1-\sin^2\beta)\ (1+\sec^2\beta) = ?$$

حل: $$(1-\sin^2\beta)(1+\sec^2\beta) = \cos^2\beta(1+\frac{1}{\cos^2\beta}) = \cos^2\beta(\frac{\cos^2\beta+1}{\cos^2\beta}) = \cos^2\beta+1$$

(c) ketabton.com: The Digital Library

څلورم مثال: ثبوت کړئ چې $(\sin\alpha+\cos\alpha)^2+(\sin\alpha-\cos\alpha)^2=2$

حل:د مطابقت د کیڼ اړخ قوسونو ته انکشاف ورکوو.

$$(\sin\alpha+\cos\alpha)^2+(\sin\alpha-\cos\alpha)^2=2$$

$$\sin^2\alpha+2\sin\alpha\cos\alpha+\cos^2\alpha+\sin^2\alpha-2\sin\alpha\cos\alpha+\cos^2\alpha=2$$

$$2\sin^2\alpha+2\cos^2\alpha=2(\sin^2\alpha+\cos^2\alpha)=2\cdot1=2$$

پنځم مثال: لاندي مطابقت ثبوت کړئ.

$$\frac{\sin A}{1+\cos A}+\frac{1+\cos A}{\sin A}=2\csc A$$

حل:

$$\frac{\sin A}{1+\cos A}+\frac{1+\cos A}{\sin A}=2\csc A$$

$$\frac{\sin^2 A+(1+\cos A)^2}{\sin A(1+\cos A)}=\frac{\sin^2 A+1+2\cos A+\cos^2 A}{\sin A(1+\cos A)}=\frac{\sin^2 A+\cos^2 A+1+2\cos A}{\sin A(1+\cos A)}$$

$$\frac{1+1+2\cos A}{\sin A(1+\cos A)}=\frac{2+2\cos A}{\sin A(1+\cos A)}=\frac{2(1+\cos A)}{\sin A(1+\cos A)}=2\cdot\frac{1}{\sin A}=2\csc A$$

شپږم مثال: وښایاست چې $\frac{1+\tan^2 A}{1+\cot^2 A}=\tan^2 A$

حل:

$$1+\tan^2 A=\sec^2 A$$

$$1+\cot^2 A=\csc^2 A$$

$$\frac{\sec^2 A}{\csc^2 A}=\tan^2 A \quad\Rightarrow\quad \frac{\frac{1}{\cos^2 A}}{\frac{1}{\sin^2 A}}=\frac{\sin^2 A}{\cos^2 A}=\left(\frac{\sin A}{\cos A}\right)^2=(\tan A)^2=\tan^2 A$$

(c) ketabton.com: The Digital Library

اووم مثال: لاندې مطابقت ثبوت کړئ.

$$(\sin\alpha+\cos\alpha)(\cot\alpha+\tan\alpha)=\frac{1}{\cos\alpha}+\frac{1}{\sin\alpha}$$

حل: د کيڼې خوا په افاده کې د $\cot\alpha$ او $\tan\alpha$ قيمتونه د $\sin\alpha$ او $\cos\alpha$ له جنسه اېږدو.

$$(\sin\alpha+\cos\alpha)\left(\frac{\cos\alpha}{\sin\alpha}+\frac{\sin\alpha}{\cos\alpha}\right)$$

$$=(\sin\alpha+\cos\alpha)\left(\frac{\cos^2\alpha+\sin^2\alpha}{\sin\alpha\cos\alpha}\right)=(\sin\alpha+\cos\alpha)\frac{1}{\sin\alpha\cdot\cos\alpha}$$

$$=\frac{\sin\alpha}{\sin\alpha\cdot\cos\alpha}+\frac{\cos\alpha}{\sin\alpha\cdot\cos\alpha}=\frac{1}{\cos\alpha}+\frac{1}{\sin\alpha}$$

$$(\sin\alpha+\cos\alpha)(\cot\alpha+\tan\alpha)=\frac{1}{\cos\alpha}+\frac{1}{\sin\alpha}$$

اتم مثال: د $\frac{\cos(x-y)}{\cos x\sin y}=\tan x+\cot y$ مطابقت ثبوت کړئ.

حل:

$$\frac{\cos(x-y)}{\cos x\sin y}=\frac{\cos x\cos y+\sin x\sin y}{\cos x\sin y}$$

$$=\frac{\cos x\cos y}{\cos x\sin y}+\frac{\sin x\sin y}{\cos x\sin y}=\frac{\cos y}{\sin y}+\frac{\sin x}{\cos x}$$

$$=\cot y+\tan x=\tan x+\cot y$$

نهم مثال: د $\sin^2\frac{x}{2}=\frac{\tan x-\sin x}{2\tan x}$ مطابقت ثبوت کړئ.

حل: پوهېږو چې $\sin^2\frac{x}{2}=\frac{1-\cos x}{2}\Rightarrow\sin^2\frac{x}{2}=\frac{1-\cos x}{2}=(\pm\sqrt{\frac{1-\cos x}{2}})^2$ $\sin^2\frac{x}{2}$ دی.

اوس د معادلې ښۍ خوا په $\frac{\tan x}{\tan x}$ کې ضربوو؛ نو:

$$\sin^2\frac{x}{2}=\frac{\tan x}{\tan x}\cdot\frac{1-\cos x}{2}=\frac{\tan x-\tan x\cos x}{2\tan x}=\frac{\tan x-(\frac{\sin x}{\cos x})\cos x}{2\tan x}=\frac{\tan x-\sin x}{2\tan x}$$

$$\sin^2\frac{x}{2}=\frac{\tan x-\sin x}{2\tan x}$$

(c) ketabton.com: The Digital Library

لسم مثال: د $\frac{1+\sin x}{\cos x}+\frac{\cos x}{1+\sin x}=2\sec x$ مطابقت ثبوت کړئ.

حل:

$$\frac{1+\sin x}{\cos x}+\frac{\cos x}{1+\sin x}=\frac{(1+\sin x)^2+\cos^2 x}{\cos x(1+\sin x)}$$

$$=\frac{1+2\sin x++\sin^2 x+\cos^2 x}{\cos x(1+\sin x)}$$

$$=\frac{1+2\sin x+1}{\cos x(1+\sin x)}=\frac{2+2\sin x}{\cos x(1+\sin x)}$$

$$=\frac{2(1+\sin x)}{\cos x(1+\sin x)}=\frac{2}{\cos x}=2\cdot\frac{1}{\cos x}$$

$$=2\sec x$$

پوښتنې

1. د مثلثاتو د اساسي رابطو په پام کې نیولو سره د هرې پوښتنې معادله افاده پیدا کړئ.

$a)\ \frac{\sin 250^\circ}{\cos 250^\circ}$ $\qquad b)\ \sqrt{\sec^2\beta-1}$ $\qquad c)\ \frac{1}{\cos 80^\circ}$

2. هره افاده د $\sin\beta$ له جنسه پیدا کړئ.

$a)\ \cot\beta\cos\beta$, $\qquad b)\ \cot^2\beta$

3. لاندې مطابقتونه ثبوت کړئ.

$a)\ \frac{\csc\alpha}{\cot\alpha+\tan\alpha}=\cos\alpha$ $\qquad b)\ \frac{1-\tan^2 x}{1+\tan^2 x}=\cos 2x$

$c)\ \frac{\sin\alpha+\sin 2\alpha}{1+\cos\alpha+\cos 2\alpha}=\tan\alpha$ $\qquad d)\ \frac{\tan x-\cot x}{\tan+\cot x}=1-2\cos^2 x$

(c) ketabton.com: The Digital Library

مثلثاتي معادلې

Trigonometric equation

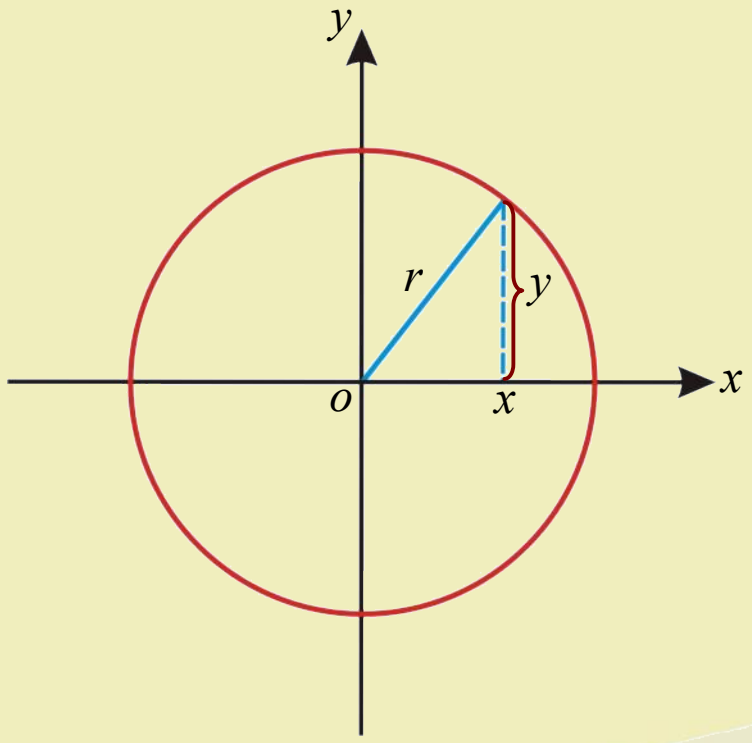

پوهیږو چې $\sin^2\alpha + \cos^2\alpha = 1$ یو مثلثاتي مطابقت دی، آیا $\sin\alpha + \cos\alpha = 1$ یو مطابقت دی که یوه معادله؟

فعالیت

- په لاندې جدول کې د $1 - 2\sin\beta = 0$ او $1 + tag^2\beta = \sec^2\beta$ د β د کومو قیمتونو لپاره صحیح دي.

β	$1 - 2\sin\beta = 0$	$1 + \tan^2\beta = \sec^2\beta$
0°		
30°		
60°		
90°		

- د β د مختلفو قیمتونو لپاره د $1 + \tan^2\beta = \sec^2\beta$ او $1 - 2\sin\beta = 0$ ترمنځ څه ډول اړیکې شتون لري.

_ آیا $1 + \tan^2\beta = \sec^2\beta$ یو مطابقت دی، که یوه معادله؟

_ آیا $1 - 2\sin\beta = 0$ یو مطابقت دی، که یوه معادله؟

له پورتني فعالیت څخه لاندې تعریف په لاس راځي.

تعریف: هغه مثلثاتي مساوات چې د زاویې په ځینو قیمتونو سره د مساوات دواړه خواوې مساوي کېږي، مثلثاتي معادله بلل کېږي.

هر مثلثاتي مطابقت یوه معادله کېدلی شي، خو هره مثلثاتي معادله، مثلثاتي مطابقت نه شي کېدلای.

هره مثلثاتي معادله له لاندې څلورو حالتونو څخه په یو حالت باندې حل کولی شو.

(c) ketabton.com: The Digital Library

لومړی حالت: $a\sin\alpha + b = 0$

د پورتني معادلې په حل کې د مناسب ځواب د پيداکولو لپاره لاندې مثالونه په پام کې ونيسئ.

مثال: د $2\sin x - 1 = 0$ مثلثاتي معادلې د حل سټ پيدا کړئ.

حل: لومړی د $\sin x$ قيمت لاسته راوړو: $2\sin x - 1 = 0 \quad \Rightarrow \quad 2\sin x = 1 \quad \Rightarrow \quad \sin x = \frac{1}{2}$

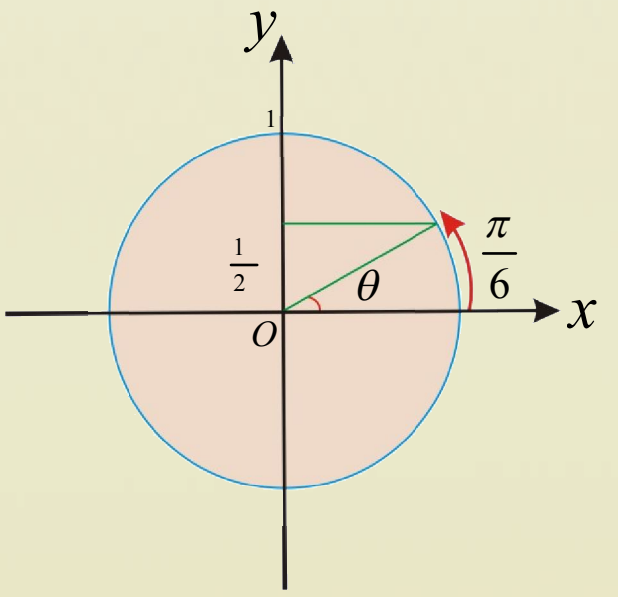

اوس د $\left[-\frac{\pi}{2}, \frac{\pi}{2}\right]$ په انټروال کې هغه زاويه پيداکوو

چې $\sin$ يې $\frac{1}{2}$ شي.

$$\sin x = \frac{1}{2} \quad \Rightarrow \quad \sin x = \sin\frac{\pi}{6}$$

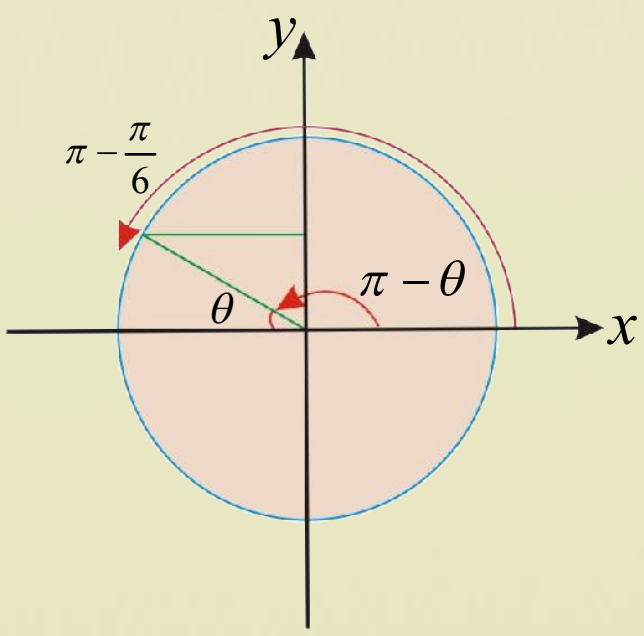

يوه مثلثاتي دايره په پام کې نيسو او هغه زاويې يې پيدا

کوو چې $\sin$ يې $\frac{1}{2}$ وي.

$$x = \frac{\pi}{6}\ ,\ 2\pi + \frac{\pi}{6}\ ,\ 4\pi + \frac{\pi}{6}\ , \ldots ,\ 2k\pi + \frac{\pi}{6}\ ,\quad k \in z$$

په دويمه مثلثاتي دايره کې $(\pi - \theta)$ له رابطې څخه

هغه زاويې پيداکوو چې $\sin$ يې $\frac{1}{2}$ وي.

$$x = \pi - \frac{\pi}{6}\ ,\ 3\pi - \frac{\pi}{6}\ ,\ 5\pi - \frac{\pi}{6}\ , \ldots ,\ (2k+1)\pi - \frac{\pi}{6}\ ,\quad k \in z$$

نو د $\sin x = \frac{1}{2}$ معادلې حل په لاندې دوو سټونو کې دی.

$$A_1 = \left\{\frac{\pi}{6},\ 2\pi + \frac{\pi}{6}\ , 4\pi + \frac{\pi}{6}\ , \ldots ,\ 2k\pi + \frac{\pi}{6}\ ,\quad k \in z\right\}$$

$$A_2 = \left\{\pi - \frac{\pi}{6}\ ,\ 3\pi - \frac{\pi}{6}\ ,\ 5\pi - \frac{\pi}{6}\ , \ldots ,\ (2k+1)\pi - \frac{\pi}{6}\ ,\quad k \in z\right\}$$

په عمومي ډول پورتني سټونه په لاندې ډول ليکلی شو:

$$A_1 \cup A_2 = A = \left\{x / x = 2k\pi + \frac{\pi}{6} \quad \wedge \quad x = (2k+1)\pi - \frac{\pi}{6}\ ,\ k \in Z\right\}$$

(c) ketabton.com: The Digital Library

دویم مثال: د $2\sin x-3=0$ مثلثاتي معادلې د حل سټ پیدا کړئ.

حل: $2\sin x-3=0 \;\Rightarrow\; 2\sin x=3 \;\Rightarrow\; \sin x=\frac{3}{2}$

اوس د $\left[-\frac{\pi}{2}\,,\,\frac{\pi}{2}\right]$ په انټروال کې هغه زاویه پیدا کوو چې $\sin x=\frac{3}{2}$ شي، دا چې د هرې زاویې د $\sin$ د -1 او $+1$ په منځ $(-1\le \sin x\le 1)$ دی، نو هغه زاویه چې $\sin$ یې $\frac{3}{2}$ وي، وجود نه لري، نو په دې اساس معادله حل نه لري.

دویم حالت: $a\cos x+b=0$

د پورتنۍ معادلې د حل مناسب ځواب د پیدا کولو لپاره لاندې مثالونو ته پام وکړئ.

لومړی مثال: د $2\cos x-\sqrt{3}=0$ مثلثاتي معادلې د حل سټ پیدا کړئ.

حل:له پورتنۍ معادلې څخه $\cos x$ لاسته راوړو:

$$2\cos x-\sqrt{3}=0 \;\Rightarrow\; 2\cos x=\sqrt{3} \Rightarrow \cos x=\frac{\sqrt{3}}{2}$$

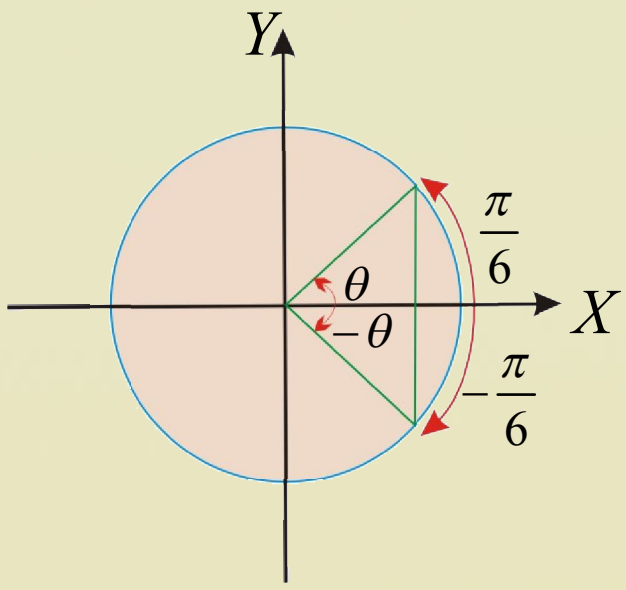

اوس د $[0\,,\,\pi]$ په انټروال کې هغه زاویه پیدا کوو یا لټوو چې $\cos$ یې $\frac{\sqrt{3}}{2}$ وي، هغه له $\frac{\pi}{6}$ څخه عبارت دی، نو لیکلی شو چې $\cos\ x=\cos\frac{\pi}{6}$.

اوس د مثلثاتي دایرې په پام کې نیولو سره ټولې هغه زاویې چې $\cos x=\frac{\sqrt{3}}{2}$ وي، پیدا کوو.

$$x=\frac{\pi}{6}\ ,\ 2\pi+\frac{\pi}{6}\ ,\ 4\pi+\frac{\pi}{6}\ldots$$

$$x=-\frac{\pi}{6}\ ,2\pi-\frac{\pi}{6}\ ,\ 4\pi-\frac{\pi}{6}$$

په عمومي توګه د پورتنیو حلونو سټ داسې لیکل کېږي : $x=2n\pi\pm\theta, n=1,2,3\ldots$

$$A=\left\{x\,/\,x=2k\pi+\frac{\pi}{6}\wedge x=2k\pi-\frac{\pi}{6}\ ,\ k\in z\right\}$$

(c) ketabton.com: The Digital Library

دویم مثال: د $2\cos x+\sqrt{2}=0$ معادله په $(0\ ,\ 2\pi)$ انټروال کې څوحلونه لري؟

حل: $2\cos x=-\sqrt{2} \quad \Rightarrow \quad \cos x=-\dfrac{\sqrt{2}}{2}$

له بلې خوا پوهېږو چې د $(0,2\pi)$ په انټروال کې $\cos x=\cos\dfrac{3\pi}{4}=-\dfrac{\sqrt{2}}{2}$ کېږي.

له دې امله د معادلې حل $x=\dfrac{3\pi}{4}$ په لاس راځي.

د حل سټ يې مساوي دی له:

$$A=\left\{x/x=2k\pi+\frac{3\pi}{4} \ \wedge \ x=2k\pi-\frac{3\pi}{4}\ ,\ k\in z\right\}$$

ليدل کېږي چې معادله د $(0\ ,\ 2\pi)$ په انټروال کې دوه حلونه لري.

$$x=2k\pi+\frac{3\pi}{4}\xrightarrow{k=0}x_1=\frac{3\pi}{4}$$

$$x=2k\pi-\frac{3\pi}{4}\xrightarrow{k=1}x_2=\frac{5\pi}{4}$$

دريم حالت: $a\tan x+b=0$

د عمومي حل د پيداکولو لپاره لاندې مثالونو ته ځير شئ.

مثال: $\tan x-\sqrt{3}=0$ حل کړئ.

حل: له پورتنی تساوي څخه $\tan x$ په لاس راوړو: $\tan x=\sqrt{3}$

اوس د $(-\dfrac{\pi}{2}\ ,\ \dfrac{\pi}{2})$ په انټروال کې د x هغه زاويه لټوو چې $\tan x=\sqrt{3}$ وي او هغه زاويه له $\dfrac{\pi}{3}$ يا 60° څخه عبارت ده.

له دې امله پورتنی معادله د $\tan x=\tan\dfrac{\pi}{3}$ په صورت کې لاسته راځي، په مثلثاتي دايره کې وينو چې کومې زاويې له $\tan\dfrac{\pi}{3}$ سره مساوي دي.

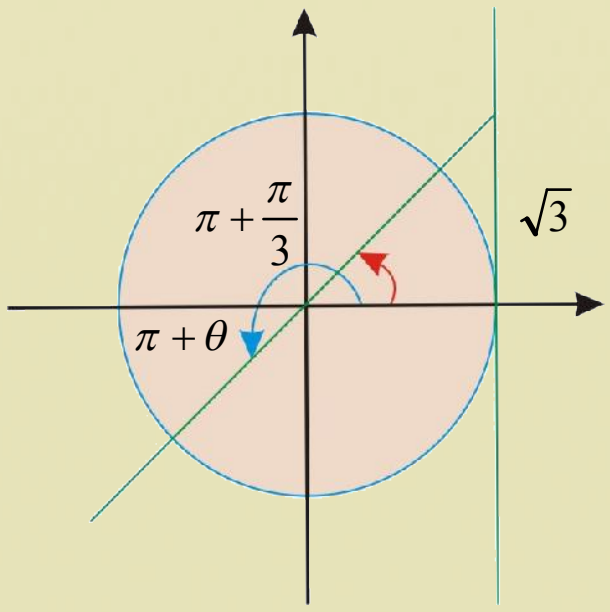

$$x=\left\{\frac{\pi}{3}\ ,\ 2\pi+\frac{\pi}{3}\ ,\ 4\pi+\frac{\pi}{3},\ldots\right\}$$

$$x=\left\{\pi+\frac{\pi}{3},3\pi+\frac{\pi}{3}\ ,\ 5\pi+\frac{\pi}{3}\ ,\ldots\right\}$$

(c) ketabton.com: The Digital Library

په عمومي ډول پورتني ستونه داسې ليکلی شو چې: $A=\left\{x/x=k\pi+\frac{\pi}{3}\quad k\in Z\right\}$

يا په عمومي ډول د هرې θ زاويې لپاره لرو چې: $A=\{x/x=k\pi+\theta\ ,\quad k\in Z\}$

دويم مثال: لاندې معادله حل کړی.

$$\tan\ x=\frac{1}{\sqrt{3}}$$

حل:

$$\tan\ x=\tan\frac{\pi}{6}\quad\Rightarrow\ x=\frac{\pi}{6}$$

د معادلې د حل سټ $A=\left\{x/x=k\pi+\frac{\pi}{6}\quad k\in Z\right\}$

دريم مثال:د $\tan(2x-\frac{\pi}{4})=\tan(x+\frac{\pi}{3})$ د معادلې حلونه د $[0\ ,\ 2\pi\ ]$ په انټروال کې لاسته راوړئ.

حل:

$$\tan(2x-\frac{\pi}{4})=\tan(x+\frac{\pi}{3})\Rightarrow 2x-\frac{\pi}{4}=k\pi+(x+\frac{\pi}{3})$$

$$2x-x=k\pi+\frac{\pi}{3}+\frac{\pi}{4}\Rightarrow x=k\pi+\frac{7\pi}{12}$$

د k پر ځای صحيح عددونه ليکو، تر څو هغه زاويې چې د $[0\ ,\ 2\pi\ ]$ په انټروال کې دي، لاسته راشي.

$$x=k\pi+\frac{7\pi}{12}\ \begin{cases}\xrightarrow{k=0}\ x_1=\frac{7\pi}{12}\\ \xrightarrow{k=1}\ x_2=\pi+\frac{7\pi}{12}=\frac{19\pi}{12}\end{cases}$$

څلورم حالت: د $\cot x+b=0$ معادله، د معادلې د عمومي حل لپاره لاندې مثالونو ته پام وکړئ.

لومړی مثال: د $\cot x-1=0$ معادله حل کړئ.

حل: له پورتنی معادلې څخه $\cot x$ پيداکوو: $\cot x=1\quad\Leftarrow\quad\cot x-1=0$

اوس د $[0,2\pi]$ په انټروال کې هغه زاويه گورو چې $\cot$ يې $(+1)$ وي او هغه زاويه لـه $\frac{\pi}{4}$ يـا 45° څخه عبارت ده :

(c) ketabton.com: The Digital Library

نو: $\cot x = \cot\frac{\pi}{4} \Rightarrow x = \frac{\pi}{4}$

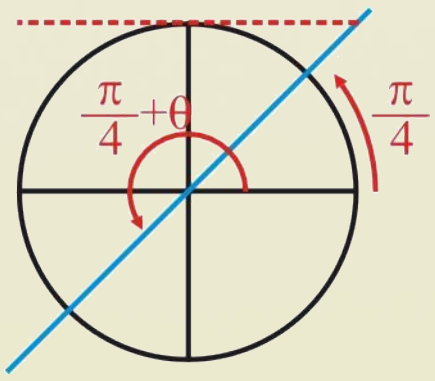

$$x = \frac{\pi}{4}\ ,\ 2\pi + \frac{\pi}{4}\ ,\ 4\pi + \frac{\pi}{4}\ ,\ldots$$

$$x = \pi + \frac{\pi}{4}\ ,\ 3\pi + \frac{\pi}{4}\ ,\ 5\pi + \frac{\pi}{4}\ ,\ldots$$

نو د معادلې د حل سټونه په لاندې ډول دی.

$$A_1 = \left\{\frac{\pi}{4}\ ,\ 2\pi + \frac{\pi}{4}\ ,\ 4\pi + \frac{\pi}{4}\ ,\ \ldots\right\}$$

$$A_2 = \left\{\pi + \frac{\pi}{4}\ ,\ 3\pi + \frac{\pi}{4}\ ,\ 5\pi + \frac{\pi}{4}\ ,\ldots\right\}$$

$$A = \left\{x / x = k\pi + \frac{\pi}{4}\ ,\ (2k+1)\pi + \frac{\pi}{4}\ ,\ \ k \in Z\right\}$$

یا په عمومي ډول د هرې θ زاویې لپاره داسې لیکو:

$$A = \{x / x = k\pi + \theta\ ,\ k \in Z\}$$

دریم مثال: د $\cot 3x = \cot x$ معادله حل کړئ.

حل:

$$\cot 3x = \cot x \ \Rightarrow\ 3x = k\pi + x = 3x - x = k\pi \ \Rightarrow\ 2x = k\pi \ \Rightarrow\ x = \frac{k\pi}{2}\ ,\ k \in Z$$

پوښتنې

د لاندې معادلو د عمومي حل ځوابونه پیدا کړئ.

$a)\quad 3\cos x + 5 = 0$

$b)\quad \tan x = \sqrt{3}$

(c) ketabton.com: The Digital Library

دویمه درجه مثلثاتي معادلې

په تېرو درسونو کې مو ساده مثلثاتي معادلې حل کړې دي اوس دویمه درجه مثلثاتي معادلې څېړو. د مثلثاتي معادلې عمومي شکل عبارت دی له: $a\sin^2 x + b\cos^2 x + c\sin x\cos x = d$ چې c, b, a او d ثابت عددونه دي.

$a\sin^2 x + b\cos^2 x + c\sin x\cos x = d$

لومړی مثال: د $6\sin^2 x - 5\sin x + 1 = 0$ معادله حل کړئ.

حل: په پورتنی معادله کې د $\sin x$ پر ځای y لیکو، او معادله داسې لیکلی شو:

$$6y^2 - 5y + 1 = 0$$

$$\Delta = b^2 - 4ac \quad \Rightarrow \quad \Delta = (-5)^2 - 4(6)(1)$$

$$\Delta = 25 - 24 \quad \Rightarrow \quad \Delta = 1$$

$$y_{1,2} = \frac{5 \pm 1}{12} \quad , \quad y_1 = \frac{5+1}{12} = \frac{6}{12} \Rightarrow y_1 = \frac{1}{2} \quad , \quad y_2 = \frac{5-1}{12} = \frac{4}{12} \Rightarrow y_2 = \frac{1}{3}$$

$$\sin x = y_1 = \frac{1}{2}$$

$$\sin x = y_2 = \frac{1}{3}$$

په دې ډول هغه کوچنی زاویه چې ساین یې $\frac{1}{2}$ وي، له $\frac{\pi}{6}$ څخه عبارت ده، نو:

$$A = \left\{ \begin{array}{ll} x = 2k\pi + \frac{\pi}{6} & \\ & k \in Z \\ x = (2k+1)\pi - \frac{\pi}{6} & \end{array} \right\}$$

او یا لیکلی شو چې:

$$x = n\pi + (-1)^n \alpha \Rightarrow x = n\pi + (-1)^n \frac{\pi}{6} \quad , \quad n = 0, 1, 2 \ldots$$

(c) ketabton.com: The Digital Library

په همدې ډول د $\sin x = \frac{1}{3}$ لپاره ډېره کوچنۍ زاويه 0.33 ده او د مثلثاتي جدول لـه مخې د $\sin x = \frac{1}{3}$ لپاره $19^\circ\ 30'$ يا $\frac{13\pi}{120}$ دی.

$$A = \left\{ \begin{aligned} & x = 2k\pi + \frac{13\pi}{120} \\ & x = (2k+1)\pi - \frac{13\pi}{120} \end{aligned} \qquad k \in Z \right\}$$

دويم مثال: د $\cos 2x + \sin x = 0$ معادلې د حل سټ پيدا کړئ.

حل: پوهېږو چې $\cos 2x = 1 - 2\sin^2 x$ دی، نو ليکلی شو چې:

$$1 - 2\sin^2 x + \sin x = 0$$
$$2\sin^2 x - \sin x - 1 = 0$$

که چېرې په پورتنۍ معادلې کې د $\sin x$ په ځای y وضع کړو، نو ليکو:

$$2y^2 - y - 1 = 0 \quad \Rightarrow \quad (2y+1)(y-1) = 0$$
$$2y + 1 = 0 \quad \Rightarrow \quad 2y = -1 \quad \Rightarrow \quad y_1 = -\frac{1}{2}$$
$$y - 1 = 0 \quad \Rightarrow \quad y_2 = 1$$

د $\sin x = y$ د تعويض لپاره چې مو په پام کې نيولی دی، نو د لاسته راغلو قيمتونو لپاره لرو چې:

$$\sin x = y_1 = -\frac{1}{2}$$
$$\sin x = y_2 = 1$$

په دې ډول د $\sin x = -\frac{1}{2}$ لپاره هغه کوچنۍ زاويه چې ساين يې $-\frac{1}{2}$ وي له $\frac{7\pi}{3}$ څخه عبارت ده.

(c) ketabton.com: The Digital Library

بنا پر دې د حلونو سټ يې عبارت دی له:

$$A=\left\{\begin{array}{l}\sin x=1 \quad \Rightarrow \quad x=\dfrac{\pi}{2} \\ \sin x=-\dfrac{1}{2} \Rightarrow x=\dfrac{7\pi}{6}\end{array}\right\}$$

$$A_1=\left\{\frac{\pi}{2}\ ,\ 2\pi+\frac{\pi}{2},\ 4\pi+\frac{\pi}{2},\ \ldots\right\}$$

$$A_2=\left\{2\pi+\frac{7\pi}{6},\ 4\pi+\frac{7\pi}{6}, 6\pi+\frac{7\pi}{6},\ \ldots\right\}$$

يا په عمومي ډول:

$$A=\left\{x=n\pi+(-1)^n\frac{\pi}{2}\quad ,\quad x=2n\pi+\frac{7\pi}{6}\ ,\ n=0,1,2,3\ \ldots\right\}$$

دريم مثال: د $2\sin^2 x-\sqrt{2}\sin x=0$ معادله حل کړئ.

حل:

$$\sin x(2\sin x-\sqrt{2})=0$$

$$\sin x=0 \quad \Rightarrow \quad x_1=0^\circ$$

$$2\sin x-\sqrt{2}=0$$

$$2\sin x=\sqrt{2}$$

$$\sin x=\frac{\sqrt{2}}{2} \quad \Rightarrow \quad x_2=\frac{\pi}{4}$$

د معادلې د حلونو سټ عبارت دی له:

$$A_1=\{0^\circ,\ \pi, 2\pi, 3\pi, 4\pi,\ 5\pi,\ \ldots\}$$

$$A_2=\left\{\frac{\pi}{4},\ \pi-\frac{\pi}{4}, 2\pi+\frac{\pi}{4}, 3\pi-\frac{\pi}{4},\ldots\right\}$$

(c) ketabton.com: The Digital Library

پوښتنې

د لاندې معادلو د حل ستونه پيدا کړئ.

1- $\cos 2x + 1 = 2\sin^2 \frac{x}{2}$

2- $3\cos^2 x + 2\cos x - 5 = 0$

3- $\sin^2 x - (1-\sqrt{3})\sin x \cdot \cos x - \sqrt{3}\cos^2 x = 0$

(c) ketabton.com: The Digital Library

د دوه مجهوله مثلثاتي معادلو یا سیستمونو حل

$$\begin{cases}\sin x \pm \sin y = a\\ x \pm y = \alpha\end{cases}$$

$$\begin{cases}\cos x \pm \cos y = a\\ x \pm y = \alpha\end{cases}$$

د الجبري معادلو سیستم مو حل کړ. آیا د مثلثاتي معادلو سیستم حلولای شئ؟

دغه معادلې په شپږو ګروپونو باندې وېشلی شو:

لومړی ګروپ: د دغه ګروپ معادلې په لاندې اتو سیستمونو کې راتولې شوې دي.

$$\begin{cases}\sin x \pm \sin y = a\\ x \pm y = \alpha\end{cases} \qquad \begin{cases}\cos x \pm \cos y = a\\ x \pm y = \alpha\end{cases}$$

څرنګه چې a معلوم عدد او α معلوم قوس یا زاویه ده، x او y مجهول قوسونه یا زاویې دي.یو له دغو سیستمونو څخه حلوو:

$$\begin{cases}\sin x + \sin y = a \;\ldots\; \text{I}\\ x + y = \alpha \ldots\ldots\ldots\ldots \;\text{II}\end{cases}$$

د لومړۍ معادلې قیمت د ضرب د فورمولونو په کارولو سره لیکو، ځکه چې د دوو ساینونو مجموعه ده.

$$\sin x + \sin y = a$$

په دې اساس:

$$\begin{cases}2\sin\dfrac{x+y}{2}\cos\dfrac{x-y}{2} = a \ldots\; I\\ x + y = \alpha \ldots . II\end{cases}$$

اوس له II معادلې څخه د $x+y$ قیمت یعنې α د I په معادله کې اېږدو:

$$2\sin\frac{\alpha}{2}\cos\frac{x-y}{2} = a \ldots\; I$$

د I اړیکې دواړه خواوې په $2\sin\frac{\alpha}{2}$ باندې وېشو:

$$\cos\frac{x-y}{2} = \frac{a}{2\sin\dfrac{\alpha}{2}}$$

تبصره: د پورتنۍ معادلې ښی لوری له $(+1)$ څخه لوی او له (-1) څخه کوچنی نه دی، ځکه چې د قوس یا زاویې ساین دی. یا په بل عبارت مربع یې له یو څخه لوی نه دی.

(c) ketabton.com: The Digital Library

$$-1\le\frac{a}{2\sin\frac{\alpha}{2}}\le 1$$

پورتنی غیرې مساوات د $1 > \frac{a}{\sin\frac{\alpha}{2}} > 0$ ، په شکل لیکو بیا یې دواړه خواوې مربع کوو:

$$\frac{a^2}{4\sin^2\frac{\alpha}{2}}\le 1$$

دواړه خواوې په $4\sin^2\frac{\alpha}{2}\neq 0$ کې ضربوو:

$$a^2\le 4\sin^2\frac{\alpha}{2}$$

$$a^2-4\sin^2\frac{\alpha}{2}\le 0$$

پورتنی اړیکه د سیستم د حل له شرط څخه عبارت ده.

لومړی مثال: د لاندې معادلو سیستم حل کړئ.

$$\begin{cases}\sin x+\sin y=1\\ x+y=\frac{\pi}{2}\end{cases}$$

حل: په پورتني سیستم کې $a=1$ او $\alpha=\frac{\pi}{2}$ دی، وینو چې راکړل شوی شرط د سیستم د حل لپاره

صدق کوي او که نه؟ $\quad a^2-4\sin^2\frac{\alpha}{2}\le 0$

د a او α قیمتونه په پورتنی اړیکه کې ایږدو:

$$1-4\sin^2\frac{\frac{\pi}{2}}{2}\le 0\Rightarrow 1-4\sin^2\frac{\pi}{4}\le 0\Rightarrow 1-4(\sin\frac{\pi}{4})^2\le 0$$

$$1-4(\frac{\sqrt{2}}{2})^2\le 0\Rightarrow 1-4\frac{2}{4}\le 0\Rightarrow 1-2\le 0\Rightarrow -1\le 0$$

لیدل کیږي چې سیستم د حل وړ دی، نو د تحویل د فورمولونو په مرسته د لومړی معادلې کیڼ لوري شکل

ته تغییر ورکوو: $2\sin\frac{x+y}{2}\cos\frac{x-y}{2}=1$

(c) ketabton.com: The Digital Library

څرنګه چې $x+y=\frac{\pi}{2}$ له دې امله $\frac{x+y}{2}=\frac{\pi}{4}$ کېږي؛نو:

$$2\sin\frac{\pi}{4}\cos\frac{x-y}{2}=1$$

$$2\frac{\sqrt{2}}{2}\cos\frac{x-y}{2}=1\Rightarrow\sqrt{2}\cos\frac{x-y}{2}=1$$

$$\cos\frac{x-y}{2}=\frac{1}{\sqrt{2}}\quad\Rightarrow\ \cos\frac{x-y}{2}=\cos\frac{\pi}{4}$$

$$\frac{x-y}{2}=\frac{\pi}{4}\quad\Rightarrow\ x-y=\frac{\pi}{2}$$

$$\begin{cases}x-y=\frac{\pi}{2}.........\ I\\ x+y=\frac{\pi}{2}........\ II\end{cases}\Rightarrow\ 2x=\frac{\pi}{2}+\frac{\pi}{2}\ \Rightarrow\ 2x=\frac{2\pi}{2}\ \Rightarrow\ x=\frac{\pi}{2}$$

د x قیمت په I معادله کې اېږدو نو د y قیمت په لاس راځي:

$$\frac{\pi}{2}-y=\frac{\pi}{2}\ \Rightarrow\ y=\frac{\pi}{2}-\frac{\pi}{2}$$

$$y=0$$

دویم ګروپ: د دغه ګروپ اړوند سیستمونه په لاندې ډول دي:

$$\begin{cases}x\pm y=\alpha\\ \sin x\cdot\cos y=a\end{cases}\qquad\begin{cases}x\pm y=\alpha\\ \sin x\cdot\sin y=a\end{cases}\qquad\begin{cases}x\pm y=\alpha\\ \cos x\cdot\cos y=a\end{cases}$$

څرنګه چې a معلوم عدد او α معلوم قوس یا زاویه ده. x او y مجهول قوسونه یا زاویې دي.

د سیستم د حل شرط عبارت دی له: $-\cos^2\frac{\alpha}{2}\le a\le\sin^2\frac{\alpha}{2}$

دویم مثال: د لاندې معادلو سیستم حل کړې.

$$\begin{cases}x+y=\pi\\ \sin x\sin y=1\end{cases}$$

حل: په پورتني سیستم کې $a=1$ ، $\alpha=\pi$ دی د دغو معادلو د حل د امکان شرط عبارت دی، له:

$$-\cos^2\frac{\alpha}{2}\le a\le\sin^2\frac{\alpha}{2}$$

$$-\cos^2\frac{\alpha}{2}=-\cos\ \frac{\pi}{2}=0$$

$$\sin^2\frac{\alpha}{2}=\sin^2\frac{\pi}{2}=1$$

(c) ketabton.com: The Digital Library

د سیستم د حل شرط ته په کتنو سره کولای شو ولیکو:

$$-\cos^2\frac{\pi}{2}\le a\le \sin^2\frac{\pi}{2}$$
$$0\le a\le 1$$

د II معادلې کیڼ لورى د تحویل د فورمول په کارولو سره لاندې شکل ځانته غوره کوي:

$$2\sin x\sin y=\cos(x-y)-\cos(x+y)$$

څرنګه چې $\sin x\sin y=1$ دى، بنا پر دې $\cos(x-y)-\cos(x+y)=2$

له بلې خوا $x+y=\pi$ دى نو: $\cos(x-y)-\cos\pi=2$

همدارنګه پوهېږو چې $\cos\pi=-1$ دى.

نو:
$$\cos(x-y)-(-1)=2\Rightarrow \cos(x-y)+1=2$$
$$\Rightarrow \cos(x-y)=2-1\Rightarrow \cos(x-y)=1$$
$$\cos(x-y)=\cos 0^\circ$$
$$x-y=0\Rightarrow x=y$$

د I له معادلې څخه د x قیمت پیداکوو:

$$x+y=\pi\Rightarrow x+x=\pi\Rightarrow 2x=\pi$$

$$x=\frac{\pi}{2}\quad ,y=\frac{\pi}{2}\quad\Rightarrow\ x=y=n\pi+(-1)^n\frac{\pi}{2}$$

دریم ګروپ: دغه ګروپ څلور لاندې سیستمونه تشکیلوي، چې عبارت دي له:

$$\begin{cases}x\pm y=\alpha\\ \dfrac{\sin x}{\sin y}=a\end{cases}\qquad\qquad \begin{cases}x\pm y=\alpha\\ \dfrac{\cos x}{\cos y}=a\end{cases}$$

چې α معلومه زاویه او a معلوم عدد دى. x او y مجهول قوسونه یا زاویې دي.

دریم مثال: لاندې مثلثاتي سیستم حل کړئ.

$$\begin{cases}x+y=\dfrac{\pi}{2}\\ \dfrac{\sin x}{\sin y}=\sqrt{3}\end{cases}$$

حل: **لیدل کیږي چې دغه سیستم له دریم ګروپ سره مطابقت لري نو، په لاندې ډول کړنه کوو یعنې د سیستم دویمه معادله د تناسب د خواصو په پام کې نیولو سره داسې لیکو:**

$$\frac{\text{sinx}-\text{siny}}{\text{sinx}+\text{siny}}=\frac{\sqrt{3}-1}{\sqrt{3}+1}$$

(c) ketabton.com: The Digital Library

د $\sin x - \sin y = 2\cos\frac{x+y}{2}\sin\frac{x-y}{2}$ او $\sin x + \sin y = 2\sin\frac{x+y}{2}\cos\frac{x-y}{2}$ قیمتونه په پورتنی اړیکه کې اېږدو:

$$\frac{2\cos\frac{x+y}{2}\sin\frac{x-y}{2}}{2\sin\frac{x+y}{2}\cos\frac{x-y}{2}} = \frac{\sqrt{3}-1}{\sqrt{3}+1}$$

څرنګه چې $x+y=\frac{\pi}{2}$ دی، نو $\frac{x+y}{2}=\frac{\pi}{4}$ سره کېږي.

$$\cot\frac{\pi}{4}\tan\frac{x-y}{2} = \frac{\sqrt{3}-1}{\sqrt{3}+1}$$

له بلې خوا $\cot\frac{\pi}{4}=1$ دی نو معادله لاندې شکل ځانته غوره کوي:

$$\tan\frac{x-y}{2} = \frac{\sqrt{3}-1}{\sqrt{3}+1}$$

$$\tan 15^\circ = \frac{\sqrt{3}-1}{\sqrt{3}+1}$$

$$\tan\frac{x-y}{2} = \tan 15^\circ \quad \Rightarrow \quad \frac{x-y}{2} = 15^\circ$$

$$x - y = 30^\circ = \frac{\pi}{6}$$

د معادلو سیستم حلوو:

$$\begin{cases} x+y=\frac{\pi}{2} \\ x-y=\frac{\pi}{6} \end{cases}$$

$$2x = \frac{\pi}{2}+\frac{\pi}{6} = \frac{4\pi}{6}$$

$$x = \frac{4\pi}{12} = \frac{\pi}{3}$$

(c) ketabton.com: The Digital Library

اوس د x قیمت په پورتنی یوه معادله کې ایږدو او د y قیمت په لاس راځي:

$$x-y=\frac{\pi}{6}\Rightarrow\frac{\pi}{3}-y=\frac{\pi}{6}$$
$$\frac{\pi}{3}-\frac{\pi}{6}=y\Rightarrow\frac{2\pi-\pi}{6}=y$$
$$y=\frac{\pi}{6}$$

څلورم ګروپ: دغه ګروپ اته لاندې سیستمونه تشکیلوي:

$$\begin{cases}x\pm y=\alpha\\ \tan x\pm\tan y=a\end{cases}\qquad\begin{cases}x\pm y=\alpha\\ \cot x\pm\cot y=a\end{cases}$$

څرنګه چې α معلومه زاویه او a معلوم عدد دی. x او y مجهول قوسونه یا زاویې دي.

د سیستم د حل شرط عبارت دی، له: $a^2-4+4a\cot\alpha\geq0$

څلورم مثال: د لاندې معادلو سیستم حل کړئ.

$$\begin{cases}x-y=\frac{\pi}{3}\\ \tan x-\tan y=-2\sqrt{3}\end{cases}$$

حل: کولی شو لومړی معادله داسې ولیکو: $\tan(x-y)=\tan\frac{\pi}{3}$

له بلې خوا پوهېږو چې $\tan(x-y)=\frac{\tan x-\tan y}{1+\tan x\cdot\tan y}=\sqrt{3}$

د $\tan x-\tan y=-2\sqrt{3}$ قیمت په پاسنی معادله کې ایږدو: $\frac{-2\sqrt{3}}{1+\tan x\cdot\tan y}=\sqrt{3}$

د مساوات دواړه خواوې په $\sqrt{3}$ باندې وېشو او لیکو.

یا:

$$\frac{-2}{1+\tan x\cdot\tan y}=1\quad\Rightarrow\quad1+\tan x\cdot\tan y=-2$$

یا:

$$\Rightarrow\tan x\cdot\tan y=-3$$

(c) ketabton.com: The Digital Library

نو:

$$\begin{cases} \tan x \cdot \tan y = -3 .... \quad I \\ \tan x - \tan y = -2\sqrt{3} .... \quad II \end{cases}$$

د $\tan x$ قیمت له II معادلې څخه په لاس راوړو په I کې یې ایږدو:

$$\tan x = -2\sqrt{3} + \tan y$$

$$(-2\sqrt{3} + \tan y)\tan y = -3$$

$$\tan^2 y - 2\sqrt{3}\tan y + 3 = 0$$

$$(\tan y - \sqrt{3})^2 = 0 \quad \Rightarrow \quad \tan y - \sqrt{3} = 0 \quad \Rightarrow \quad \tan y = \sqrt{3}$$

$$y = \frac{\pi}{3}$$

د y د قیمت په پام کې نیولو سره د I له معادلې څخه د x قیمت په لاس راوړو.

$$\tan x \cdot \tan y = -3$$

$$\tan x \cdot \sqrt{3} = -3 \quad \Rightarrow \quad \tan x = \frac{-3}{\sqrt{3}} = -\frac{3\sqrt{3}}{3} = -\sqrt{3}$$

$$\tan x = -\sqrt{3} \Rightarrow x = \frac{2\pi}{2}$$

پنځم ګروپ: دغه ګروپ لاندې دوه سیستمونه تشکیلوي:

$$\begin{cases} x \pm y = \alpha \\ \tan x \cdot \tan y = a \end{cases}$$

د تیر په څیر بیاهم α معلومه زاویه او a معلوم عدد دی. x او y معلوم قوسونه یا زاویې دي.

دپورتني سیستم د حل شرط عبارت دی، له: $\quad -1 \le \frac{1+a}{1-a}\cos\alpha \le 1$

پنځم مثال: د لاندې معادلو سیستم حل کړئ.

$$\begin{cases} x + y = 7\frac{\pi}{6} \\ \tan x \cdot \tan y = 0 \end{cases}$$

لیدل کیږي چې دغه سیستم په پنځم ګروپ پورې اړه لري او په لاندې ډول یې حلوو:

$$\tan x \tan y = \frac{\sin x \sin y}{\cos x \cos y}$$

(c) ketabton.com: The Digital Library

د $\sin x \sin y = \frac{1}{2}[\cos(x-y) - \cos(x+y)]$ او $\cos x \cos y = \frac{1}{2}[\cos(x-y) + \cos(x+y)]$

قیمتونه په اړونده اړیکه کې ایږدو.

$$\tan x \tan y = \frac{\frac{1}{2}[\cos(x-y) - \cos(x+y)]}{\frac{1}{2}[\cos(x-y) + \cos(x+y)]}$$

د $x+y$ قیمت د سیستم له لومړی معادلې څخه په پورتنی اړیکه کې ایږدو:

$$\tan x \cdot \tan y = \frac{\cos(x-y) - \cos 7\frac{\pi}{6}}{\cos(x-y) + \cos 7\frac{\pi}{6}}$$

څرنگه چې $\tan x \cdot \tan y = 0$ سره راکړل شوی دی، نو لیکو:

$$\frac{\cos(x-y) - \cos 7\frac{\pi}{6}}{\cos(x-y) + \cos 7\frac{\pi}{6}} = 0$$

ددې لپاره چې کسر مساوي په صفر شي، نو باید صورت یې له صفر سره برابر شي؛ یعنې:

$$\cos(x-y) - \cos 7\frac{\pi}{6} = 0$$

$$\cos 7\frac{\pi}{6} = -\frac{\sqrt{3}}{2}$$

$$\cos(x-y) + \frac{\sqrt{3}}{2} = 0$$

$$\cos(x-y) = -\frac{\sqrt{3}}{2} \quad \Rightarrow x - y = \frac{5\pi}{6}$$

نوموړی سیستم حلوو:

$$\begin{cases} x - y = 5\frac{\pi}{6} \\ x + y = 7\frac{\pi}{6} \end{cases} -$$

$$2x = \frac{5\pi}{6} + \frac{7\pi}{6} = \frac{12\pi}{6} = 2\pi \quad , \qquad x = \pi$$

(c) ketabton.com: The Digital Library

د x قیمت د I په معادله کې ایږدو او د y قیمت په لاس راځي:

$$x-y=5\frac{\pi}{6} \Rightarrow \pi-y=5\frac{\pi}{6} \quad , \quad -y=\frac{5\pi}{6}-\pi$$

$$y=\pi-\frac{5\pi}{6} \Rightarrow y=\frac{6\pi-5\pi}{6}=\frac{\pi}{6}$$

$$y=\frac{\pi}{6}$$

شپږم گروپ: په دغه گروپ کې لاندې سیستمونه شتون لري:

$$\begin{cases} x\pm y=\alpha \\ \dfrac{\tan x}{\tan y}=a \end{cases}$$

د حل د امکان شرط عبارت دی، له:

$$-1\le\frac{a-1}{a+1}\sin\alpha\le 1$$

شپږم مثال:

$$\begin{cases} x-y=\dfrac{\pi}{2} \\ \dfrac{\tan x}{\tan y}=-3 \end{cases}$$

د تناسب د خواصو په پام کې نیولو سره لرو:

$$\frac{\tan x-\tan y}{\tan x+\tan y}=\frac{-3-1}{-3+1}=2$$

د مساوات په کینې خواکې د صورت او مخرج قیمتونه د $\sin$ او $\cos$ له جنسه داسې ایږدو:

$$\frac{\dfrac{\sin(x-y)}{\cos x\cos y}}{\dfrac{\sin(x+y)}{\cos x\cos y}}=2 \Rightarrow \frac{\sin(x-y)}{\sin(x+y)}=2$$

$$2\sin(x+y)=\sin(x-y)$$

څرنگه چې $x-y=\dfrac{\pi}{2}$ دی، نو:

$$2\sin(x+y)=\sin\frac{\pi}{2}=1$$

$$\sin(x+y)=\frac{1}{2} \Rightarrow x+y=\frac{\pi}{6}$$

(c) ketabton.com: The Digital Library

هغه کوچنی قوس چې په معادله کې صدق کوي، عبارت دی له: $\frac{\pi}{6}$ چې د معادلو لاندې سیستم جوړوو:

$$x+y=\frac{\pi}{6}$$

$$x-y=\frac{\pi}{2}$$

نوموړی سیستم حلوو:

$$\begin{cases} x+y=\frac{\pi}{6}.....I \\ x-y=\frac{\pi}{2}.....II \end{cases}$$

$$2x=\frac{\pi}{6}+\frac{\pi}{2} \Rightarrow 2x=\frac{\pi+3\pi}{6}=\frac{4\pi}{6}$$

$$x=\frac{4\pi}{12}=\frac{\pi}{3}$$

د x قیمت د I په معادله کې ایږدو او د y قیمت په لاس راځي:

$$x+y=\frac{\pi}{6} \Rightarrow \frac{\pi}{3}+y=\frac{\pi}{6} \Rightarrow y=\frac{\pi}{6}-\frac{\pi}{3}$$

$$y=\frac{\pi-2\pi}{6}=-\frac{\pi}{6}$$

$$y=-\frac{\pi}{6}$$

پوښتني

د لاندې مثلثاتي معادلو سیستمونه حل او وواياست چې په کوم ګروپ پورې اړه لري؟

$$a)\ \begin{cases} x+y=\frac{\pi}{4} \\ \tan x+\tan y=1 \end{cases} \qquad b)\begin{cases} x-y=\frac{\pi}{3} \\ \frac{\sin x}{\cos x}=2 \end{cases}$$

(c) ketabton.com: The Digital Library

د خپرکي مهم ټکي

د ساين قانون: د ABC په هر مثلث کې لاندې اړيکې شته:

$$\frac{\sin A}{a}=\frac{\sin B}{b}=\frac{\sin C}{c}$$

پورتنی اړيکه د ساين د قانون په نوم يادېږي.

د کوساين قانون: د ABC په هر مثلث کې چې دضلعو اوږدوالې يې b,a او c وي، د ضلعو او زاويو تر منځ لاندې اړيکې شته:

$$a^2=b^2+c^2-2bc\ \cos A$$

$$b^2=a^2+c^2-2ac\ \cos B$$

$$c^2=a^2+b^2-2ab\ \cos C$$

د tan قانون: د ABC په هر مثلث کې د هغه د ضلعو او زاويو ترمنځ د tan له جنسه لاندې اړيکې شته:

$$\frac{a+b}{a-b}=\frac{\tan\frac{A+B}{2}}{\tan\frac{A-B}{2}}\quad,\quad\frac{c+a}{c-a}=\frac{\tan\frac{C+A}{2}}{\tan\frac{C-A}{2}}\quad,\quad\frac{b+c}{b-c}=\frac{\tan\frac{B+C}{2}}{\tan\frac{B-C}{2}}$$

مثلثاتي مطابقت: هغه مثلثاتي مساوات چې د زاويې د ټولو قيمتونو لپاره د مساواتو دواړه خواوې مساوي شي، مثلثاتي مطابقت بلل کېږي.

مثلثاتي معادلې: هغه مساوات چې د زاويې په ځينو قيمتونو سره دواړه خواوې مساوي شي، معادله بلل کېږي.

د مثلثاتي معادلو سيستمونه

مثلثاتي معادلو سيستمونه په لاندې شپږو ګروپونو وېشل شوي دي:

لومړی ګروپ:

$$\begin{cases}\sin x\pm\sin y=a\\ x\pm y=\alpha\end{cases}\qquad\begin{cases}\cos x\pm\cos y=a\\ x\pm y=\alpha\end{cases}$$

(c) ketabton.com: The Digital Library

دویم گروپ:

$$\begin{cases} x \pm y = \alpha \\ \sin x \cdot \cos y = a \end{cases} \qquad \begin{cases} x \pm y = \alpha \\ \sin x \cdot \sin y = a \end{cases} \qquad \begin{cases} x \pm y = \alpha \\ \cos x \cdot \cos y = a \end{cases}$$

دریم گروپ:

$$\begin{cases} x \pm y = \alpha \\ \dfrac{\sin x}{\sin y} = a \end{cases} \qquad \begin{cases} x \pm y = \alpha \\ \dfrac{\cos x}{\cos y} = a \end{cases}$$

څلورم گروپ:

$$\begin{cases} x \pm y = \alpha \\ \tan x \pm \tan y = a \end{cases} \qquad \begin{cases} x \pm y = \alpha \\ \cot x \pm \cot y = a \end{cases}$$

پنځم گروپ:

$$\begin{cases} x \pm y = \alpha \\ \tan x + \tan y = a \end{cases}$$

شپږم گروپ:

$$\begin{cases} x \pm y = \alpha \\ \dfrac{\tan x}{\tan y} = a \end{cases}$$

(c) ketabton.com: The Digital Library

د څپرکي پوښتنې

لاندې پوښتنې په ځير سره ولولئ، هرې پوښتنې ته څلور ځوابونه ورکړل شوي دي، سم ځواب يې په نښه کړئ.

1. که چېرې $A = 20^\circ$, $b = 10$, $c = 7$ وي، د a د ضلعې اوږدوالی يې عبارت دی له:

$a)$ 16.4 $b)$ 16 $c)$ 15.9 $d)$ 16.8

2. که چېرې $a = 8$, $b = 5$ او $c = 10$ وي، د B زاويې اندازه عبارت ده له:

$a)$ 28° $b)$ 29° $c)$ 29.4° $d)$ 28.5°

3. که چېرې $A = 48^\circ$, $B = 22^\circ$ او $a = 5$ وي د b اوږدوالی عبارت دی له:

$a)$ 8 $b)$ 8.5 $c)$ 9 $d)$ -9.5

4. د $\sec x(\sec x - \cos x)$ مثلثاتي مطابقت مساوي دی له :

$a)$ $\tan x$ $b)$ $\dfrac{1}{\tan x}$ $c)$ $\cot x$ $d)$ $\tan^2 x$

لاندې پوښتنې حل کړئ.

1. که چېرې د $A = 30^\circ$, $c = 8$, $b = 5$ واحده وي، د a ضلع او $\sin C$ پيدا کړئ.

2. که په يوه مثلث کې $a = 8$, $b = 5$, $c = 10$ واحده وي، د B زاويې اندازه پيدا کړئ.

3. د ABC په مثلث کې که $\dfrac{c}{b} = \dfrac{\sqrt{3}}{2}$ او $A = 30^\circ$ وي، د B او C زاويو اندازه پيدا کړئ.

4. دوې بېړۍ د A له ټکي څخه په دوو خواوو داسې په حرکت پيل کوي چې د منځ زاويه يې 30° ده، که له يوه ساعت څخه وروسته، لومړۍ بېړۍ $40\,km$ او دويمه بېړۍ $60\,km$ واټن وهلی وي، د دوو بېړيو ترمنځ واټن پيدا کړئ.

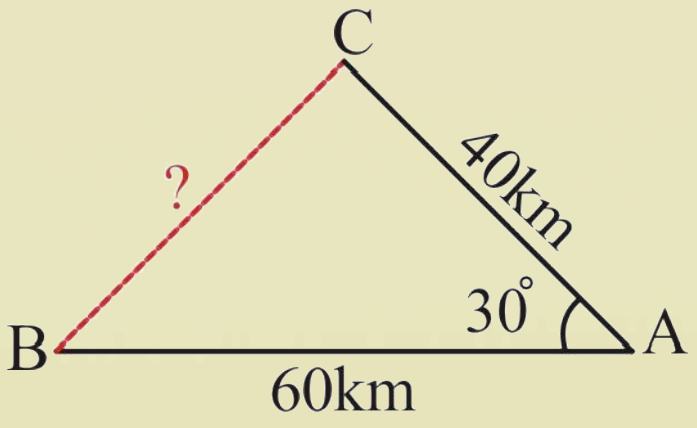

5. د $\cot^2\beta$ او $\sin\beta$ له جنسه $\cos\beta$ محاسبه کړئ.

(c) ketabton.com: The Digital Library

6. لاندي مطابقتونه ساده کړئ.

$a)\ \dfrac{\sin 2A}{1+\cos 2A}=\tan A$ $\qquad b)\ \dfrac{1-\cos 2A}{1+\cos 2A}=\tan^2 A$

$c)\ \tan A+\cot A=2\csc 2A$ $\qquad d)\ \dfrac{1-\cos A+\cos B-\cos(A+B)}{1+\cos A-\cos B-\cos(A+B)}=\tan\dfrac{A}{2}\cdot\cot\dfrac{B}{2}$

$e)\ \dfrac{\cos A}{1-\sin A}=\tan(45+\dfrac{A}{2})$ $\qquad f)\ \cos\alpha\cos(60^\circ-\alpha)\cos(60^\circ+\alpha)=\dfrac{1}{4}\cos 3\alpha$

7. لاندي مثلثاتي معادلې حل کړئ.

$a)\ \cos^2 x+\cos^4 x=0$ $\qquad b)\ \tan^2 x-4\tan x+3=0$

$c)\ 4\cos\beta-2=0$ $\qquad d)\ \cos x-\sqrt{3}\sin x=1$

$e)\ \cos^2 x+3\sin x\cdot\cos x=-1$

8. آیا د $2\sin^2 x-\cos x=2\cos 2x+\sin x$ مساوات یو مطابقت دی او که معادله؟

9. لاندي افادې ساده کړئ.

$a)\ \dfrac{2\tan 15^\circ}{1-\tan^2 15^\circ}$ $\qquad b)\ 1-2\sin^2\alpha+\cos 2\alpha=?$

$c)\ \cos 4x+2\sin^2 2x$ $\qquad d)\ (\cos^2 x+2\sin x\cos x-\sin^2 x)^2$

10. د لاندي مثلثاتي معادلو سیستمونه لومړی تشخیص او بیا یې حل کړئ.

$a)\ \begin{cases}\tan x+\tan y=1\\ \cos x\cos y=\dfrac{\sqrt{2}}{2}\end{cases}$ $\qquad b)\ \begin{cases}\sin(x+y)=\cos(x-y)\\ \tan x-\tan y=1\end{cases}$

(c) ketabton.com: The Digital Library

دریم څپرکی

فضايي هندسه

(c) ketabton.com: The Digital Library

د اقلیـدس تـصویر چـې نومـوړی د دوه بُعـدی او درې بُعدی هندسي بنسټ اېښودونکی دی.

(c) ketabton.com: The Digital Library



اساسي مفاهيم او اکسيومونه

د اقليدس د هندسي مفاهيمو څېړنې پـه دوو بعدونو کې د مسطحې هندسې په نامه يادېږي.

هغه هندسي مفاهيم، چې په دريو اړخونو(بعدونو) کې څېړل کېږي، فضايي هندسه نومېږي.

فعاليت

- د مفاهيمو په برخه کې لکه: لومړني اصطلاحات، دليل، برهان او قضيو په هکله فکر وکړئ. خپل منځ کې خبرې او د موضوع په هکله بحث وکړئ.

له پورتني بيان او بحث څخه وروسته کولای شو، لاندې تعريف وکړو:

لومړنی اصطلاح گاني Postulates: د هر علم په برخه کې د لومړنيو اصطلاحگانو څخه سترگې پټولای نشو د نورو علومو په ډول په هندسه کې هم هغه مفاهيم او مفکورې چې پرته له کوم تعريف څخه منل کېږي لومړني اصطلاحات بلل کېږي. لکه: ټکی(نقطه)، کرښه، مستوي او فضا.

منطقي دليل او برهان Logical Reason:برهان د ذهن هغه عمل ته ويل کېږي چې له يو لړ مخکينيو سمو وړانديزونو او څېړنو څخه و روستنيو څېړنو ته رسېږي چې د هغې سموالی مخکې منل شوی وي. موږ هم کولای شو، هغه و منو.

قضيهTheorem: هغه ادعا چې د هغې سموالی او صحت يو لړ منطقي دلايلو ته اړتيا ولري، قضيه بلل کېږي.

ټکی(نقطه): موږ نقطه د يو ذهني مفهوم په ډول پېژنو او هغه د لومړنی اصطلاح(تعريف شوې نه ده) په توگه منو.

مستقيم خط:کش شوی تار، دمېزڅنډه او د خط کش تيغه د مستقيم خط مفهوم او مطلب بيانوي. د مستقيم خط بېلېدونکي علامې دا دي چې د دوو راکړل شوو ټکو څخه يوازې او يوازې يوه مستقيمه کرښه تېرېدلای شي مستقيم خط د لومړنی اصطلاح (تعريف شوی نه دی) په ډول منو.

بايد فکر مو وي چې يو مستقيم خط دواړو خواوو ته تر لايتناهي پورې غزيدلای شي.

لومړی اصل: دوې ښکاره او ټاکلې نقطې يوازې او يوازې يو مستقيم خط ځرگندوي.

دويم اصل: هر مستقيم خط لږ ترلږه دوې ځرگندې نقطې لري چې په يو مستقيم خط باندې واقع دي، لږ تر لږه داسې درې نقطې شتون لري چې په يوه مستقيم خط باندې واقع نه وي.

دريم اصل: کولای شو په يوه مستقيم خط باندې د هرو دوو نقطو تر منځ يوه دريمه نقطه په لاس راوړو.

مستوي: د ولاړو اوبو سطح او د ټولگي تخته د مستوي مفهوم ځرگندوي او مستوي د لومړنی اصطلاح (تعريف شوې نه ده) په توگه منل کېږي.

لومړی اصل: په هره مستوي کې لږ تر لږه درې نقطې شتون لري چې د يوه مستقيم خط په استقامت واقع نه وي.

دويم اصل: له هرو دريو نقطو څخه چې د يوه مستقيم خط په استقامت پرتې نه وي، يوه مستوي تېرېږي.

(c) ketabton.com: The Digital Library

دریم اصل: که چیرې د یوه مستقیم خط دوې نقطې په یوې مستوي کې وي، دا خط په مستوي کې دی.

په مسطحه هندسه کې د مستوي رسمیدلوته اړتیا نشته، ځکه چې ټول شکلونه لکه: د کاغذ مخ، د لرګي تخته، چې هر یو یې یوه مستوي څرګندوي رسمیږي، خو په فضایي هندسه کې د مستوي رسمولو ته اړتیا شته، ځکه چې په فضایي هندسه کې مستوي یوه نه، بلکې ډیرې دي. زیاتره په فضایي هندسه کې مستوي د متوازي الاضلاع، مستطیل او یا هوارې سطحې په واسطه ښودل کیږي او په یوه کونج کې یې یو توری لیکي.

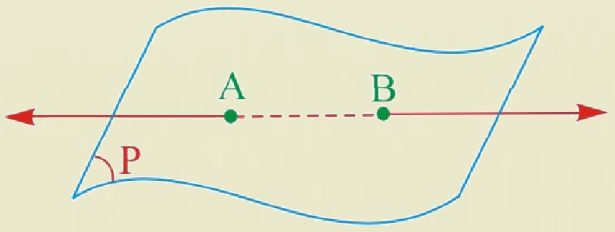

مستوي نه ده

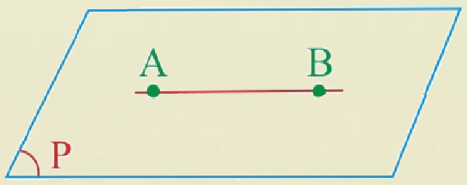

محدوده مستوي

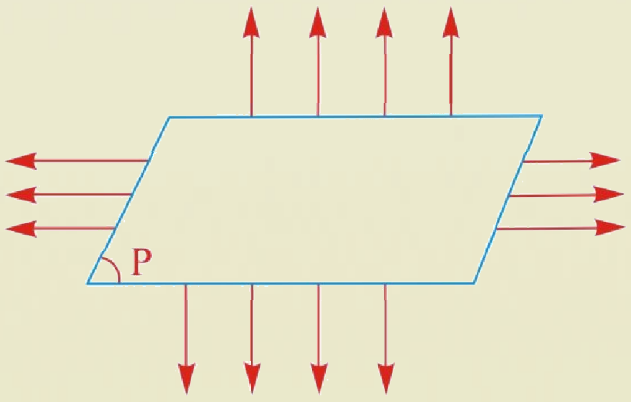

نا محدوده مستوي

دا مستوي ګانې چې په پورته شکلونو کې لیدل کیږي، په همدې پراخوالي نه دي، بلکې ترلایتناهي پورې امتداد لري. دا چې مستوي ګانې په پورته شکلونو کې لیدل کیږي هغه متوازي الاضلاع او مستطیل نه دي، بلکې د مستوي په یوې هوارې سطحې کې ښودل دي.

ټولې نښې چې په مسطحه هندسه او ریاضي کې استعمالیږي، په فضایي هندسه کې هم استعمالیږي.

هغه اکسیومونه چې په مسطحې هندسې کې موجود دي، په فضایي هندسه کې هم له دې اکسیومونو څخه کار اخیستل کیږي.

سربیره په مسطحه هندسه په فضایي هندسه کې هم یو لړ ځانګړي اکسیومونه شته چې په لاندې ډول بیانیږي.

د مستوي لومړنی اکسیوم: هغه مستقیم خط چې د مستوي دوې مختلفې نقطې سره نښلوي په دې مستوي کې شامل دی.

د مستوي دویم اکسیوم: له هغو دریو نقطو څخه چې په یوه مستقیم خط واقع نه دي، یوازې او یوازې یوه مستوي تیریږي.

د متقاطع مستوي ګانو اکسیوم: که چیرې دوې مستوي ګانې یو ګډ ټکی ولري، متقاطع دي او په همدې ډول که چیرې یو ګډ مستقیم خط ولري، د غه متقاطع خط ته د دوو مستوي ګانو مشترک فصل وایي.

فضا: فضا هم د لومړنی اصطلاح (تعریف شوې نه ده) په توګه پیژنو.

لومړی اصل: دلایتناهي نقطو مجموعې ته فضا وایي.

دویم اصل: لږ تر لږه څلور داسې نقطې شته چې په یوه مستوي کې واقع نه دي.

پوښتنې

1. څرګنده کړئ چې ولې درې پښې لرونکی میز د څلورو پښو لرونکي میز په پرتله ټینګ دی؟
2. ولې نقطه، کرښه او مستوي لومړنی اصطلاح ګانې بولي؟
3. له دوو نقطو څخه څو مستوي ګانې تیریدلای شي چې دواړه نقطې په کې پرتې وي.

(c) ketabton.com: The Digital Library

په درې بُعدي فضا کې کرښه او مستوي

په فضا کې دوه قلمونه، دوه کتابونه، یو کتاب او یو قلم کوم حالتونه لري؟

درې بُعدي فضا:

هغه فضا، چې موږ په کې ژوند کوو، درې بُعدي فضا ده. دا درې بُعدي فضا یوه له نه تعریف شوو لومړنیو مفهومونو څخه ده.

فضا دلایتناهي نقطو مجموعه ده، خط او مستوي هم په ترتیب سره یو او دوه بعدونه لري چې هر یو د فضا د سټ یوه برخه(جزء) دي.

د یوې مستقیمې کرښې او یوې مستوي نسبي حالت: یوه مستقیمه کرښه او یوه مستوي لاندې درې حالتونه لري:

1. که چیرې یو مستقیم خط او یوه مستوي یوه مشترکه نقطه ولري، دا خط او مستوي یو له بل سره متقاطع دي. دمثال په ډول په دې شکل کې د Δ مستقیمه کرښه د P مستوي د O په نقطه کې قطع کړې ده.

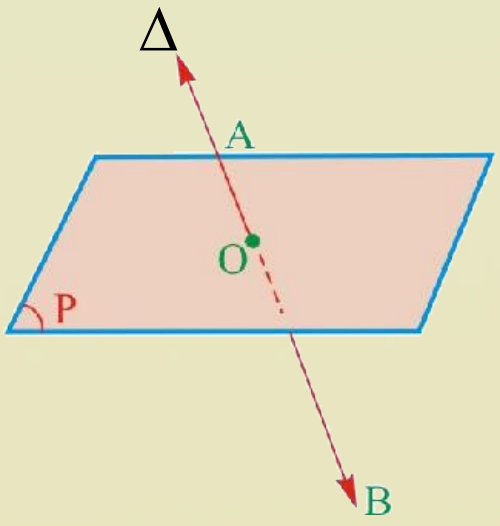

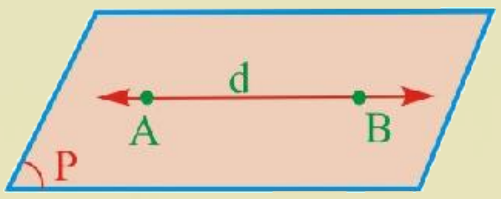

2. که چیرې یو مستقیم خط له یوې مستوي سره دوه او یا له دوو څخه زیاتې مشترکې نقطې ولري دا مستقیمه کرښه په مستوي منطبقه ده او یا داسې ویل کیږي چې مستقیمه کرښه په مستوي کې شامله ده، د مثال په ډول د d مستقیم د P په مستوي کې شامل دی.

(c) ketabton.com: The Digital Library

3. که چېرې یوه مستقیمه کرښه له یوې مستوي سره هیڅ ګډه نقطه و نه لري، دا مستقیم له مستوي سره موازي دی، مثلاً په لاندې شکل کې د d مستقیم خط له P مستوي سره موازي دی.

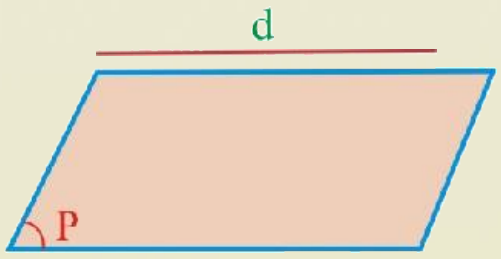

له یو بل سره د دوو مستقیمو کرښو نسبي حالت:

1- که چېرې دوه مستقیم خطونه په یوه مستوي کې شامل وي، نوموړي خطونه د همغې مستوي خطونه بلل کېږي، او یو له لاندینیو حالتونو څخه لري.

په یوې مستوي کې دوه خطونه هغه وخت موازي بلل کېږي چې هېڅ ګډټکی ونه لري.



2- په یوه مستوي کې دوه خطونه چې یوه ګډه نقط ولري، متقاطع خطونه بلل کېږي.

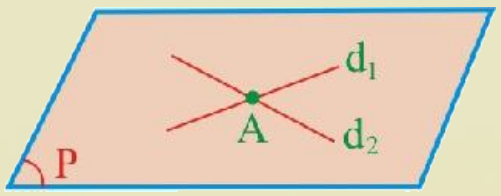

3- دوه مستقیم خطونه چې په یوه مستوي کې پراته نه وي او کومه مشترکه نقطه هم و نه لري، متنافر خطونه بلل کېږي؟

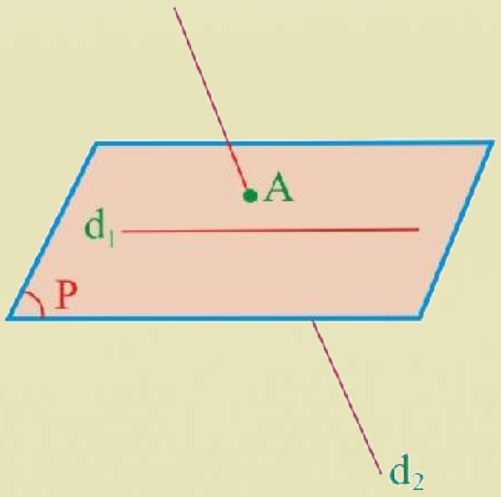

(c) ketabton.com: The Digital Library

د دوو مستويګانو نسبي حالت:

په عمومي ډول دوې مستويګانې لاندې درې حالتونه لري.

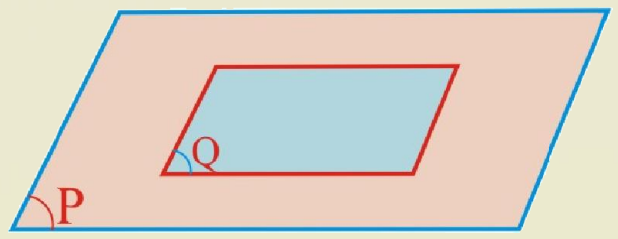

منطبق: که چېرې دوې مستويګانې لږ تر لږه درې مشترکې نقطې ولري چې د يو مستقيم خط په امتداد پرتې وي، يو پر بل منطبقې مستويګانې بلل کېږي، لکه: په مخامخ شکل کې د P او Q دوې مستويګانې يو پر بل منطبقې دي.

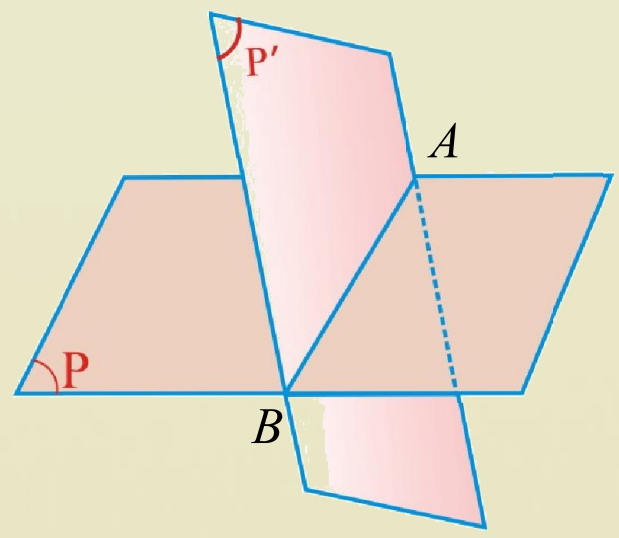

متقاطع: که چېرې دوې مستويګانې يو ګډ مستقيم خط ولري متقاطع مستويګانې بلل کيږي. دغه د AB مشترک خط ته مشترک فصل هم وايي. لکه: مخامخ شکل.



موازي: که چېرې دوه مستويګانې هيڅ کوم ګډ ټکی و نه لري، سره موازي دي، د مثال په توګه د P او P' مستويګانې.

فعاليت

- په فضا کې له يوې نقطې څخه څو مستقيم خطونه تېرېږي؟
- له دوو نقطو څخه څو مستقيم خطونه تېرېږي؟
- له يوې نقطې څخه څو مستوي ګانې تېرېږي؟
- له دوو نقطو څخه څو مستوي ګانې تېرېږي؟
- له درېو نقطو څخه څو مستوي ګانې تېرېږي چې درې واړې نقطې پکې شاملې وي؟

(c) ketabton.com: The Digital Library

پوښتنې

1- د R او T نقطې د P په مستوي کې پرتې دي، د کوم دلیل له مخې د $\overline{RT}$ خط د P په مستوي کې پروت دی؟

2- که د Δ مستقیم خط د P په مستوي کې پروت نه وي، د Δ مسقیم خط به د P مستوي په څو نقطو کې قطع کړي؟

3- که چېرې د AB مستقیم خط او د P مستوي د M او K دوې ګډې نقطې ولري، د $\overline{AB}$ مستقیم خط د P په مستوي کې پروت دی؟

4- د B, A او C نقطې د P په مستوي کې واقع دي او هم د B, A او C نقطې د p' په مستوي کې پرتې دي، د P او p' مستوي‌ګانې یوه له بلې سره څه اړیکې لري؟

(c) ketabton.com: The Digital Library

په فضا کې موازي مستقيم خطونه

آيا په فضا کې مستقيم خطونه موازي دي؟

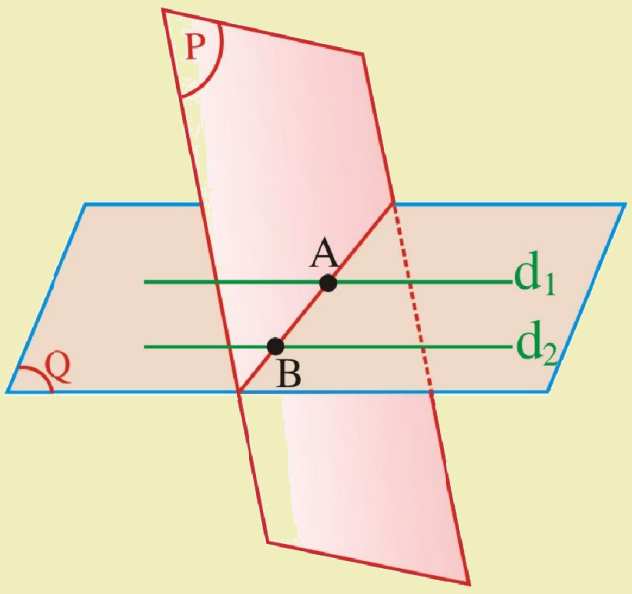

تعريف:

دوه مستقيم خطونه چې په يوې مستوي کې پراته او ګډه نقطه و نه لري، موازي خطونه بلل کېږي.

د موازاتو اکسيوم: له يوې خارجي نقطې څخه له يوې مستقيمې کرښې سره يوازې او يوازې يوه موازي مستقيمه کرښه رسمولای شو او بس.

فعاليت

- د A ټکی د P مستوي او د d_1 مستقيم خط چې د A ټکی وربانـدې پـروت نـه وي، پـه پـام کـې ونيسئ؟
- د A ټکي او د d_1 له مستقيم خط څخه څو مستوي‌ګانې تېريدلای شي؟ ولې؟

له پورتني فعاليت څخه د قضيې متن او ثبوت بيانوو.

قضيه: د يوې خارجي نقطې څخه له يوه مستقيم خط سره يوازې يو موازي مسقيم خط رسـمولای شـو او بس.

ثبوت: د A له نقطې او د d_1 له مستقيمې کرښې څخه يـوازې يوه د P مستوي تېرېږي، ولې؟

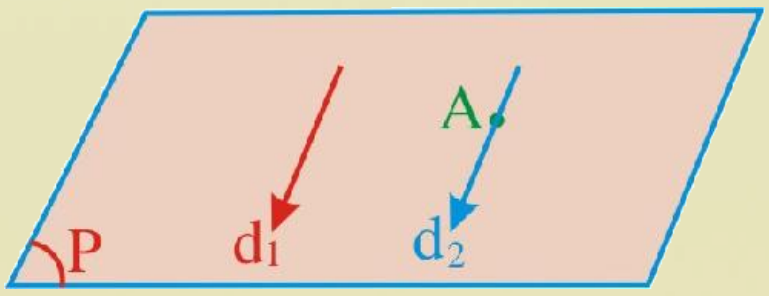

اوس د P پـه مـستوي کـې د A لـه نقطـې څخـه يـوازې د d_2 مستقيم خط د d_1 له مستقيم خط سره موازي رسمولای شو.

(پورتنی ثبوت په مسطحه هندسه کې لوستل شوی). نو پورتنی دعوا چې ټکی او خط په فضا کې وي، هـم سموالی لري.

(c) ketabton.com: The Digital Library

فعالیت

دوه د d_1 او d_2 موازي خطونه او يوه د A نقطه د P له مستوي څخه د باندې په پام کې ونيسئ.

- آيا د d_1 او d_2 مستقيم خطونه يوه بله مستوي ټاکلی شي؟
- که چېرې د P مستوي د Q مستوي د A په ټکي کې قطع کړي، آيا د P مستوي به د d_2 مستقيم خط هم قطع کړي؟
- آيا دوې مستوي‌ګانې يوه بله د يوه مستقيم خط په اوږدو کې قطع کوي، ولې؟

د پورتني فعاليت له سرته رسولو څخه وروسته د قضيې متن او ثبوت بيانوو.

قضيه: که دوه مستقيم خطونه موازي وي او مستوي يو له هغو څخه قطع کړي، بل يې هم قطع کوي.

ثبوت: د d_1 او d_2 يو له بل سره موازي مستقيمونه د Q په مستوي کې پراته دي.

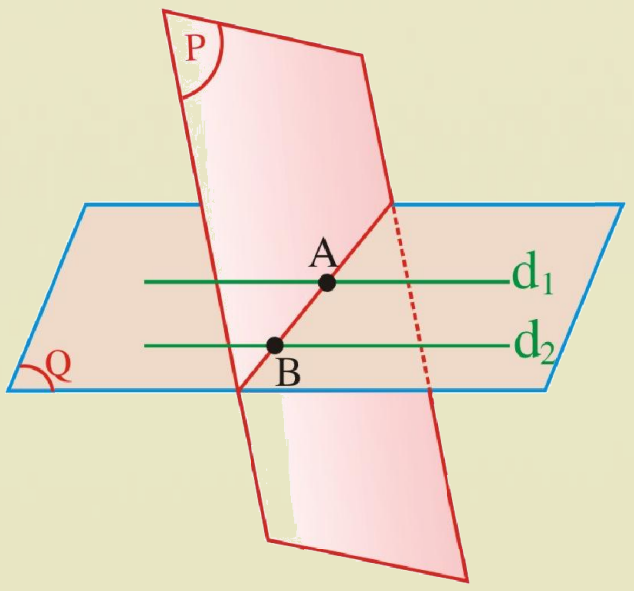

که د P مستوي د d_1 مستقيم د A په نقطه کې قطع کړي، نوموړې مستوي د d_2 مستقيم هم د B په نقطه کې قطع کوي د تعريف له مخې د d_1 او d_2 موازي خطونه يوه د Q مستوي ټاکي، د P او Q مستوي-ګانې د A يوه مشترکه نقطه لري، که چېرې دوې مستوي‌ګانې يوه له بل په يوه نقطه کې قطع کړي، نو ويلای شو چې هغوی يو بل د يوې مستقيمې کرښې په اوږدو کې قطع کوي، له دې امله د P او Q مستوي‌ګانې د d_2 مستقيمه کرښه د B په نقطې کې هم قطع کوي. ځکه يو مستقيم خط چې په يوې مستوي کې له دوو موازي خطونو څخه يو قطع کړي، بل يې هم قطع کوي.

پوښتنې

1- که چېرې دوه مستقيم خطونه له يوه دريم مستقيم خط سره موازي وي ثبوت کړئ چې دا مستقيم خطونه په خپل منځ کې هم موازي دي؟

2- که چيرې د E او F مستوي‌ګانې سره موازي او د L_1 مستقيم خط د E مستوي کې او د L_2 مستقيم خط د F په مستوي کې واقع وي آيا $L_1 // L_2$ دی؟

3- که د E او F مستوي ګانې سره متقاطع او د P مستوي هغوی دواړه قطع کړي، آيا د E او F ګډ فصل د E او P له مشترك فصل او د F او P له مشترك فصل سره موازي دی؟

(c) ketabton.com: The Digital Library

په فضاکې د دوو مستقيمو کرښو تر منځ زاويه

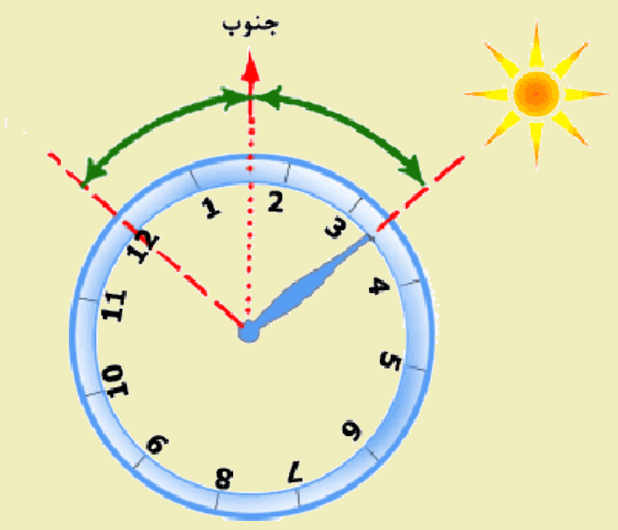

کـه چېـرې د يـوې زاويـې دورانـي لـورى د سـاعت د عقربې په مخالف لوري حرکت وکړي، زاويـه مثبـت او که د ساعت د عقربې په همجهت(عين لـوري) وي زاويه منفي ده.

فعاليت

- د XOY او $X'O'Y'$ زاوېې داسې په پام کې ونيسئ چې ضلعې يې سره موازي او هم جهته وي.
- د $\overline{OX}$ او $\overline{O'X'}$ لـه ضـلعو څخـه د $\overline{OA}$ او $\overline{O'A'}$ دوه مـساوي قطعـه خطونـه او د $\overline{OY}$ او $\overline{O'Y'}$ لـه ضلعو څخه د $\overline{OB}$ او $\overline{O'B'}$ مساوي قطعه خطونه بېل کړئ.
- د $OAA'O'$ شکل، کوم هندسي شکل لـري، دليـل يـې ووايـاسـت، د OAB او $O'A'B'$ جـوړ شـوي مثلثونه له يو بل سره څه اړيکه لري؟

د پورتني فعاليت له مخې د قضيې متن او ثبوت په لاندې ډول بيانولى شو.

قضيه:په فضاکې دوې زاويې چې دوه په دوه موازي او هم جهته ضلعې ولري، يوه له بلې سره مساوي دي.

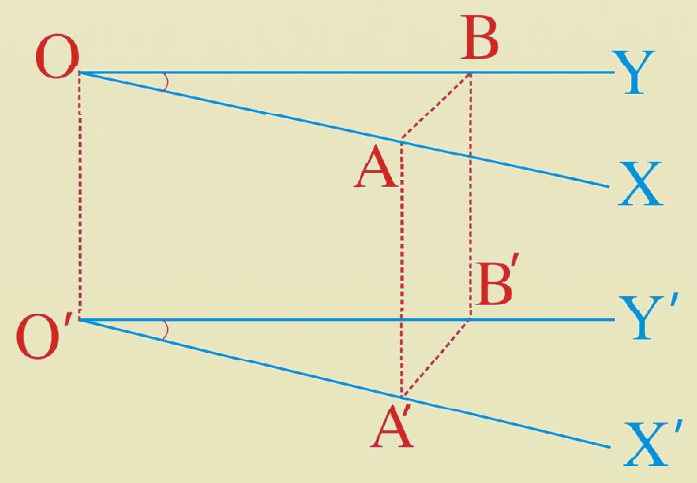

ثبـوت: د XOY او $X'O'Y'$ زاويـې پـه پـام کـې نيسـو، داسې چې $\overline{OX}//\overline{O'X'}$ او $\overline{OY}//\overline{O'Y'}$ دي، يو لـورى هـم لـري. پـه شـکل کـې د OX او $O'X'$ پـر خطونـو د $\overline{OA}$ او $\overline{A'O'}$ قطعه خطونه سره مساوي موازي او هم جهته دي.

نو د $OAA'O'$ شکل يوه متوازي‌الاضلاع ده. له دې امله د $\overline{BB'}$ او $\overline{OO'}$ قطعـه خطونـه مـوازي، مـساوي او هم لوري دي. نو $ABB'A'$ هم يوه متوازي‌الاضلاع ده او $\overline{A'B'} = \overline{AB}$ دی.

د $O'A'B'$ او OAB مثلثونه انطباق منونکي دي. ځکه $\overline{A'B'} = \overline{AB}$, $\overline{A'O'} = \overline{OA}$ او $\overline{O'B'} = \overline{OB}$ دي

له دې امله $A'\hat{O}'B' = A\hat{O}B$ دي.

(c) ketabton.com: The Digital Library

د قضيې پايله:

i) که په ترتيب سره د دوو زاويو ضلعې موازي او هم لوري وي، نومورې زاويې يو له بل سره مساوي دي.

ii) که د دوو زاويو يوه، يوه ضلع موازي او هم جهته وي او د هغو يوه، يوه ضلع يې موازي او مختلف جهتونه ولري، د دغو دواړو زاويو پراخوالی 180° دی.(ثبوت يې د زده‌کوونکو دنده ده).

د دوو متنافر و مستقيمو کرښو ترمنځ زاويه:

تعريف: په فضاکې د دوو متنافر و مستقيمونو ترمنځ زاويه له هغې زاويې څخه عبارت ده چې د يوې مستوي په يوه اختياري نقطه کې له هغو سره د دوو موازي مستقيمونو د رسمولو په واسطه حاصلېږي

پوښتنې

1- که د دوو زاويو پراخوالی سره مساوي وي او د يوې زاويې يوه ضلع د بلې د زاويې ضلعې سره موازي وي، آيا د هغو زاويو نورې ضلعې يو له بل سره موازي دي. ولې؟

2- که د دوو زاويو ضلعې سره موازي وي، ثابت يې کړئ چې د دغو زاويو، ناصف‌الزاويې سره موازي او يا سره عمود دي.

3- د d_1, d_2 دوو متنافرو مستقيمونو ترمنځ زاويه پيدا کړئ.

(c) ketabton.com: The Digital Library

په فضا کې موازي مستقیمونه او موازي مستوي ګاني

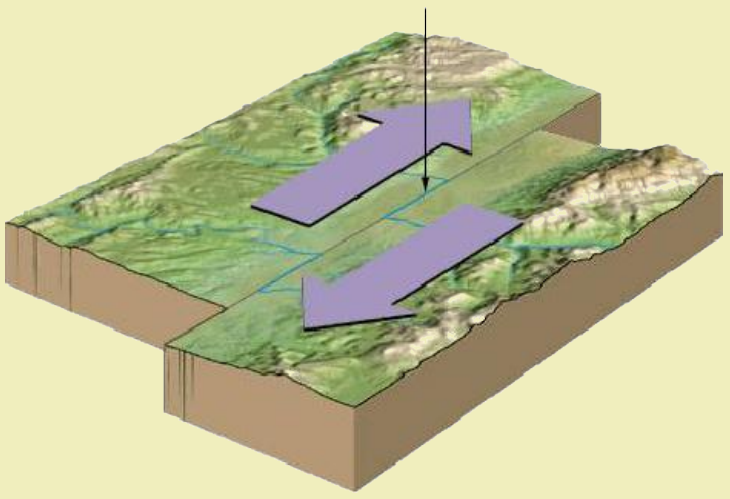

یوه مستقیمه کرښه هغه وخت له یوې مستوي سره موازي بلل کېږي چې هیڅ ګډ ټکی و نه لري.
مستوي ګانې په فضا کې هغه وخت سره موازي دي چې هیڅ ګډ ټکی و نه لري.

فعالیت

که چېرې د d مستقیم د P په مستوي کې پروت او د Δ مستقیمه کرښه د P د مستوي بهر او د d مسقیم سره موازي وي، آیا د Δ مستقیم د P له مستوي سره موازي کیدلای شي؟

- دوې د P او Q متقاطع مستوي‌ګانې او یو مستقیم خط له دغو مستوي ګانو څخه بهر د P او Q له مستوي‌ګانو سره موازي په پام کې ونیسئ.
- د d مستقیم(مشترک فصل) د Δ له مستقیم خط سره موازي کیدای شي؟
- له یوې ټاکلي نقطې څخه د d_1 او d_2 دوو مستقیمو کرښو سره څو موازي مستوي‌ګانې چې موازي نه وي رسمولای شو؟ د فعالیتونو د هرې برخې له تر سره کولو وروسته د قضیو متن او ثبوت په ترتیب بیانوو.

قضیه: که یو مستقیم خط د یوې مستوي له یوه خط سره موازي وي. نوموړی مستقیم خط له همدې مستوي سره موازي دی.

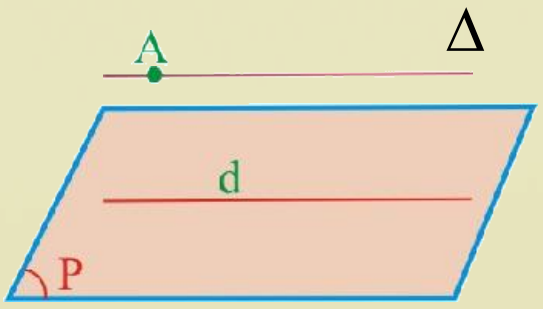

ثبوت: د d مسقیم خط چې د P په مستوي کې پروت او د Δ مستقیمه کرښه د p د مستوي بهر او د d له مستقیم سره موازي راکړل شوې، ثابتوو چې د Δ مستقیمه کرښه د p له مستوي سره موازي ده، که د p مستوي د Δ مستقیمه کرښه قطع کړې، د d مستقیمه کرښه چې د Δ له مستقیمې کرښې سره موازي ده هم قطع کوي. دا د فرضیې خلاف ده، ځکه د d مستقیمه کرښه د P په مستوي کې پرته ده، نو د p مستوي د Δ مستقیم قطع کولای نشي.

(c) ketabton.com: The Digital Library

قضیه: که یوه مستقیمه کرښه له دوو متقاطع مستويګانو سره موازي وي، نوموړې مسقیمه کرښه د نوموړو مستويګانو له ګډ فصل سره موازي ده.

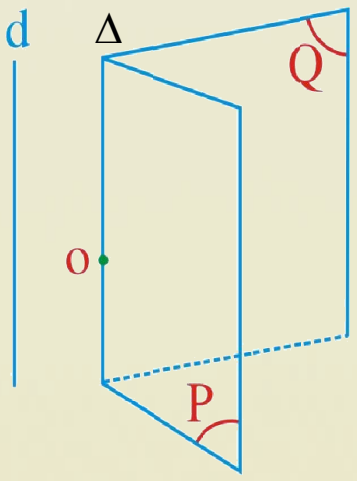

ثبوت: د P او Q دوې متقاطع مستويګانې په پام کې نیسو چې هره یوه یې د d له مستقیمې کرښې سره موازي ده، لکه: مخامخ شکل.

که د P، Q د مستويګانو د Δ په مشترك فصل باندې د O نقطه وټاکو او له هغې نقطې څخه د d له مستقیمې کرښې سره یو موازي رسم کړو، دا موازي د Δ په مستقیمې کرښې منطبق کېږي ځکه Δ یوازینی خط دی چې په دواړو مستويګانو یعنې په P او Q کې شامل دی.

قضیه: د (O) له یوې ټاکلې نقطې څخه د d_1 او d_2 مستقیم خطونه چې یو له بل سره موازي نه دي یوازې یوه موازي مستوي رسمولای شو او بس.

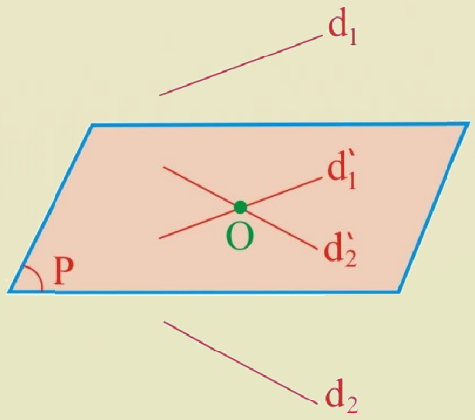

ثبوت: د (O) له نقطې څخه د d'_1 او d'_2 خطونه چې په پرتیب له d_1 او d_2 مسقیمونو سره موازي وي، رسموو د P مستوي چې د (O) له نقطې څخه تیرېږي او د d'_1 او d'_2 مستقیمې کرښې په خپل ځان کې لري له d_1 او d_2 سره موازي دي؟ ولې؟

که چېرې d_1 او d_2 یو له بل سره موازي وي، نو d'_1 او d'_2 یو پر بل منطبق کېږي.

پوښتنې

1- که چېرې د d_1 او d_2 مستقیم خطونه سره موازي وي، څو موازي مستويګانې له هغو سره رسمولای شئ؟

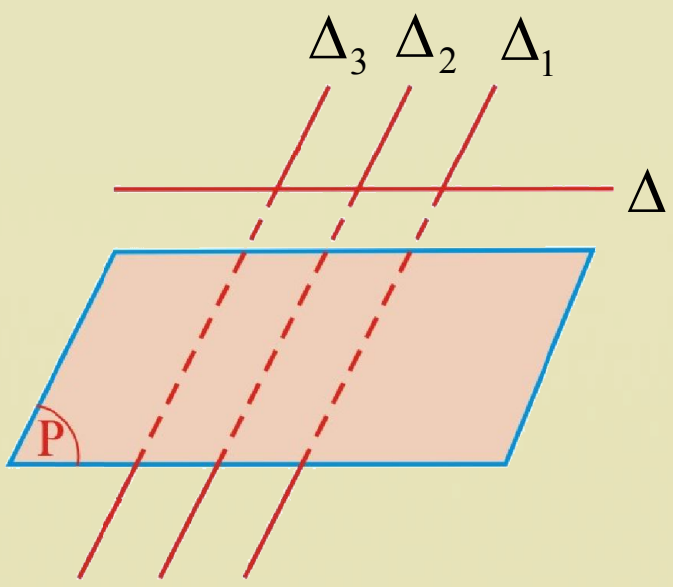

2- که چېرې د Δ_1 , Δ_2 او Δ_3 موازي خطونه د P مستوي او د Δ مستقیمې کرښې په واسطه په داسې حال کې چې د Δ مستقیمه کرښه د P له مستوي سره موازي ده قطع شي، ثبوت کړئ چې مخامخ قطع شوې قطعات یو له بل سره مساوي دي.

(c) ketabton.com: The Digital Library

په فضا کې متعامدې مستقيمې کرښې او مستوي ګانې

که د Δ مستقيمه کرښه د P مستوي په (O) ټکي کې عمود وي، آيا هغه ټول مستقيم خطونه چې د (O) له نقطې څخه تيريږي، د Δ په مستقيمې کرښې باندې عمود دي؟

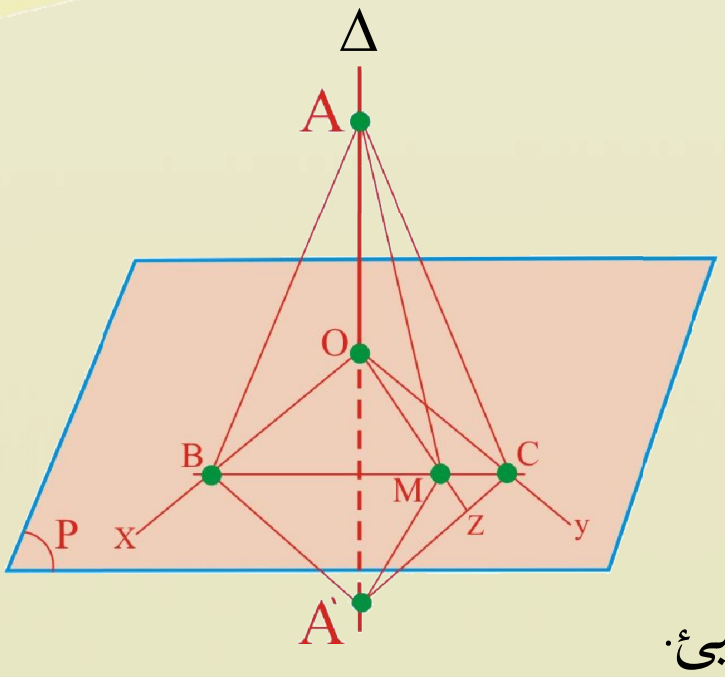

فعاليت

- مخامخ شکل په پام کې ونيسئ د $\overline{ox}$ او $\overline{oy}$ مستقيمونه د Δ په مستقيم د (O) په نقطه کې عمود رسم کړئ.
- د P په مستوي کې د OZ اختياري مستقيمه کرښه په پام کې ونسيئ.
- د Δ له مستقيمې کرښې څخه د $\overline{OA}$ او $\overline{OA'}$ مساوي‌الفاصله قطعه خطونه جلا کړئ.

يو اختياري قاطع داسې رسم کړئ چې د $\overline{OX}$ مستقيمه کرښه د B او $\overline{oy}$ مستقيمه کرښه د C او د $\overline{OZ}$ مستقيمه کرښه د M په نقطو کې قطع کړي. $\overline{OX}$ او $\overline{OY}$ له $\overline{AA`}$ سره څه اړيکه لري.

- د OZ مستقيمه کرښه د Δ پر مستقيمه کرښه عمود ده؟ ولې؟

د پورتني فعاليت له تر سره کولو وروسته د قضيې متن او ثبوت داسې بيانوو.

قضيه: که د Δ يوه مستقيمه کرښه پر هغو دوو مستقيمو کرښو چې دواړه د Δ مستقيمه کرښه د (O) په نقطه کې قطع کوي عمود وي، په هغو ټولو مستقيمو خطونو باندې چې په مستوي کې متقاطع دي او د (O) له نقطې څخه تيريږي، عمود ده.

(c) ketabton.com: The Digital Library

ثبوت: دوې مستقيمې کرښې د $\overline{OX}$ او $\overline{OY}$ په پام کې نيسو، دا دوه مستقيمونه د Δ پر مستقيم چې د(O) له نقطې څخه تېرېږي، عمود دي او د P مستوي جوړوي، د P په مستوي کې د OZ اختياري مستقيمه کرښه په پام کې نيسو، د Δ له مستقيمې کرښې څخه د $\overline{OA}$ او $\overline{OA'}$ دوه متساوي الفاصله قطعه خطونه جلاکوو.

او د P په مستوي کې يو قاطع رسموو چې د $\overline{OX}$ د B او $\overline{OY}$ د C او oz مستقيم د M په نقطه کې قطع کړي.
$\overline{OX}$ او $\overline{OY}$ دواړه $\overline{AA'}$ منځنۍ عمودونه دي، نو

$$\overline{BA} = \overline{BA'}$$

$$\overline{CA} = \overline{CA'}$$

د ABC او $A'B'C'$ مثلثونه انطباق منونکی دي. د انطباق منلو د عمليې په وخت کې د C, B او M نقطې ثابتې پاتې کېږي او د A نقطه په A' او $\overline{MA}$ په $\overline{MA'}$ منطبق کېږي، نو ليکلی شو. $\overline{MA'} = \overline{MA}$

د $M\overset{\Delta}{A}A'$ مثلث متساوي الساقين دی او د $\overline{MO}$ منځنی په عين وخت کې د $\overline{AA'}$ منځنی عمود دی په نتيجه کې د Δ مستقيمه کرښه د $\overline{OZ}$ پر مستقيمې کرښې باندې عمود دی.

فعاليت

- که د B او C نقطې د P او Q له ټکو څخه متساوي الفاصله وي، د BC مستقيمې کرښې هره نقطه له P او Q څخه متساوي‌الفاصله ده. اوس د X يوه اختياري نقطه د BC پر مستقيمه کرښه وټاکئ او ثابت کړئ چې X د P او Q څخه متساوي الفاصله دی.

پوښتنې

1- که چېرې د d_1 او d_2 خطونه يو له بل سره موازي وي، له هغو سره څو موازي مستويګانې رسمولای شئ؟

2- که د L خط د P پر مستوي عمود وي، آيا ټولې هغه مستويګانې چې د L خط په کې پروت دی د P په مستوي باندې عمود دي؟

(c) ketabton.com: The Digital Library

په فضا کې موازي مستويګانې

دوې مستويګانې چې هيڅ مشترکه نقطه ونه لري، موازي مستويګانې بلل کيږي.

فعاليت

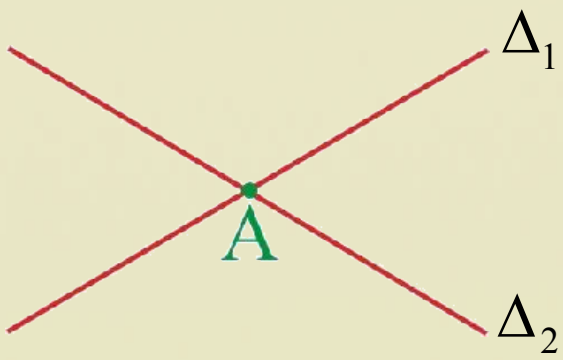

- د Δ_1 او Δ_2 مستقيم خطونه، چې د A په نقطه کې متقاطع دي، په پام کې ونسيئ
- له دې دوو مستقيمو خطونو او د A له نقطې څخه يوه مستوي تېرولی شو.
- له دې مستوي څخه بهر د d_1 او d_2 دوې مستقيمې کرښې چې په ترتيب سره د Δ_1 او Δ_2 سره موازي او يو بل د B په ټکي کې قطع کړي، رسم کړئ.
- هغه مستوي چې د Δ_1 او Δ_2 او د A له نقطې څخه جوړه شوې، له هغې مستوي سره چې د d_1 او d_2 مستقيمو کرښو او د B له ټکي څخه جوړه شوې ده، څه اړيکه لري؟

د پورتني فعاليت له تر سره کولو وروسته د قضيې متن او ثبوت بيانولی شو.

قضيه: که د يوې مستوي دوې متقاطع مستقيمې کرښې د بلې مستوي له متقاطع مستقيمو کرښو سره موازي وي، نومورې مستويګانې سره موازي دي.

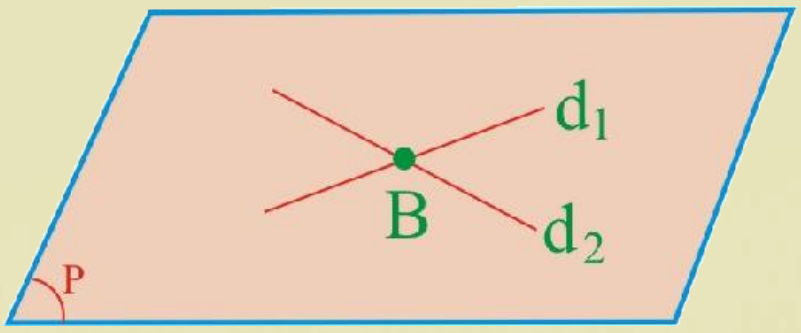

ثبوت: د Δ_1 او Δ_2 مستقيم خطونه د A په نقطه کې متقاطع دي او يوه د P مستوي جوړوي. د B له نقطې څخه(چې د P مستوي بهر ده) د d_1 او d_2 مستقيم خطونه له Δ_1 او Δ_2 سره موازي رسم شوي دي، چې d_1 او d_2 هم يوه د Q مستوي جوړوي، ثابتوو چې د P او Q مستويګانې سره موازي دي.

(c) ketabton.com: The Digital Library

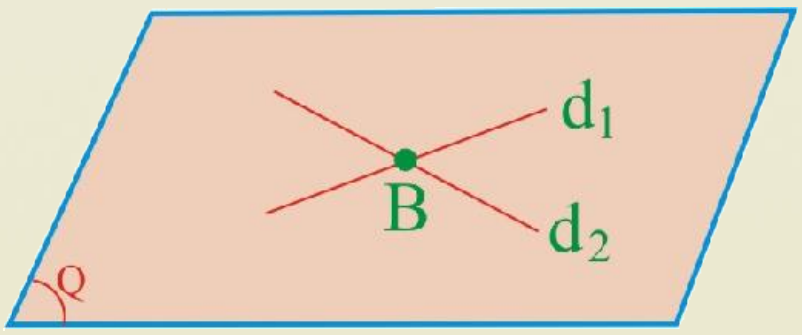

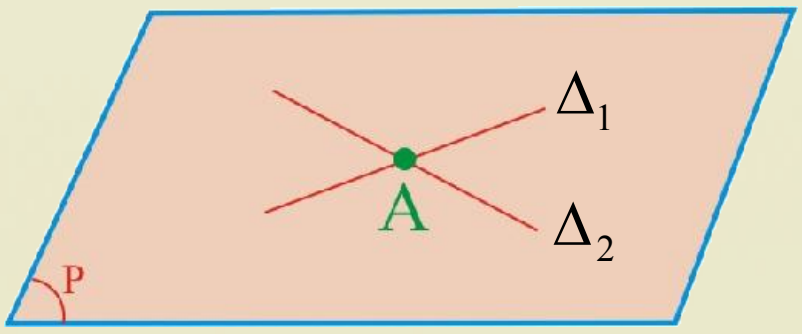

څرنګه چې d_1 او Δ_1 سره موازي دي، نو د d_1 د P له مستوي سره هم موازي دي. همدارنګه d_2 له Δ_2 سره موازي دي نو d_2 هم د P له مستوي سره موازي دی. اوس که چېرې د P او Q مستوي ګانې یو بل سره قطع کړې، مشترك فصل یې هم په همدې وخت کې له d_1 او d_2 سره موازي کېږي، ولې؟

دا امکان نه لري، ځکه چې د d_1 او d_2 مستقیم خطونه متقاطع دي، په نتیجه کې د P او Q مستوي ګانې یوه بله سره قطع کولای نشي، نو یو بل سره موازي دي.

پوښتني

که چېرې د E او F مستوي ګانې سره موازي وي او د L_1 مستقیمه کرښه په E مستوي او د L_2 مستقیمه کرښه د F په مستوي کې پرتې وي، آیا $L_1 // L_2$ دی؟

(c) ketabton.com: The Digital Library

د څپرکي مهم ټکي

1- دفضايي هندسې بنسټيز مفاهيم او اکسيومونه:

لومړنی اصطلاحګاني Postulates:

هغه مفاهيم او مفکورې، چې پرته له کوم تعريف څخه منل کېږي، لومړني اصطلاحات بلل کېږي د مثال په توګه. ټکی، کرښه، مستوي او فضا.

دليل او برهان Logical Reason:

برهان د ذهن هغه عمل ته ويل کېږي چې له يو لړ مخکينيو سمو وړانديزونو او څېړونو څخه و روسته وروستيو څېړنو ته رسېږي او د هغې سموالی مخکې منل شوی وي، موږ هم کولی شو، هغه و منو.

قضيه: Theorem

هغه ادعا چې د هغې سموالی او صحت يولړ منطقي دلايلو ته اړتيا ولري، قضيه بلل کېږي.

ټکی: موږ نقطه د يو ذهني مفهوم په ډول پېژنو او هغه د لومړنی اصطلاح(تعريف شوې نه ده) په توګه منو.

مستقيم خط: کش شوی تار، د مېز څنډه او د خط کش تېغه د مستقيم خط مفهوم او مطلب بيانوي. مستقيم خط د لومړنی اصطلاح(تعريف شوی نه دی) په ډول منو.

د مستوي لومړی اکسيوم: هغه مستقيم خط چې د يوې مستوي دوې مختلفې نقطې سره ونښلوي، په همغه مستوي کې شامل دی.

د مستوي دويم اکسيوم: له هرو دريو نقطو څخه چې د يوه مستقيم خط په استقامت پرتې نه وي، يوه مستوي تېرېږي.

د متقاطع مستوي ګانو اکسيوم: که چېرې دوه مستوي ګانې يو ګډ ټکی ولري، متقاطع دي او په همدې ډول که چېرې يو مسقيم خط ولري، دغه متقاطع خط ته د دوو مستوي ګانو مشترک فصل وايي.

فضا: فضا هم (تعريف شوې نه ده) لومړنی اصطلاح په توګه پېژنو.

لومړی اصل: فضا د لايتناهي نقطو مجموعه ده.

دويم اصل: لږتر لږه د فضا څلور داسې نقطې شته چې په يوه مستوي کې واقع نه دي.

(c) ketabton.com: The Digital Library

په درې بُعدي فضا کې خط او مستوي:

درې بعدي فضا: هغه فضا چې موږ په کې ژوند کوو درې بعدي فضا ده.

له يو بل سره په فضا کې د دوو مستقيمو خطونو نسبي حالت

موازي

منطبق

متقاطع

متنافر

د يوې مستقيمې کرښې او يوې مستوي نسبي حالت

متقاطع

منطبق

موازي

د دوو مستوي گانو نسبي حالت

منطبق

متقاطع

عمود

په فضا کې موازي مستقيمونه:

دوې مستقيمې کرښې چې په يوې مستوي کې واقع او مشترکه نقطه ونه لري، موازي مستقيمونه بلل کيږي.

په فضا کې د دوو مستقيمونو تر منځ زاويه: په فضا کې دوې متوازي الاضلاع او هم جهته زاويې سره مساوي دي.

په فضا کې موازي مستقيمونه او مستوي: يو مستقيم خط له يوې مستوي سره هغه وخت موازي بلل کيږي، چې هيڅ مشترکه نقطه ونه لري.

په فضا کې متعامد مستقيمونه او مستوي گانې:

که د Δ مستقيم د (O) په نقطه کې د P پر مستوي عمود وي، ټول هغه مستقيم خطونه چې د (O) له نقطې څخه تيريږي، د Δ پر مستقيمه کرښه باندې عمود دي؟

په فضا کې موازي مستوي گانې: دوې مستوي گانې، چې هيڅ گډ ټکی ونه لري، موازي مستوي گانې بلل کيږي.

(c) ketabton.com: The Digital Library

د څپرکي پوښتنې

هرې پوښتنې ته څلور ځوابونه ورکړل شوي، سم ځواب يې پيدا او کرښه ترې تاو کړئ.

1- د P مستوي د A او B نقطې مفروض دي. که د A او B د نقطو فاصله له p مستوي سره مساوي وي، د P مستوي په هر حال کې:

a ـ د AB له خط سره موازي دی　　b ـ د AB خط يې له منځه تېرېږي

c ـ د AB خط عمودي ناصف دی　　d ـ د AB له خط سره موازي دي يا له AB څخه تېرېږي

2- که د Δ خط د P د مستوي په ټولو خطونو عمود وي، نو:

a ـ د Δ خط د مستوي پر ټولو خطونو عمود دی.

b ـ د Δ خط يوازې د P مستوي پر دوو خطونو عمود دی.

c ـ د Δ خط د P مستوي له بې شميره خطونو سره موازي دی.

d ـ د Δ خط يوازې د P مستوي له يوه خط سره موازي دی.

3- په دقيق ډول له لاندې کومو اجزاوو څخه يوه مستوي نه تېرېږي له:

a ـ هغو درې نقطو څخه چې پر يو مسقيم واقع دي.　　b ـ له دوو متقاطع خطونو څخه

c ـ د يو خط او د هغې له خارجي نقطې څخه　　d ـ څلور متمايزې مختلفې نقطې

4- له لاندې ځوابونو څخه کوم يو يې هر وخت سم نه وي.

a ـ که د Δ مستقيم خط د P له مستوي سره موازي وي او له هغه خط څخه يوه مستوي تېره کړو، دا مستوي د P له مستوي سره موازي دی.

b ـ که د Δ او Δ' دوه خطونه د d له خط سره موازي وي، هغه وخت Δ او Δ' يو له بل سره موازي دي.

c ـ که د Δ او Δ' دوه خطونه موازي وي او د P مستوي د Δ خط قطع کړي، د Δ' خط هم قطع کولای شي.

d ـ که دوې مختلفې مستوي‌گانې په يوه نقطه کې شريکې وي، نو نوموړې مستوي‌گانې د ياد شوي ټکي په امتداد کې شريکې دي.

5- د Δ خط د P مستوي قطع کوي، خو د P پر مستوي عمود نه دی. دا خط د P د مستوي په څو خطونو باندې عمود دی؟

$a)$ 0　　$b)$ 1　　$c)$ 2　　$d)$ بې شميره

(c) ketabton.com: The Digital Library

6- له لاندې ځوابونو څخه کوم يو يې هر وخت سم نه دي.

a _ که کوم خط د مستوي له خطونو سره موازي وي او متمايز وي، نوموړی خط د هغې له مستوي سره موازي دی.

b _ که يو خط يو له متقاطع مستوي ګانو څخه قطع کړي، بله هم قطع کوي.

c _ که يو خط يوه له دوو موازي مستوي ګانو څخه قطع کړي، بله يې هم قطع کوي.

d _ که يوه مستوي يوه له دوو موازي مستوي‌ګانو څخه قطع کړي، بله يې هم قطع کوي.

لاندې سوالونه حل کړئ:

1- که چېرې د E او F مستوي ګاني يوله بله سره موازي او د L_1 مستقيم خط د E په مستوي کې او د L_2 مستقيم خط د F په مستوي کې واقع وي آيا $L_1 // L_2$ دي؟

2- که دوه مستقيم خطونه له يوې مستوي سره موازي وي، نوموړي خطونه خپل منځ کې عمود کيدای شي.

3- په لاندې مستطيل کې د L_1, L_2 او L_3 خطونو موقعيت نظر يو بل ته څرګند کړئ. د دې خطونو کومې جوړې متقاطع، کومې جوړې يې موازي او کومې جوړې متنافرې دي؟

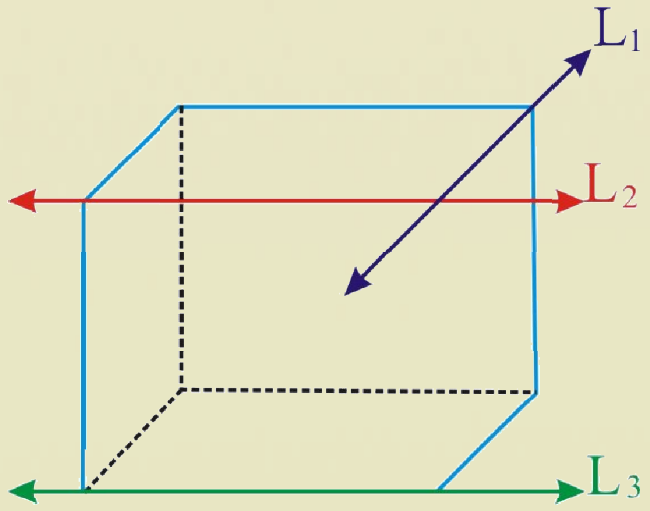

4- که د P_1 او P_2 مستوي‌ګانې د P پر مستوي باندې عمود وي، د P_1 او P_2 مستوي ګانې په خپل منځ کې موازي دي؟

5- په مخامخ شکل کې هر څلور ضلعي يو مستطيل دی.

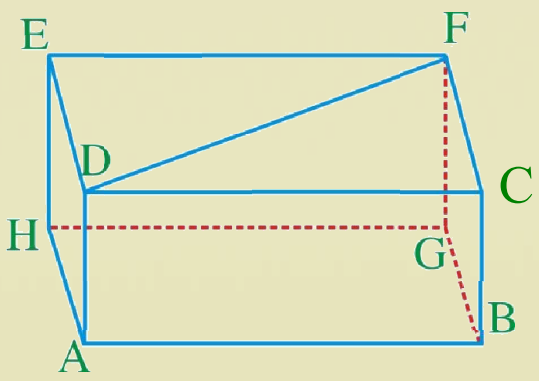

a _ د دوو مستوي‌ګانو نومونه واخلئ چې پر AD عمود وي او ووايئ ولې عمود دي؟

b _ د دريو قطعه خطونو، نومونه واخلئ چې پر $ABCD$ مستوي باندې عمود وي.

c _ د $E\hat{D}F$ زاويه قايمه ده.

d _ د $D\hat{F}C$ زاويه قايمه ده.

(c) ketabton.com: The Digital Library

څلورم څپرکی

ترادفونه او سلسلي

(c) ketabton.com: The Digital Library



(c) ketabton.com: The Digital Library

ترادفونه

Sequence



په مخامخ شکل کې څه ډول ترتیب وینئ.

هر ترتیب چې شتون لري، توضیح یې کړئ.

تعریف: د $a_1, a_2, a_3, \dots, a_n$ عددونه د عددونو د ترادف په نامه یادېږي، یا ترادف له هغې تابع څخه عبارت دی چې د تعریف ناحیه یې طبیعي عددونه او د قیمتونو ناحیه یې حقیقي عددونه تشکیلوي. غیر منظم دعددونو لیکل یو ترادف نه دی.

له پورتنیو عددونوڅخه هر یو د نوموړي ترادف حدونه دي، a_1 یې لومړی حد او a_2 یې دویم حد او a_n دترادف $n-$ ام حد دی، ترادف په لنډ ډول داسې لیکې: $\{a_n\}_{n\in IN}$ په دې حالت کې a_n د ترادف $n-$ ام حد دی.

د جفتو عددونو ترادف $2,4,6,8, \dots ,2n$

د طاقو عددونو ترادف $1,3,5,7, \dots ,2n-1$

د 5 د مضربونو ترادف $5,10,15,20, \dots ,5n$

معمولاً یو ترادف د یوه اختیاري $n-$ ام حد په واسطه ټاکل او تعریفیږي؛ مثلاً:

$$a_n = 2n \quad , \quad n = 1,2,3, \dots$$
$$b_n = 2n-1 \quad , \quad n = 1,2,3, \dots$$
$$c_n = 5n \quad , \quad n = 1,2,3, \dots$$

فعالیت

- د $\{a_n\} = \{\frac{n+1}{n}\}$ ترادف په پر مختللي شکل ولیکئ.
- د $a_n = \frac{(-1)^{n-1}}{n}$ ترادف په پرمختللي(انکشافي) شکل ولیکئ.

هغه ترادف چې د حدونو عددي قیمت یې په تدریجي ډول زیاتېږي متزاید ترادف بلل کېږي، لکه:

د جفت، طاق او 5 د مضربونو عددونوترادفونه.

او هغه ترادف چې د حدونو عددي قیمت یې په تدریجي ډول کمېږي، متناقص ترادف بلل کېږي، لکه:

د 5 مضرب عددونو معکوس ترادف $\frac{1}{5}, \frac{1}{10}, \frac{1}{15}, \dots, \frac{1}{5n}$

(c) ketabton.com: The Digital Library

لومړی مثال: د $a_n = n^2$ او $b_n = \frac{3}{n}$ ترادفونه متزايد دي، که متناقص؟

حل:

$$a_n = n^2 \quad , \quad n = 1, 2, 3, \ldots \quad , \quad a_n = 1, 4, 9, 16, 25, 36, \ldots$$

$$b_n = \frac{3}{n} \quad , \quad n = 1, 2, 3, \ldots \quad , \quad b_n = 3, \frac{3}{2}, 1, \frac{3}{4}, \frac{3}{5}, \ldots$$

ليدل کېږي چې د a_n ترادف د حدونو عددي قيمت په تدريجي ډول زياتېږي، نو د a_n ترادف متزايد دی، همدارنگه ليدل کېږي چې د b_n د ترادف د حدونو عددي قيمت په تدريجي ډول کمېږي، نو د b_n ترادف يو متناقص ترادف دی.

يادډښت: هغه ترادفونه چې دحدونوشمېر يې معلوم وي معين ترادفونه او هغه ترادفونه چې د حدونو شمېر يې معلوم نه وي، د غير معينو ترادفونو په نامه يادېږي.

دويم مثال: د $1, 2, 4, 8 \ldots$ ترادف په پام کې ونيسئ او $n-$ ام حد يې پيدا کړئ. $a_n = 2^{n-1}$ دی.

حل: $n-$ ام حد يې $an = 2^{n-1}$ دی.

دريم مثال: که د يوه ترادف $a_n = \frac{n^2}{n+1}$ وروستي حد درکړل شوی وي، 5 لومړنی حدونه يې پيدا کړئ.

حل: د 5 لومړنيو حدونو د پيداکولو لپاره $n = 1, 2, 3, 4, 5$ قيمتونه ورکوو او په ترادف کې يې وضع کوو چې په دې ډول د ترادف 5 لومړني عناصر(حدونه) په لاس راځي.

$$a_n = \frac{n^2}{n+1}$$

$$n = 1 \quad , \quad a_1 = \frac{1}{1+1} = \frac{1}{2}$$

$$n = 2 \quad , \quad a_2 = \frac{2^2}{2+1} = \frac{4}{3}$$

$$n = 3 \quad , \quad a_3 = \frac{3^2}{3+1} = \frac{9}{4}$$

$$n = 4 \quad , \quad a_4 = \frac{4^2}{4+1} = \frac{16}{5}$$

$$n = 5 \quad , \quad a_5 = \frac{5^2}{5+1} = \frac{25}{6}$$

پوښتنې

1- په لاندې ترادفونوکې $n-$ ام حد وټاکئ؟

$$\left.\begin{array}{l} 1, 3, 5, 7, \ldots \\ \frac{1}{3}, \frac{1}{6}, \frac{1}{9}, \ldots \end{array}\right\}$$

2- که يو ترادف د $a_n = \frac{(-1)^{n+1}}{n}$ په شکل راکړل شوی وي، 6 لومړني پرله پسې حدونه يې وليکئ.

(c) ketabton.com: The Digital Library

حسابي ترادف

Arithmetic Sequences



که په یوه ترادف کې د دوو پرله پسې حدونو ترمنځ توپیر یې یو ثابت عدد وي، دا ترادف په څه نوم یادیږي.

فعالیت

- د مخامخ عددونو نوترادف په پام کې ونیسئ $5,8,11,14,17,20$
- د لومړي او وریسې حد ترمنځ توپیر څو دی؟
- د پورتنیو عددونو ترادف له څو حدونو څخه جوړ شوی دی؟
- له کیڼې څخه ښي خوا ته د پورتنیو عددونو ترادف ولیکئ.

له پورتني فعالیت څخه لاندې تعریف ویلای شو :

تعریف: که په یوه ترادف کې د دوو پرله پسې حدونو ترمنځ توپیر یو ثابت عدد وي، هغه د حسابي ترادف په نوم یادیږي.

دغه ثابت عدد له ګډ توپیر(Common deference) څخه عبارت دی او په d سره ښودل کیږي که d یو مثبت عدد($d>0$) وي، ترادف متزاید او که d منفي($d<0$) وي، ترادف متناقص بلل کیږي، لکه: په لاندې مثالونو کې:

$2,5,8,11,14,17,\ ...$

$$\left.\begin{array}{l} d=5-2=3 \\ d=8-5=3 \\ d=11-8=3 \end{array}\right\} \Rightarrow\ d=3>0$$

څرنګه چې $d>0$ دی نو ترادف متزاید دی.

(c) ketabton.com: The Digital Library

دویم ترادف په پام کې نیسو:

$$4, 0, -4, -8, -12, -16, -20, \ \ldots$$

$$\left.\begin{array}{l} d = 0-4 = -4 \\ d = -4-0 = -4 \\ d = -8-(-4) = -4 \\ d = -12-(-8) = -4 \\ d = -16-(-12) = -4 \end{array}\right\} \Rightarrow d = -4 < 0$$

څرنگه چې $d < 0$ دی نو ترادف متناقص دی.

لومړی مثال: داسې یو ترادف ولیکئ چې لومړی حد یې $\frac{3}{2}$ او ګډ توپیر یې 2 وي.

حل: څرنگه چې لومړی حد یې $a_1 = \frac{3}{2}$ او ګډ توپیر یې $d = 2$ دی، نو په عمومي ډول لیکلای شو:

$$a_1 \ , a_2 \ , a_3 , \ \ldots$$

$$a_2 - a_1 = d \quad \Rightarrow \quad a_2 = a_1 + d$$

$$a_3 - a_2 = d \quad \Rightarrow \quad a_3 = a_2 + d = (a_1 + d) + d = a_1 + 2d$$

$$a_4 - a_3 = d \quad \Rightarrow \quad a_4 = a_3 + d = (a_1 + 2d) + d = a_1 + 3d$$

اوس د $a_1 \ , a_2 \ , a_3 \ , \ldots \ , a_n$ قیمتونه په ترادف کې وضع کوو:

$$a_1 \ , (a_1 + d) \ , \quad (a_1 + 2d) \quad , \quad (a_1 + 3d), \ \ldots$$

$$\frac{3}{2} \ , (\frac{3}{2} + 2) \ , \quad (\frac{3}{2} + 2 + 2) \quad , \quad (\frac{3}{2} + 2 + 2 + 2), \ \ldots$$

$$\frac{3}{2} , \quad \frac{7}{2} \quad , \quad \frac{11}{2} \quad , \quad \frac{15}{2}, \ \ldots$$

دویم مثال: کوم یوله لاندې ترادفونو څخه حسابي ترادف دی.

$$a) \ 1, \frac{3}{2}, 2, \frac{5}{2}, 3, \frac{7}{2}, 4, \ \ldots$$

$$b) \ 1, 2, 4, 8, 16, \ \ldots$$

a د جزء حل: د حسابي ترادف د تعریف په پام کې نیولو سره د حدونو ګډ توپیر په لاس راوړو:

$$1, \frac{3}{2}, 2, \frac{5}{2}, 3, \frac{7}{2}, 4$$

$$d = \frac{3}{2} - 1 = \frac{1}{2}$$

$$d = 2 - \frac{3}{2} = \frac{1}{2}$$

(c) ketabton.com: The Digital Library

$$d = 3 - \frac{5}{2} = \frac{1}{2}$$

$$d = \frac{7}{2} - 3 = \frac{1}{2}$$

$$d = 4 - \frac{7}{2} = \frac{1}{2}$$

لیدل کېږي چې د پورتني ترادف د ټولو حدونو تر منځ ګډ تـوپیر $\frac{1}{2}$ ثابـت عـدد دی، نـو د حـسابي تـرادف تعریف پر بنسټ ویلی شو چې نوموړی ترادف یو حسابي ترادف دی.

د b جزء حل:

$$1 \;,\; 2 \;,\; 4 \;,\; 8 \;,\; 16$$

$$d = 2 - 1 = 1$$

$$d = 4 - 2 = 2$$

$$d = 8 - 4 = 4$$

$$d = 16 - 8 = 8$$

لیدل کېږي چې د پورتني ترادف د ټولو عناصرو ترمنځ ګډ توپیر یـو ثابـت عـدد نـه دی، نـو تـرادف حسابي ترادف نه دی.

په یوه حسابي ترادف کې د n-ام حد ټاکل:

که چېرې د یوه حسابي ترادف $a_1, a_2, \ldots, a_n$ لومړی حد په a او ګډ تـوپیر یـې d وي، د n-ام حـد د پیداکولو لپاره له لاندې تحلیلي ثبوت څخه ګټه اخلو، ددې کار لپاره د $5, 7, 9, 11, \ldots$ ترادف په پام کې نیسو.

$$5, 7, 9, 11, \ldots$$

$$d = 7 - 5 = 2$$

$$5, 5 + 2, 5 + 2 \cdot 2, 5 + 2 \cdot 2 \cdot 2, \ldots$$

$$a_1 = 5,\; a_2 = 5 + 2 \cdot 2,\; a_3 = 5 + 2 \cdot 2 \cdot 2, \ldots$$

$$a_1, a_2, a_3, \ldots$$

$$a_1, (a_1 + d), (a_1 + 2d), (a_1 + 3d), \ldots$$

په عمومي ډول لیکلای شو چې:

(c) ketabton.com: The Digital Library

د پورتني مثال په پام کې نیولو سره په عمومي توګه کولای شو ولیکو چې:

$$a_1 = a_1$$
$$a_2 - a_1 = d \Rightarrow a_2 = a_1 + d$$
$$a_3 - a_2 = d \Rightarrow a_3 = a_2 + d = a_1 + d + d = a_1 + 2d$$
$$a_4 - a_3 = d \Rightarrow a_4 = a_3 + d = a_1 + 2d + d = a_1 + 3d$$
$$\vdots$$
$$a_n - a_{n-1} = d \Rightarrow a_n = a_{n-1} + d = a_1 + (n-1)d$$

لومړی حد	دویم حد	دریم حد	څلورم حد		n-ام حد
a	$a+d$	$a+2d$	$a+3d$	....	$a+(n-1)d$
$\downarrow$	$\downarrow$	$\downarrow$	$\downarrow$		$\downarrow$
a_1	a_2	a_3	a_4		a_n

په پایله کې په لاس راځي چې د a , d , n او a_n ترمنځ لاندې اړیکه شتون لري:

$$a_n = a + (n-1)d$$

لومړی مثال: د دغه . . . , 12 , 5 , -2 حسابي ترادف 30-ام حد پیدا کړئ.

حل:

$$\left.\begin{array}{l} a_1 = -2 \\ d = 5-(-2) = 7 \\ n = 30 \\ a_{30} = ? \end{array}\right| \begin{array}{l} a_n = a + (n-1)d \\ a_{30} = -2 + (30-1)7 \\ a_{30} = -2 + 29 \cdot 7 \\ a_{30} = -2 + 203 \Rightarrow a_{30} = 201 \end{array}$$

دویم مثال: دلاندې حسابي ترادف د حدونو شمېر په لاس راوړئ.

$$35 \, , \, 40 \, , \, 45 \, , \, . \, . \, . \, , 2000$$

حل: پوهېږو چې:

$$\left.\begin{array}{l} a = 35 \\ d = 40 - 35 = 5 \\ a_n = 2000 \end{array}\right\}$$

$$a_n = a + (n-1)d$$
$$2000 = 35 + 5n - 5$$
$$2000 = 30 + 5n$$
$$2000 - 30 = 5n$$
$$1970 = 5n \Rightarrow n = 394$$

(c) ketabton.com: The Digital Library

فعالیت

- که چېرې په یوه حسابي ترادف کې $d=4, a_1=-11$ وي، a_2 او a_3 حدونه پیدا کړئ.

د حسابي ترادف وسطي حد:

که د یوه حسابي ترادف درې پرله پسې حدونه د a_{n-1}, a_n, a_{n+1} ولرو، په داسې حال کې چې $n=2,3,4$ دی.

$$a_{n-1}+a_{n+1}=[a_1+(n-2)d]+[a_1+nd]$$
$$=[a_1+nd-2d]+[a_1+nd]=[a_1+nd-2d+a_1+nd]$$
$$a_{n-1}+a_{n+1}=[2a_1+2nd-2d]=2[a_1+(n-1)d]=2a_n$$
$$\Rightarrow\ 2a_n=a_{n-1}+a_{n+1}\quad \Rightarrow a_n=\frac{a_{n-1}+a_{n+1}}{2}$$

لومړی مثال: د 7 او 23 عددونو حسابي اوسط عبارت دی، له:

$$a_n=\frac{7+23}{2}=\frac{30}{2}=15$$

دویم مثال: د x عدد داسې وټاکئ چې د $\underbrace{2x+1}_{a_{n+1}},\underbrace{2x-4}_{a_n},\underbrace{3x+3}_{a_{n-1}}$ درې حده حسابي ترادف تشکیل کړي، ترادف یې ولیکئ.

$$a_n=\frac{a_{n-1}+a_{n+1}}{2}\quad \Rightarrow 2x-4=\frac{3x+3+2x+1}{2}=\frac{5x+4}{2}$$
$$4x-8=5x+4\quad \Rightarrow\ 4x-5x=4+8=12\quad \Rightarrow\ -x=12$$
$$x=-12$$

ترادف یې عبارت دی له: $2(-12)+1 \quad , \quad 2(-12)-4 \quad , \quad 3(-12)+3$

$$-24+1, -24-4, -36+3 \quad \Rightarrow -23, -28, -33, -38, -43, \ ....$$

یاددښت

که د یوه حسابي ترادف $n-$ ام او $m-$ ام حدونه معلوم وي، یعنې:

$$a_n=a+(n-1)d \quad .... \ I$$
$$a_m=a+(m-1)d \quad .... \ II$$

(c) ketabton.com: The Digital Library

نو د I اړیکې څخه II اړیکه کموو، په پایله کې کولای شو ګډ توپیر داسې په لاس راوړو

$d = \frac{a_n - a_m}{n-m}$ (ثبوت يې د زده‌کوونکو دنده ده) چې په ياد شوي فورمول کې d ګډ توپير، a_n د ترادف $n-$ام حد ، a_m د ترادف $m-$ام حد دی.

دريم مثال: د يوه حسابي ترادف پنځم حد 27 او نهم حد يې 47 دی، ګډ توپير او لومړی حد يې پيدا کړئ، په پای کې د ترادف ۹ حدونه وليکئ.

$\square, \square, \square, \square, 27, \square, \square, \square, 47$

حل:

$$\left.\begin{array}{l} a_n = 47 \\ n = 9 \\ a_m = 27 \\ m = 5 \\ d = ? \\ a = ? \end{array}\right\} \begin{array}{l} d = \frac{a_n - a_m}{n-m} = \frac{47-27}{9-5} = \frac{20}{4} = 5 \\ d = 5 \\ a_n = a_1 + (n-1)d \quad \Rightarrow 47 = a_1 + (9-1)5 = a + 40 \\ \Rightarrow \quad 47 - 40 = a_1 \quad \Rightarrow a_1 = 7 \end{array}$$

ترادف يې عبارت دی له: $7,12,17,22,27,32,37,42,47$

هارمونيکي ترادف: د $\{a_n\}$ يوه ترادف ته هغه وخت هارمونيکي ترادف وايي چې معکوس يې $b_n = \frac{1}{a_n}$ يو حسابي ترادف وي.

لومړی مثال: د ... $2,4,6,8,10,$ ترادف يو حسابي ترادف دی، ځکه چې $d = 2$ دی، د دغه ترادف د حدونو معکوس يعني ... $\frac{1}{2}, \frac{1}{4}, \frac{1}{6}, \frac{1}{8}, \frac{1}{10},$ يو هارمونيکي ترادف تشکيلوي.

دويم مثال: د طبيعي عددونو معکوس ترادف يو هارمونيکي ترادف دی. $n-$ ام حد يې وليکئ.

$$1, \frac{1}{2}, \frac{1}{3}, \frac{1}{4}, \ \ldots \ , \frac{1}{n}$$

$$\{a_n\} = \frac{1}{n}$$

(c) ketabton.com: The Digital Library

دریم مثال : که چېرې په یوه هارمونیکې ترادف کې $a_1 = \frac{1}{4}$ او $d = -3$ وي، هارمونیکې ترادف یې په لاس راوړئ

حل:

$$\frac{1}{4}\,,\,(\frac{1}{4}-3)\,,\,(\frac{1}{4}-3-3)\,,\,(\frac{1}{4}-3-3-3)\,,\,(\frac{1}{4}-3-3-3-3)\,,\,\ldots$$

$$\frac{1}{4}\,,-\frac{11}{4}\,,-\frac{23}{4}\,,-\frac{35}{4}\,,-\frac{47}{4}\,,\ldots$$

فعالیت:

آیا د طبیعي طاقو عددونو معکوس ترادف یو هارمونیکي ترادف دی، $n-$ ام حد یې ولیکئ.

هارمونیکي حسابي اوسط: که درې مسلسل عناصر a_{n-1} ، a_n او a_{n+1} په داسې حال کې چې $n = 2\,,\,3\,,\,4\ldots$ دی، له یوه حسابي ترادف څخه وټاکل شي، څرنګه چې $\frac{1}{a_{n-1}}, \frac{1}{a_n}$ او $\frac{1}{a_{n+1}}$ د یوه هارمونیک ترادف حدونه دي لرو، چې:

$$\frac{1}{a_n} = \frac{\frac{1}{a_{n+1}} + \frac{1}{a_{n-1}}}{2} = \frac{\frac{a_{n-1}+a_{n+1}}{(a_{n+1})(a_{n-1})}}{2} = \frac{a_{n-1}+a_{n+1}}{(a_{n+1})(a_{n-1})}\cdot\frac{1}{2} = \frac{a_{n+1}+a_{n-1}}{2a_{n+1}\cdot a_{n-1}}$$

$$a_n = \frac{2(a_{n-1})(a_{n+1})}{a_{n-1}+a_{n+1}}$$

په پایله کې پورتنئ اړیکه چې هارمونیک حسابي اوسط شیېې، لیکلای شو:

$$\boxed{a_n = \frac{2(a_{n-1})(a_{n+1})}{a_{n-1}+a_{n+1}}}$$

مثال : د 2 او 8 عددونو هارمونیکي اوسط پیدا کړئ.

حل: له $a_n = \frac{2(a_{n-1})(a_{n+1})}{a_{n-1}+a_{n+1}}$ فارمول څخه په کار اخیستنې سره لرو چې:

$$a_n = \frac{2(2\cdot 8)}{2+8} = \frac{2\cdot 16}{10} = \frac{16}{5} = 3.2$$

(c) ketabton.com: The Digital Library

پوښتنې

1- د مخامخ ترادف 35 -ام حد پیدا کړئ. $-2\ ,\ 5\ ,\ 12\ ,\ ...$

2- آیا $\frac{5}{4}, 1, \frac{3}{4}$ یو حسابي ترادف تشکیلوي؟ د پوښتنې د سموالي په صورت کې یې مشترک توپیر پیدا کړئ.

3- د $2\sqrt{2}$ او $16\sqrt{2}$ تر منځ حسابي اوسط په لاس راوړئ.

4- که $a_1 = -\frac{1}{2}$, $a_{10} = \frac{84}{2}$ وي د d قیمت په لاس راوړئ.

5- له لاندې ترادفونو څخه کوم یو حسابي ترادف نه دی.

$a)\ 2\ ,\ \frac{9}{4}\ ,\ \frac{5}{2}\ ,\ \frac{11}{4},\ ...$

$b)\ 3\ ,6\ ,9\ ,12,\ ...$

(c) ketabton.com: The Digital Library

هندسي ترادف

Geometric Sequences



که د شطرنج د يوې تختې په لومړۍ خانه کې يوه دانه غنم او په دويمه خانه کې يې دوه دانې غنم په همدې ډول که په هره وروستۍ خانه کې د مخکنۍ خانې دوه برابره غنم کېښودل شي، نو د شطرنج د تختې په اخيره خانه کې(يوه د شطرنج تخته 64 خانې لري) به څو دانې غنم وي.

فعاليت

- د مخامخ ترادف عددونه په پام کې ونيسئ. 3 , 6 , 12 , 24 , 48, . . .
- د پورتني ترادف د عناصرو ترمنځ کومه اړيکه موجوده ده؟
- د پورتني ترادف د دوو پرله پسې حدونو ترمنځ نسبت پيدا او يو له بل سره يې پرتله کړئ.

له پورتني فعاليت څخه کولای شو لاندې پايله بيان کړو:

پايله

هغه ترادف چې د دوو پر له پسې حدونو ترمنځ نسبت يې يو ثابت عدد q وي، د هندسي ترادف په نامه ياديږي، يعني:

$$\frac{a_{n+1}}{a_n} = q \Leftrightarrow a_{n+1} = a_n \cdot q \quad , \ n = 1, 2, 3, \ \ldots$$

$$a_{1+1} = a_1 \cdot q \quad \Rightarrow \quad a_2 = a_1 q$$

$$a_{2+1} = a_2 \cdot q = a_1 q \cdot q = a_1 q^2$$

$$a_{3+1} = a_3 \cdot q = a_1 q^2 \cdot q = a_1 q^3$$

دلته q ګډ نسبت او a_1 د ترادف لومړی حد دی.

هندسي ترادف هغه وخت تاکل کېږي چې لومړی حد او ګډ نسبت يې معلوم وي.

(c) ketabton.com: The Digital Library

لومړی مثال: د $\ldots, 6 \ , 12 \ , 24 \ , 48 \ , 96$ هندسي ترادف په پام کې ونیسئ ،ګډ نسبت یې په لاس راوړی.

حل: هر حد یې په مخکیني حد باندي ویشو:

$96 \quad 48 \quad 24 \quad 12 \quad 6$

$q=\frac{48}{96}=\frac{1}{2} \qquad q=\frac{24}{48}=\frac{1}{2} \qquad q=\frac{12}{24}=\frac{1}{2} \qquad q=\frac{6}{12}=\frac{1}{2}$

لیدل کیږی چې $q=\frac{1}{2}$ یو ثابت عدد وی.

فعالیت

- په یوه هندسي ترادف کې $a_1=2$ او $q=3$ دی، a_2 , a_3 او a_4 حدونه پیدا کړئ.

یادونه

$q>1$ لپاره ترادف متزاید د ی.

$q<1$ لپاره ترادف متناقص دی.

$q=1$ لپاره ثابت ترادف په لاس راځي.

دویم مثال: د $\ldots,100, 300 \ , 900 \ , 2700$ هندسي ترادف په پام کې ونیسئ لومړی حد او ګډ نسبت یې په لاس راوړئ او ووایاست چې پورتنی هندسي ترادف متزاید دی او که متناقص.

حل:

لومړی حد $=a=2700$

ګډ نسبت $=q=\frac{900}{2700}=\frac{9}{27}=\frac{1}{3}$

په پورتني مثال کې $q=\frac{1}{3}<1$ دی، نو نوموړی ترادف متناقص دی.

(c) ketabton.com: The Digital Library

په هندسي ترادف کې د n – ام حد پیدا کول:

که په یوه هندسي ترادف کې a لومړی حد، q ګډ نسبت او n د ترادف د حدونو شمېر وي،نو د n – ام حدد پیداکولو لپاره له لاندې تحلیلي ثبوت څخه کار اخلو.

که چېرې هندسي ترادف د $a_1, a_2, a_3, a_4, \ldots\ldots an$ په پام کې ونیسو، نو په لاندې ډول کړنه کوو:

$$a_1 = a_1$$

$$q = \frac{a_2}{a_1} \Rightarrow a_2 = a_1 \cdot q$$

$$q = \frac{a_3}{a_2} \quad \Rightarrow \; a_3 = a_2 \cdot q = a_1 q \cdot q = a_1 q^2$$

$$q = \frac{a_4}{a_3} \quad \Rightarrow \; a_4 = a_3 \cdot q = a_1 q^2 \cdot q = a_1 q^3$$

$$\vdots$$

$$q = \frac{a_n}{a_{n-1}} \quad \Rightarrow \; a_n = a_{n-1} \cdot q = (a_1 q^{n-2}) \cdot q = a_1 q^{n-1}$$

اوس د $a_1, a_2, a_3, a_4, \ldots\ldots$ په ترادف کې يې قیمتونه ږدو:

لومړی حد	دویم حد	دریم حد	څلورم حد		n - ام حد
a_1	a_2	a_3	a_3	, ... ,	a_n
$\downarrow$	$\downarrow$	$\downarrow$	$\downarrow$	, ... ,	$\downarrow$
a_1	$a_1 q$	$a_1 q^2$	$a_1 q^3$	, ... ,	$a_1 q^{n-1}$

یعنې په هندسي ترادف کې n – ام حد یا عمومي حد، د دغې اړیکې $a_n = a \cdot q^{n-1}$ په واسطه پیدا کېږي.

(c) ketabton.com: The Digital Library

لومړی مثال: د لاندې هندسي ترادف شپږم حد پیدا کړئ.

حل: $5\ ,\ -10, 20, -40,\ ....$

$$\left.\begin{aligned} a &= 5 \\ q &= \frac{-10}{5} = -2 \\ n &= 6 \\ a_6 &= ? \end{aligned}\right\} \quad \begin{aligned} & a_n = aq^{n-1} \\ & a_6 = 5(-2)^{6-1} \\ & a_6 = 5(-2)^5 \Rightarrow a_6 = 5(-32) \\ & a_6 = -160 \end{aligned}$$

دویم مثال: د .... , 2 , 4 , 8 هندسي ترادف دوولسم حد په لاس راوړئ.

حل:

$$\left.\begin{aligned} n &= 12 \\ a &= 8 \\ q &= \frac{1}{2} \end{aligned}\right\} \Rightarrow \begin{cases} a_n = aq^{n-1} \\ a_{12} = 8(\frac{1}{2})^{12-1} = 8(\frac{1}{2})^{11} = 8\frac{1}{2^{11}} \\ a_{12} = \frac{8}{2^{11}} = \frac{2^3}{2^{11}} = 2^{3-11} = 2^{-8} = \frac{1}{2^8} = \frac{1}{256} \end{cases}$$

د هندسي ترادف وسطي حد:

که a, M, b د هندسي ترادف پر له پسې حدونه وي، د a ,M او b, M ترمنځ اړیکه پیدا کړئ.

$$\left.\begin{aligned} q &= \frac{M}{a} \\ q &= \frac{b}{M} \end{aligned}\right\} q = q \ \Rightarrow \frac{M}{a} = \frac{b}{M} \ \Rightarrow M^2 = a \cdot b$$

$$M = \sqrt{a \cdot b}$$

له پورتني فورمول څخه ویلی شو کـه چېرې a او b دوه مثبـت حقیقـي عددونـه وي، نـو د M حقیقـي مثبت عدد ته د a او b هندسي وسط(Geometric mean) وایي.

(c) ketabton.com: The Digital Library

دریم مثال: د 3 او 12 عددونو هندسي وسط پیداکړئ.

حل:

$$\left.\begin{aligned} a&=3\\ b&=12\end{aligned}\right\} M=\sqrt{a\cdot b}=\sqrt{3\cdot 12}=\sqrt{36}=6$$

$$M=6$$

څلورم مثال: د $32, \boxed{?}, \boxed{?}, \boxed{?}, 2$ هندسي ترادف نا معلوم حدونه پیداکړئ.

حل:

$$\left.\begin{aligned} a_1&=2\\ n&=5\\ a_5&=32\\ q&=?\end{aligned}\right\}\Rightarrow \begin{aligned} & a_5=a\cdot q^{n-1} \Rightarrow 32=2q^{5-1}\Rightarrow 32=2q^4\\ & q^4=\frac{32}{2}=16 \Rightarrow q^4=16 \Rightarrow q^4=2^4\Rightarrow \boxed{q=2}\end{aligned}$$

$$a_1=2$$

$$a_2=a_1\cdot q=2\cdot 2=4$$

$$a_3=a_2\cdot q=a_1q^2=2\cdot 2^2=8$$

$$a_4=a_3\cdot q=a_1\cdot q^3=2\cdot 2^3=16$$

نو هندسي ترادف یې عبارت دی له: a_1, a_2, a_3, a_4, a_5 یا $2, 4, 8, 16, 32$

فعالیت

- که په هندسي ترادف کې a_n، n – ام حد، n د ترادف د حدونو شمېر او q ګډ نسبت وي، د q لپاره عمومي فورمول پیداکړئ.

پنځم مثال: x داسې وټاکئ چې له لاندې حدونو څخه یو هندسي ترادف جوړ شي.

$$x-1\ ,\quad x+3\quad ,\ x+1$$

$$M=\sqrt{a\cdot b}\ \Rightarrow (x+3)=\sqrt{(x-1)(x+1)}\ \Rightarrow (x+3)^2=(x-1)(x+1)$$

$$x^2+6x+9=x^2-1\Rightarrow 6x+10=0\ ,\ x=-\frac{10}{6}=-\frac{5}{3}$$

$$x=-\frac{5}{3}$$

(c) ketabton.com: The Digital Library

پوښتنې

1- د هندسي ترادف 5 حدونه داسې وليکئ چې لومړی حد يې 5 او اخيري حد يې $\frac{5}{16}$ وي.

2- کوم يو له لاندې ترادفونو څخه هندسي ترادف دی.

$a)\ \frac{2}{3},\ -\frac{2}{3},\ \frac{2}{3},\ -\frac{2}{3},\ \ldots$

$b)\ -4,-2,0,2,4,\ \ldots$

3- د $\ldots,\ \frac{5}{8},\ \frac{5}{2},5$ هندسي ترادف دوولسم حد پيدا کړئ.

4- د $\sqrt{3}$ ، $\frac{\sqrt{3}}{4}$ هندسي وسط په لاس راوړې.

5- د $27,\ ?,\ ?,\ ?,\ \frac{1}{3}$ حدونو تر منځ درې هندسي وسطونه په لاس راوړئ.

(c) ketabton.com: The Digital Library

د ترادفونو قسمي مجموعه

a - په لسم کتار کې د قوطیو شمېر څو دی؟

b - په الماری کې د ټولو قوطیو شمېر پیدا کړئ؟



فعالیت

- د $2,4,6,8, \ldots$ ترادف په پام کې ونیسئ.
- د دویم او دریم حدونو د جمعي حاصل ولیکئ.
- د لس لومړیو پرله پسی حدونو د جمعي حاصل پیدا کړئ.
- د $n-$ام حد د جمعي حاصل ولیکئ.

له پورتني فعالیت څخه لاندې پایله بیانېږي:

څرنګه چې د لومړي د n حدونو د جمعي حاصل مشکل دی چې ټول n حدونه یې ولیکو، نو ځکه یې دوه یا درې لومړی حدونه لیکو او وروسته له دریو ټکو $n-$ام حد لیکو.

څرنګه چې یو ترادف د بې نهایت حدونو لرونکی دی، که د زیاتو حدونو د جمعي حاصل، لکه: 100 , 1000 او داسې نورو حدونو په پام کې وي، نو د جمعي حاصل یې ستونزه جوړوي.

په عمومي ډول د ترادف د n لومړیو حدونو $a_1 \ , a_2 \ , a_3 \ , \ldots \ , a_n$ د جمعي حاصل په لاندې ډول لیکو:

$$a_1 + a_2 + a_3 + \ldots + a_n = \sum_{i=1}^{n} a_i$$

د اسانتیا او لنډیز لپاره په محاسبو کې $\sum$ له دې سمبول څخه کار اخلي.

د $\sum$ پورتنۍ او ښکتنۍ نښې دا رابنیي چې i له 1 څخه تر n پورې ټول طبیعی عددونه اخلي، i د انډکس په نامه یادېږي. د یوې مجموعې د انډکس لپاره هر حرف کارول کېږي، خو د i,n,k,j حروف ډېر معمول دي.

(c) ketabton.com: The Digital Library

مثلاً: $\sum_{k=1}^{n} 2k = \sum_{i=1}^{n} 2i = \sum_{j=1}^{n} 2j = 2\cdot1 + 2\cdot2 + 2\cdot3 + \cdot\cdot\cdot + 2n$

لومړی مثال: لاندې مجموعه ($\sum \frac{1}{1^i}$) $\sum_{i=1}^{7}$ په انکشافی شکل ولیکئ.

حل:

$$\sum_{i=1}^{7} \frac{1}{i} = \frac{1}{1} + \frac{1}{2} + \frac{1}{3} + \frac{1}{4} + \frac{1}{5} + \frac{1}{6} + \frac{1}{7} = \frac{1089}{420}$$

دویم مثال: لاندې د جمعي حاصل د ($\sum$) په شکل ولیکئ.

$a)\ 1+3+5+7+\ \ldots\ +(2n-1)$

$b)\ 1+4+9+\ \ldots\ +n^2$

د a جزء **حل**:

$$1+3+5+7+\ldots+(2n-1) = \sum_{i=1}^{n}(2i-1)$$

د b جزء **حل**:

$$1+4+9+\ \ldots\ +n^2 = \sum_{i=1}^{n} i^2$$

دریم مثال: لاندې مجموعه په انکشافي شکل ولیکئ.

$$\sum_{i=4}^{n} i(i+2) = ?$$

حل:

$$\sum_{i=4}^{n} i(i+2) = 4(4+2)+5(5+2)+6(6+2)+7(7+2)+\ldots+n(n+2)$$

$$= 4\cdot6+5\cdot7+6\cdot8+\ldots+n(n+2)$$

$$= 24+35+48+63+\ldots+n(n+2)$$

څلورم مثال: د دغې مجموعې $\sum_{n=7}^{10}\frac{n+1}{n-1}$ حاصل په لاس راوړئ.

حل:

$$\sum_{n=7}^{10}\frac{n+1}{n-1} = \frac{7+1}{7-1}+\frac{8+1}{8-1}+\frac{9+1}{9-1}+\frac{10+1}{10-1} = \frac{8}{6}+\frac{9}{7}+\frac{10}{8}+\frac{11}{9}$$

$$= \frac{4032+3888+3780+3696}{3024} = \frac{15396}{3024} = \frac{5132}{108}$$

(c) ketabton.com: The Digital Library

تر اوسه مو یوازې د یوه ترادف د n حدونو د جمعې حاصل وخیږه، که وغواړو د یوه ترادف د $\{a_n\}_{n\in IN}$ ټولو حدونو د جمعې حاصل پیدا کړو، په دې صورت کې لیکو:

$$a_1+a_2+a_3+\ldots+a_n+\ldots=\sum_{i=1}^{\infty}a_i$$

په دې حالت کې i ټول طبیعي عددونه اخیستلای شي.

د $\sum_{i=1}^{\infty}a_i$ سلسله د بې نهایت سلسلې(Series) په نامه یادیږي.

د $a_1+a_2+a_3+\ldots$ عددونه د سلسلې حدونه او a_n د سلسلې $n-$ام حد یا دسلسلې عمومي حد بلل کیږي.

څرنګه چې موږ نشو کولای، د عددونو بې نهایت شمیر جمع کړو، خوپه ریاضي کې د ځینو قاعدو په کارولوسره کولای شو، یوې سلسلې ته دیوې مجموعې نسبت ورکړو، خو دلته غواړو د یوې سلسلې د n حدونو مجموعه پیدا کړو.

د یوې سلسلې د n لومړیو عناصرو مجموعه $\ldots+a_n+\ldots+a_3+a_2+a_1=\sum_{i=1}^{\infty}a_k$ د نوموړې سلسلې د n حدونو د قسمي مجموعې په نامه یادیږي، که هغه په S_n وښیو، نو لرو:

$$S_1=a_1$$
$$S_2=a_1+a_2$$
$$S_3=a_1+a_2+a_3$$
$$\vdots$$
$$S_n=a_1+a_2+a_3+\ldots+a_n=\sum_{k=1}^{\infty}a_k$$

مثال: د $1+2+3+\ldots+n+\ldots$ سلسلې S_6 او S_8 حساب کړئ.

حل:

$$S_6=1+2+3+4+5+6=21$$
$$S_8=1+2+3+4+5+6+7+8=36$$

(c) ketabton.com: The Digital Library

که $\sum_{k=1}^{\infty} a_k$ او $\sum_{k=1}^{\infty} b_k$ دوې سلسلې او c یو ثابت عدد وي لاندې، خاصیتونه د قسمي مجموعو لپاره سم دي:

$$\sum_{k=1}^{n} c = c + c + \ \dots \ + c = nc$$

$$\sum_{k=1}^{n} ca_k = c\sum_{k=1}^{n} a_k$$

$$\sum_{k=1}^{n} (a_k + b_k) = \sum_{k=1}^{n} a_k + \sum_{k=1}^{n} b_k$$

پوښتنې

1. لاندې مجموعې حساب کړئ.

$a)\ \sum_{i=1}^{6} \sqrt{i}$ $\qquad b)\ 3\sum_{i=1}^{6} \frac{1}{i+1}$ $\qquad c)\ \sum_{k=1}^{3} (4k^2 - 3k)$

2. لاندې مجموعې د $\sum$ په شکل کې ولیکئ.

$a)\ \frac{1}{2} + \frac{1}{3} + \frac{3}{4} + \dots + \frac{19}{20}$

$b)\ 1 + 4 + 9 + \dots + n^2$

$c)\ 1 + 3 + 5 + 7 + \dots + (2n - 1)$

3. لاندې قسمي مجموعې په لاس راوړئ.

$a)\ \sum_{i=4}^{n} i(i+2)$ $\qquad b)\ \sum_{i=1}^{n} (3i - 2)$ $\qquad c)\ \sum_{i=1}^{n} (2 + 5i)$

(c) ketabton.com: The Digital Library

د حسابي ترادف د n لومړیو حدونو قسمي مجموعه

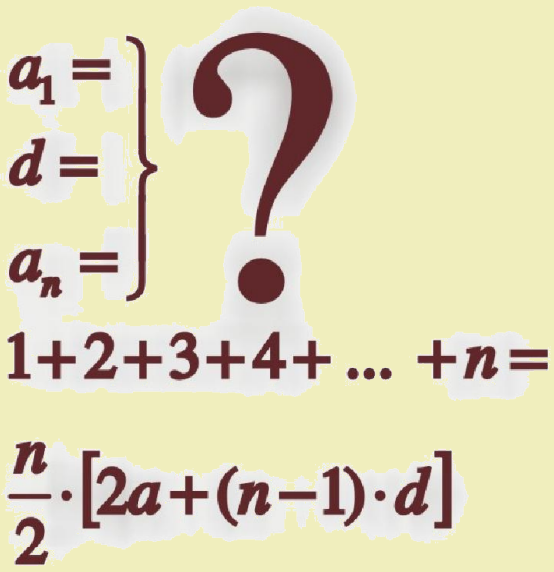

که $a_1 , a_2 , a_3 ,\ldots ,a_n$ یو حسابي ترادف وي، نو $a_1+a_2+a_3+\ldots+a_n$ د یوې حسابي سلسلې قسمي مجموعه کېدلای شي؟

که چېرې دیوه حسابي ترادف د حدونو ترمنځ د جمعې نښه وي، هغې ته حسابي سلسله ویل کېږي. یاپه بل عبارت د یوه حسابي ترادف د جمعې حاصل ته حسابي سلسله وایي.

په یوه حسابي ترادف کې چې لومړی حد یې a ګډ فرق یې d او اخیري حد یې a_n وي، د حدونود جمعې لپاره عمومي فورمول داسې په لاس راوړو:

$$S = a+(a_1+d)+(a_1+2d)+(a_{11}+3d)+\ldots+(a_n-2d)+(a_n-d)+a_n \quad \ldots \text{I}$$

$$S = a_n+(a_n-d)+(a_n-2d)+(a_n-3d)+\ldots+(a_1+2d)+(a_1+d)+a_1 \quad \ldots \text{II}$$

د I او II اړیکې خوا په خوا جمع کوو:

$$2S=\underbrace{(a_1+a_n)+(a_1+a_n)+(a_1+a_n)+(a_1+a_n)+\ldots+(a_1+a_n)+a_1+a_n}_{n(a+a_n)\ \text{خلې}\ n}$$

$$2S=n(a+a_n)\ \Rightarrow S=\frac{n}{2}(a+a_n)\ldots\text{I}$$

د I فورمول د حسابي سلسلې جمع راښیي چې لومړی حد، اخیري حد اود جملاتو شمېر یې معلوم وي.

(c) ketabton.com: The Digital Library

لومړی مثال: د حسابي سلسلې د جمعي حاصل په لاس راوړئ، داسې چې $a_n = 25, a = 4$ او د حدونو شمېر يې 8 وي.

حل:

$$a_1 = 4$$

$$a_n = 25 \qquad S = \frac{n}{2}(a_1 + a_n)$$

$$n = 8 \qquad S = \frac{8}{2}(4+25) \Rightarrow S = 4(29) = 116$$

که چېرې په يوه حسابي سلسله کې لومړی حد، د حدونو شمېر او ګډ توپير ورکړل شوی وي، د جمعې حاصل يې له لاندې اړيکې څخه په لاس راځي:

$$S = \frac{n}{2}(a_1 + a_n)$$

$$a_n = a_1 + (n-1)d$$

$$S = \frac{n}{2}\left[a_1 + a_1 + (n-1)d\right] \Rightarrow S = \frac{n}{2}\left[2a_1 + (n-1)d\right] \text{ .... III}$$

دويم مثال: د لاندې سلسلې د 201 حدونو د جمعې حاصل په لاس راوړئ:

$$7 + 11 + 15 + \ldots$$

حل:

$$\left.\begin{aligned} a &= 7 \\ d &= 4 \\ n &= 201 \\ S_{201} &= ? \end{aligned}\right\} \quad \begin{aligned} &S = \frac{n}{2}\left[2a + (n-1)d\right] \\ &S_{201} = \frac{201}{2}\left[2\cdot 7 + (201-1)4\right] \\ &S_{201} = \frac{201}{2}(14 + 200\cdot 4) \quad \Rightarrow \quad S_{201} = \frac{201}{2}(14+800) = \frac{201}{2}\cdot 814 \\ &S_{201} = 81807 \end{aligned}$$

(c) ketabton.com: The Digital Library

فعالیت

- د طبیعي عددونو سلسله په پام کې ونیسئ لومړی حد، ګډ توپیر او $n-$ام حد یې ولیکئ وروسته د مسلسلو طبیعي عددونو د جمعې دحاصل عمومي فورمول په لاس راوړئ.

په یاد ولرئ: د طبیعي جفتو پر له پسې عددونو د جمعې حاصل هم یوه حسابي سلسله ده چې فورمول یې په لاندې ډول په لاس راوړو: $2+4+6+8\ \ldots$

$$\left.\begin{array}{l} a=2 \\ d=2 \\ n=n \\ S_n=? \end{array}\right\}\quad \begin{array}{l} S_n=\dfrac{n}{2}\left[2a+(n-1)d\right] \\ S_n=\dfrac{n}{2}\left[2\cdot 2+(n-1)2\right] \\ S_n=\dfrac{n}{2}\left[4+2n-2\right]=\dfrac{n}{2}(2+2n)\quad\Rightarrow\quad S_n=n(n+1) \end{array}$$

دریم مثال: د جفتو پر له پسې عددونو د سلسلې $(2+4+6+8+\ldots)$ د 200 لومړیو حدونو د جمعې حاصل په لاس راوړئ:

حل:

$$\left.\begin{array}{l} n=200 \\ S_{200}=? \end{array}\right\}\quad \begin{array}{l} S_n=n(n+1) \\ S_{200}=200(200+1)\quad\Rightarrow\quad S_{200}=200(201) \\ S_{200}=40200 \end{array}$$

څلورم مثال: د $2+4+\ldots+$ جفتو عددونو د سلسلې د 200 حدونو مجموعه پیدا کړئ.

فعالیت

- د طبیعي طاقو پرله پسې عددونو د حسابي سلسلې د جمعې حاصل فورمول پیدا کړئ.

(c) ketabton.com: The Digital Library

پوښتنې

1. د لاندې حسابي ترادفونو لسم او n − ام حدونه پیدا او همدرانګه د نوموړو ترادفونو د لسو حدونو د جمعې حاصل په لاس راوړئ.

$i)\ \ 2,0,-2,-4,\ \ldots$

$ii)\ 1,5,9,13,\ \ldots$

$iii)\ -2,-1,0,1,2,\ \ldots$

2. که یو ترادف د $2,5,8,11,\ \ldots$ په ډول راکړل شوی وي. د لاندې مجموعو قیمتونه حساب کړئ.

$a)\ \ S_8$ $\qquad b)\ \ S_{10}$

(c) ketabton.com: The Digital Library

د یوه هندسي ترادف د n حدونو د جمعي حاصل

که چېرې یوه مڼه نیمه او نیمه بیا نیمه او همداسې ادامه ورکړو یو هندسي ترادف په لاس راځي، له لومړۍ برخې نیولې، ځو برخې سره جمع کړو چې د جمعي حاصل یې مساوي په 2 منو شي.

فعالیت

- یو هندسي ترادف چې لومړی جمله یې a_1 او د دوو پرله پسې جملو ترمنځ نسبت یې مساوي په q راکړل شوی وي، لاندې فعالیت سرته ورسوئ.
- د ترادف دویمه جمله څو ده؟
- که چېرې دویمه جمله په q کې ضرب شي، دضرب حاصل یې له دریمې جملې سره پرتله کړئ.
- د ترادف د n جملو د جمعي حاصل د فورمول پیداکولو لپاره څه وړاندیز لرئ؟

پایله:

په یوه هندسي ترادف کې هر راتلونکی حد د مخکیني حد له ضرب څخه په q کې، په لاس راځي. دا خبره د ټولو حدونو لپاره یوه باوري خبره ده، په دې ډول د یوه هندسي ترادف $\{a_n\}$ د n جملو د جمعي حاصل $(S_n = a_1 + a_2 + \ldots + a_n)$ قیمت عبارت دی، له: $q \neq 1$,

$$S_n = \frac{a_1(1-q^n)}{1-q}$$

د پورتنۍ اړیکې ثبوت کولای شو په اسانۍ سره په لاس راوړو:

$$S_n = a_1 + a_1q + a_1q^2 + \ \ldots \ + a_1q^{n-1} \quad \ldots\ldots\ldots\ldots\ldots\ldots \ I$$

$$S_n \cdot q = a_1q + a_1q^2 + a_1q^3 + \ \ldots \ + a_1q^{n-1} + a_1q^n \quad \ldots\ldots\ldots\ldots \ II$$

له I اړیکې څخه د II اړیکه کموو:

$$S_n - S_n \cdot q = a_1 - a_1q^n = a_1(1-q^n)$$

$$S_n(1-q) = a_1(1-q^n)$$

$$q \neq 1$$

د پورتنۍ رابطې صورت او مخرج په (-1) کې ضربوو

$$S_n = \frac{a_1(q^n-1)}{(q-1)}$$

پاسنۍ اړیکه هغه اړیکه ده، چې د هندسي ترادف د n جملو د جمعي حاصل په لاس راکوي.

(c) ketabton.com: The Digital Library

لومړی مثال: په یوه هندسي ترادف کې لومړی حد $a_1 = 2$ او ثابت نسبت $q = \frac{1}{2}$ دی.
د پاسني ترادف 5 لومړي حدونه او د لسو جملو د جمعې حاصل پیدا کړئ.

حل: پوهېږو چې $a_n = a_1 \cdot q^{n-1}$ ده، نو:

$$\left.\begin{aligned} a_1 &= 2 \\ q &= \frac{1}{2} \\ S &= ? \end{aligned}\right\} \quad \begin{aligned} a_1 &= 2(\frac{1}{2})^0 = 2 \\ a_2 &= 2(\frac{1}{2}) = 1 \\ a_3 &= 2(\frac{1}{2})^{3-1} = 2\cdot\frac{1}{4} = \frac{1}{2} \end{aligned} \qquad \begin{aligned} a_4 &= 2(\frac{1}{2})^{4-1} \\ a_4 &= 2(\frac{1}{8}) = \frac{1}{4} \\ a_5 &= 2(\frac{1}{2})^4 = 2\cdot\frac{1}{16} = \frac{1}{8} \end{aligned}$$

$$S_n = a_1\frac{(1-q^n)}{1-q} \Rightarrow S_{10} = 2\cdot\frac{1-(\frac{1}{2})^{10}}{1-\frac{1}{2}} \Rightarrow S_{10} = 2\frac{1-\frac{1}{1024}}{\frac{2-1}{2}} = 2\frac{\frac{1024-1}{1024}}{\frac{1}{2}}$$

$$S_{10} = 2\frac{\frac{1023}{1024}}{\frac{1}{2}} = \frac{1023}{1024}\cdot\frac{4}{1} = \frac{4092}{1024} = 3.99609375$$

دویم مثال: د لاندې هندسي ترادف د څو جملو مجموعه 80 کېږي؟

$2, 6, 18, \ldots$

حل:

$$\left.\begin{aligned} a &= 2 \\ q &= \frac{6}{2} = 3 \\ n &= ? \\ S &= 80 \end{aligned}\right\} \quad \begin{aligned} & S = \frac{a(q^n-1)}{q-1} \\ & 80 = \frac{2[(3)^n-1]}{3-1} \\ & 80 = (3)^n - 1 \;\Rightarrow\; 80+1 = (3)^n \\ & 81 = 3^n \;\Rightarrow\; (3)^4 = 3^n \\ & \Rightarrow n = 4 \end{aligned}$$

یعنې د پاسني هندسي ترادف د 4 جملو مجموعه 80 کېږي.

پوښتنې

1. په $2, \frac{2}{3}, \frac{2}{9}, \ldots$ هندسي ترادف کې د 10 جملو د جمعې حاصل په لاس راوړئ.
2. د $3, 6, 12, \ldots, 384$ هندسي ترادف د حدونو شمېر او مجموعه پیدا کړئ.
3. په $4, 12, 36, \ldots$ ترادف کې د څو جملو د جمعې حاصل 484 کېږي، د n – ام حد قیمت پیدا کړئ.

(c) ketabton.com: The Digital Library

لایتناهي هندسي سلسلې

که د ترادف جملو ته په غور پاملرنه وکړو، په اسانی سره لیدل کېږي چې ترادف، جمله په جمله کوچنی کېږي.

آیا هر هندسي ترادف یوه عدد ته نږدې کېږي؟

$$S_\infty = \frac{a}{1-q}, |q|<1$$

که چېرې په یوه هندسي سلسله کې $|q| \geq 1$ او د حدونو شمېر یې معلوم نه وي، د متباعدې سلسلې (Divergent series) په نامه یادېږي.

او که چېرې $|q| < 1$ وي، د متقاربې سلسلې (Convergent series) په نامه یادېږي. د متقاربو او متباعدو سلسلو د جمعې حاصل د پیداکولو فورمول:

$$S = a\frac{1-q^n}{1-q} = a\frac{-(q^n-1)}{-(q-1)} = a(\frac{q^n-1}{q-1})$$

که سلسله متباعده وي $|q| \geq 1$ او د حدونو شمېر بې نهایته وي، یعنې $n \to \infty$ نو پوهېږو چې:

$$S_\infty = \frac{aq^\infty - a}{q-1} = \frac{aq^\infty - a}{q-1} = \frac{\infty - a}{q-1} = \infty \Rightarrow S_\infty = \infty$$

که سلسله متقاربه وي ($|q|<1$) او د جملو شمېر بې نهایت وي، نو $q^n \to 0$ کوي.

$$S = a \cdot \frac{1-q^n}{1-q} \Rightarrow S_\infty = \frac{a-aq^n}{1-q} = \frac{a-a\cdot 0}{1-q} = \frac{a}{1-q}$$

یعنې که متقارب سلسله ($|q|<1$) او د جملو شمېر یې بې نهایت وي، د نوموړې سلسلې د جمعې حاصل عبارت دی له: $S_\infty = \dfrac{a}{1-q}$

(c) ketabton.com: The Digital Library

لومړی مثال: د $1+\frac{1}{2}+\frac{1}{4}+\frac{1}{8}+\frac{1}{16}+\dots$ سلسلې د جمعې حاصل محاسبه کړئ.

حل: په دې سلسله کې $a=1$, $q=\frac{1}{2}$ دی، څرنګه چې $|q|=\left|\frac{1}{2}\right|=\frac{1}{2}<1$ دی، نو سلسله متقارب ده:

$$1+\frac{1}{2}+\frac{1}{4}+\frac{1}{8}+\frac{1}{16}+\dots=\frac{a}{1-q}=\frac{1}{1-\frac{1}{2}}=\frac{1}{\frac{1}{2}}=\frac{1}{1}\cdot\frac{1}{2}=2$$

دویم مثال: که په یوه هندسي سلسله کې $a_1=27$ او $q=\frac{1}{3}$ وي، د سلسلې دحدونو مجموعه په لاس راوړئ.

حل: پوهېږو چې $|q|=\left|\frac{1}{3}\right|=\frac{1}{3}<1$ دی، نو سلسله متقاربه ده:

$$a_1+a_2+a_3+\ \dots\ =\frac{a}{1-q}$$

$$27+9+3+1+\frac{1}{3}+\frac{1}{9}+\frac{1}{27}+\dots=\frac{27}{1-\frac{1}{3}}=\frac{27}{\frac{3-1}{3}}=\frac{27}{\frac{2}{3}}$$

$$27\cdot\frac{3}{2}=\frac{81}{2}=40.5$$

دریم مثال: $0.6\overline{23}$ پیریودیک(متوالي) اعشاري کسر په عام کسر واړوئ.

حل: دا عدد کولای شو په لاندې ډول په هندسي ترادف واړوو.

$$0.6\overline{23}=0.6232323\dots=0.6+0.023+0.00023+0.0000023+\ \dots$$
$$=\frac{6}{10}+\frac{23}{1000}+\frac{23}{100000}+\frac{23}{10000000}+\ \dots$$
$$=\frac{6}{10}+\frac{23}{1000}[1+\frac{1}{100}+(\frac{1}{10000})+\ \dots\ ]$$

د قوس دننه دهندسي ترادف د جمعې حاصل دی لومړی حدیې (۱) او د حدونو ترمنځ نسبت یې $\frac{1}{100}$ دی.

(c) ketabton.com: The Digital Library

په پاسنۍ سلسله کې $a=1$ او $1 > |q| = \left|\frac{1}{100}\right| = \frac{1}{100}$ دی، نو سلسله متقاربه ده.

$$S=\frac{a}{1-q}=\frac{6}{10}+\frac{23}{1000}[1+\frac{1}{100}+(\frac{1}{100})^2+...]$$
$$=\frac{6}{10}+\frac{23}{1000}\cdot\frac{1}{1-\frac{1}{100}}=\frac{6}{10}+\frac{23}{1000}\cdot\frac{1}{\frac{99}{100}}$$
$$=\frac{6}{10}+\frac{23}{1000}\cdot\frac{100}{99}\Rightarrow 0.6\overline{23}=\frac{6}{10}+\frac{23}{990}=\frac{594+23}{990}=\frac{617}{990}\Rightarrow 0.6\overline{23}=\frac{617}{990}$$

څلورم مثال: د $0.\overline{3}$ متوالي اعشاري کسر د هندسي سلسلې په کارولو سره په عام کسر واړوئ.

حل: پوهیږو چې:

$$0.\overline{3}=0.3333\ ...\ =0.3+0.03+0.003+0.0003+\ ...$$
$$=\frac{3}{10}+\frac{3}{100}+\frac{3}{1000}+\frac{3}{10000}+\ ...$$
$$=\frac{3}{10}[1+\frac{1}{10}+\frac{1}{100}+\frac{1}{1000}+\ ...\ ]$$

لیدل کیږي چې په پاسنۍ سلسله کې $a=0.3$ او $1 > |q|=\left|\frac{1}{10}\right|=\frac{1}{10}$ دی، نو سلسله متقاربه ده.

$$S=\frac{a}{1-q}=0.\overline{3}=\frac{3}{10}\cdot\frac{a}{1-q}=\frac{3}{10}\cdot\frac{1}{1-\frac{1}{10}}$$
$$=\frac{3}{10}\cdot\frac{1}{\frac{10-1}{10}}=\frac{3}{10}\cdot\frac{1}{\frac{9}{10}}=\frac{3}{10}\cdot\frac{10}{9}=\frac{3}{9}=\frac{1}{3}\quad\Rightarrow 0.\overline{3}=\frac{1}{3}$$

(c) ketabton.com: The Digital Library

پوښتنې

1. لاندې هندسي مجموعې په لاس راوړئ.

$i)\ 1+\frac{1}{3}+\frac{1}{3^2}+\frac{1}{3^3}+\ldots$, $ii)\ 5+1+\frac{1}{5}+\frac{1}{5^2}+\ldots$

2. لاندې اعشاري متوالي کسرونه په عام کسر واړوئ.

$a)\ 0.2\overline{4}$ $b)\ 0.\overline{5}$

(c) ketabton.com: The Digital Library

د څلورم څپرکي مهم ټکي

د ترادف تعریف: $a_1, a_2, a_3, \ \ldots \ , a_n$ د عددونو د ترادف په نامه یادېږي.

پورتني هر یوه عدد ته د ترادف حد یا جمله وایي، a_1 د ترادف لومړی حد او a_n د ترادف $n-$ام حد دی

یا په بل عبارت، ترادف له هغې تابع څخه عبارت دی چې د تعریف ناحیه یې طبیعي عددونه او د قیمتونو

ناحیه یې حقیقي عددونه تشکیلوي.

حسابي ترادف: که په یوه ترادف کې د دوو پرله پسې حدونو ترمنځ ګډ توپیر یو ثابت عدد وي، نو نومړی

ترادف د حسابي ترادف په نامه یادېږي.

د حسابي ترادف وسطي حد: که درې پرله پسې حدونه a_{n+1}, a_n, a_{n-1} ولرو، نو: $a_n = \dfrac{a_{n-1} + a_{n+1}}{2}$

په حسابي ترادف کې د $n-$ام حد فورمول $a_n = a + (n-1)d$

هندسي ترادف: هغه ترادف چې د هغه د هر وروستي او مخکیني حد تر منځ نسبت یو ثابت عدد q وي،

د هندسي ترادف په نامه یادېږي، په هندسي ترادف کې د $n-$ام حد فورمول: $a_n = aq^{n-1}$

د هندسي ترادف وسطي حد: که درې پرله پسې حدونه $a_{n+1}\ ,\ a_n\ ,\ a_{n-1}$ په داسې حال کې چې

$n = 2, 3, 4, \ldots$ هندسي ترادف حدونه وي، نو د ترادف وسطي حد عبارت دی له: $a_n = \sqrt{(a_{n+1})(a_{n-1})}$

د ترادفونو قسمي مجموعه: $\sum_{1=1}^{n} a_i = a_1 + a_2 + a_3 + \ \ldots \ + a_n$ د بې نهایته سلسلې(Series) په نامه

یادېږي.

او د $\sum_{k=1}^{n} a_k = a_1 + a_2 + a_3 + \ \ldots +$ د نومړې $n-$ام سلسلې د جمعې قسمي حاصل دی.

د حسابي ترادف د n لومړیو حدونو قسمي حاصل جمع: $S = \dfrac{n}{2}[2a + (n-1)d]$

د هندسي ترادف د n لومړیو جملو قسمي حاصل جمع: $S_n = \dfrac{a_1(1-q^n)}{1-q}$

(c) ketabton.com: The Digital Library

بې نهايت هندسي سلسلې: په يوه هندسي سلسله کې که $|q|<1$ وي، متقاربه سلسله او د n جملو د جمعې حاصل يې د $\frac{a}{1-q}$ عدد ته نږدې کيږي او قيمت يې د دغه فورمول $\sum_{k=1}^{\infty} aq^{k-1} = \frac{a}{1-q}$ په واسطه محاسبه او لاسته راځي.

هغه هندسي سلسله چې په هغې کې $|q|\geq 1$ او د حدونو شمير يې هم بې نهايته وي، سلسله متباعد او د n لومړيو جملو مجموعه يې هم بې نهايته ده، يعنې $S_n = \infty$

(c) ketabton.com: The Digital Library

د څېرکي پوښتنې

لاندې پوښتنې ولولئ، د هرې پوښتنې لپاره څلور ځوابونه ورکړل شوي دي، سم ځواب يې پيدا او له هغه څخه کړۍ تاو کړئ.

1. د $2,\frac{3}{2},\frac{4}{3},\frac{5}{4},\ \ldots$ ترادف $n-$ام حد کوم دی؟

$a)\ \frac{\sqrt{n}-1}{n}$ $\qquad b)\ \frac{\sqrt{n}+3}{n+2}$ $\qquad c)\ \frac{n}{n-1}$ $\qquad d)\ \frac{n+1}{n}$

2. که $a_n=\frac{3n-1}{2n-1}$ د ترادف $n-$ام حد وي، د دغه ترادف څووم حد $\frac{11}{7}$ دی؟

$a)\ 3$ $\qquad b)\ 4$ $\qquad c)\ 5$ $\qquad d)\ 6$

3. د $-9,-5,-1,3,\ \ldots$ حسابي ترادف دوولسم حد عبارت دی، له:

$a)\ 35$ $\qquad b)\ 38$ $\qquad c)\ -35$ $\qquad d)\ -38$

4. د $0.1,0.4,0.7,1,1.3,\ \ldots$ حسابي ترادف ګډ توپير عبارت دی، له:

$a)\ 0.3$ $\qquad b)\ 0.1$ $\qquad c)\ \frac{2}{3}$ $\qquad d)\ -\frac{2}{3}$

5. د $96,48,24,12,6,\ \ldots$ هندسي ترادف ګډ نسبت عبارت دی له:

$a)\ -\frac{1}{2}$ $\qquad b)\ \frac{1}{2}$ $\qquad c)\ \frac{2}{3}$ $\qquad d)\ -\frac{2}{3}$

6. د $5,\frac{5}{2},\frac{5}{4},\frac{5}{8},\frac{5}{16},\ \ldots$ هندسي ترادف لسم حد عبارت دی، له:

$a)\ \frac{3}{512}$ $\qquad b)\ \frac{5}{510}$ $\qquad c)\ -\frac{5}{512}$ $\qquad d)\ \frac{5}{512}$

7. د يوه هندسي ترادف د n جملو د جمعي حاصل فورمول عبارت دی، له:

$a)\ S_n=a\frac{1+q^n}{1-q}$ $\qquad b)\ S=a\frac{q^n-1}{q-1}$

$c)\ S=a\frac{1+q^n}{1+q}$ $\qquad d)$ هيڅ يو

8. په بې نهايته هندسي متقاربو سلسلو کې ګډ نسبت عبارت دی، له:

$a)\ q=0$ $\qquad b)\ |q|>1$ $\qquad c)\ |q|<1$ $\qquad d)$ هيڅ يو

(c) ketabton.com: The Digital Library

لاندي پوښتنې حل کړئ:

1. څو دوه رقمي طبيعي عددونه لرو چې د څلورو مضرب وي؟

2. د 21 او 31 ترمنځ په بېلا بېل ډول درې حسابي وسطونه وليکئ. $21,\square,\square,\square,31$

3. که ديوه حسابي ترادف د لومړی او وروستی جملې مجموعه $(a_1 + a_n = 24)$ او د n لومړيـو جملـو مجموعه يې 3720 وي، د نوموړي ترادف د حدونو شمېر وټاکئ؟

4. د لاندې ترادف د 100 جملو د جمعې حاصل په لاس راوړئ.

$$3,5,7,9,11,\ \ldots$$

5. که د يوه هندسي ترادف دويمه جمله 6 او اوومه جمله يې 192 وي ،ګډ نسبت يې وټاکئ.

6. د يوه هندسي ترادف د 8 لومړيو جملو د جمعې قسمي حاصـل 17 برابـره ،د هغـه د څلـورو لومړيـو جملو دی، د نوموړي ترادف ګډ نسبت حساب کړئ.

7. د لاندې سلسلې د جمعې قسمي حاصل په لاس راوړئ.

$$0.1+0.01+0.001+0.0001+\ldots$$

8. د يوه ناپايه هندسي ترادف لومړی حد 9 او پنځم حد يې $\frac{1}{9}$ دی، د نوموړي ترادف د حدونو د جمعې حاصل پيدا کړئ.

9. د 3 او 96 عددونو تر منځ 4 هندسي وسطونه په بېلا بېل ډول وليکئ.

$$3,\square,\square,\square,\square,96$$

10. د $2+\frac{2}{3}+\frac{2}{9}+\ldots$ هندسي سلسلې د اتو لومړيو حدونو د جمعې حاصل په لاس راوړئ.

11. که $a=4$ او $d=3$ وي، هارمونيکي ترادف د $n=12$ لپاره په لاس راوړئ.

12. لاندې متوالي کسرونه په عامو کسرونو واړوئ.

$a)\ 2.\overline{8}$ $\qquad$ $b)\ 3.\overline{57}$

(c) ketabton.com: The Digital Library

پنځم څپرکی

لوګاریتم

(c) ketabton.com: The Digital Library

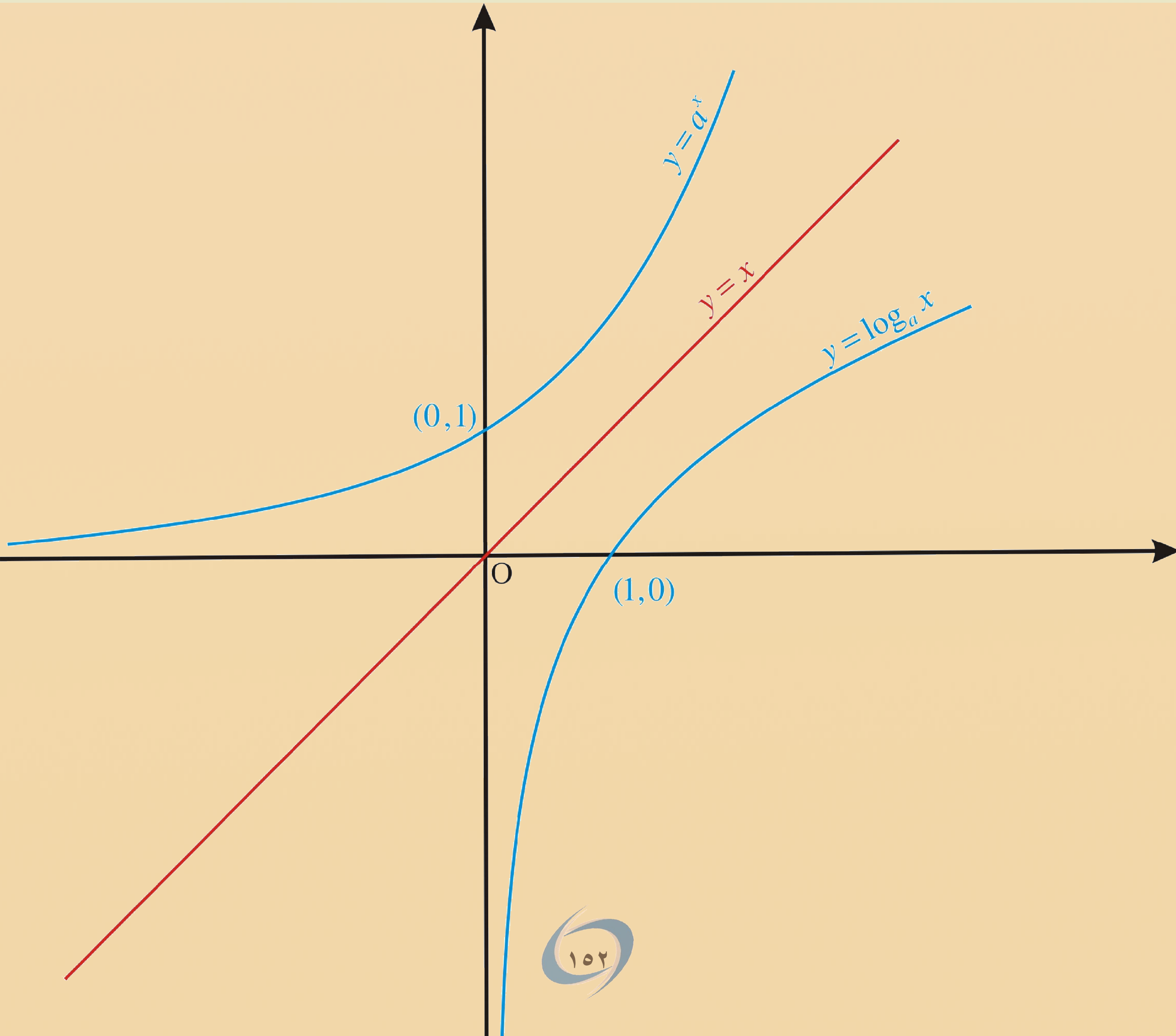

(c) ketabton.com: The Digital Library

اکسپوننشیل تابع ګاني

Exponential function

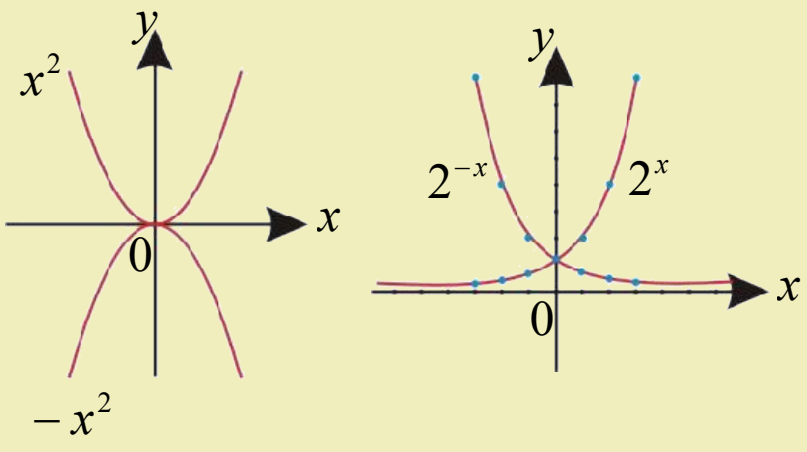

پوهیږئ چې د $f(x)=x^2$ او $f(x)=-x^2$ تابع ګانو ګرافونه نظر y محور ته یوله بل سره متناظر دی. آیا تراوسه مو د $f(x)=2^x$ او $f(x)=2^{-x}$ تابع ګانو د ګرافونو په هکله فکر کړی دی؟

تعریف

که چېرې a یو مثبت عدد او $a\neq 1$ وي، نو د $f(x)=a^x$ تابع ته د a په قاعده اکسپوننشیل تابع وایي.

$$a\in IR^+\setminus\{1\}\quad,\quad x\in IR\quad,\quad f: IR\to IR^+$$

$$f(x)=a^x$$

$f(x)=2^x$ او $f(x)=2^{-x}$ اکسپوننشیل تابع ګاني د 2 په قاعده دي.

فعالیت

- د $x\in Z$ مختلفو قیمتونو لپاره د $f(x)=2^x$ تابع ګراف رسم کړئ.
- د $f(x)=2^x$ تابع ګراف د y محور په کوم ټکي کې قطع کوي؟
- آیا د $f(x)=2^x$ تابع متزایده، متناقصه او که ثابته ده؟ ولې؟

د $f(x)=2^x$ او $f(x)=2^{-x}$ تابع ګانو ګرافونه دوضعیه کمیاتو په سیستم کې رسم او یوله بله سره یې پرتله کړئ.

- پورتنی فعالیت د $f(x)=(\frac{1}{2})^x$ تابع لپاره سرته ورسوئ.

له پورتني فعالیت څخه لاندې پایله په لاس راځي.

د $f(x)=2^x$ تابع قیمت د $x\in Z$ ټولو قیمتونو لپاره همیشه مثبت ده

د $y=2^x$ او $y=2^{-x}$ تابع ګانو ګرافونه نظر y محور ته متناظر دي، یعنې د $y=2^x$ تابع ګراف هر ټکی د $y=2^{-x}$ تابع ګراف له هر ټکي سره یوېه یو متناظر دی.

یاددښت: که چېرې په اکسپوننشیل تابع کې $a>1$ وي متزاید، که $a<1$ وي متناقص او که $a=1$ وي ثابته تابع ده.

(c) ketabton.com: The Digital Library

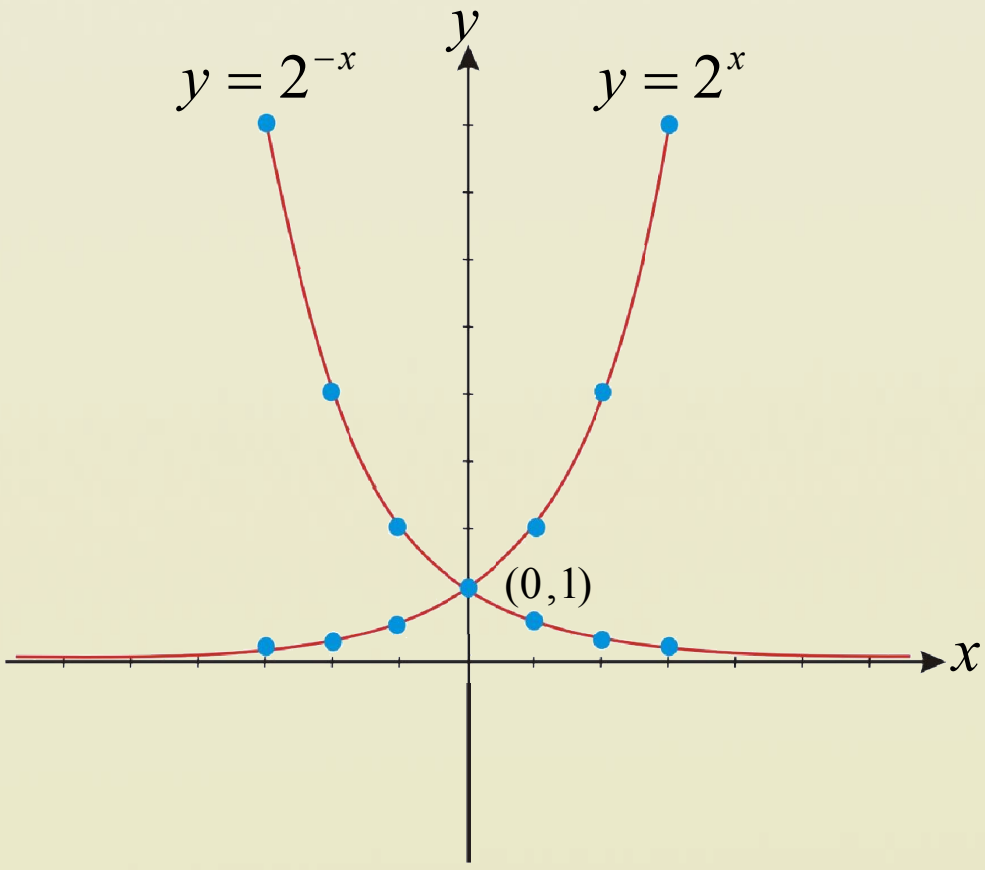

د $y = 2^x$ او $y = 2^{-x}$ تابع ګانو ګرافونه رسموو.

د $y = 2^x$ تابع ګراف

x	-3	-2	-1	0	1	2	3
y	$\frac{1}{8}$	$\frac{1}{4}$	$\frac{1}{2}$	1	2	4	8

د $y = 2^{-x}$ تابع ګراف

x	-3	-2	-1	0	1	2	3
y	8	4	2	1	$\frac{1}{2}$	$\frac{1}{4}$	$\frac{1}{8}$

مثال: د $f(x) = 3 \cdot 2^x$ اکسپوننشیل تابع ګراف رسم کړئ

حل: د پایلې په پام کې نیولوسره پوهېږو چې د $f(x) = 3 \cdot 2^x$ اکسپوننشیل تابع قاعده $a = 2$ ده، نو په دې اساس پورتنی اکسپوننشیل تابع متزایده ده ،ددې لپاره چې د پورتني اکسپوننشیل تابع ګراف دقیق رسم کړو، نو د x متحول ته مختلف قیمتونه ورکوو د y قیمتونه پیدا او په یوه جدول کې یې لیکو، وروسته دغه ټکی (x او y) د قایمو مختصاتو په سیستم کې په نښه کوو.

چې له نښلولو وروسته یې ګراف رسم کېږي.

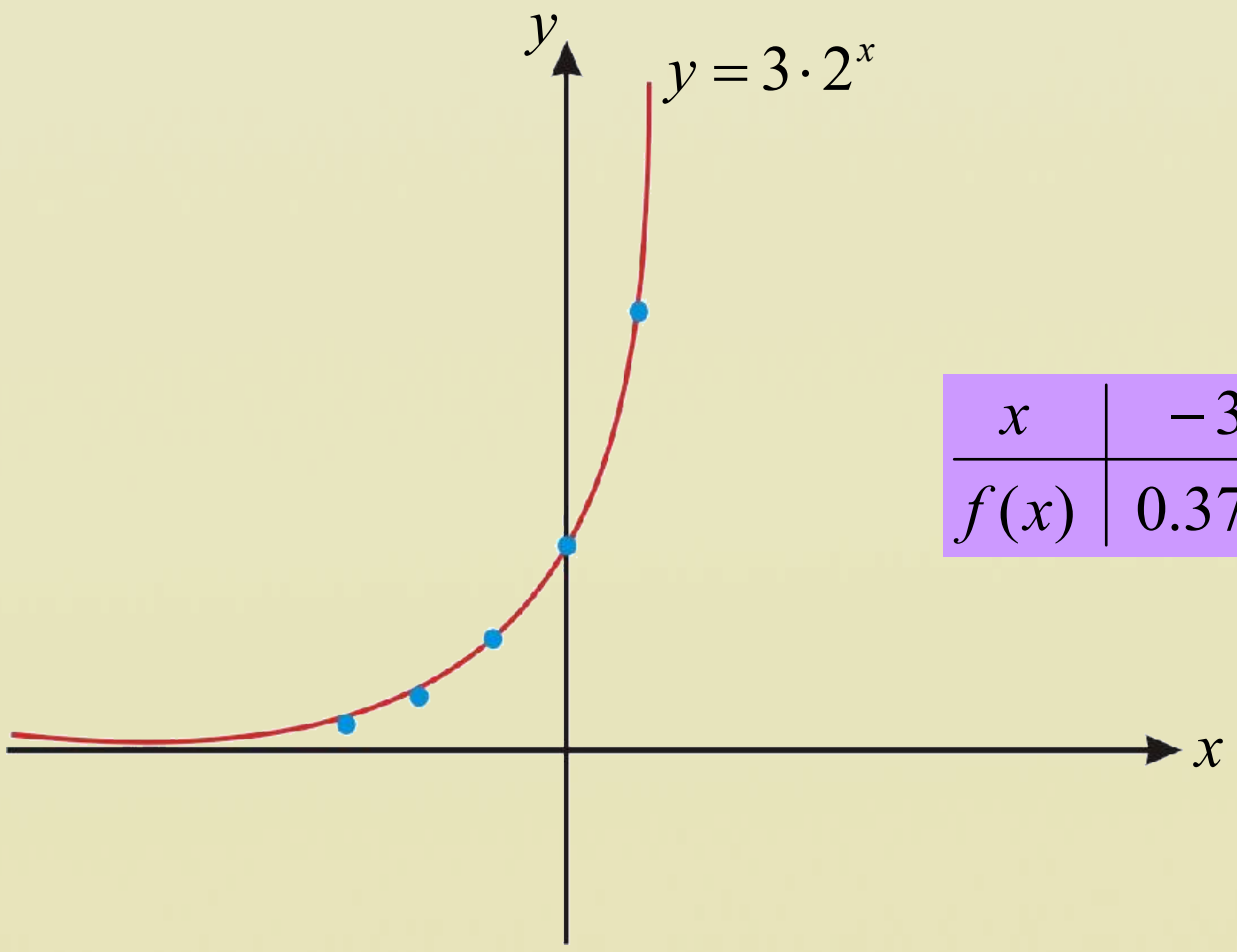

x	-3	-2	-1	0	1	2	3
$f(x)$	0.375	0.750	1.5	3	6	12	24

(c) ketabton.com: The Digital Library

فعالیت

- د $f(x)=a^x$ اکسپوننشیل تابع په پام کې نیولو سره د x او y ټولو حقیقي عددونو لپاره ثبوت کړئ چې:

$$F(x+y)=f(x)\cdot f(y)$$

$$f(x-y)=\frac{f(x)}{f(y)}$$

$$f(a\cdot x)=(f(x))^a$$

د اکسپوننشیل تابع خاصیتونه: له تېرو معلوماتو څخه په ګټې اخیستنې سره د اکسپوننشیل تابع خواص په لاندې ډول بیانوو

1. د هرې اکسپوننشیل تابع د تعریف ناحیه ټول حقیقي عددونه او د قیمتونو ناحیه یې مثبت حقیقي عددونه دي.
2. هره اکسپوننشیل تابع یوپه یو (injective) ده یعنې د هر

$$x_1=x_2\Rightarrow f(x_1)=f(x_2)$$

$$x_1\neq x_2\Rightarrow f(x_1)\neq f(x_2)$$

3. هره اکسپوننشیل تابع د $a>1$ لپاره متزایده او د $a<1$ لپاره متناقصه ده.
4. د هرې اکسپوننشیل تابع ګراف د $(0,1)$ له ټکي څخه تېرېږي.
5. د $f(x)=a^x$ او $g(x)=a^{-x}$ اکسپوننشیل تابع ګانو ګرافونه نظر y محورته متناظر پراته دي
6. هره اکسپوننشیل تابع معکوس لري چې معکوسه تابع یې $Log_a x$ دی.

(c) ketabton.com: The Digital Library

پوښتني

دلاندې اکسپوننشيل تابع گانو گرافونه په قايمو مختصاتوکې رسم کړئ.

$a)\quad f(x) = 2 \cdot 3^{x}$

$b)\quad f(x) = 2 \cdot 3^{-x}$

$c)\quad f(x) = (\frac{1}{2})^{x}$

$d)\quad f(x) = (4)^{-x}$

(c) ketabton.com: The Digital Library

لـوگاريـتم

Logarithm

آيـا کـولای شـئ چـي اکسپونـنـشيل تـابع پـه بـل ډول هـم ولیکئ؟

$$y = a^x \Leftrightarrow \log_a y = x$$

فعاليت

لاندي جدول بشپړکړئ

$y =$ درکړل شوي عددونه	0.0001	0.001	0.01	100	1000	10000
$a^x =$ طاقت لرونکي عددونه		10^{-3}				10^4
$x =$ توان	-4			2		

- د 10^{-3} طاقت لرونکی عدد قاعده او توان څو دي؟
- آيا ديوه عدد قاعده او توان د 1 عدد کیدلای شي؟
- آيا تاسوکولای شئ چي طاقت لرونکی عدد په بل ډول وښاياست؟

د پورتني جدول له بشپړولو وروسته لاندي تعريف کولای شو، بيان کړو.

تعريف: د طاقت لرونکي عدد يوي ببلي ښووني تـه لوگـاريتم وايـي، يـا پـه بـل عبـارت د مجهـول تـوان محاسـبه د لوگاريتم په نامه ياديږي .

$$y = a^x \Leftrightarrow \log_a y = x$$

په پورتني اړيکه کي a ته د لوگاريتم قاعده (Base) او y ته لوگاريتمي عدد وايي، د يوه طاقت لرونکي عدد توان له لوگاريتم څخه عبارت دی ،که د قاعدي په اندازه توان لوړشي، راکړل شوی عدد په لاس را کوي.

په تير جدول کي د 10د قاعدو توانونه دراکړل شوو عددونو له لوگاريتم څخه عبارت دی.

(c) ketabton.com: The Digital Library

د مثال په توګه: $\log_{10} 0.001 = \log_{10} 10^{-3} = -3$

هر مثبت عدد پرته له 1 څخه د لوګاریتم قاعده کیدای شي.

مثال: د لوګاریتم د تعریف په ګټې اخیستې سره لاندې افادې په معادلو(طاقت لرونکو عددي) افادو واړوئ.

$a)\ \log_2 8 = 3$

$b)\ \log_{10} 1000 = 3$

حل:

$\log_2 8 = 3 \Leftrightarrow 8 = 2^3$

$\log_{10} 1000 = 3 \Leftrightarrow 1000 = 10^3$

پوښتنې

1. لاندې لوګاریتمي اړیکې د هغوی په اړوندو افادو واړوئ.

$a)\quad \log_{10} N = x$

$b)\quad \log_{\frac{1}{6}} 36 = -2$

$c)\quad \log_9 81 = 2$

$d)\quad \log_5 5 = 1$

2. لاندې طاقت لرونکی عددونه د لوګاریتم په شکل ولیکئ

$a)\quad 4^3 = 256$

$b)\quad 2^5 = 32$

$c)\quad 10^4 = 10000$

$d)\quad 10^{-1} = 10^y$

$e)\quad y = 2^x$

$f)\quad y = 3^x$

(c) ketabton.com: The Digital Library

لوګاريتمي تابع ګانې

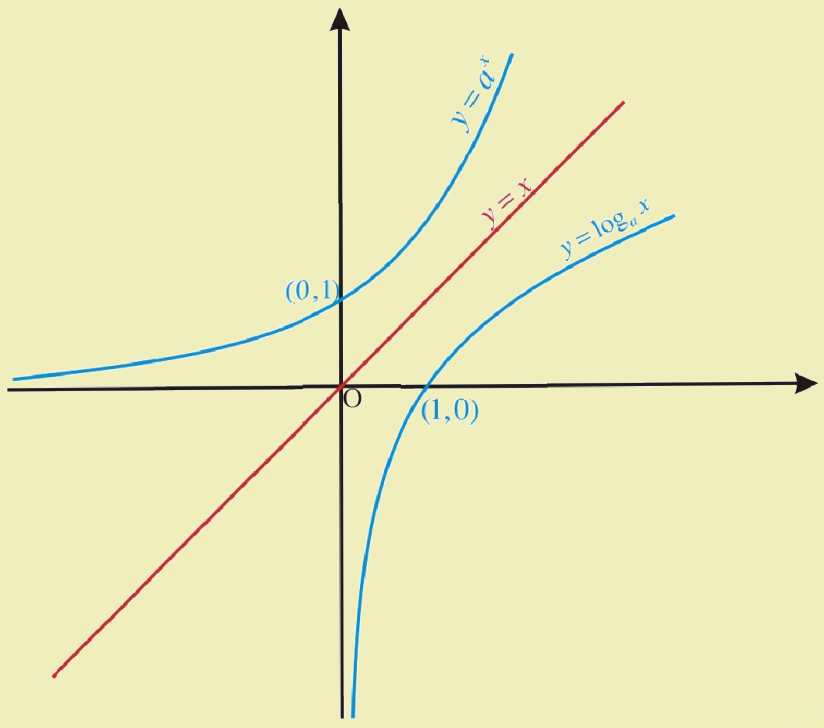

آيا ويلی شي چې کوم ډول تابع ګانې معکوسې تابعګانې لري؟

آيا ويلی شی هغه تابع ګانې چې معکوسه لري، په قايمو مختصاتو کې نظر کوم مستقيم خط ته متناظرې دي.

تعريف: د اکسپوننشيل تابع معکوسه تابع د لوګاريتمي تابع په نامه ياديږي او هره اکسپوننشيل تابع لوګاريتمي تابع ده.

د يوې $(a \neq 1$ او $a \in IR^{+})$ اکسپوننشيل تابع، معکوسه تابع د a په قاعده، هغه لوګاريتمي تابع ده چې د $\log_a x$ سره ښودل کيږي.

هره لوګاريتمي تابع، معکوسه تابع لري، د $f(x) = a^x$ او $g(x) = \log_a x$ تابعګانې يو د بل معکوسې تابعګانې او ګرافونه يې د $y = x$ مستقيم ته متناظر دي.

$$y = a^x \Leftrightarrow \log_a y = x$$

$$f^{-1} : IR^{+} \to IR \,, f^{-1}(x) = \log_a x, \; a \in IR^{+} \,, \; a \neq 1$$

د $f(x) = a^x$ تابع ګراف د $x = 1$ لپاره لاندې شکل لري.

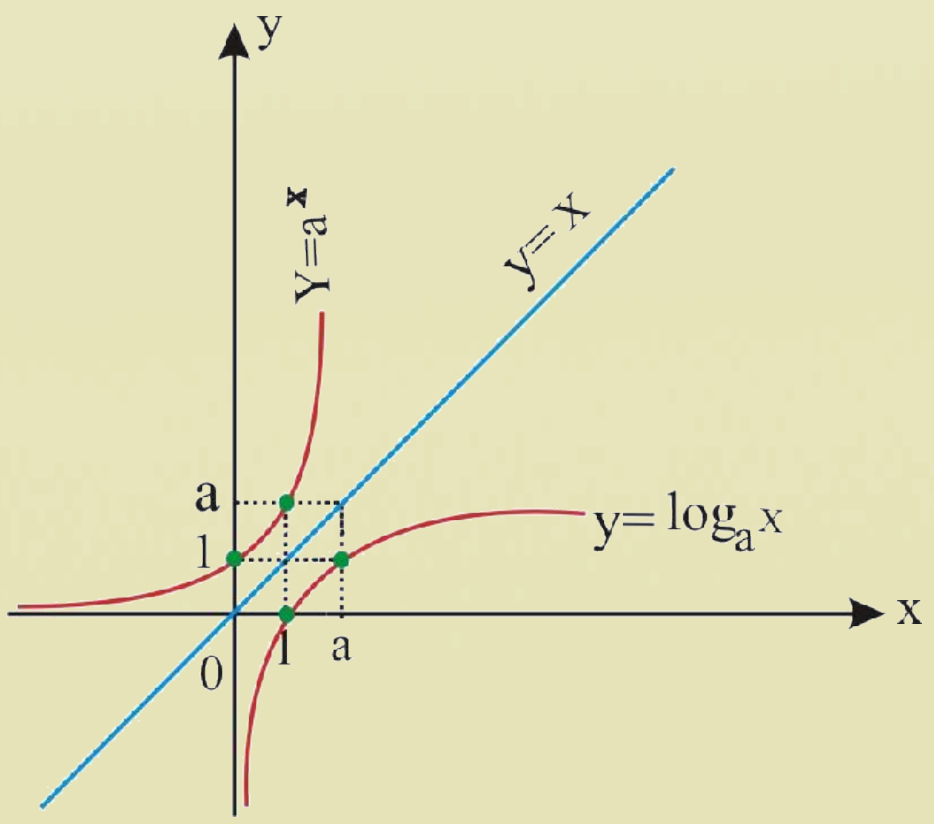

x	0		1		a		$+\infty$
$\log_a x$	$-\infty$	$\nearrow$	0	$\nearrow$	1	$\nearrow$	$+\infty$

(c) ketabton.com: The Digital Library

له پورتني جدول څخه ليدل کېږي:

که چېرې $a>1$ وي، نود $\forall x_1, x_2 \in IR$ لپاره لرو چې:

که $\log_a x_1 > \log_a x_2$ وي؛ نو $x_1 > x_2$ دی.

د $f(x)=a^x$ تابع ګراف د $x=0$ لپاره $a^0=1 \Leftrightarrow \log_a 1 = 0$

لومړی مثال: د $y=3^x$ او $y=\log_3 x$ تابعګانو ګرافونه رسم کړئ.

حل: د $y=3^x$ تابع په پام کې نیسو:

x	-2	-1	0	1	2
y	$\frac{1}{9}$	$\frac{1}{3}$	1	3	9

اوس $y=\log_3 x$ تابع په پام کې نیسو:

$$\left.\begin{array}{l} x=1 \\ y=\log_3 1 \end{array}\right\} (1,0) \qquad \left.\begin{array}{l} x=3 \\ y=\log_3 3 \end{array}\right\} (3,1)$$

$$\left.\begin{array}{l} x=\frac{1}{3} \\ y=\log_3 \frac{1}{3} = y = \log_3 3^{-1} = -1 \end{array}\right\} (\frac{1}{3},-1)$$

x	$\frac{1}{3}$	0	1	3
y	-1	1	0	1

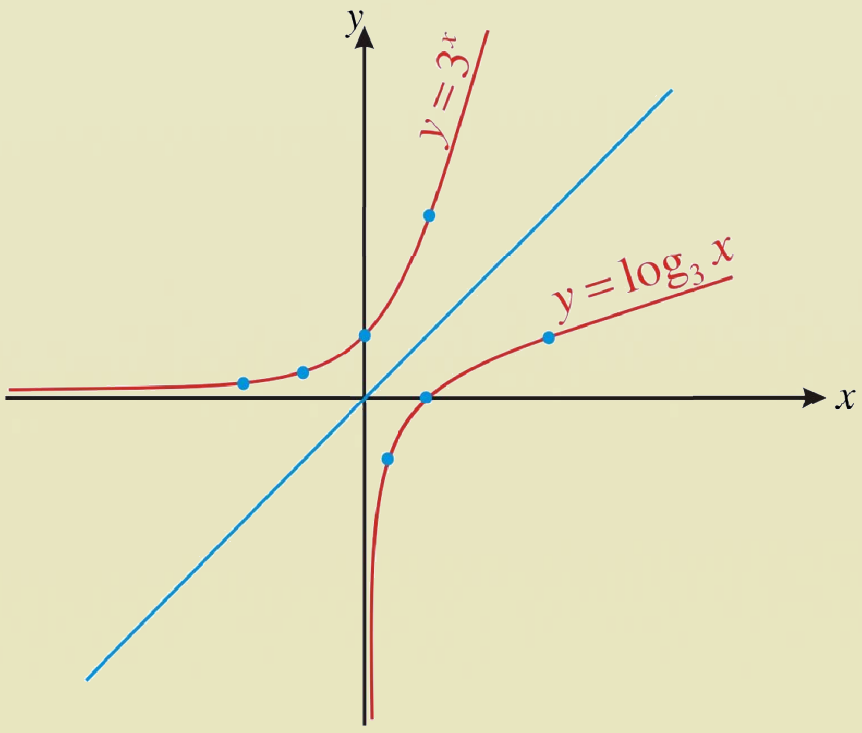

فعالیت

د $y=2^x$ او $y=(\frac{1}{2})^x$ اکسپوننشیل تابعګانو ګراف په پام کې نیولو سره او د اکسپوننشیل تابعګانو د تعریف له مخې ددوی داروندو معکوسو لوګاریتمي تابعګانو قیمتونه د $x=1,2$ لپاره پیدا کړئ او نتیجه يې په عمومي ډول ولیکئ.

پایله: د هرې لوګاریتمي تابع لکه: $y=\log_a x$ د یوې اختیاري قاعدې لپاره لرو.

(c) ketabton.com: The Digital Library

$\log_a 1 = 0 \ , \ \log_a a = 1 \ , \ \ a \in IR \ , a > 0 \ , a \neq 1$

دویم مثال: که چېرې $f(x) = \log_3 x$ راکړل شوی وي نو $f(1), f(3^{-2}), f(9), f(3)$ په لاس راوړئ.

حل: په راکړل شوي تابع کې د x پر ځای قیمتونه ایږدو.

$f(x) = \log_3 x \Rightarrow f(3) = \log_3 3 = 1$

$f(x) = \log_3 x \Rightarrow f(9) = \log_3 9 = \log_3 3^2 = 2\log_3 3 = 2 \cdot 1 = 2$

$f(x) = \log_3 x \Rightarrow f(3^{-2}) = \log_3 3^{-2} = -2 \cdot \log_3 3 = -2 \cdot 1 = -2$

$f(x) = \log_3 x \Rightarrow f(1) = \log_3 1 = 0$

دریم مثال: که $\log_3 x = 4$ وي، د x قیمت په لاس راوړئ.

حل: پورتنی لوګاریتم د طاقت په شکل لیکو $\log_3 x = 4 \Leftrightarrow x = 3^4 \Rightarrow x = 81$

د تېرومعلوماتو څخه په ګټې اخیستې سره د لوګاریتمي تابع خاصیتونو په لاندې ډول بیا نیسو.

د لوګاریتمي تابع خاصیتونه:

1. د لوګاریتمي تابع د قیمتونو ساحه د حقیقي عددونو ، له سټ څخه عبارت ده.
2. څرنګه چې $\log_a 1$ د هرې اختیاري قاعدې لپاره مساوي په صفر ده، نو په دې اساس لوګاریتمي تابع یوازې یو جذر $x_0 = 1$ لري چې په ترتیب سره د لوګاریتمي تابع ګراف په قایمو مختصاتوکې د $(1,0)$ له ټکي څخه تېرېږي.
3. هره لوګاریتمي تابع یو په یو یا انجکتیف (injective) ده یعنې دهر $x_1 \neq x_2$ لپاره تل $f(x_1) \neq f(x_2)$ دی.

څلورم مثال:

د $f(x) = \log_2 x$ تابع قیمت د $x = 16, \frac{1}{8}$ لپاره پیدا کړئ.

حل: په راکړل شوې تابع کې د x پرځای قیمتونه وضع کوو چې په پایله کې د تابع قیمت په لاس راځي.

$f(x) = \log_2 x \Rightarrow f(16) = \log_2 16 = \log_2 2^4 = 4 \cdot \log_2 2 = 4 \cdot 1 = 4$

$f(x) = \log_2 x \Rightarrow f(\frac{1}{8}) = \log_2(\frac{1}{8}) = \log_2 2^{-3} = -3\log_2 2 = -3 \cdot 1 = -3$

(c) ketabton.com: The Digital Library

فعالیت

- د $f(x)=\log_2 x$ تابع قیمت د $x=28,\sqrt{2}$ لپاره په لاس راوړئ.

پوښتنې

1. د $f(x)=\log_2 x$ تابع قیمتونه په $f(32), f(\frac{1}{32}), f(1), f(2)$ کې پیدا کړئ.
2. د $f(x)=\log_3 x$ تابع قیمتونه په $f(1)$ او $f(\frac{1}{81})$ کې په لاس راوړئ.

(c) ketabton.com: The Digital Library

معمولي لوګاريتم *Common logarithm*

او طبيعي لوګاريتم *Natural logarithm*

آيا يوازي 2 او 3 د لوګاريتم قاعدي دي، اوکه نور عددونه هم د لوګاريتم قاعده کېدلی شي ؟

$$\left.\begin{array}{l}\log_e N \\ \log_{10} 10^3\end{array}\right\} = ?$$

تعريف

ځرنګه چې ومو ليدل، هر مثبت عدد پرته له 1 څخه کيدای شي د لوګاريتم قاعده شي، خويه عمل کې د 10 او e قاعدي معمول او په کار وړل کېږي.

1 – معمولی لوګاريتم: هغه لوګاريتم چې قاعده يې 10 وي، د معمولي لوګاريتم Common logarithm يا (Briggs سيستم) په نامه يادېږي (Briggs) دهغه عالم نوم دی چې دغه سيستم منځ ته راوړی دی معمولی لوګاريتم د log په سمبول يې ښيي او په لاندی ډول ښودل کېږي.

$$f : IR^+ \longrightarrow IR\ ,\quad f(x) = \log_{10} x = \log x$$

مثال: د $10^{-1}, 10^3, 10^2, 10^1$ او 10^0 عددونو لوګاريتمونه پيداکړئ.

حل:

$$\log_{10} 10^0 x = \log 10^0 = y \Leftrightarrow 10^y = 1 \Rightarrow 10^y = 10^0 \Rightarrow y = 0$$
$$\log_{10} 10 = \log 10 \ = y \Leftrightarrow 10^y = 10^1 \Rightarrow y = 1$$
$$\log_{10} 10^2 = \log 10^2 = y \Leftrightarrow 10^y = 10^2 \Rightarrow y = 2$$
$$\log_{10} 10^3 = \log 10^3 = y \Leftrightarrow 10^y = 10^3 \Rightarrow y = 3$$
$$\log_{10} 10^{-1} = \log 10^{-1} = y \Leftrightarrow 10^y = 10^{-1} \Rightarrow y = -1$$
$$\vdots$$
$$n \in z \ ,\quad \log_{10} 10^n = \log 10^n = y \Leftrightarrow 10^y = 10^n \Rightarrow y = n$$

(c) ketabton.com: The Digital Library

د x د مختلفو قیمتونو له مخې یې ګراف رسموو

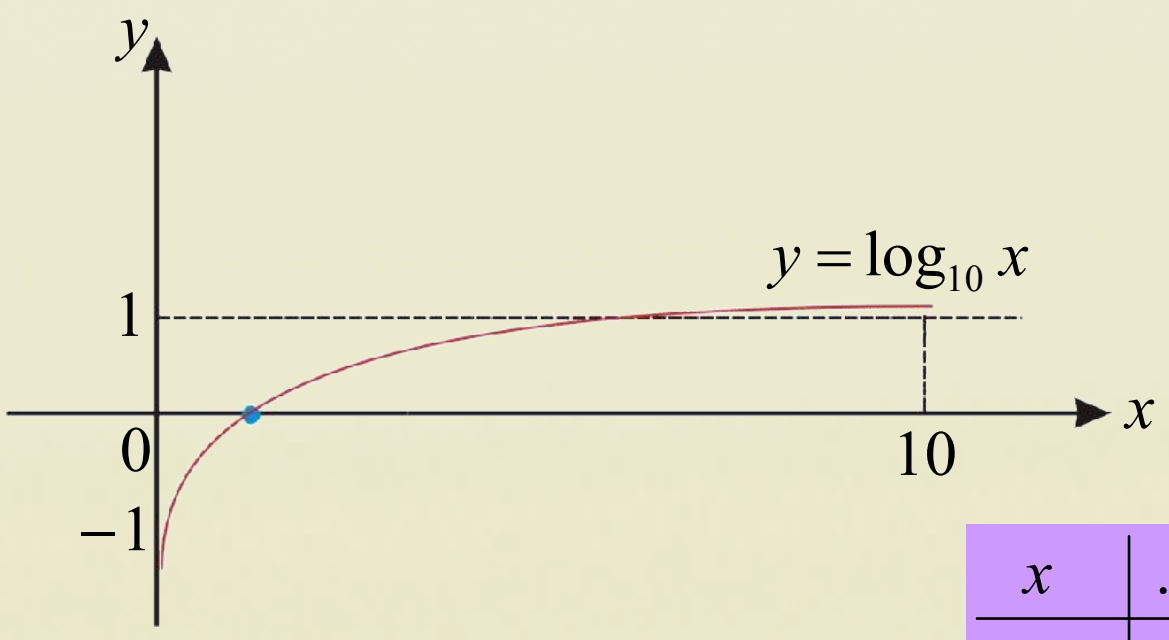

x	$...10^{-3}$	10^{-2}	10^{-1}	10^{0}	10^{1}	10^{2}	10^{3}
$\log x$	$...-3$	-2	-1	0	1	2	3

2– طبیعی لوګاریتم: هغه لوګاریتم چې قاعده یې e وي د طبیعي لوګاریتم(Natural logarithm) په نامه یادېږي او په ln سره ښوول کېږي، او داسې لیکو: $f: IR^{+} \to IR, F(x) = \log_e x = \ln x$:

e یو غیر ناطق عدد دی چې تقریبي قیمت یې عبارت دی له: $e = 2.718281828\cdots$ چې د $(1+\frac{1}{x})^x$ لیمت څخه هغه وخت چې x بې نهایت ته نږدې شي په لاس راځي د e قیمت پیداکول د لوړو ریاضیاتو کار دی. د e عدد د اویلر عدد په نامه یادېږي او $f(x) = e^x$ تابع د اکسپوننشیل تابع په نوم یادېږي او داسې هم لیکي: $Exp(x) = e^x$

د $y = e^x$ تابع ګراف لکه: $y = a^x$ تابع ګراف په څېر ده.

د $y = e^x$ په تابع کې x ته مختلف قیمتونه ورکوو:

x	-2	-1	0	1	2
y	$\frac{1}{7.3}$	$\frac{1}{2.71}$	1	2.71	7.34

د $y = e^{-x}$ په تابع کې x ته بېلابېل قیمتونه ورکوو:

x	-2	-1	0	1	2
y	7.34	2.71	1	$\frac{1}{2.7}$	$\frac{1}{7.3}$

(c) ketabton.com: The Digital Library

د پورتنيو تقريبي قيمتونو په پام کې نيولو سره د $y = e^x$ او $y = e^{-x}$ تابع‌گانو گرافونه رسموو:

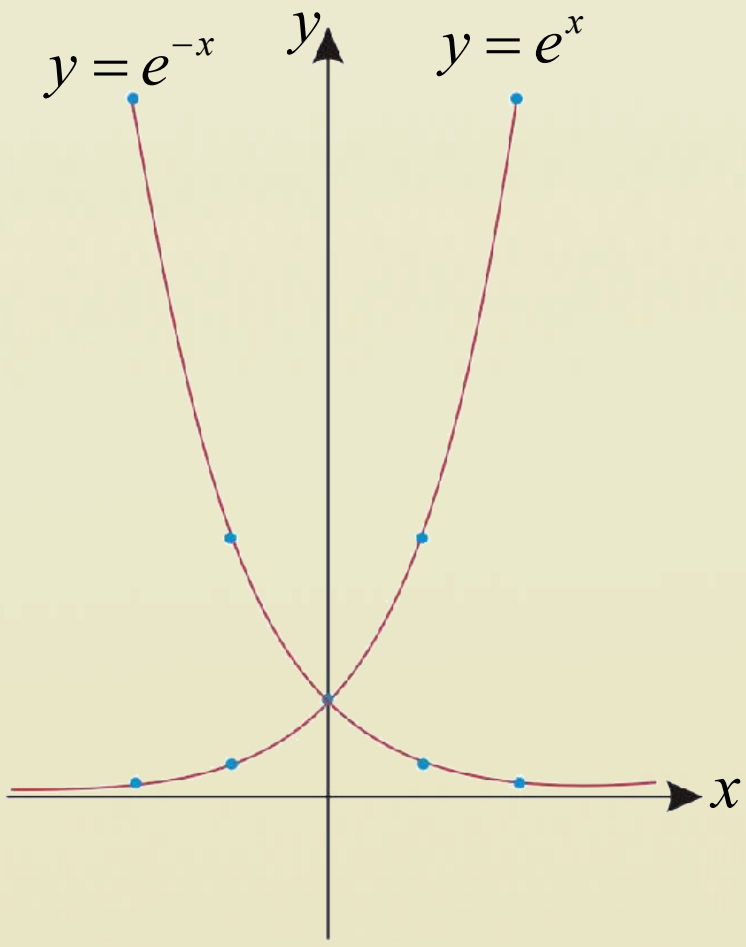

د طبيعي لوگاريتم مطالعه په لوړو رياضياتوکې لکه: ساينس، انجنيري، تجارت او تخنيك کې زيات استعمال لري.

د طبيعي لوگاريتم د تابع $y = \ln x$ گراف په لاندې ډول دی.

مثال: $\ln e^{-2}, \ln e^{-1}$ $\ln e^0, \ln e^3, \ln e^2$ او $\ln e^1$ پيدا کړئ.

حل: د تعريف په پام کې نيولو سره لرو چې: $y = \ln x = \log_e x$

$\ln e^1 = y \Leftrightarrow e^y = e^1 \Rightarrow y = 1$

$\ln e^2 = y \Leftrightarrow e^y = e^2 \Rightarrow y = 2$

$\ln e^3 = y \Leftrightarrow e^y = e^3 \Rightarrow y = 3$

$\ln e^0 = y \Leftrightarrow e^y = e^0 \Rightarrow y = 0$

$\ln e^{-1} = y \Leftrightarrow e^y = e^{-1} \Rightarrow y = -1$

$\ln e^{-2} = y \Leftrightarrow e^y = e^{-2} \Rightarrow y = -2$

د $y = \ln x$ تابع گراف عبارت دی له:

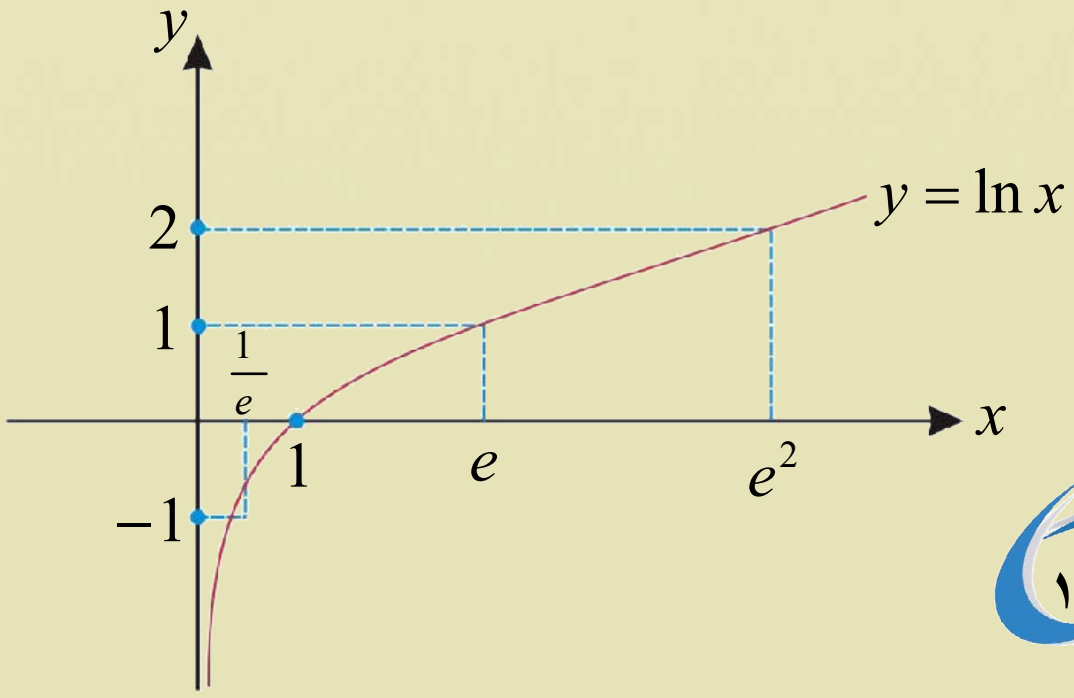

(c) ketabton.com: The Digital Library

فعالیت

- د $y=\ln\frac{1}{e^7}$ قیمت پیدا کړی.
- د $\log 0.0001$ قیمت په لاس راوړئ.

پوښتني

لاندي لوګاریتمونه حساب کړئ.

$a)\log_e e^8$

$b)\ln\frac{1}{e^{-3}}$

$c)\log 0.01$

$d)\log\frac{1}{10^{-2}}$

(c) ketabton.com: The Digital Library

د لوګاریتم قوانین

Low of logarithm

$$a^x \cdot a^y = a^{x+y}$$

$$\frac{a^x}{a^y} = a^{x-y}$$

$$\log(x \cdot y) = \log x + \log y$$

$$\log(\frac{x}{y}) = \log x - \log y$$

پوهېږي چې د عددونو طاقت خپل قوانین لري، آیا د عددونو لوګاریتم هم قوانین لري او که نه؟

فعالیت

- د طاقت لرونکو عددونو د ضرب قانون ولیکئ.
- د طاقت لرونکو عددونو د تقسیم قانون ولیکئ.
- هر عدد د صفر او یاد یوه په توان مساوي په څودی؟

د طاقت قوانینو ته ورته لوګاریتم هم ځینې قوانین لري

لومړی قانون: د هر عدد لوګاریتم د لوګاریتم د تعریف په ساحه کې په خپله قاعده مساوي په یو دی؛ مثلاً:

$$a \in IR^+ ,\ a \neq 1, \log_a a = 1$$

ثبوت: پوهېږو چې $\forall a \in IR^+ \setminus \{1\},\ a^1 = a$ دي، نو $\log_a a = 1$

لومړی مثال: $\log_5 5 = 1 \Leftrightarrow 5^1 = 5$

دویم قانون: د 1 عدد لوګاریتم په هره اختیاري قاعده مساوي په صفر دی؛ مثلاً: $\forall a \in IR^+ \setminus \{1\} ,a^0 = 1$ نو

$$\log_a 1 = 0$$

دویم مثال: $\log_{\sqrt{5}} 1 = 0 \Rightarrow (\sqrt{5})^0 = 1$

دریم قانون: د دوو یا څوعددونو د حاصل ضرب لوګاریتم د هغو د لوګاریتمونو له مجموعې سره مساوي دی یعنې:

$$\log_a(x \cdot y) = \log_a x + \log_a y$$

ثبوت: که چیرې ولرو.

$$x = a^p \quad \ldots \text{ I}$$

$$y = a^q \quad \ldots \text{ II}$$

(c) ketabton.com: The Digital Library

د I او II اړیکې خوا په خوا ضربوو: $x\cdot y=a^p\cdot a^q=a^{p+q}$

د پورتنۍ اړیکې له دواړو خواوو لوګاریتم نیسو: $\log_a(x\cdot y)=p+q$

د p او q قیمتونو په اېښودلو سره لیکو: $\log_a(x\cdot y)=\log_a x+\log_a y$

لومړی مثال: د 50 عدد لوګاریتم په لاس راوړئ.

حل: $\log 50=\log(5\cdot 10)=\log 5+\log 10=\log 5+1$

دویم مثال: $\log_4 2+\log_4 8=?$

حل:

$$\log_4 2+\log_4 8=\log_4(2\cdot 8)=\log_4(2\cdot 2\cdot 4)=\log_4(4\cdot 4)$$
$$=\log_4 4+\log_4 4=1+1=2$$

فعالیت

- دلاندې غیر مساواتو سم والی، د مثال په واسطه وښایاست.

$$\log_a(x+y)\neq\log_a x+\log_a y$$
$$\log_a(x\cdot y)\neq\log_a x\cdot\log_a y$$

څلورم قانون: د دوو عددونو د تقسیم لوګاریتم د لوګاریتمونو له تفاضل سره مساوي دی، یعنې:

$$\log_a\frac{x}{y}=\log_a x-\log_a y$$

ثبوت: که چېرې $x=a^p$ او $y=a^q$ ولرونو:

$$\left.\begin{matrix}x=a^p\text{..........}\ I\\ y=a^q\text{.........}\ II\end{matrix}\right\}\Rightarrow\begin{matrix}\log_a x=p\\ \log_a y=q\end{matrix}$$

د I او II اړیکې خوا په خوا یو په بل ووېشو.

$$\frac{x}{y}=\frac{a^p}{a^q}=a^{p-q}$$

د پورتنۍ اړیکې له اطراف څخه لوګاریتم نیسو: $\log_a\frac{x}{y}=p-q$

د p او q د قیمتونو په اېښودلو سره لیکو: $\log_a\frac{x}{y}=\log_a x-\log_a y$

(c) ketabton.com: The Digital Library

لومړي مثال: د $\log\frac{5}{2}$ محاسبه کړئ داسې چې $\log 2 = 0.3010,\ \log 5 = 0.6900$ وي.

حل: $\log\frac{5}{2} = \log 5 - \log 2 = 0.6900 - 0.3010 = 0.3890$

دویم مثال: $\log_y(10y^2x) - \log_y(2xy)$ حاصل په لاس راوړئ.

حل: څلورم قانون له ښي لوري څخه چپ لوري ته تطبیقوو.

$$\log_y(10y^2x) - \log_y(2xy) = \log_y\frac{10y^2x}{2xy} = \log\ (5y)$$
$$= \log_y(5y) = \log_y y + \log_y 5$$
$$= \log_y 5 + 1$$

پنځم قانون: د یوه توان لرونکي عدد لوګاریتم مساوي دی د توان او د طاقت د قاعدې د لوګاریتم له حاصل ضرب سره یعني که چیرې $(a^x)^n$ ولرو نو $\log_a x^n = n\log_a x$ دی.

$$\log_a x^n = \log_a(x\cdot x\cdot x\cdot\ ...\ \cdot x)$$
$$\log_a x^n = \underbrace{\log_a x + \log_a x + ... + \log_a x}_{lag_a x\ \text{خلې}\ n}$$

په پایله کې $\log_a x^n = n\log_a x$

له پنځم قانون څخه په ګټې اخیستنې سره کولای شو ولیکو.

$$\log_a \sqrt[n]{x} = \log_a(x)^{\frac{1}{n}} = \frac{1}{n}\log_a x$$

لومړی مثال: $\log 625 = ?$

حل: $\log 625 = \log 5^4 = 4\log 5 = 4(0.6990) = 2.7960$

دویم مثال: دغه لوګاریتم $\log_3\sqrt[3]{9}$ پیدا کړئ؟

حل: $\log_3\sqrt[3]{9} = \log_3\sqrt[3]{3^2} = \log_3(3)^{\frac{2}{3}} = \frac{2}{3}\log_3 3 = \frac{2}{3}\cdot 1 = \frac{2}{3}$

فعالیت

- لاندې لوګاریتمونه پیداکړئ.

$\log_3(0.12) = ?$ $\log_5\sqrt{8} = ?$

(c) ketabton.com: The Digital Library

پوښتنې

1. لاندې ضربي افادې د جمعې د حاصل په شکل او دجمعې د حاصل افادې د حاصل ضرب په شکل ولیکئ او د امکان په صورت کې یې وروستی قیمت په لاس راوړئ.

$a)\ \log_4(5x^2) = ?$

$b)\ \log_{10}(10x^2y) = ?$

$c)\ \log_{10}5 + \log_{10}20 = ?$

$d)\ \log_{12}36 + \log_{12}4 = ?$

2. لاندې د خارج قسمت افادې په تفاضل او د تفاضل افادې په خارج قسمت واړوئ، د امکان په صورت کې وروستې ځواب په لاس راوړئ.

$a)\ \log_7 \dfrac{63}{49} = ?$

$b)\ \log \dfrac{125}{80} = ?$

$c)\ \log_a(x^2a) - \log_a x^2 = ?$

$d)\ \log_{10}1000 - \log_{10}100 = ?$

3. لاندې لوګاریتمونه حساب کړئ.

$a)\ \log_{10}(0.0001)$ $b)\ \log_2(8)^{-\frac{1}{3}}$

(c) ketabton.com: The Digital Library

د لوګاریتم د یوې قاعدې اړول په بله قاعده

که د یوه عدد لوګاریتم په یوه مشخصه قاعده راکړل شـوی وي، څرنګه کولای شو، نوموړی عدد په بله قاعده واړوو.

$$\log_b m = \frac{\log_a m}{\log_a b}$$

شپږم قانون: د دوو عددونو د لوګاریتمونو د تقسیم حاصل چه په عین قاعده وي مساوي ده په:

$$\frac{\log_a m}{\log_a b} = \log_b m$$

ثبوت:د ثبوت لپاره $\log_b m = y$ او معادل شکل يې يعنې $m = b^y$ ليکـو اوس لـه اطرافو څخه د a پـه قاعده لوګاریتم نیسو:

$$\log_b m = \log_a b^y \Rightarrow \log_b m = y \log_a b$$

اوس د y قیمت په پورتني اړيکه کې اېږدو:

$$\log_a m = \log_b m \cdot \log_a b$$

د پورتنۍ اړيکې دواړه خواوې په $\log_a b$ وېشو:

$$\frac{\log_a m}{\log_a b} = \frac{\log_b m \cdot \log_a b}{\log_a b} = \log_b m \Rightarrow \frac{\log_a m}{\log_a b} = \log_b m$$

لومړی مثال: $\log_9 27$ محاسبه کړئ.

حل: له شپږم قانون څخه په ګټې اخيستنې سره لرو:

$$\log_9 27 = \frac{\log_3 27}{\log_3 9} = \frac{\log_3 (3)^3}{\log_3 (3)^2} = \frac{3\log_3 3}{2\log_3 3} = \frac{3\cdot 1}{2\cdot 1} = \frac{3}{2}$$

دويم مثال: $\log_3 75$ حساب کړی.

حل: بيا هم د شپږم قانون په کارولو سره لرو چې:

$$\log_3 75 = \frac{\log_5 75}{\log_5 3} = \frac{\log_5 (3\cdot 5^2)}{\log_5 3} = \frac{\log_5 3 + 2\log_5 5}{\log_5 3} = \frac{\log_5 3 + 2}{\log_5 3}$$

(c) ketabton.com: The Digital Library

یادونه: د یوه عدد معکوس لوګاریتم مساوي دی، د هغه عدد له منفي لوګاریتم څخه چې هغه د کو لوګاریتم (co-logarithem) په نامه یاد یږي.

$$\log_a \frac{1}{M} = -\log_a M = co\log_a M$$

مثال: $\log_2 \frac{1}{32} = ?$

حل: $\log_2 \frac{1}{32} = \log_2 1 - \log_2 32 = \log_2 1 - \log_2 2^5 = 0 - 5\log_2 2 = -5 \cdot 1 = -5$

اووم قانون: د یوه عدد معکوس لوګاریتم مساوي دی په: $\log_a M = \frac{1}{\log_M a}$

ثبوت: د ثبوت لپاره $\frac{1}{\log_M a} = x$ نیسو: $\frac{1}{\log_M a} = x \Rightarrow x\log_M a = 1 \Rightarrow \log_M a^x = 1 \ldots I$

د I په رابطه کې د1 عدد په ځای لیکلی شو چې $1 = \log_M M$

$$\log_M a^x = \log_M M \Rightarrow \log a^x = \log M$$

اوس د دواړو خواوو لوګاریتم نیسو یعني $\log_a M = x$

په پورتنی اړیکه کې د x په ځای قیمت اېږدو: $\log_a M = x = \frac{1}{\log_M a}$

مثال $\log_{125}\sqrt{5} = ?$

حل: $\log_{125}\sqrt{5} = \log_{125}(5)^{\frac{1}{2}} = \frac{1}{2}\log_{125} 5 = \frac{1}{2\log_5 125} = \frac{1}{2\log_5 5^3} = \frac{1}{6\log_5 5} = \frac{1}{6}$

فعالیت

لاندې لوګاریتمونه حساب کړئ.

$\log_{64} 2 = ?$ $\qquad \log_4 \sqrt{25^6} = ?$

اتم قانون: دیوه عدد لوګاریتم په توان لرونکي قاعده مساوي دی په $\log_{a^n} x = \frac{1}{n}\log_a x$

ثبوت: د ثبوت لپاره $\log_a x = m$ نیسو او هغه داړوند طاقت په شکل لیکو:

$$\log_a x = m \Rightarrow x = a^m \Rightarrow x = (a^m)^{\frac{n}{n}} \Rightarrow x = (a^n)^{\frac{m}{n}}$$

د پورتنی رابطې د دواړو خواوو څخه لوګاریتم نیسو: $\log_{a^n} x = \frac{m}{n} \Rightarrow \log_{a^n} x = \frac{1}{n}\log_a m$

(c) ketabton.com: The Digital Library

اوس د m په ځای قیمت اېږدو:

$$\log_{a^n} x = \frac{1}{n}\log_a x$$

له پورتني قانون څخه لاندې پایلې په لاس راځي

1) $\log_{a^n} x^m = \frac{m}{n}\log_a x$ 2) $\log_{\frac{1}{n}} \frac{1}{x} = \log_n x$ 3) $\log_{a^n} x^n = \log_a x$

لومړی مثال: $\log_{25} 125 = ?$

حل:

$$\log_{25} 125 = \log_{5^2} 5^3 = \frac{3}{2}\log_5 5 = \frac{3}{2}\cdot 1 = \frac{3}{2}$$

دویم مثال: $\log_{\frac{1}{\sqrt[3]{3}}} (27)^2 = ?$

حل:

$$\log_{\frac{1}{\sqrt[3]{3}}} (27)^2 = \log_{\frac{1}{(3)^{\frac{1}{3}}}} (3^3)^2 = \log_{3^{-\frac{1}{3}}} (3)^6 = \frac{6}{-\frac{1}{3}}\log_3 3 = \frac{6}{1}(\frac{3}{-1})\cdot 1 = -18$$

فعالیت

د پورتنیو خاصیتونو په کارولو سره لاندې لوګاریتمونه ساده کړئ.

a) مخامخ لوګاریتم په معکوس ډول ولیکئ. $\log_3 6 = ?$

b) $\log_8 \sqrt[3]{4} = ?$

د معمولي او طبیعي لوګاریتمونو ترمنځ اړیکه: د دغو دوو لوګاریتمونو یعنې د 10 او e عددونه د $\log_a x = \log_b x . \log_a b$ له اړیکې څخه په ګټې اخیستنې چې b, a او x مثبت عددونه او a او b د 1 خلاف دي:

که چېرې $a = e$ او $b = 10$ وضع شي، نو لرو چې:

$$\log_{10} x = \frac{\log_e x}{\log_e 10}$$

$$\log_e x = \log_{10} x \cdot \log_e 10$$

پوهېږو چې $\log_e x = \ln x$ دی، نو:

$$\ln x = \log_e 10 \cdot \log x$$

$$\ln x = 2.3026 \cdot \log x$$

(c) ketabton.com: The Digital Library

که چېرې $b = e$ او $a = 10$ وضع شي، نو:

$$\log_e x = \frac{\log_{10} x}{\log_{10} e}$$

$$\log_{10} x = \log x = \log_e x \cdot \log_{10} e$$

$$\log x = \log_{10} e \cdot \ln x$$

ځرنگه چې $\log_{10} e = 0.4343$ دی، نو لاندې اړیکه لرو:

$$\log x = 0.4343 \cdot \ln x$$

لومړی مثال: د $\ln 4.69$ قیمت په لاس راوړئ.

حل: پوهېږو چې:

$$\ln x = 2.3026 \cdot \log x$$

$$\ln 4.69 = 2.3026 \cdot \log 4.69$$

$$\ln 4.69 = 2.3026 \cdot 0.6712 = 1.5455$$

دویم مثال: د $\log 6.73$ قیمت پیدا کړئ په داسې حال کې چې $\ln 6.73 = 1.9066$ وي.

حل: د تېرې اړیکې په گټې اخیستې سره لرو چې:

$$\log x = 0.4343 \cdot \ln x$$

$$\log 6.73 = 0.4343 \cdot \ln 6.73$$

$$= 0.4343 \cdot 1.9066 = 0.8280$$

پوښتنې

لاندې لوگاریتمونه ساده کړئ.

$a)\ \log_{\frac{1}{3}} 3^{-4} = ?$

$b)\ \log_9 27 = ?$

$c)\ \log_8 4 = ?$

$d)\ \log_{121} 14641 = ?$

$e)\ \ln 672000$

$f)\ \ln 0.00927$

$g)\ \ln 0.235$

(c) ketabton.com: The Digital Library

کرکټرسټیک او مانتیس

Characteristic and Mantissa

$$\left.\begin{array}{l}\log 0.501\\ \log 5.01\\ \log 50.1\\ \log 501\end{array}\right\} = ?$$

پوهېږو چې:

$\log_{10}1000 = 3$, $\log_{10}100 = 2$, $\log_{10}1 = 0$

دی. آیا دیوه عدد د ارقامو دشمېر او لوګاریتم ترمنځ کومه

اړیکه شتون لري؟

تعریف

پوهېږو چې د x هر حقیقي مثبت عدد د $x = S\cdot 10^n$ په شکل لیکل کیدای شي، داسي چې $1 \le S < 10$ او n یو تام عدد وي.

که چېرې د x لوګاریتم غوښتل شوی وي، په لاندې ډول یې پیداکولای شو.

$$\log x = \log(S\cdot 10^n) = \log S + \log 10^n = \log S + n\log 10 = \log S + n$$

د $\log S$ په هغه صورت کې چې $1 \le S < 10$ وي، S د x د لوګاریتم مانتیس یا اعشاري برخه او n چې یو تام عدد دی، د x د لوګاریتم مشخصه یا کرکټرسټیک څخه عبارت دی. څرنګه چې $1 \le S < 10$ دي نو.

$$\log 1 \le \log S < \log 10$$
$$0 \le \log S < 1$$

له پورتنۍ اړیکې څخه داپایله په لاس راځي چې دیوه عدد (له ۱۰ کوچنی او له یوه لوی یا مساوي) لوګاریتمي یې د یو او صفر ترمنځ قرار لري.

فعالیت

- لاندې جدول بشپړکړئ.

د عددونو توان لرونکی شکل	$0.001 = 10^{-3}$	$0.01 = 10^{-2}$	$1 = 10^{0}$	$1000 = 10^{3}$	$4 = 10^{0.602}$	$7 = 10^{0.845}$	$10 = 10^{1}$	$20 = 10^{1.390}$
د عددونو لوګاریتمي شکل	$\log_{10} 0.001$		$\log_{10} 1$			$\log_{10} 7$		$\log_{10} 20$
لوګاریتم	-3	-2		3	0.602		1	

د هغو عددونو لوګاریتمونه چې د 0، 10، 100, 1000، 0.01 د 0.001 عددونو ترمنځ واقع دي، مساوي له څوسره دي؟

(c) ketabton.com: The Digital Library

- آیا هر څومره چې عدد لوی شي لوګاریتم یې هم لوئیږي؟
- له 1 څخه د کوچنیو عددونو د لوګاریتم علامه منفي ده، که مثبت؟

له پورتني فعالیت څخه لاندې پایله په لاس راځي:

- که چېرې $1 \le x < 10$ سره وي، کرکټرسټیک یې صفر دی.
- که چېرې $10 \le x < 100$ وي کرکټرسټیک یې مساوي له 1 سره دی.
- که چېرې $100 \le x < 1000$ وي، نو کرکټرسټیک یې 2 دی.

دیوه عدد په لوګاریتم کې صحیح برخه کرکټرسټیک او اعشاري برخه یې مانتیس نومېږي.

هغه وخت چې عدد د عدد لیکنې په علمي طریقه ولیکل شي، د 10 د عدد توان له کرکټرسټیک څخه عبارت دی.

د عدد لیکنې علمي طریقه Scientific notation

کولای شو هر عدد د 10 د توان په څېر ولیکو، لکه: د N عدد داسې لیکو $N = a \cdot 10^n$ چې په دې حالت کې $1 \le a < 10$ او n یو تام عدد دی

لومړی مثال: لاندې عددونه د عدد لیکنې په علمي طریقه ولیکئ.

$a)$ 2573 $b)$ 573216 $c)$ 0.0028

حل :

$a)\quad 2573 = 2.373 \cdot 10^3$

$b)\quad 573216 = 5.73216 \cdot 10^5$

$$c)\quad 0.0028 = \frac{28}{10000} = \frac{28}{10^4} = 28 \cdot 10^{-4} = 2.8 \cdot 10 \cdot 10^{-4} = 2.8 \cdot 10^{-3}$$

قاعده: که چېرې دیوه عدد صحیح برخه چې د صفر خلاف وي، نود هغه عدد دلوګاریتم کرکټرسټیک مساوي دی، د صحیح برخې د ارقامو په شمېر، منفي یو.

(c) ketabton.com: The Digital Library

دویم مثال: د $\log 526.9$ کرکټرستیک مساوي له څو سره دی؟

حل: د صحیح ارقامو شمېرله 3 سره برابر دی، نو کرکټرستیک یې $2 = 1 - 3$ دی.

او له یوه څخه د کوچنیو عددونو کرکټرستیک منفي علامه لري او قیمت یې د اعشاري د علامې دښي خوا د صفرونو له شمېر څخه، د یوه په اندازه زیات دی.

دریم مثال: د $\log 0.002$ کرکټرستیک مساوي په څو دی؟

حل:

$$\begin{aligned}\log 0.002 &= \log(2\cdot 10^{-3})\\ &= \log 2 + \log 10^{-3}\\ &= \log 2 - 3\log 10 = \log 2 - 3\end{aligned}$$

نو کرکټرستیک یې $3-$ دی.

له تېرو دوو مثالونو څخه په کار اخیستنې سره کولای شو، د لاندې عددونو کرکټرستیک په لاس راوړو.

لوګاریتمونه		کرکټرستیک
$\log 89435$	$5-1$	4
$\log 56.784$	$2-1$	1
$\log 0.995$	$0-1$	-1
$\log 0.0789$	$-1-1$	-2

(c) ketabton.com: The Digital Library

پوښتنې

دلاندې لوګاریتمونو کرکټرستیک په شفاهي ډول وواياست؟

$a)\ \log 0.9560$ $b)\ \log 956.0$

$d)\ \log 2345$ $e)\ \log 3.875$

$c)\ \log 9560$ $f)\ \log 0.0009560$

(c) ketabton.com: The Digital Library

د لوګاريتم جدول

څرنګه چې په تېرلوست کې مو ولوستل چې د يوه عدد لوګاريتم له دوو برخو(کرکټرستيک او مانتيس) څخه تشکيل شوی دی. د مانتيس د پيداکولو لپاره په څه ډول عمل کوئ.

$$\left.\begin{array}{l}\log 0.501\\ \log 5.01\\ \log 50.1\\ \log 501\end{array}\right\}=?$$

د مانتيس د پيدا کولو طريقه:

پوهېږو چې هر لوګاريتمي عدد له دوو يعنې صحيح او اعشاري برخوڅخه جوړ شوی دی، څرنګه چې صحيح برخه يا مشخصه د خپل عدد د ارقامو له مخې او مانتيس يې د لوګاريتمي جدول له مخې چې مخکې ترتيب شوی ټاکل کېږي، دغه جدول يې تر څينې 7 ، تر 5 او څينې يې تر 4 او 3 اعشاري خانو پورې ترتيب شوی چې د مانتيس د پيداکولو لپاره ترې کار اخلي چې د اعشاري د تامو عددونو د ارقامو د شمېر په پام کې نيولو سره جدولونه نومول شوی دي. لکه: 7 رقمي جدولونه 5، رقمي جدولونه او داسې نور.

د يوه عدد د مانتيس د پيداکولو لپاره د نوموړي عدد ارقام له چپ لوري څخه په پام کې نيول کېږي په دې ډول چې ښي لوری ديوه رقم په استثنا هغه د جدول په داسې ستون کې لټوو چې د ښۍ خواله رقم سره مطابقت ولري، نو هغه اعشاري عدد چې د سطر او ستون تقاطع وي، له مانتيس څخه عبارت دی.

لومړی مثال:

حل:

$$\log 765 = ?$$

$$\log 765 = \log(7.65\cdot 10^2)$$

$$= \log 7.65 + \log 10^2$$

$$= \log 7.65 + 2$$

مانتيس   کرکټرستيک

د 2 عدد د کرکټرستيک څخه عبارت دی او دمانتيس د پيدا کولو لپاره يعنې $\log 7.65$ په 76 سطر او 5 - ام ستون کې ګورو چې د 8837 عدد سره مطابقت کوي يعنې د نوموړي عدد مانتيس 0.8837 دی چې په حقيقت کې د 765 عدد مانتيس دی.

(c) ketabton.com: The Digital Library

N	0	1	2	3	4	5	6	7	8	9
74										
75						↓				
76	0.8808	0.8814	0.8820	0.8825	0.8831	0.8837	0.8842	0.8848	0.8854	0.8859
77										
78										
79										

$$\log 765 = \log 7.65 + 2 = 0.8837 + 2 = 2.8837$$

دويم مثال: $\log 70.9$ په لاس راوړی؟

حل:

$$\log 70.9 = \log(7.09 \cdot 10)$$
$$= \log 7.09 + \log 10^{1}$$
$$= \log 7.09 + 1$$

N	0	1	2	3	4	5	6	7	8	9
70	8451	8457	8463	8470	8476	8482	8488	8494	8500	**8506**
⋮										
→ 79										
⋮										

د 709 عدد د 9 ستون لاندې لټوو چې له 8506 عدد سره مطابقت کوي يعنې د 7.09 عدد مانتيس 0.8506 دی، په پايله کې يې لوګاريتم داسې حسابوو:

$$\log 70.9 = 0.8506 + 1 = 1.8506$$

دريم مثال: د 0.0247 لوګاريتم حاصل په لاس راوړئ.

حل:

$$\log 0.0247 = \log(2.47 \cdot 10^{-2})$$
$$= \log 2.47 + \log 10^{-2}$$
$$= \log 2.47 - 2$$

(c) ketabton.com: The Digital Library

د 2.47 عدد په 24 – ام سطر او 7 – ام ستون لاندې لټوو چې له 3927 عدد سره مطابقت کوي يعنې د 2.47 عدد مانتيس عبارت دی له: 0.3927 په پايله کې د لوګاريتم حاصل داسې په لاس راورو:

$$\log 0.0247 = \log 2.24 - 2 = 0.3927 - 2 = \overline{2}.3927$$

يادونه: څرنګه چې مانتيس هميشه مثبت دی، که کرکټرستيک منفي وي او وغواړو دواړه د يوه مثبت عدد په شکل وليکو، نو منفي علامه د کرکټرستيک له پاسه ليکو، مثلاً په پورتني مثال کې:

$$0.3927 - 2 = \overline{2}3927$$

فعاليت

- د لوګاريتم د جدول په پام کې نيولو سره 9280 عدد لوګاريتم حساب کړئ.

څلورم مثال: د لاندې جدول په پام کې نيولوسره د 15 , 105, 900 , $\frac{3}{4}$, 0.007 عددونو لوګاريتمونه پيدا کړئ.

عددونه	1	2	3	4	5	6	7	8	9	10
لوګاريتمونه	0.0000	0.30103	0.47712	0.60206	0.69897	0.77815	0.84570	0.90309	0.95424	1.0000

(c) ketabton.com: The Digital Library

$$\log 15 = (3\cdot 5) = \log 3 + \log 5 = 0.47712 + 0.69897 = 1.17609$$

$$\log(105) = \log(5\cdot 3\cdot 7) = \log 5 + \log 3 + \log 7$$
$$= 0.69897 + 0.47712 + 0.84570$$
$$= 2.02079$$

$$\log(900) = \log(9\cdot 10^2) = \log 9 + \log 10^2$$
$$= 0.95424 + 2$$
$$= 2.95424$$

$$\log(\frac{3}{4}) = \log 3 - \log 4 = 0.47712 - 0.60206$$
$$= -0.12486$$

$$\log(0.007) = \log(7\cdot 10^{-3}) = \log 7 + \log 10^{-3} = \overline{3}.84570$$

پوښتني

1. دلاندې لوګاريتمونو کرکټرستيک په شفاهي ډول وواياست او مانتيس يې د جدول له مخې پيدا کړئ.

$a)\ \log 222$ $\quad$ $b)\ \log 0.921$

$c)\ \log 928$ $\quad$ $d)\ \log 527$

$e)\ \log 0.024$ $\quad$ $f)\ \log 2400$

$h)\ \log 0.00024$ $\quad$ $j)\ \log 24$

2. د لاندې لوګاريتمونو قيمتونه په لاس راوړئ.

$a)\quad \log(2.73)^3$ $\qquad$ $b)\quad \log\sqrt[5]{0.0762}$

(c) ketabton.com: The Digital Library

انتي لوګاريتم

Anti Logarithm

که چيرې د يوه عدد لوګاريتم راکړل شوی وي څرنګه کولای شو، عدد يې پيدا کړو؟

$\log 481 = 2.6821$

$\log N = 1.6580$

$N = ?$

تعريف: که چېرې $\log_a y = x$ وي، نو y د x د لوګاريتم انتي لوګاريتم بلل کېږي يعنې $y = anti\log x$

مثلاً که چېرې $\log 34 = 1.5315$ وي، نود 1.5315 انتي لوګاريتم د 34 له عدد سره مساوي دی.

فعاليت

- که چېرې $\log N = 2.8779$ وي، نو د N عدد و ټاکئ.
- د نومړي عدد کرکټرستيک پيدا کړئ.
- د مانتيس په جدول کې د 0.8779 عدد له کوم سطر او ستون سره مطابقت لري؟

له پورتني فعاليت څخه کولای شو لاندې پايله بيان کړو:

څرنګه چې د 2 عدد کرکټرستيک دی، نو N يو درې رقمي عدد دی، مانتيس يې په جدول کې له 75 سطر او 5 ستون سره مطابقت لري، نود N عدد عبارت دی له: 755

لومړی مثال: $\log N = 2.9939$ دی د N عدد په لاس راوړئ.

حل: د نومړي لوګاريتم د مانتيس برخه يعنې 0.9939 د لوګاريتم په جدول کې پيدا کوو، ګورو چې په کوم سطر او ستون کې ځاي لري. دغه د سطر او ستون عدد داسې ليکو چې د ستون عدد داړوند سطر ښي لورى ته قرار ولري چې عبارت دی له 9.86 څخه يعنې د 986 عدد مانتيس 0.9939 دی. په پورتنی پوښتنه کې د 2 د کرکټرستيک په توګه راکړل شوی، نو د صحيح رقمونو شمېر يې 3 دی، چې مطلوب عدد عبارت دی له 986 يعنې: $N = 986$

$\log 986 = 2.9939$

$anti\log 2.9939 = 986$

N	0	1	2	3	4	5	6	7	8	9
9.5 9.6 9.7 9.8	0.9912	0.9917	0.9921	0.9926	0.9930	0.9934	0.9939 ↑	0.9943	0.9948	0.9952

(c) ketabton.com: The Digital Library

دویم مثال: که چیرې $\log N = 0.9791$ وي N په لاس راوړئ.

حل: دلته هم د 9791 عدد په جدول کې پیدا کوو، د سطر او ستون اړوند عددونه لکه: د تیر په څیر لیکو، څرنګه چې 953 مانتیس ښيي چې د مطلوب عدد 953 رقمونه دي څرنګه چې کرکټرستیک صفر دی، نو مطلوب عدد یعنې N یو صحیح رقم لري چې عبارت دی له:

$$N = 9.53$$

$$\log 9.53 = 0.9791$$

$$anti\log 0.9791 = 9.53$$

دریم مثال: $\log N = -3.0531$ دی، د N عدد پیدا کړئ.

په مثال کې لیدل کیږي چې کرکټرستیک او مانتیس دواړه منفي دي او په جدول کې منفي عدد وجود نه لري، ددې لپاره چې مانتیس مثبت شي، د 1 عدد له مانتیس سره جمع او له کرکټرستیک څخه یې کموو، په مساواتو کې تغیرنه راځي.

اوس کولای شو د مانتیس 0.9469 په مرسته د N عدد له جدول څخه پیدا کړو، چې عبارت دی له 886 .

کرکټرستیک ښيي چې د اعشاري د علامې او له چپې خوا څخه د لومړي 8 عدد تر منځ درې صفرونه ځای لري

$$N = 0.000885 \quad \text{نو} \quad anti\log -3.05531 = 0.000885$$

څلورم مثال: دلاندې عددونو لوګاریتمونه محاسبه کړئ.

$a)\ 2 \qquad b)\ 0.2 \qquad c)\ 0.02 \qquad d)\ 0.0002$

حل:

$$a)\ \log 2 = 0.3010$$

$$b)\ \log 0.2 = 0.3010 - 1 = \overline{1}.3010$$

$$c)\ \log 0.02 = 0.3010 - 2 = \overline{2}.3010$$

$$d)\ \log 0.0002 = 0.3010 - 4 = \overline{4}.3010$$

له پورتني مثال څخه دا پایله په لاس راځي چې دیوه عدد د لوګاریتم مانتیس یوازې د رقمونو په ترتیب پورې اړه لري په پورتني مثال کې ټول عددونه یو شان مانتیس 0.3010 لري، ښي او یا چپ لوري ته د صفرونو زیاتول په مانتیس باندې کومه اغېزه نه لري.

پوښتنې

دلاندې هر یوه انتي لوګاریتم قیمت په لاس راوړئ.

$a)\ anti\log 4.9479 \qquad b)\ anti\log -5.0521$

(c) ketabton.com: The Digital Library

خطي انټرپولېشن

Linear Interpolation

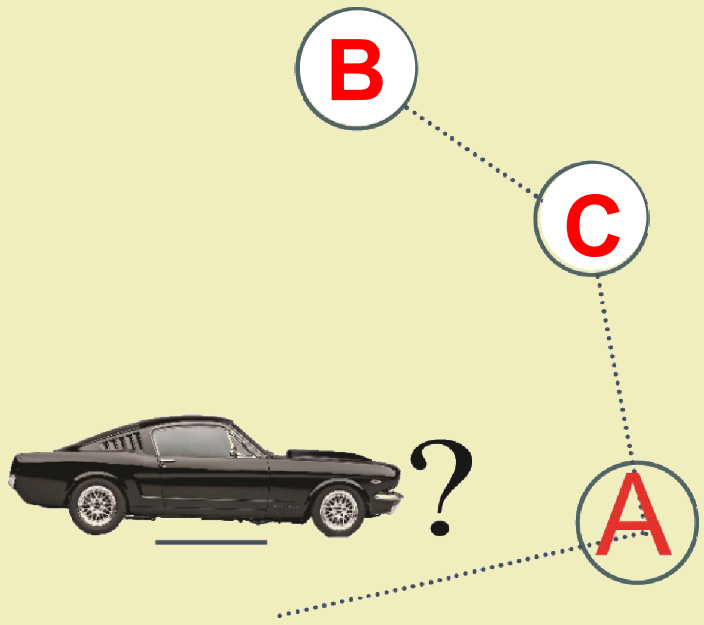

يوګړندی موټر په متوسط سرعت په 30 دقيقوکې د A ښارته او يونيم ساعت وروسته په همدغه سرعت د B ښارته رسېږي، وواياست چې په همدې ثابت سرعت به نوموړی موټر د C ښار ته چې د A او B ښارونو تر منځ پروت دی، په څومره وخت کې ورسېږي.

فعاليت

- که چېرې $\log B=b, \log A=a$ راکړل شوی وي او $\log C=c$ وي، په داسې حال کې چې $A<C<B$ دی.
- $\log C$ د حقيقي عددونو په کومه فاصله کې ځای لري.
- په اټکلي ډول وواياست چې که (a,b) يوبل ته نژدې عددونه وي، نود C لوګاريتم چېرې پروت دی؟
- د a او b تر منځ قيمتونه د حسابي وسط له مخې په لاس راوړئ.

پايله: که چېرې ديوه نامعلوم قيمت د پيداکولو لپاره چې ددوو معلومو عددونو تر منځ پروت وي، د معلوموعددونو په مرسته نامعلوم عدد پيدا کړو، په دې صورت کې نوموړې طريقه د خطي انټرپولېشن په نامه يادېږي.

که يو څلور رقمي عددلکه: 1.234 ولرو، نه شوکولای د هغه لوګاريتم له درې رقمي جدول څخه په لاس راوړو، نو د دې ډول عددونو لوګاريتم د خطي انټرپولېشن په واسطه پيداکولای شو.

لومړی مثال: د $\log 5.235$ قيمت په لاس راوړئ.

حل: ښکاره ده چې دنوموړي عدد لوګاريتم په جدول کې نشته، خو د 5.230 او 5.240 عددونو په منځ کې پراته دي چې لوګاريتمونه يې په جدول کې شته، او په لاندې ډول يې په لاس راوړو.

$$\log 5.230 = 0.7185$$
$$\log 5.240 = 0.7193$$

څرنګه چې $5.23<5.235<5.24$ دی، نو:

$$\log 5.230 < \log 5.235 < \log 5.240$$
$$0.7185 < \log 5.235 < 0.7193$$

که چېرې $\log 5.535 = x$ په پام کې ونيسو ، نو په دې صورت کې ليکو چې: $0.7185 < x < 0.7193$

(c) ketabton.com: The Digital Library

د عددونو د لوګاریتم او مانتیسو نو ترمنځ تو پیر په پام کې نیسو.

	لوګاریتمونه	عددونه	
	0.7193	5.240	
د لوګاریتمونو توپیر 0.0008 (d)	x	5.235 (0.005)	0.010 د عددونو توپیر
	0.7185	5.230	

د خطي انټرپولیشن په طریقه کې له دې څلورو عددونو څخه یو تناسب چې یو له بل سره متناسب دي جوړوو او نامعلوم قیمت پیدا کوو یعنې:

$$\frac{d}{0.0008}=\frac{0.005}{0.010}\Rightarrow d=\frac{0.005\cdot 0.0008}{0.010}\Rightarrow d=\frac{0.000004}{0.010}=0.0004$$

اوس د d قیمت د کوچني عددله مانتیس سره جمع کوو. چې حاصل یې د مطلوب عدد لوګاریتم دی.

$$0.0004+0.7185=0.7189$$

$$\log 5.235=0.7189$$

دویم مثال: د 0.0007957 عدد لوګاریتم پیدا کړئ.

حل: پوهېږو چې:

$$\begin{aligned}\log 0.0007957&=\log(7.957\cdot 10^{-4})\\&=\log 7.957+\log 10^{-4}\\&=\log 7.957-4\log 10\\&=\log 7.957-4\end{aligned}$$

د 7.957 عدد لوګاریتم په جدول کې نشته، لیدل کېږي چې کرکټرستیک یې -4 دی، خو د 7.96 او 7.95 عددونو لوګاریتم په جدول کې شته.

$$\log 7.960=0.9009$$

$$\log 7.950=0.9004$$

څرنګه چې $7.950<7.957<7.960$ نو:

$$\log 7.950<\log 7.957<\log 7.960$$

(c) ketabton.com: The Digital Library

د $\log 7.957 = x$ په پام کې نيولو سره، دخطي انټرپوليشن پواسطه يې لوګاريتم په لاس راوړو.

د عددونو توپير	عددونه	لوګاريتمونه	د لوګاريتمونو توپير
0.01	7.96	0.9009	0.0005
0.007	7.957	x	d
	7.950	0.9004	

$$\frac{d}{0.0005} = \frac{0.007}{0.01} \Rightarrow$$

$$d = 0.0005\frac{0.007}{0.01} = 0.00035 \approx 0.0004$$

اوس د d قيمت د کوچني عدد له مانتيس سره جمع کوو:

$$0.9004 + 0.0004 = 0.9008$$

په پای کې په لاس راځي چې:

$$\log 0.0007957 = 0.9008 + (-4) = \bar{4}.9008$$

دريم مثال: 4.5544 عدد انتي لوګاريتم پيدا کړئ.

حل: که چېرې $x = anti\log 4.5544$ وضع شي، نو بايد x پيداکړو، له پورتنی اړيکې څخه داسې پايله په لاس راځي.

$$\log x = 4.5544 = 4 + 0.5544$$

$$\log x = \log(t \cdot 10^4) = \log t + 4$$

د 4.5544 عدد په جدول کې نشته، خو د 0.5539 او 0.5551 عددونه په جدول کې شته، انتيلوګاريتم يې پيدا کوو، ددغه عددونو په مرسته د x قيمت د انټرپوليشن په طريقه پيدا کوو، د عددونو تفاضل لکه: په تېرو مثالونوکې په لاس راوړو او تناسب يې د تېرپه شان تشکيلوو.

د عددونو توپير	عددونه	مانتيسونه	د مانتيسونو توپير
0.01	3.59	0.5551	0.0012
d	t	0.5544	0.0005
	3.58	0.5539	

$$\frac{d}{0.01} = \frac{0.0005}{0.0012}$$

$$d = 0.01 \cdot \frac{0.0005}{0.0012} = \frac{0.000005}{0.0012} = 0.0041667$$

$$d = 0.0042$$

(c) ketabton.com: The Digital Library

د t د قیمت پیدا کولو لپاره د d قیمت له کوچني عدد سره جمع کوو.

$$t = 3.58 + d = 3.58 + 0.0042$$
$$= 3.5842$$
$$\log x = \log(3.5842 \cdot 10^4)$$
$$\log x = \log 35842$$

هغه وخت چې ددوو عددونو لوګاریتمونه سره مساوي وي، خپله عددونه په خپل منځ کې سره مساوي دي، نو:

$$x = 35842$$

پوښتنې

په لاندې اړیکو کې د x او z قیمتونه پیدا کړئ.

$a)\quad z = \log 0.001582 \qquad\qquad b)\quad x = \log 6.289$

(c) ketabton.com: The Digital Library

لوګاریتمي او اکسپوننشیل معادلې

Exponential and logarithmic equations

آیا تر اوسه مود $5^x = 5^{\frac{1}{2}x-2}$ او $\log_2(x^2-1)=3$ معادلو د

حل په اړه فکر کړی دی؟

د x په کومو قیمتونو پورتني مساوات سم دی؟

څرنګه کولای شو په دغه ډول معادلاتو کې د x مجهول قیمت وټاکو.

$$\log_2(x^2-1)=3$$

$$5^x = 5^{\frac{1}{2}x-2}$$

تعریف

هغه معادلې چې توانونه یې مجهول وي، داکسپوننشیل معادلو په نامه یادېږي، د مجهول د پیداکولو لپاره که چېرې وکړای شو، د دواړو خواوو قاعدې سره مساوي کړو، نو د طاقت د قوانینو له مخې، چې قاعدې مساوي وي، نو توانونه یې هم یو له بل سره مساوي دي.

لومړی مثال: که $2^{x-1}=32$ وي، د x قیمت په لاس راوړئ.

حل: د مساواتو د دواړو خوا وو قاعدې سره مساوي کوو.

$$2^{x-1}=32 \Rightarrow 2^{x-1}=2^5 \Rightarrow x-1=5 \quad , \quad x=6$$

دویم مثال: د $8^{3x-1}=2^4$ اکسپوننشیل معادله حل او وازمويئ.

حل:

$$8^{3x-1}=2^4$$
$$(2^3)^{3x-1}=2^{3(3x-1)}=2^4$$

څرنګه چې قاعدې یو له بل سره مساوی دي، نو توانونه یې هم مساوی دي؛ نو لیکو:

$$3(3x-1)=4$$
$$9x-3=4 \Rightarrow 9x=4+3$$
$$9x=7 \Rightarrow x=\frac{7}{9}$$

(c) ketabton.com: The Digital Library

آزمونه:

$$8^{3\frac{7}{9}-1}=2^4$$

$$8^{\frac{7}{3}-1}=2^4$$

$$8^{\frac{7-3}{3}}=2^4 \Rightarrow 8^{\frac{4}{3}}=2^4 \Rightarrow (2^3)^{\frac{4}{3}}=2^4 \Rightarrow 2^4=2^4$$

فعالیت

- په $16^{x+1}=64^{x-2}$ اکسپوننشیل معادله کې د x قیمت پیدا کړئ.

لوګاریتمي معادلې:

هغه لوګاریتمي افادې چې په هغوی کې متحول او یا مجهول شتون ولري، د لوګاریتمي معادلو په نامه یادیږي. له یوې لوګاریتمي معادلې څخه د مجهول قیمت پیداکولو لپاره لومړی معادله د لوګاریتم د قوانینو له مخې ساده کوو، وروسته یې د الجبري قوانینو او یا له اکسپوننشیل معادلو څخه په ګټې اخیستنې سره د مجهول یا متحول قیمت په لاس راوړو.

لاندې مثالونه د لوګاریتمي معادلو بېلګې دي چې د مختلفو قوانینو له مخې د مجهول قیمت محاسبه شوی دی.

لومړی مثال: له لاندې لوګاریتمي معادلې څخه د x قیمت په لاس راوړئ.

حل:

$$\log_2(x^2-1)=3$$

پورته لوګاریتمي شکل داسې لیکو :

$$x^2-1=2^3$$

$$x^2=1+8=9$$

$$x^2=9 \Rightarrow \sqrt{x^2}=\pm\sqrt{9} \quad , \qquad x=\pm 3$$

(c) ketabton.com: The Digital Library

دويم مثال:په $\log_3(x+2)=2\log_3 9$ معادله کې د x قيمت پيدا کړئ.

حل:

$$\log_3(x+2)=2\log_3 9$$
$$\log_3(x+2)=\log_3 9^2$$

څرنگه چې د لوگاريتمونو قاعدې سره مساوي دي، نوعددونه هم يوله بل سره مساوي دي.

$$x+2=9^2 \Rightarrow x+2=81 \Rightarrow x=81-2$$
$$x=79$$

دريم مثال: په $\log_{\sqrt{5}} x-\log_{\sqrt{5}} 3-\log_{\sqrt{5}} 5+\log_{\sqrt{5}} 4=0$ لوگاريتمي معادله کې د x قيمت په لاس راوړئ.

حل: د دوو عددونو د لوگاريتم د ضرب او وېش په کارولو سره پورتنۍ معادله په لاندې ډول لیکو :

$$\log_{\sqrt{5}} x=\log_{\sqrt{5}} 3+\log_{\sqrt{5}} 5-\log_{\sqrt{5}} 4=\log_{\sqrt{5}}\frac{3\cdot 5}{4}=\log_{\sqrt{5}}\frac{15}{4} \quad \Rightarrow \quad x=\frac{15}{4}$$

څلورم مثال: په $\log_3(3^{2x}+2)=x+1$ معادله کې د x قيمت محاسبه کړئ.

حل:

$$\log_3(3^{2x}+2)=x+1 \Rightarrow 3^{2x}+2=3^{x+1}$$
$$3^{2x}-3^{x+1}+2=0 \Rightarrow 3^{2x}-3\cdot 3^x+2=0$$
$$(3^x)^2-3\cdot 3^x+2=0$$

که $3^x=t$ وضع کړو،نو:

$$t^2-3t+2=0 \Rightarrow (t-1)(t-2)=0$$
$$t_1=1 \quad , \quad t_2=2$$

$$3^x=t_1=1 \Rightarrow 3^x=3^0 \Rightarrow x_1=0$$
$$3^x=t_2=2 \Rightarrow \log_3 2=x \Rightarrow x_2=\log_3 2$$

پنځم مثال:په لاندې لوگاريتمي معادله کې د x قيمت محاسبه کړئ.

$$\log(x^2+36)-2\log(-x)=1$$

(c) ketabton.com: The Digital Library

حل:

$$\log(x^2+36)-\log(-x)^2=1$$

$$\log\frac{x^2+36}{x^2}=\log 10 \Rightarrow \frac{x^2+36}{x^2}=10$$

$$x^2+36=10x^2 \Rightarrow 10x^2-x^2-36=0$$

$$9x^2=36 \Rightarrow x^2=4$$

$$x_{1,2}=\pm 2 \quad , \quad x_1=2 \quad , \quad x_2=-2$$

پوښتني

په لاندې لوګاریتمي او اکسپوننشیل معادلوکې د x قیمت په لاس راوړئ.

$a)\quad (11)^{3x-1}=11$

$b)\quad 7^{2x-1}=3^{x+3}$

$c)\quad \log\sqrt{x}+3=4$

$d)\quad \log_5\frac{x-1}{x-2}=2$

(c) ketabton.com: The Digital Library

درياضيکی عمليوپه سرته رسولوکې له لوگاريتم څخه کار اخېستنه

آيا کولای شو د اعشاری عددونو عمليې لکه ضرب، تقسيم، توان او جذر د لوگاريتم په کارولو سره په اسانه سرته ورسوو.

$$\left.\begin{matrix}\dfrac{28.8}{78.8}\\ 3.17\cdot 88.2\end{matrix}\right\}=?$$

د ضرب حاصل پيدا کول د لوگاريتم په مرسته: کولای شو ددوو يا څو عددونو د ضرب حاصل، د لوگاريتم د لاندې قانون له مخې پيدا کړو: $\log(M\cdot N)=\log M+\log N$

مثال: غواړو چې د $3.17\cdot 88.2$ عددونو د ضرب حاصل د لوگاريتم په مرسته پيدا کړو.

حل: د ضرب د قانون په اساس ليکلای شو:

$$\log(3.17\cdot 88.2)=\log 3.17+\log 88.2$$
$$=0.5011+1.9455=2.4466$$

ليدل کېږي چې د 0.4466 مانتيس عدد په جدول کې نشته، خود 0.4456 او 0.4472 مانتيسونو په منځ کې شته.

له جدول څخه ليدل کېږي چې:

$$anti\log 0.4456=2.79$$
$$anti\log 0.4472=2.80$$

	عددونه	مانتيسونه		
د عددونو توپير 0.01	2.79	0.4456		د مانتيسونو توپير 0.0016
d	t	0.4466	0.0006	
	2.80	0.4472		

$$\frac{d}{0.01}=\frac{0.0006}{0.0016}\Rightarrow d=\frac{0.0006\cdot 0.01}{0.0016}=\frac{0.00006}{0.0016}$$
$$d=0.00375$$

(c) ketabton.com: The Digital Library

د d قیمت له کوچني عدد سره جمع کوو:

$$t = 2.79 + 0.00375 = 2.79375$$

$$\log x = \log(2.79375 \cdot 10^2) \Rightarrow x = 297.375$$

په داسې حال کې چې $anti\log 2.4466 = 297.375$ دی، نو: $3.17 \cdot 88.2 = 297.375$

آیا پوهېږی؟

دوو یا څو عددونو د ضرب لپاره لومړی د لوګاریتم د جمعې حاصل پیدا کوو ، وروسته یې انتي لوګاریتم په لاس راوړو چې دغه انتي لوګاریتم د نوموړو عددونو د ضرب حاصل تشکیلوي.

فعالیت

- د $74.2 \cdot 62$ د ضرب حاصل د لوګاریتم په واسطه پیدا کړئ.

د خارج قسمت پیدا کول د لوګاریتم په مرسته:

کولای شو د لوګاریتم له څلورم قانون څخه په کار اخیستنې سره ، د دوو اعشاري عددونو دتقسیم حاصل په لاس راوړو یعنې: $\log \frac{M}{N} = \log M - \log N$

مثال: غواړو د $\frac{8750}{3.49}$ خارج قسمت د لوګاریتم پواسطه پیداکړو.

حل:

$$\log \frac{8750}{3.49} = \log 8750 - \log 3.49$$

د لوګاریتم له جدول څخه لروچې:

$$\log 8750 = 3.9420$$

$$\log 3.49 = 0.5428$$

$$\log 8750 - \log 3.49 = 3.9420 - 0.5428 = 3.3992$$

$$anti\log 3.3992 = 2507$$

$$\frac{8750}{3.49} = 2507$$

(c) ketabton.com: The Digital Library

یادونه: ددوو عددونو د خارج قسمت د حاصل پیداکولو لپاره لومړی دمقسوم لـه لوگاریتم څخه د مقسوم علیه لوگاریتم کموو، وروسته ددغه تفاوت انتي لوگاریتم پـه لاس راوړو چی داد مطلوب خارج قسمت حاصل دی.

فعالیت

- د $\frac{374}{16.2}$ حاصل د لوگاریتم په مرسته په لاس راوړئ.

د لوگاریتم په واسطه د توان لرونکي عدد محاسبه:

د هغو توان لرونکوعددونومحاسبه چې توانونه يې تام اویاکسرونه وي، د لوگاریتم له پـنځم قـانون څخه کـار اخلو یعني $\log M^n = n\log M$

مثال: غواړو چې د $(1.05)^6$ عدد محاسبه کړو.

حل:

$$\log(1.05)^6 = 6\log 1.05 = 6(0.0212)$$
$$= 0.1272$$

بناپردی $anti\log 0.1272 = 1.340$

په لنډ ډول ویلای شوچې: دیوه توان لرونکي عدد قیمت پیداکولو لپاره لـومړی د عـدد تـوان پـه لوگـاریتم کې ضربوو، ددغه حاصل ضرب انتي لوگاریتم د توان لرونکي عدد قیمت دی.

فعالیت

- د $(694)^{\frac{2}{3}}$ عدد قیمت د لوگاریتم په واسطه پیداکړئ.

(c) ketabton.com: The Digital Library

پوښتنې

1. د لاندې حاصل ضرب د لوګاریتم په واسطه محاسبه کړئ.

$$0.097 \cdot 7.78 = ?$$

2. لاندې د تقسیم حاصل د لوګاریتم په واسطه حساب کړئ.

$a)\quad \dfrac{8}{737} = ?\qquad\qquad b)\quad \dfrac{32.2}{25.1} = ?$

3. لاندې توان لرونکي عدد دلوګاریتم په واسطه محاسبه کړئ.

$$(964)^{\frac{2}{3}} = ?$$

(c) ketabton.com: The Digital Library

د څپرکي مهم ټکي

اکسپوننشیل تابع: که a یو مثبت عدد او $a \neq 1$ وي، نو د $f(x)=a^x$ تابع اکسپوننشیل تابع د a په قاعده نومیږي.

د اکسپوننشیل تابع خاصیتونه:

- د اکسپوننشیل تابع د تعریف ناحیه حقیقي عددونه او دقیمتونو ناحیه یې مثبت حقیقي عددونه دي.
- د هر $x_1 \neq x_2$ لپاره $f(x_1) \neq f(x_2)$ دی.
- د اکسپوننشیل تابع گراف چې $a \neq 1$ وي، منحني یې د $(0،1)$ له ټکي څخه تېرېږي.
- د اکسپوننشیل تابع گراف نظر y محور ته متناظر واقع دی.
- هره اکسپوننشیل تابع معکوس لري چې معکوس تابع یې $Log_a x$ دی.

لوګاریتمي تابع: $y=\log_a x$ چې د $y=a^x$ اکسپوننشیل تابع معکوس دی، د لوگاریتمي تابع په نامه یادیږي.

دلوګاریتمي تابع خواص

- دلوگاریتمي تابع د قیمتونو ساحه مثبت حقیقي عددونه تشکیلوي.
- د لوگاریتمي تابع گراف په قایمو مختصاتو کې د $(1،0)$ له ټکي څخه تېرېږي.
- د هر $x_1 \neq x_2$ لپاره تابع $f(x_1) \neq f(x_2)$ دی.
- د قایمو مختصاتو په سیستم کې د هرې لوگاریتمي تابع $f(x)=\log_a x$ مجانب، د y محور دی.

د لوګاریتم قوانین:

- لومړی قانون $\log_a a = 1$
- دویم قانون $\log_a 1 = 0$
- دریم قانون $\log_a (x.y) = \log_a x + \log_a y$
- څلورم قانون $\log_a \frac{x}{y} = \log_a x - \log_a y$
- پنځم قانون $\log_a x^n = n\log_a x$
- شپږم قانون $\log_a M = \frac{1}{\log_M a}$
- اووم قانون $\frac{\log_a M}{\log_a b} = \log_b M$
- اتم قانون $\log_{a^n} x = \frac{1}{n}\log_a x$

(c) ketabton.com: The Digital Library

د لوګاریتم ډولونه:

معمولي لوګاریتم هغه لوګاریتم چې قاعده یې 10 وي، معمولي لوګاریتم یا اعشاري (Brigys) لوګاریتم بلل کېږي چې د (log) په سمبول سره ښودل کېږي.

طبیعي لوګاریتم هغه لوګاریتم چې قاعده یې e وي، د طبیعي لوګاریتم په نامه یادېږي، چې طبیعي لوګاریتم د ln په سمبول ښودل کېږي یعنې $\log_e x = \ln x$

کرکټرستیک او مانتیس

کرکټرستیک که چېرې $\log x = n + \log S$ وي داسې چې $1 \leq S < 10$ او n یو تام عدد دی n د مشخصې یا کرکټرستیک په نامه یادېږي چې د عدد د رقمونو له مخې ټاکل کېږي.

مانتیس: د $(\log S)$ اعشاري برخه د مانتیس په نامه یادېږي چې د جدول له مخې ټاکل کېږي، مانتیس یو مثبت عدد د صفر او یوه ترمنځ دی.

انتي لوګاریتم (antilogarithm): که $\log_a y = x$ وي، نو y د x د لوګاریتم انتي لوګاریتم دی یعنې $y = anti\log x$

خطي انټرپولیشن: که یو نامعلوم عدد ددوو معلومو عددونو په منځ کې واقع وي او د معلومو عددونو په مرسته نامعلوم عدد پیدا کړو، پدې صورت کې دا طریقه د خطي انټرپولیشن په نامه یادېږي.

اکسپوننشیل او لوګاریتمي معادلې

- **اکسپوننشیل معادلې** هغه معادلې چې په هغې کې د حدونو، توانونه مجهول وي، د اکسپوننشیل معادلی په نامه یادېږي، د مجهول د پیداکولو لپاره د طاقت له قوانینو څخه ګټه اخلو.
- **لوګاریتمي معادلې** هغه لوګاریتمي مساوات چې په هغوی کې مجهول موجودوي، د لوګاریتمي معادلو په نامه یادېږي.

(c) ketabton.com: The Digital Library

د څپرکي پوښتني

لاندې پوښتنې په غور ولولئ، د هرې پوښتنې لپاره څلور ځوابونه ورکړل شوي، سم ځواب یې پیدا اوله هغه څخه کړی تاو کړئ.

1. $\log_{\sqrt{2}}(\frac{1}{4})$ مساوي له څو سره دی؟

$a)\ 4$ $b)\ -4$ $c)\ 3$ $d)\ -3$

2. د $\log_b \sqrt[4]{81} = \frac{1}{4}$ اړیکه کې د b قیمت عبارت دی له:

$a)\ \frac{1}{4}$ $b)\ 81$ $c)\ \sqrt{81}$ $d)\ -4$

3. د $\log_3 81 - \log 0.01$ افادې قیمت په لاس راوړئ.

$a)\ 0$ $b)\ 4$ $c)\ 8$ $d)\ 9$

4. د x قیمت په $\log 81 - \log 2x = \log 3$ افاده کې مساوي له څو سره دی.

$a)\ 2$ $b)\ 3$ $c)\ 4$ $d)\ 5$

5. $\log_2 16 = ?$

$a)\ 4$ $b)\ 3$ $c)\ 5$ $d)\ -4$

6. $\log_{\frac{1}{5}} 125$

$a)\ 3$ $b)\ -3$ $c)\ 4$ $d)\ 5$

7. د $\log_{\frac{1}{2}} \frac{1}{2}$ قیمت عبارت دی له :

$a)\ \frac{1}{2}$ $b)\ -\frac{1}{2}$ $c)\ 1$ $d)\ -1$

8. د x قیمت د $3^{x-1} = 9$ په معادله کې عبارت دی له :

$a)\ x=-3$ $b)\ x=9$ $c)\ x=-9$ $d)\ x=3$

9. د $\log 234.21$ مشخصه یاکرکترستیک عبارت دی له:

$a)\ 0$ $b)\ 1$ $c)\ 2$ $d)\ 3$

10. د یوه عدد دلوګاریتم معکوس عبارت دی له:

$a)\ \log_a m = \frac{1}{\log_a m}$ $b)\ \log_a m = -\frac{1}{\log_a m}$ $c)\ \log_a m = \frac{1}{\log_m a}$ $d)$ هیڅ یو

(c) ketabton.com: The Digital Library

1. په لاندې معادلوکې د x قیمت پیدا کړئ

$a)\ 3^{x}=3^{3x+2}$ $\quad b)\ 3^{2x}=9^{4x-1}$

$c)\log_3(x+2)=2\log_3 9$ $\quad d)\ 16^{x+1}=64^{x-2}b$

$e)15^{2x-1}=7^{x+1}$ $\quad f)\ \log\sqrt{x+1}=1-\frac{1}{2}\log x$

$g)\log(4x-3)=2-\log 20$ $\quad h)\ \log_5(x-1)-\log_5(x-2)=\log_5 2$

2- لاندې لوګاریتمي افادې د لوګاریتم د قوانینو په کارولو سره ساده کړئ.

$a)\log_8 3\sqrt{4}=?$ $\quad b)\log_3\frac{1}{243}=?$

$c)\log_{10}\sqrt[4]{100}=?$ $\quad d)\log(\frac{8}{\sqrt{128}})=?$ $\quad e)\ \log_{10}\frac{\sqrt[3]{10}}{0.1}=?$

3. لاندې لوګاریتمونه محاسبه کړئ.

$a)\quad \log_8\sqrt[3]{4}=?$ $\quad b)\quad \log_3\frac{1}{243}=?$

$c)\quad \log_{10}\sqrt[4]{100}=?$ $\quad d)\quad \log_{10}\frac{\sqrt[3]{10}}{0.1}=?$ $\quad e)\quad \log\frac{8}{\sqrt{128}}=?$

4. لاندې انتي لوګاریتمونه پیدا کړئ.

$a)\ 1.7300$ $\quad b)0.8954$ $\quad c)4.5682$ $\quad d)\overline{2}.1987$

5. دلاندې هر عدد لوګاریتم حساب کړئ.

$a)89500$ $\quad b)\ 91$ $\quad c)3065.3$ $\quad d)\log 0.002$

6. د لوګاریتم په مرسته لاندې حاصل ضرب پیدا کړئ.

$a)\quad 2.01\cdot 52.9$ $\quad b)\quad (0.0062)(-34.8)$

7. د لاندې تقسیم حاصل د لوګاریتم په مرسته پیدا کړئ.

$a)\ 0.888\div 256$ $\quad b)\ 17.3\div 7.47$

8. د لاندې توان لرونکو عددونو قیمتونه د لوګاریتم په مرسته پیدا کړئ.

$a)(7.42)^3$ $\quad b)(-84.7)^2$ $\quad c)\sqrt{418}$ $\quad d)\sqrt{0.21}$

(c) ketabton.com: The Digital Library

د لوګاریتم جدول چې مانتیس یې څلور اعشاري رقمونه لري

No.	0	1	2	3	4	5	6	7	8	9
1.0	0000	0043	0086	0128	0170	0212	0253	0294	0334	0374
1.1	0414	0453	0492	0531	0569	0607	0645	0682	0719	0755
1.2	0792	0828	0864	0899	0934	0969	1004	1038	1072	1106
1.3	1139	1173	1206	1239	1271	1303	1335	1367	1399	1430
1.4	1461	1492	1523	1553	1584	1614	1644	1673	1703	1732
1.5	1761	1790	1818	1847	1875	1903	1931	1959	1987	2014
1.6	2041	2068	2095	2122	2148	2175	2201	2227	2253	2279
1.7	2304	2330	2355	2380	2405	2430	2455	2480	2504	2529
1.8	2553	2577	2601	2625	2648	2672	2695	2718	2742	2765
1.9	2788	2810	2833	2856	2878	2900	2923	2945	2967	2989
2.0	3010	3032	3054	3075	3096	3118	3139	3160	3181	3201
2.1	3222	3243	3263	3284	3304	3324	3345	3365	3385	3404
2.2	3424	3444	3464	3483	3502	3522	3541	3560	3579	3598
2.3	3617	3636	3655	3674	3692	3711	3729	3747	3766	3784
2.4	3802	3820	3838	3856	3874	3892	3909	3927	3945	3962
2.5	3979	3997	4014	4031	4048	4065	4082	4099	4116	4133
2.6	4150	4166	4183	4200	4216	4232	4249	4265	4281	4298
2.7	4314	4330	4346	4362	4378	4393	4409	4425	4440	4456
2.8	4472	4487	4502	4518	4533	4548	4564	4579	4594	4609
2.9	4624	4639	4654	4669	4683	4698	4713	4728	4742	4757
3.0	4771	4786	4800	4814	4829	4843	4857	4871	4886	4900
3.1	4914	4928	4942	4955	4969	4983	4997	5011	5024	5038
3.2	5051	5065	5079	5092	5105	5119	5132	5145	5159	5172
3.3	5185	5198	5211	5224	5237	5250	5263	5276	5289	5302
3.4	5315	5328	5340	5353	5366	5378	5391	5403	5416	5428
3.5	5441	5453	5465	5478	5490	5502	5514	5527	5539	5551
3.6	5563	5575	5587	5599	5611	5623	5635	5647	5658	5670
3.7	5682	5694	5705	5717	5729	5740	5752	5763	5775	5786
3.8	5798	5809	5821	5832	5843	5855	5866	5877	5888	5899
3.9	5911	5922	5933	5944	5955	5966	5977	5988	5999	6010
4.0	6021	6031	6042	6053	6064	6075	6085	6096	6107	6117
4.1	6128	6138	6149	6160	6170	6180	6191	6201	6212	6222
4.2	6232	6243	6253	6263	6274	6284	6294	6304	6314	6325
4.3	6335	6345	6355	6365	6375	6385	6395	6405	6415	6425
4.4	6435	6444	6454	6464	6474	6484	6493	6503	6513	6522
4.5	6532	6542	6551	6561	6571	6580	6590	6599	6609	6618
4.6	6628	6637	6646	6656	6665	6675	6684	6693	6702	6712
4.7	6721	6730	6739	6749	6758	6767	6776	6785	6794	6803
4.8	6812	6821	6830	6839	6848	6857	6866	6875	6884	6893
4.9	6902	6911	6920	6928	6937	6946	6955	6964	6972	6981
5.0	6990	6998	7007	7016	7024	7033	7042	7050	7059	7067
5.1	7076	7084	7093	7101	7110	7118	7126	7135	7143	7152
5.2	7160	7168	7177	7185	7193	7202	7210	7218	7226	7235
5.3	7243	7251	7259	7267	7275	7284	7292	7300	7308	7316
5.4	7324	7332	7340	7348	7356	7364	7372	7380	7388	7396

(c) ketabton.com: The Digital Library

No.	0	1	2	3	4	5	6	7	8	9
5.5	7404	7412	7419	7427	7435	7443	7451	7459	7466	7474
5.6	7482	7490	7497	7505	7513	7520	7528	7536	7543	7551
5.7	7559	7566	7574	7582	7589	7597	7604	7612	7619	7627
5.8	7634	7642	7649	7657	7664	7672	7679	7686	7694	7701
5.9	7709	7716	7723	7731	7738	7745	7752	7760	7767	7774
6.0	7782	7789	7796	7803	7810	7818	7825	7832	7839	7846
6.1	7853	7860	7868	7875	7882	7889	7896	7903	7910	7917
6.2	7924	7931	7938	7945	7952	7959	7966	7973	7980	7987
6.3	7993	8000	8007	8014	8021	8028	8035	8041	8048	8055
6.4	8062	8069	8075	8082	8089	8096	8102	8109	8116	8122
6.5	8129	8136	8142	8149	8156	8162	8169	8176	8182	8189
6.6	8195	8202	8209	8215	8222	8228	8235	8241	8248	8254
6.7	8261	8267	8274	8280	8287	8293	8299	8306	8312	8319
6.8	8325	8331	8338	8344	8351	8357	8363	8370	8376	8382
6.9	8388	8395	8401	8407	8414	8420	8426	8432	8439	8445
7.0	8451	8457	8463	8470	8476	8482	8488	8494	8500	8506
7.1	8513	8519	8525	8531	8537	8543	8549	8555	8561	8567
7.2	8573	8579	8585	8591	8597	8603	8609	8615	8621	8627
7.3	8633	8639	8645	8651	8657	8663	8669	8675	8681	8686
7.4	8692	8698	8704	8710	8716	8722	8727	8733	8739	8745
7.5	8751	8756	8762	8768	8774	8779	8785	8791	8797	8802
7.6	8808	8814	8820	8825	8831	8837	8842	8848	8854	8859
7.7	8865	8871	8876	8882	8887	8893	8899	8904	8910	8915
7.8	8921	8927	8932	8938	8943	8949	8954	8960	8965	8971
7.9	8976	8982	8987	8993	8998	9004	9009	9015	9020	9025
8.0	9031	9036	9042	9047	9053	9058	9063	9069	9074	9079
8.1	9085	9090	9096	9101	9106	9112	9117	9122	9128	9133
8.2	9138	9143	9149	9154	9159	9165	9170	9175	9180	9186
8.3	9191	9196	9201	9206	9212	9217	9222	9227	9232	9238
8.4	9243	9248	9253	9258	9263	9269	9274	9279	9284	9289
8.5	9294	9299	9304	9309	9315	9320	9325	9330	9335	9340
8.6	9345	9350	9355	9360	9365	9370	9375	9380	9385	9390
8.7	9395	9400	9405	9410	9415	9420	9425	9430	9435	9440
8.8	9445	9450	9455	9460	9465	9469	9474	9479	9484	9489
8.9	9494	9499	9504	9509	9513	9518	9523	9528	9533	9538
9.0	9542	9547	9552	9557	9562	9566	9571	9576	9581	9586
9.1	9590	9595	9600	9605	9609	9614	9619	9624	9628	9633
9.2	9638	9643	9647	9652	9657	9661	9666	9671	9675	9680
9.3	9685	9689	9694	9699	9703	9708	9713	9717	9722	9727
9.4	9731	9736	9741	9745	9750	9754	9759	9763	9768	9773
9.5	9777	9782	9786	9791	9795	9800	9805	9809	9814	9818
9.6	9823	9827	9832	9836	9841	9845	9850	9854	9859	9863
9.7	9868	9872	9877	9881	9886	9890	9894	9899	9903	9908
9.8	9912	9917	9921	9926	9930	9934	9939	9943	9948	9952
9.9	9956	9961	9965	9969	9974	9978	9983	9987	9991	9996

(c) ketabton.com: The Digital Library

شپږم څپرکی

متریکسونه

(c) ketabton.com: The Digital Library



(c) ketabton.com: The Digital Library

متریکسونه

Matrixes

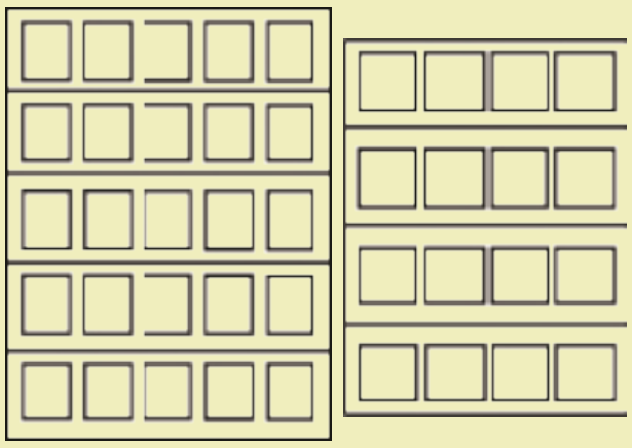

د څو پوړیزې ودانۍ تصویر په پام کې نیسو، هره ودانۍ څو پوړه لري، په مخامخ شکل کې وینو چې د لویې ودانۍ د کړکیو شمېر $5 \cdot 5 = 25$ دی، د کوچنۍ ودانۍ د هر پوړ کړکۍ وشمېرئ.

فعالیت

- د قایمو مختصاتو په سیستم کې د $M(x, y)$ ټکی وټاکئ.
- د M ټکی متناظر یعنې $M'(x', y')$ نظر x محور ته وټاکئ.
- د M او M' مختصاتو تر منځ اړیکې ولیکئ.
- پورتنۍ اړیکې د ضریبونو په څېر ولیکئ.
- د پورتني فعالیت ټول مراحل، د p او د هغه متناظر p'، نظر y محورته S او د هغه متناظر S' نظر د وضعیه کمیاتو مبدأ سرته ورسوئ.

د پورتني فعالیت له اجراء څخه وروسته لاندې پایله لیکلای شو:

$$\begin{cases} x = x' \\ -y = y' \end{cases} \Rightarrow \begin{cases} 1x + 0y = x' \\ 0x - 1y = y' \end{cases}$$

$$\begin{pmatrix} 1 & 0 \\ 0 & -1 \end{pmatrix} \overset{M}{\begin{pmatrix} x \\ y \end{pmatrix}} = \overset{M'}{\begin{pmatrix} x' \\ y' \end{pmatrix}}$$

په دې معنا چې د M ټکی د $\begin{pmatrix} 1 & 0 \\ 0 & -1 \end{pmatrix}$ په واسطه د M' په ټکي بدل او یا اوښتی دی.

پوهېږئ چې هر یو $\begin{pmatrix} x \\ y \end{pmatrix}$ او $\begin{pmatrix} x' \\ y' \end{pmatrix}$ د وضعیه کمیاتو په مستوي کې د یوه ټکي ستوني ښوونه ده.

او دغه جدول $\begin{pmatrix} 1 & 0 \\ 0 & -1 \end{pmatrix}$ یوه نوې وسیله ده چې د لومړي ځل لپاره تاسو له هغې سره مخامخ کېږئ.

(c) ketabton.com: The Digital Library

په همدې ډول: $\begin{pmatrix}1 & 0\\ 0 & -1\end{pmatrix}$, $\begin{pmatrix}-1 & 0\\ 0 & -1\end{pmatrix}$ او $\begin{pmatrix}-1 & 0\\ 0 & 1\end{pmatrix}$ هر يو د p', p او s', s دټکوبدل شوي وسيله ده.

لاندې هرې يوې وسيلې ته (چې دټکود بدلولو د بدليدو دنده په غاړه لري) مټريکس وايي.

$$\begin{pmatrix}-1 & 0\\ 0 & -1\end{pmatrix} \quad , \quad \begin{pmatrix}-1 & 0\\ 0 & 1\end{pmatrix} \quad , \quad \begin{pmatrix}1 & 0\\ 0 & -1\end{pmatrix}$$

تعريف: د شيانو، عددونو يا تورو ګېډۍ چې په سطري او ستوني ډول، په يوه مستطيلي جدول کې ترتيب شي، د مټريکس (Matrix) په نامه يادېږي.

د مستطيلي جدول هر عنصر د مټريکس د عنصر په نامه يادېږي. لوی حروفونه د $A, B, C\ldots$ مټريکس ښيي او واړه حروفونه $a, b, c\ldots$ د مټريکس عناصر دي.

د عددونو هر يولاندې جدول يو مټريکس په ګوته کوي.

$$A=\begin{pmatrix}2 & -1 & 4\\ -3 & 7 & 5\\ -4 & 2 & 1\end{pmatrix}$$

لومړی سطر، دويم سطر، دريم سطر

لومړی ستون، دويم ستون، دريم ستون

$$B=\begin{pmatrix}1\\ 2\\ 3\end{pmatrix}$$

لومړی سطر، دويم سطر، دريم سطر

$$C=\begin{pmatrix}0 & \frac{4}{3} & 7 & -2\end{pmatrix}$$

کرښه

که چېرې a د يوه مټريکس په $i-$ام کرښه او $j-$ام ستون کې ځای ولري، هغه د a_{ij} په شکل ښودل کېږي چې i او j طبيعي عددونه دي، په ترتيب سره د سطر او ستون له شمېر څخه ښکارندويي کوي.

$$i=1,2,3\ldots \quad , \quad j=1,2,3\ldots$$

$$A=\begin{pmatrix}a_{11} & a_{12} & a_{13}\ldots a_{1n}\\ a_{21} & a_{22} & a_{23}\ldots a_{2n}\\ a_{m1} & a_{m2} & a_{m3}\ldots a_{mn}\end{pmatrix}$$

(c) ketabton.com: The Digital Library

د مېټريکس مرتبه: که د A د مېټريکس د سطرونو شمېر m او د ستونونو شمېر يې n وي، وايو چې د A مېټريکس مرتبه د $m\times n$ څخه عبارت دی اوداسې ويل کېږي چې m په n کې مېټريکس او ليکو $A=(a_{ij})_{m\times n}$ د هر مېټريکس د سطرونو او ستونونو شمېر د همغه مېټريکس مرتبه ښيي.

فعاليت

- د لاندې مېټريکسونو مرتبه وټاکئ.

$$A=\begin{pmatrix}2&3\\-1&5\\1&2\end{pmatrix}\qquad B=\begin{pmatrix}1\\3\\5\end{pmatrix}\qquad C=\begin{pmatrix}2&3&4\\1&5&6\end{pmatrix}\qquad D=\begin{pmatrix}a&b\\c&d\end{pmatrix}$$

پاملرنه وکړئ، هغه مېټريکس چې يو سطر او يو ستون لري يعنې $A=(X)_{1\times1}$ ، نو د A مېټريکس د هغه له داخلي عدد سره مساوي دی. $A=(7)_{1\times1}=7$

مثال: لاندې مېټريکسونه د مستطيلي جدول په ډول وليکئ.

$a)\quad (a_{ij})_{2\times2}=(i+j)_{2\times2}\qquad\qquad b)\quad (a_{ij})_{3\times2}=(i\cdot j)_{3\times2}$

حل: د پورتني هر مثال د حل لپاره لومړی د مېټريکس عمومي شکل ليکو، د a جزء د مېټريکس عمومي شکل 2×2 کې يو مېټريکس دی.

$$\begin{pmatrix}a_{11}&a_{12}\\a_{21}&a_{22}\end{pmatrix}$$

$a_{ij}=i+j$

$a_{11}=1+1=2\ ,\ a_{12}=1+2=3\ ,\ a_{21}=2+1=3\ ,\ a_{22}=2+2=4$

په پايله کې غوښتل شوی مېټريکس عبارت دی له: $\begin{pmatrix}2&3\\3&4\end{pmatrix}$

د b جزء): د b جزء د مېټريکس عمومي شکل يو (3×2) کې مېټريکس دی، يعنې 3 سطره او 2 ستونه لري.

$$\begin{pmatrix}a_{11}&a_{12}\\a_{21}&a_{22}\\a_{31}&a_{32}\end{pmatrix}$$

$a_{11}=1\cdot1=1\ ,\ a_{21}=2\cdot1=2\ ,\ a_{31}=3\cdot1=3$

$a_{12}=1\cdot2=2\ ,\ a_{22}=2\cdot2=4\ ,\ a_{32}=3\cdot2=6$

(c) ketabton.com: The Digital Library

په پایله کې غوښتل شوی مېټریکس عبارت دی له: $\begin{pmatrix} a_{11} & a_{12} \\ a_{21} & a_{22} \\ a_{31} & a_{32} \end{pmatrix} = \begin{pmatrix} 1 & 2 \\ 2 & 4 \\ 3 & 6 \end{pmatrix}$

دوهمه مرتبه مېټریکسونه هغه وخت سره مساوي دي چې د هغوی هر عنصر یو په یو سره مساوي وي، مثلاً: $\begin{pmatrix} a & 2 \\ b & 3 \end{pmatrix} = \begin{pmatrix} -1 & 2 \\ 2 & 3 \end{pmatrix}$ هغه وخت یوله بل سره مساوي دي چې $a=-1$ او $b=2$ وي، آیا $\begin{pmatrix} 1 & 2 \end{pmatrix}$ او $\begin{pmatrix} 1 \\ 2 \end{pmatrix}$ مېټریکسونه یوله بل سره مساوي دي اوکه نه؟ ولې؟

پوښتني

1. د لاندې مېټریکسونو مرتبې ولیکئ.

$$A = \begin{pmatrix} 1 & 2 & 4 \\ 2 & 5 & 6 \\ 3 & 6 & 0 \end{pmatrix} \qquad B = \begin{pmatrix} 1 & 3 & 2 \\ -1 & 0 & 4 \end{pmatrix}$$

2. لاندې مېټریکسونه د مستطیلي جدول په شکل ولیکئ.

a) $(a_{ij})_{3\times3} = (2i+3j)_{3\times3}$ b) $(a_{ij})_{2\times3} = (\frac{i}{j})_{2\times3}$

(c) ketabton.com: The Digital Library

د مېټریکسونو ډولونه

د مېټریکســـونومخامخ شـــکلونه څــــو ســــطرونه اوڅوستونونه لري؟

آیاصفرونه دمېټریکس عناصر کیدای شي؟

$$\begin{pmatrix} 2 \\ 3 \\ 6 \end{pmatrix}$$

$$(4 \quad 5 \quad 6)$$

$$\begin{pmatrix} 0 & 0 \\ 0 & 0 \\ 0 & 0 \end{pmatrix}$$

1. **سـطري متـریکس**(Row Matrix)**:** هغه متـریکس چـې یـوازې او یـوازې یـو سـطر ولـري، سـطري متریکس یې بولي، مثلاً: $A=(4 \quad 5 \quad 9 \quad 0)_{1\times4}$

2. **ستوني متریکس** (Column Matrix)**:** هغه متریکس دی چې یوازې یو ستون ولري، د ستوني متریکس په نامه یادېږي، مثلاً: $A=\begin{pmatrix} 5 \\ 3 \\ -2 \end{pmatrix}_{3\times1}$

3. **صفري متریکس**(Null matrix): هغه متریکس چې ټول عناصرېې صفرونه وي، له صفري متریکس څخه عبارت دی او د $0_{m\times n}$ په شکل یې ښیي.

$$0_{2\times4}=\begin{pmatrix} 0 & 0 & 0 & 0 \\ 0 & 0 & 0 & 0 \end{pmatrix}_{2\times4} \qquad 0_{3\times2}=\begin{pmatrix} 0 & 0 \\ 0 & 0 \\ 0 & 0 \end{pmatrix}_{3\times2}$$

4. **مربعي متریکس**(Square Matrix)**:** که چېرې په یوه متریکس کې د سطرونو شمېر د ستونونو له شمېرسره برابر $(m=n)$ شي، د مربعي متریکس په نامه یادېږي، مثلاً:

$$A=\begin{pmatrix} 1 & 3 & 4 \\ 5 & 7 & 9 \\ -1 & 0 & 2 \end{pmatrix}_{3\times3} \quad , \qquad m=n \;\Rightarrow\; 3=3$$

هر مربعي متریکس دوه قطرونه لري.

(c) ketabton.com: The Digital Library

هغه قطر چې عناصر يې $a_{11}, a_{22}, \dots, a_{nn}$ وي، اصلي قطر(Mean diagonal) او هغه قطر چې عناصر يې $a_{1n}, \dots, a_{n1}$ وي، فرعي قطر (Minor Diagonal) بلل کيږي.

اصلی قطر   فرعي قطر

$$\begin{pmatrix} a_{11} & a_{12} & \dots & a_{1n} \\ a_{21} & a_{22} & \dots & a_{2n} \\ \vdots & & & \\ a_{n1} & a_{n} & \dots & a_{nn} \end{pmatrix}$$

فرعي قطر   اصلی قطر

فعاليت

- داسې مېټريکسونه وليکئ چې مرتبې يې 1×3 او 4×1 وي، دا څه ډول مېټريکسونه دي؟

5. **قطري مېټريکس** (Diagonal Matrix)**:** هغه مېټريکس چې ټول عناصر يې پرته له اصلي قطر څخه صفرونه وي، د قطري مېټريکس په نامه يادېږي.

$$A=\begin{pmatrix} 1 & 0 & 0 \\ 0 & 3 & 0 \\ 0 & 0 & 3 \end{pmatrix}_{3\times 3} \quad ، \quad B=\begin{pmatrix} 1 & 0 \\ 0 & 5 \end{pmatrix}_{2\times 2}$$

6. **سکالر مېټريکس** (Scalar Matrix)**:** هغه قطري مېټريکس چې د اصلي قطر عناصر يې سره مساوي وي، د سکالر مېټريکس په نامه يې يادېږي، لکه:

$$A=\begin{pmatrix} K & 0 & 0 & \dots & 0 \\ 0 & K & 0 & \dots & 0 \\ 0 & 0 & K & \dots & 0 \\ \vdots & \vdots & \vdots & & \\ 0 & 0 & 0 & \dots & K \end{pmatrix}_{m\times n}$$

7. **واحد مېټريکس** (Unite Matrix)**:** که چېرې په يو سکالر يا قطري مېټريکس کې د اصلي قطر ټول عناصر د (1) عدد وي، دغه ډول مېټريکس ته واحد مېټريکس وايي او په I_n سره ښوول کيږي.

$$I_n=\begin{pmatrix} 1 & 0 & 0\dots0 \\ 0 & 1 & 0\dots0 \\ 0 & 0 & 1\dots0 \\ \vdots & \vdots & \vdots \\ 0 & 0 & 0\dots1 \end{pmatrix} \quad , \quad I_3=\begin{pmatrix} 1 & 0 & 0 \\ 0 & 1 & 0 \\ 0 & 0 & 1 \end{pmatrix} \quad , \quad I_2=\begin{pmatrix} 1 & 0 \\ 0 & 1 \end{pmatrix}$$

(c) ketabton.com: The Digital Library

فعالیت

- یو د 3×3 مرتبې مټریکس ولیکئ چې د اصلي قطر ښکته ټول عناصر یې صفرونه وي.
- په همدې ډول یو د 3×3 مرتبې مټریکس ولیکئ چې د اصلي قطر پورتني عناصر یې ټول صفرونه وي.

له پورتني فعالیت څخه لاندې تعریف بیانېږي:

که چېرې په یوه مربعي مټریکس کې د اصلي قطر پورتني او یا ښکتني ټول عناصر صفرونه وي، په دغه صورت کې مټریکس د مثلثي مټریکس (Triangular matrix) په نامه یادېږي.

که چېرې د اصلي قطر پورتني ټول عناصر صفرونه وي، د پورتني مثلثي مټریکس (Upper triangular matrix) او که چېرې د اصلي قطر ښکتني ټول عناصر صفرونه وي، د ښکتني مثلثي مټریکس (lower triangular matrix) په نامه یادېږي.

په لاندې مثالونو کې A یو پورتنی مثلثي مټریکس او B ښکتنی مثلثي مټریکس دی.

$$A=\begin{pmatrix}1&0&0\\2&4&0\\3&7&9\end{pmatrix}\quad,\quad B=\begin{pmatrix}1&2&3\\0&7&9\\0&0&4\end{pmatrix}$$

متقابل (متضاد) مټریکس:

که چېرې د A متقابل مټریکس په $(-A)$ سره وښودل شي نو، دا هغه مټریکس دی چې هر عنصر د A متناظر عنصر متضاد دی. که چېرې $A=(a_{ij})_{m\times n}$ یو مټریکس وي، نومتقابل مټریکس یې $(-A)$ په لاندې ډول تعریفېږي:

$$A=(a_{ij})_{m\times n}\overset{\text{متقابل}}{\Rightarrow}-A=(-a_{ij})_{m\times n}$$

لکه په لاندې مثال کې:

$$A=\begin{pmatrix}2&4&5\\-1&2&0\\2&-3&-4\end{pmatrix}\Rightarrow -A=\begin{pmatrix}-2&-4&-5\\1&-2&0\\-2&3&4\end{pmatrix}$$

(c) ketabton.com: The Digital Library

پوښتنې

1. لاندې مټریکسونه په پام کې ونیسئ، مرتبې او اړوند نومونه يې وټاکئ:

$$a)\ A=\begin{pmatrix}3 & 4 & -5\\ 1 & -2 & 3\\ 0 & 1 & 0\end{pmatrix}\qquad b)\ B=\begin{pmatrix}0 & 0 & 0\\ 0 & 0 & 0\\ 0 & 0 & 0\end{pmatrix}\qquad c)\ C=\begin{pmatrix}1 & 0 & 0\\ 0 & 1 & 0\\ 0 & 0 & 1\end{pmatrix}$$

$$d)\ D=\begin{pmatrix}3 & 0 & 0\\ 0 & 3 & 0\\ 0 & 0 & 3\end{pmatrix}\qquad e)\ E=\begin{pmatrix}5 & -6 & 7 & 8\end{pmatrix}\qquad f)\ F=\begin{pmatrix}1 & 2\end{pmatrix}$$

$$g)\ G=\begin{pmatrix}3\\ 2\\ -1\\ 0\end{pmatrix}\qquad h)\ H=\begin{pmatrix}3 & -1\\ -1 & 0\end{pmatrix}$$

(c) ketabton.com: The Digital Library

د میټریکسونو جمع او تفریق

Addition and subtraction of Matrix

په مخامخ میټریکسونو کې د هغوی د جمعې او تفریق په اړه د امکان په صورت کې څه ویلای شئ.

$A+A=$

$A-A=$

$A+B=$

$A-B=$

$B+B=$

$B-B=$

?

1) **د میټریکسونو جمع:**

که چېرې $A=(a_{ij})_{m\times n}$ او $B=(b_{ij})_{m\times n}$ دوه میټریکسونه وي، نو $A+B=C$ عبارت له هغه میټریکس څخه دی چې د C_{ij} هر عنصر یې د a_{ij} او b_{ij} د جمعې له حاصل څخه لاس ته راغلی وي، یعنې د دوو میټریکسونو جمع کول یوازې هغه وخت امکان لري چې د دواړو میټریکسونو مرتبې سره مساوي وي. څرنګه چې C_{ij} د دوو حقیقي عددونو د جمعې حاصل دی، نو:

$$A_{m\times n}+B_{m\times n}=C_{m\times n}\Rightarrow(a_{ij})_{m\times n}+(b_{ij})_{m\times n}=(a_{ij}+b_{ij})_{m\times n}=(c_{ij})_{m\times n}$$

مثال:

$$A=\begin{pmatrix}1&2\\-2&0\\1&7\end{pmatrix}_{3\times2}\quad,\quad B=\begin{pmatrix}3&2\\1&2\\0&-4\end{pmatrix}_{3\times2}$$

$$A+B=\begin{pmatrix}1&2\\-2&0\\1&7\end{pmatrix}+\begin{pmatrix}3&2\\1&2\\0&-4\end{pmatrix}=\begin{pmatrix}1+3&2+2\\-2+1&0+2\\1+0&7+(-4)\end{pmatrix}=\begin{pmatrix}4&4\\-1&2\\1&3\end{pmatrix}=C_{3\times2}$$

2. **د میټریکسونو تفریق:**

د جمعې عملیې ته ورته کولای شو، د دوو میټریکسونو تفاضل یا د تفریق حاصل په لاس راوړو. که $A=(a_{ij})_{m\times n}$ او $B=(b_{ij})_{m\times n}$ وي، نو د تفریق حاصل یې په لاندې ډول په لاس راوړای شو:

$$A_{m\times n}-B_{m\times n}=(a_{ij})_{m\times n}-(b_{ij})_{m\times n}=(a_{ij}-b_{ij})_{m\times n}=(c_{ij})_{m\times n}=C_{m\times n}$$

فعالیت

- که $A=\begin{pmatrix}2&-1\\3&1\end{pmatrix}$ او $B=\begin{pmatrix}-2&-1\\3&-4\end{pmatrix}$ وي، $A-B$ په لاس راوړئ.

(c) ketabton.com: The Digital Library

د مېټريکسونو د جمعې او تفريق خاصيتونه:

1. د مېټريکسونو جمع کول دبدلون خاصيت لرى، خو د مېټريکسونو تفريق د بدلون خاصيت نه لري، يعنې:

$A + B = B + A$

$A - B \neq B - A$

2. د مېټريکسونو جمع او تفريق اتحادي خاصيت لري. $(A \pm B) \pm C = A \pm (B \pm C)$

3. د عينيت عنصر (Identity Element) د مېټريکسونو په جمع کې صدق کوي ،خو د مېټريکسونو په تفريق کې صدق نه کوي. $A + 0 = 0 + A = A$

لومړی مثال: که $A = \begin{pmatrix} 1 & 2 & 3 \\ 2 & 5 & 4 \\ 6 & 0 & 1 \end{pmatrix}$ او $B = \begin{pmatrix} 11 & 1 & 5 \\ 0 & 3 & 0 \\ 2 & 5 & 6 \end{pmatrix}$ راکړل شوی وي، نو $A - B$ په لاس راوړئ.

حل: څرنګه چې د دواړو مېټريکسونو مرتبه سره برابره (3×3) ده، نو کولای شو د تفريق حاصل يې په لاس راوړو.

$$A - B = \begin{pmatrix} 1 & 2 & 3 \\ 2 & 5 & 4 \\ 6 & 0 & 1 \end{pmatrix} - \begin{pmatrix} 11 & 1 & 5 \\ 0 & 3 & 0 \\ 2 & 5 & 6 \end{pmatrix} = \begin{pmatrix} 1 & -11 & 2-1 & 3-5 \\ 2 & -0 & 5-3 & 4-0 \\ 6 & -2 & 0-5 & 1-6 \end{pmatrix} = \begin{pmatrix} -10 & 1 & -2 \\ 2 & 2 & 4 \\ 4 & -5 & -5 \end{pmatrix}$$

فعاليت

- د يوه مثال په واسطه وښاياست چې $A - B \neq B - A$ دی.

دويم مثال: که چېرې $A = \begin{pmatrix} 1 & 2 \\ 3 & 4 \\ 0 & 6 \end{pmatrix}$ او $B = \begin{pmatrix} 3 & 1 & 3 \\ 2 & 5 & -1 \end{pmatrix}$ وي، د امکان په صورت کې $A + B$ او $A - B$ په لاس راوړئ.

حل: ليدل کېږي چې د A او B مېټريکسونو مرتبې سره خلاف دي، نو له دې امله يې جمع او تفريق امکان نه لري، ځکه د A د مېټريکس مرتبه 3×2 او د B مېټريکس مرتبه 2×3 ده.

پوښتنې

لاندې مېټريکسونه د امکان تر بريده جمع او تفريق کړئ:

a) $A = \begin{pmatrix} 1 & 2 & 3 \\ 4 & -1 & 0 \end{pmatrix}$, $B = \begin{pmatrix} 3 & -1 & 0 \\ 0 & -1 & 1 \end{pmatrix}$

b) $A = \begin{pmatrix} 2 & 2 \\ -1 & -1 \end{pmatrix}$, $B = \begin{pmatrix} 2 & 2 \\ 1 & -1 \end{pmatrix}$, c) $A = \begin{pmatrix} 1 & 1 \\ 2 & 0 \\ -1 & 3 \end{pmatrix}$, $B = \begin{pmatrix} 1 & 3 & 4 \\ -1 & 0 & 1 \end{pmatrix}$

(c) ketabton.com: The Digital Library

په مېټريکس کې د سکالر ضرب

مور د مېټريکسونو د جمعې او تفريق قاعده وليدله که $A=\begin{pmatrix} a & b \\ c & d \end{pmatrix}$ يو **مېټريکس** او K يـو سـکالر وي، د هغوی د ضرب حاصل په اړه څه فکر کوئ؟

$$K\cdot A=K\begin{pmatrix} a & b \\ c & d \end{pmatrix}$$
$$=\begin{pmatrix} \square & \square \\ \square & \square \end{pmatrix}$$

فعاليت

- که $A=\begin{pmatrix} a & b & c \\ d & e & f \\ g & h & i \end{pmatrix}$ يو **مېټريکس** او k يو سکالر وي، د $K\cdot A$ حاصل په لاس راوړئ.

$$A=\begin{pmatrix} a & b & c \\ d & e & f \\ g & h & i \end{pmatrix} \quad , \quad KA=\begin{pmatrix} & & \\ & & \\ & & \end{pmatrix}$$

- د $B=\begin{pmatrix} 5 & 0 \\ 0 & 5 \end{pmatrix}$ **مېټريکس** په کوم عدد کې ضرب شي، تر څوپې د ضرب حاصل يو واحد مېټريکس شي.

کولای شو د فعاليت له اجرا کولو وروسته يې په لاندې ډول تعريف کړو.

تعريف: که $A=(a_{ij})_{m\times n}$ يو **مېټريکس** او $K\in IR$ يو حقيقي عدد وي، نو KA د C له **مېټريکس** څخه عبارت دی، په داسې حال کې چې د C_{ij} هر عنصر د K د ضرب حاصل په a_{ij} کې دی.

$$C_{ij}=K(a_{ij})$$

لومړی مثال: که $A=\begin{pmatrix} 1 & 3 & 6 \\ 2 & 1 & 0 \\ 1 & 0 & -1 \end{pmatrix}$ او $K=2$ وي، د KA د ضرب حاصل پيدا کړئ.

حل:
$$KA=2\begin{pmatrix} 1 & 3 & 6 \\ 2 & 1 & 0 \\ 1 & 0 & -1 \end{pmatrix}=\begin{pmatrix} 2\cdot 1 & 2\cdot 3 & 2\cdot 6 \\ 2\cdot 2 & 2\cdot 1 & 2\cdot 0 \\ 2\cdot 1 & 2\cdot 0 & 2(-1) \end{pmatrix}=\begin{pmatrix} 2 & 6 & 12 \\ 4 & 2 & 0 \\ 2 & 0 & -2 \end{pmatrix}$$

(c) ketabton.com: The Digital Library

په مټريکس کې د سکالر ضرب خاصيتونه:

که چېرې A او B دواړه د يو شان مرتبې مټريکسونه، α او β دوه حقيقي عددونه وي، نو:

$a)\ \alpha(A+B)=\alpha A+\alpha B$

$b)\ (\alpha+\beta)A=\alpha A+\beta A$

$c)\ \alpha(\beta A)=(\alpha\beta)A=\beta(\alpha A)$

دويم مثال: که چېرې $A=\begin{pmatrix}3 & 6\\ -3 & 9\end{pmatrix}$, $\alpha=3$, $\beta=2$ راکړل شوي وي، وښاياست چې

$\alpha(\beta A)=(\alpha\beta)A=\beta(\alpha A)$

حل:

$$\alpha(\beta A)=3\left[2\begin{pmatrix}3 & 6\\ -3 & 9\end{pmatrix}\right]=3\begin{pmatrix}2\cdot 3 & 2\cdot 6\\ 2(-3) & 2\cdot 9\end{pmatrix}=3\begin{pmatrix}6 & 12\\ -6 & 18\end{pmatrix}$$

$$=\begin{pmatrix}3\cdot 6 & 3\cdot 12\\ 3(-6) & 3\cdot 18\end{pmatrix}=\begin{pmatrix}18 & 36\\ -18 & 54\end{pmatrix}$$

$$(\alpha\ \beta)A=(3\cdot 2)\begin{pmatrix}3 & 6\\ -3 & 9\end{pmatrix}=6\begin{pmatrix}3 & 6\\ -3 & 9\end{pmatrix}$$

$$=\begin{pmatrix}6\cdot 3 & 6\cdot 6\\ 6(-3) & 6\cdot 9\end{pmatrix}=\begin{pmatrix}18 & 36\\ -18 & 54\end{pmatrix}$$

$$\beta(\alpha\ A)=2\left[3\begin{pmatrix}3 & 6\\ -3 & 9\end{pmatrix}\right]=2\begin{pmatrix}3\cdot 3 & 3\cdot 6\\ 3(-3) & 3\cdot 9\end{pmatrix}=2\begin{pmatrix}9 & 18\\ -9 & 27\end{pmatrix}=\begin{pmatrix}18 & 36\\ -18 & 54\end{pmatrix}$$

$$\Rightarrow \alpha(\beta A)=(\alpha\beta)A=\beta(\alpha A)$$

پوښتنې

1. که چېرې $A=\begin{pmatrix}2 & 0\\ 1 & -1\end{pmatrix}$, $B=\begin{pmatrix}-1 & 0\\ 1 & 0\end{pmatrix}$, $\alpha=2$ او $\beta=1$ راکړل شوي وي. په مټريکس کې د سکالر ضرب درې خاصيتونه تطبيق کړئ؟

2. که $A=\begin{pmatrix}5 & 1 & 1\\ 0 & 1 & 2\\ 0 & 0 & 1\end{pmatrix}$ او $K=3$ وي، KA او $\frac{1}{K}A$ پيدا کړئ.

(c) ketabton.com: The Digital Library

د دوو مېټريکسونو ضرب

Multiplication of two Matrixes

$$A=\begin{pmatrix}1 & 2\\3 & 4\end{pmatrix},\quad B=\begin{pmatrix}-1 & 0\\1 & 1\end{pmatrix}$$

$$A\cdot B=\begin{pmatrix}1 & 2\\3 & 4\end{pmatrix}\cdot\begin{pmatrix}-1 & 0\\1 & 1\end{pmatrix}=?$$

اياد دوو مېټريکسونو د ضرب لپاره کوم نظر ورکولای شئ؟

تاسو د دوو مېټريکسونو د جمعې لپاره پيدا کړل چې $A+B=B+A$ دی، د مېټريکسونو د ضرب لپاره څه فکر کوئ؟

تعريف

دوه مېټريکسونه د $A=(a_{ij})_{m\times n}$ او $B=(b_{ij})_{n\times p}$ په پام کې ونيسئ، د دې لپاره چې دا داوړه مېټريکسونه يو په بل کې ضرب شي، نو بايد د لومړی مېټريکس د ستونونو شمېر د دويم مېټريکس د سطرونو له شمېر سره برابر وي. د مېټريکسونو د ضرب حاصل بيا هم يو مېټريکس دی ،لکه: $C=(a_{ij})_{m\times p}$ چې د سطرونو شمېر يې د لومړي مېټريکس د سطرونو په اندازه او د ستونونو شمېر يې د دويم مېټريکس د ستونونو له شمېر سره برابر دی.

$$A_{m\times n}\cdot B_{n\times p}=C_{m\times p}$$

د دوو مېټريکسونو د ضرب لپاره په لاندې ډول کړنه کوو:

د لومړي مېټريکس لومړی سطر د دويم مېټريکس په ټولو ستونو کې په وار سره ضربوو او په همغه سطر کې يې ليکو، په دويمه مرحله کې بيا هم د لومړي مېټريکس دويم سطر د دويم مېټريکس په ټولو ستونونو کې په وار سره ضربوو او په همغه دويمه سطر کې يې ليکو، دغې عمليې ته تر هغه دوام ورکوو، ترڅو ټول سطرونه د لومړي مېټريکس په دويم مېټريکس کې ضرب شي، په دغه ډول د مېټريکسونو د ضرب حاصل محاسبه کيږي. دغه مطلب کولای شو په لاندې ډول وښيو.

$$(a_{ij})_{m\times n}\cdot(b_{ij})_{n\times p}=\sum_{i,j=1}^{n}a_{ij}b_{ij}=(C_{ij})_{m\times p}$$

(c) ketabton.com: The Digital Library

لومړی مثال: که چېرې $A=\begin{pmatrix} 1 & 2 & 0 \\ -1 & 0 & 1 \end{pmatrix}$ او $B=\begin{pmatrix} 1 \\ 0 \\ -1 \end{pmatrix}$ راکړل شوی وي، نو $A\cdot B$ پیداکړئ.

حل: د دوو مېټریکسونو د ضرب له تعریف څخه پوهېږو:

دویم پراو

لومړی پراو

$$A\cdot B=\begin{pmatrix} 1 & 2 & 0 \\ -1 & 0 & 1 \end{pmatrix}\begin{pmatrix} 1 \\ 0 \\ -1 \end{pmatrix}=\begin{pmatrix} 1\cdot 1+2\cdot 0+0\cdot(-1) \\ -1\cdot 1+0\cdot 0+1\cdot(-1) \end{pmatrix}=\begin{pmatrix} 1 \\ -2 \end{pmatrix}$$

دویم مثال: که چېرې $A=\begin{pmatrix} 2 & 3 & -1 \\ -2 & 1 & 2 \end{pmatrix}$ او $B=\begin{pmatrix} 1 & 3 \\ 2 & 0 \\ -1 & 2 \end{pmatrix}$ راکړل شوی وي، نو $A\cdot B$ حاصل په لاس راوړئ.

حل: بیا هم د مېټریکسونو د ضرب له تعریف څخه په کار اخېستنې لرو چې:

$$A\cdot B=\begin{pmatrix} 2 & 3 & -1 \\ -2 & 1 & 2 \end{pmatrix}_{2\times 3}\cdot\begin{pmatrix} 1 & 3 \\ 2 & 0 \\ -1 & 2 \end{pmatrix}_{3\times 2}$$

$$A\cdot B=\begin{pmatrix} (2\ \ 3\ \ -1)\begin{pmatrix} 1 \\ 2 \\ -1 \end{pmatrix} & (2\ \ 3\ \ -1)\begin{pmatrix} 3 \\ 0 \\ 2 \end{pmatrix} \\ (-2\ \ 1\ \ 2)\begin{pmatrix} 1 \\ 2 \\ -1 \end{pmatrix} & (-2\ \ 1\ \ 2)\begin{pmatrix} 3 \\ 0 \\ 2 \end{pmatrix} \end{pmatrix}=\begin{pmatrix} 2\cdot 1+3\cdot 2+(-1)(-1) & 2\cdot 3+3\cdot 0+(-1)\cdot 2 \\ (-2)(1)+1\cdot 2+2(-1) & -2(3)+1\cdot 0+2\cdot 2 \end{pmatrix}$$

$$=\begin{pmatrix} 2+6+1 & 6+0-2 \\ -2+2-2 & -6+0+4 \end{pmatrix}=\begin{pmatrix} 9 & 4 \\ -2 & -2 \end{pmatrix}_{2\times 2}$$

درېیم مثال: $A=\begin{pmatrix} 1 & 3 \\ 5 & 2 \end{pmatrix}$ او $B=\begin{pmatrix} 3 & 2 & 0 \\ 6 & 1 & 7 \end{pmatrix}$ وي $A\cdot B$ پیداکړئ.

حل:

$$A\cdot B=\begin{pmatrix} 1 & 3 \\ 5 & 2 \end{pmatrix}\begin{pmatrix} 3 & 2 & 0 \\ 6 & 1 & 7 \end{pmatrix}=\begin{pmatrix} 1\cdot 3+3\cdot 6 & 1\cdot 2+3\cdot 1 & 1\cdot 0+3\cdot 7 \\ 5\cdot 3+2\cdot 6 & 5\cdot 2+2\cdot 1 & 5\cdot 0+2\cdot 7 \end{pmatrix}$$

$$=\begin{pmatrix} 3+18 & 2+3 & 0+21 \\ 15+12 & 10+2 & 0+14 \end{pmatrix}=\begin{pmatrix} 21 & 5 & 21 \\ 27 & 12 & 14 \end{pmatrix}$$

(c) ketabton.com: The Digital Library

فعالیت

- که $A=\begin{pmatrix} 2 & -1 \\ 0 & 1 \end{pmatrix}$ او $B=\begin{pmatrix} 4 & -2 & 0 \\ 0 & 1 & -3 \end{pmatrix}$ وي، د ضرب دحاصل دشتون په صورت کې AB او BA پیدا او یو له بله سره یې پرتله کړئ.

خلورم مثال: که $C=\begin{pmatrix} 2 & -1 \\ 1 & 2 \end{pmatrix}$ او $D=\begin{pmatrix} -3 & 4 \\ -4 & -3 \end{pmatrix}$ وي، CD او DC پیدا او یو له بل سره یې پرتله کړئ.

حل:

$$CD=\begin{pmatrix} 2 & -1 \\ 1 & 2 \end{pmatrix}\begin{pmatrix} -3 & 4 \\ -4 & -3 \end{pmatrix}=\begin{pmatrix} 2(-3)+(-1)(-4) & 2\cdot 4+(-1)(-3) \\ 1(-3)+2(-4) & 1\cdot 4+2(-3) \end{pmatrix}$$

$$=\begin{pmatrix} -6+4 & 8+3 \\ -3-8 & 4-6 \end{pmatrix}=\begin{pmatrix} -2 & 11 \\ -11 & -2 \end{pmatrix}$$

$$DC=\begin{pmatrix} -3 & 4 \\ -4 & -3 \end{pmatrix}\begin{pmatrix} 2 & -1 \\ 1 & 2 \end{pmatrix}=\begin{pmatrix} -3\cdot 2+4\cdot 1 & (-3)(-1)+4\cdot 2 \\ -4\cdot 2+1\cdot(-3) & -4(-1)+(-3)\cdot 2 \end{pmatrix}$$

$$=\begin{pmatrix} -6+4 & 3+8 \\ -8-3 & 4-6 \end{pmatrix}=\begin{pmatrix} -2 & 11 \\ -11 & -2 \end{pmatrix}$$

معلومېږي چې $CD = DC$ دی.

د مېټریکس د ضرب خواص:

لومړی خاصیت: په عمومي ډول د دوو مېټریکسونو په ضرب کې د بدلون خاصیت صدق نه کوي.

یعنې که A او B دوه مېټریکسونه او AB او BA تعریف شي، نو: $AB \neq BA$

دویم خاصیت: د مېټریکسونو ضرب د اتحادي ضرب خاصیت لري. که چېرې B, A او C د $m\times n$ مرتبې مېټریکسونه وي، نو $(AB)C=A(BC)$

دریم خاصیت: د مېټریکسونو ضرب توزیعي خاصیت د جمعې او ضرب لپاره لري، نو لرو:

$a)\ A(B+C)=AB+AC$

$b)\ (A+B)C=AC+BC$

$c)\ K(AB)=(KA)B=A(KB)\ ,\quad K\in IR$

$d)\ IA=AI=A$

(c) ketabton.com: The Digital Library

پوښتنې

د لاندې مټريکسونو د ضرب حاصل په لاس راوړئ.

$a)\ \begin{pmatrix} 0 & 1 \\ 2 & 0 \end{pmatrix}\begin{pmatrix} 5 & 0 \\ 0 & 1 \end{pmatrix}=?$

$b)\ \begin{pmatrix} -2 & 3 \\ -1 & 2 \end{pmatrix}\begin{pmatrix} 3 \\ 4 \end{pmatrix}=?$

$c)\ \begin{pmatrix} 3 & -2 & 1 \end{pmatrix}\begin{pmatrix} -2 \\ 1 \\ 1 \end{pmatrix}$

$d)\ \begin{pmatrix} 2 & 3 \\ 4 & 2 \end{pmatrix}\begin{pmatrix} -3 \\ 2 \end{pmatrix}=?$

(c) ketabton.com: The Digital Library

د يوه مېټريکس ترانسپوز

Transpose of Matrix

که په يو مېټريکس کې سطرونه په ستونونو او ستونونه په سطرونو بدل شي نوی مېټريکس چې په لاس راځي په څه نوم يادېږي؟

$$A=\begin{pmatrix}1 & 2 & 3\\ 0 & -1 & 4\end{pmatrix}$$

$$A^T=\begin{pmatrix}1 & 0\\ 2 & -1\\ 3 & 4\end{pmatrix}$$

فعاليت

- د $A=\begin{pmatrix}1 & -1 & 0\\ 2 & 3 & 1\\ -1 & 0 & -2\end{pmatrix}$ مېټريکس په پام کې ونيسئ، سطرونه ستونونوته او ستونونه سطرونو ته ولېږدوی، هغه نوی مېټريکس چې په لاس راځي وبې ليکئ.
- که چېرې د يوه مېټريکس د سطرونو او ستونونو ځايونه يوله بل سره بدل کړو افقي ليکې په عمودي او عمودي په افقي واړوو، هغه نوی مېټريکس چې لاس ته راځي، آيا له لومړي مېټريکس سره مساوي دی، نوی مېټريکس په څه نوم يادېږي؟

له پورتني فعاليت څخه لاندې تعريف په لاس راځي.

تعريف: که چېرې د يوه مېټريکس چې مرتبه يې $(m\times n)$ وي، سطر په ستون او ستون په سطر واړول شي، هغه نوی مېټريکس چې په لاس راځي، له ترانسپوز(Transpose) مېټريکس څخه عبارت دی، د A ترانسپوز مېټريکس په A^T بنودل کېږي. د ترانسپوز مېټريکس مرتبه $(n\times m)$ ده.

مثلاً: که چېرې $A=\begin{pmatrix}1 & 2 & 3\\ 0 & -1 & 4\end{pmatrix}_{2\times3}$ وي، نو ترانسپوز مېټريکس يې عبارت دی له: $A^T=\begin{pmatrix}1 & 0\\ 2 & -1\\ 3 & 4\end{pmatrix}_{3\times2}$، که يو ترانسپوز مېټريکس يعني A^T له خپل ځان يعني A سره مساوي شي، نو په دې صورت کې A مېټريکس ته متناظر مېټريکس (Symmetric Matrix) وايي.

مثلاً: $A=\begin{pmatrix}1 & 4 & 5\\ 4 & 2 & 3\\ 5 & 3 & 0\end{pmatrix}$ يو متناظر مېټريکس دی، ځکه: $A^T=\begin{pmatrix}1 & 4 & 5\\ 4 & 2 & 3\\ 5 & 3 & 0\end{pmatrix} \Rightarrow A^T=A$

د متناظر مېټريکس پېژندل: په متناظرو مېټريکسونو کې عناصر نظر اصلي قطر ته متناظراو مساوي دي:

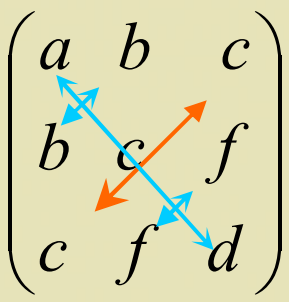

(c) ketabton.com: The Digital Library

د ټرانسپوز مټریکس خواص:

لومړی خاصیت: د یوه ټرانسپوز مټریکس ټرانسپوز له خپل لومړي مټریکس سره مساوي دی.

$$(A^T)^T = A \Rightarrow \left[(a_{ij})^T\right]^T = (a_{ji})^T = (a_{ij}) = A$$

دویم خاصیت: د دوو یا څو ټرانسپوز مټریکسونو د جمعې او تفریق حاصل د دوی د هر یوه د جمعې او تفریق له ټرانسپوز مټریکسونو سره مساوی دی. $(A \pm B)^T = A^T \pm B^T$

او یا په عمومي ډول $(A \pm B \pm C \pm ...)^T = A^T \pm B^T \pm C^T \pm ...$

دریم خاصیت: $(AB)^T = B^T \cdot A^T$

څلورم خاصیت: $(\alpha A)^T = \alpha A^T \quad , \quad \alpha \in IR$

$(-A)^T = -A^T$

فعالیت

- که چېرې $A = \begin{pmatrix} 3 & 2 \\ -2 & 1 \end{pmatrix}$ او $B = \begin{pmatrix} -2 & 3 \\ 5 & -2 \end{pmatrix}$ راکړل شوی وي، وښایاست چې:

$$(A-B)^T = A^T - B^T \ , \ (A+B)^T = A^T + B^T$$

مثال: د لاندې مټریکسونو ټرانسپوز مټریکسونه په لاس راوړئ.

$$C = \begin{pmatrix} -1 & 5 & 7 \\ 4 & 2 & 1 \\ 0 & -6 & 3 \end{pmatrix}_{3\times3} \quad , \quad B = \begin{pmatrix} 3 & 1 & 2 \\ -1 & 0 & -3 \end{pmatrix}_{2\times3}$$

حل:

$$B = \begin{pmatrix} 3 & 1 & 2 \\ -1 & 0 & -3 \end{pmatrix}_{2\times3} \Rightarrow B^T = \begin{pmatrix} 3 & -1 \\ 1 & 0 \\ 2 & -3 \end{pmatrix}_{3\times2}$$

$$C = \begin{pmatrix} -1 & 5 & 7 \\ 4 & 2 & 1 \\ 0 & -6 & 3 \end{pmatrix}_{3\times3} \Rightarrow C^T = \begin{pmatrix} -1 & 4 & 0 \\ 5 & 2 & -6 \\ 7 & 1 & 3 \end{pmatrix}_{3\times3}$$

پوښتنې

1. د A او B مټریکسونه په پام کې ونیسئ، د هغوی ټرانسپوز مټریکسونه په لاس راوړئ.

$$A = \begin{pmatrix} 1 & 2 & 3 \\ 0 & 1 & 5 \\ 0 & 2 & 3 \end{pmatrix}_{3\times3} \quad , \quad B = \begin{pmatrix} 0 & 4 & -2 \\ 4 & 5 & 3 \\ -2 & 3 & 0 \end{pmatrix}_{3\times3}$$

2. په پورتنیو مټریکسونو باندې د 3 عدد لپاره د ټرانسپوز مټریکس 4 خاصیتونه وښایاست.

(c) ketabton.com: The Digital Library

ديټرمينانت

Determinant

په يوه عددي مثال کې يو مربعي مټريکس داسې وټاکئ چې د $ad-bc$ حاصل تفريق مساوي په صفر شي.

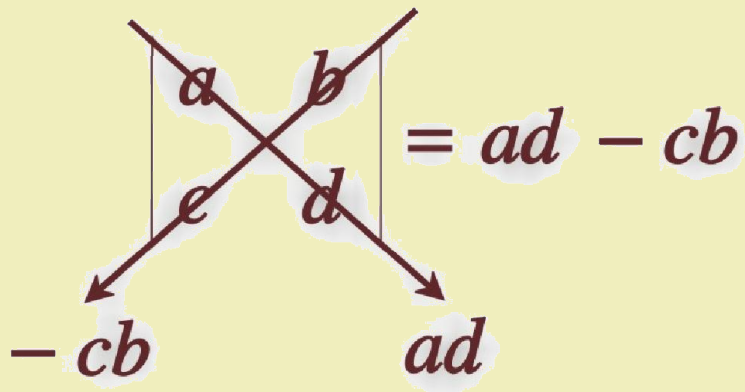

تعريف

که چېرې د A مټريکس يوه حقيقي عدد ته نسبت ورکړل شي، د A د مټريکس له ديټرمينانت څخه عبارت دی، د $A=\begin{pmatrix} a_{11} & a_{12} \\ a_{21} & a_{22} \end{pmatrix}$ د مټريکس ديټرمينانت په $|A|$، det A او يا $\begin{vmatrix} a_{11} & a_{12} \\ a_{21} & a_{22} \end{vmatrix}$ په ډول ښودل کيږي.

په همدې ډول که چېرې د $n\times n$ مرتبې يو مټريکس چې n سطرونه او n ستونونه ولري، اړوند ديټرمينانت يې له n درجې څخه دی. د $A=(a_{ij})_{n\times n}$ يو مربعي مټريکس په پام کې نيسو او د تعريف سره سم لرو چې:

$$|A|=\det A=\begin{vmatrix} a_{11} & a_{12}\dots a_{1n} \\ a_{21} & a_{22}\dots a_{2n} \\ \vdots & \vdots \\ a_{n1} & a_{n2}\dots a_{nn} \end{vmatrix}_{n\times n}$$

د 2×2 مرتبې مټريکسونو د ديټرمينانت محاسبه: د $A=\begin{pmatrix} a & b \\ c & d \end{pmatrix}$ مټريکس ديټرمينانت په لاندې ډول تعريفوو.

$$|A|=\begin{vmatrix} a & b \\ c & d \end{vmatrix}=ad-bc$$

مثال: د $A=\begin{pmatrix} 3 & 4 \\ 7 & 2 \end{pmatrix}$ مټريکس ديټرمينانت حساب کړئ.

حل: $|A|=\begin{vmatrix} 3 & 4 \\ 7 & 2 \end{vmatrix}=3\cdot 2-7\cdot 4=6-28=-22$

فعاليت

- د $A=\begin{pmatrix} 1 & 4 \\ 6 & -3 \end{pmatrix}$ مټريکس ديټرمينانت محاسبه کړئ.

(c) ketabton.com: The Digital Library

د 3×3 مېټريکسونو د ديټرمينانت محاسبه:د $A_{3\times 3}$ مېټريکس، ديټرمينانت په پام کې نيسو:

$$|A|=\begin{vmatrix} a_{11} & a_{12} & a_{13} \\ a_{21} & a_{22} & a_{23} \\ a_{31} & a_{32} & a_{33} \end{vmatrix}$$

حل: د $A_{3\times 3}$ ديټرمينانت د محاسبې لپاره لاندې ټکي په پام کې نيسو:

لومړی پړاو: اول ستون او دريم سطر له منځه وړو، د 2×2 مرتبې ديټرمينانت محاسبه او د لومړي ستون او دريم سطر د تقاطع په عنصر کې يې ضربوو:

$$\begin{vmatrix} a_{11} & a_{12} & a_{13} \\ a_{21} & a_{22} & a_{23} \\ a_{31} & a_{32} & a_{33} \end{vmatrix} \Rightarrow (a_{12}\, a_{23} - a_{13}\, a_{22})a_{31}$$

دويم پړاو: دويم ستون او دريم سطر حذفوو، د 2×2 مرتبې ديټرمينانت محاسبه او د دويم ستون او دريم سطر د تقاطع په عنصر کې يې ضربوو ، هېره دې نه وي چې د ديټرمينانت د محاسبې لپاره علامې په متناوب ډول بدلون مومي:

$$\begin{vmatrix} a_{11} & a_{12} & a_{13} \\ a_{21} & a_{22} & a_{23} \\ a_{31} & a_{32} & a_{33} \end{vmatrix} \Rightarrow -(a_{11}\, a_{23} - a_{21}\, a_{13})a_{32}$$

دريم پړاو: دريم ستون او دريم سطر له منځه وړو، د 2×2 مرتبې ديټرمينانت محاسبه، د دريم سطر او دريم ستون د تقاطع په عنصر کې يې ضربوو:

$$\begin{vmatrix} a_{11} & a_{12} & a_{13} \\ a_{21} & a_{22} & a_{23} \\ a_{31} & a_{32} & a_{33} \end{vmatrix} \Rightarrow (a_{11}\, a_{22} - a_{12}\, a_{21})a_{33}$$

څلورم پړاو: د 1، 2 او 3 ټول پړاوونه سره جمع کوو، په دې ډول د A ديټرمينانت مقدار په لاس راځي.

$$|A|=\begin{vmatrix} a_{11} & a_{12} & a_{13} \\ a_{21} & a_{22} & a_{23} \\ a_{31} & a_{32} & a_{33} \end{vmatrix} = (a_{12}\, a_{23} - a_{13}\, a_{22})\, a_{31} - (a_{11}\, a_{23} - a_{21}\, a_{13})\, a_{32} + (a_{11}\, a_{22} - a_{12}\, a_{21})\, a_{33}$$

$$= a_{12}\, a_{23}\, a_{31} - a_{13}\, a_{22}\, a_{31} - a_{11}\, a_{23}\, a_{32} + a_{21}\, a_{13}\, a_{32} + a_{11}\, a_{22}\, a_{33} - a_{12}\, a_{21}\, a_{33}$$

(c) ketabton.com: The Digital Library

مثال: د لاندې دیټرمینانت مقدار په لاس راوړئ.

$$B=\begin{vmatrix} 2 & 6 & -3 \\ 5 & 1 & 2 \\ 4 & -1 & 7 \end{vmatrix}$$

حل: له تېرو معلوماتو څخه کار اخلو:

$$\text{I)}\ \begin{vmatrix} 2 & 6 & -3 \\ 5 & 1 & 2 \\ 4 & -1 & 7 \end{vmatrix}=(6\cdot 2-1(-3))\cdot 4=(12+3)\cdot 4=15\cdot 4=60$$

$$\text{II)}\ \begin{vmatrix} 2 & 6 & 3 \\ 5 & 1 & 2 \\ 4 & -1 & 7 \end{vmatrix}=-(2\cdot 2-5(-3))(-1)=4+15=19$$

$$\text{III)}\ \begin{vmatrix} 2 & 6 & -3 \\ 5 & 1 & 2 \\ 4 & -1 & 7 \end{vmatrix}=(2\cdot 1-5(6))\cdot 7=(2-30)\cdot 7=-28\cdot 7=-196$$

$$\text{I}+\text{II}+\text{III}=60+19-196=-117$$

فعالیت

- د $A=\begin{vmatrix} a & 0 & 3 \\ -4 & 2 & 1 \\ 1 & -1 & 0 \end{vmatrix}$ له دیټرمینانت څخه د a قیمت په لاس راوړئ.

دویمه طریقه: **د ساروس په طریقه د دیټرمینانت محاسبه**: پـه دغـه طریقـه کـې د دیټرمینانـت دوه لـومړي سـتونونه ښـي لوري ته په لاندې ډول تکرار لیکو:

$$A=\begin{vmatrix} a_{11} & a_{12} & a_{13} \\ a_{21} & a_{22} & a_{23} \\ a_{31} & a_{32} & a_{33} \end{vmatrix}\begin{matrix} a_{11} & a_{12} \\ a_{21} & a_{22} \\ a_{31} & a_{32} \end{matrix}$$

فرعي قطرونه

اصلي قطرونه

د اصلي قطر عناصر یوله بل سره ضرب او جمع کوو، په همدې ډول د فرعي قطر عناصـر یولـه بـل سـره ضـربوو او وروسته یې جمع کوو، همدارنګه د اصلي قطرونو د عناصرو د حاصل ضرب له مجموع څخه، د فرعي قطرونـو د عناصرو د حاصل ضرب مجموع کموو، په دې ډول د A د متریکس دیټرمینانت مقدار په لاس راځي:

$$|A|=(a_{11}\,a_{22}\,a_{33}+a_{12}\,a_{23}\,a_{31}+a_{13}\,a_{21}\,a_{32})-(a_{13}\,a_{22}\,a_{31}+a_{11}\,a_{23}\,a_{32}+a_{12}\,a_{21}\,a_{33})$$

(c) ketabton.com: The Digital Library

په دغه طریقه کې کولای شو د لومړي او دویم ستون د لیږد په ځای لومړی او دویم سطر د دیټرمینانت لاندینی برخې ته انتقال کړو او د تیر په ډول کړنه سرته رسوو.

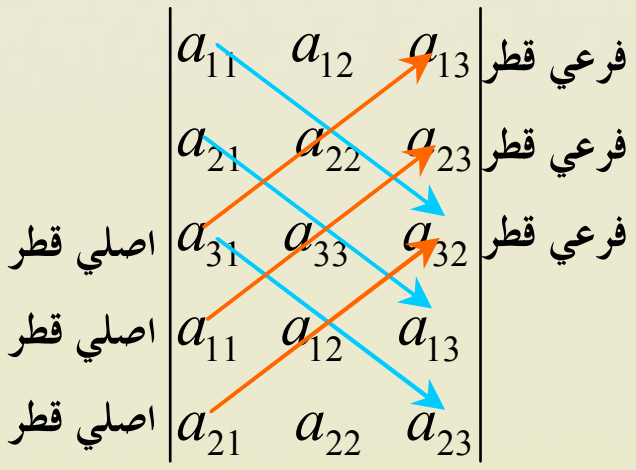

دويم مثال: د لاندې دیټرمینانت قیمت د ساروس په طریقه په لاس راوړئ.

$$|M|=\begin{vmatrix} 3 & 2 & -1 \\ -4 & 3 & 0 \\ 5 & -2 & 6 \end{vmatrix}$$

حل:

$$|M|=\left|\begin{matrix} 3 & 2 & -1 \\ -4 & 3 & 0 \\ 5 & -2 & 6 \end{matrix}\right|\begin{matrix} 3 & 2 \\ -4 & 3 \\ 5 & -2 \end{matrix}$$

$$=\left(3\cdot 3\cdot 6+2\cdot 0\cdot 5+(-1)(-4)(-2)\right)-\left((-1)\cdot 3\cdot 5+3\cdot 0(-2)+2(-4)\cdot 6\right)$$

$$=(54+0-8)-(-15+0-48)=46+63=109$$

فعالیت

- لاندې د $|A|$ دیټرمینانت د ساروس په طریقه په لاس راوړئ، په داسې حال کې چې دوه لومړني سطرونه د دیټرمینانت لاندې برخې ته ولیږدوئ او عملیه سرته ورسوئ.

$$|A|=\begin{vmatrix} -2 & 1 & 0 \\ 1 & 2 & 3 \\ -1 & 2 & -1 \end{vmatrix}$$

پوښتنې

1. د لاندې دیټرمینانتونو مقدار په لنډ ډول محاسبه کړئ.

$$a)\begin{vmatrix} 1 & 0 \\ 2 & 4 \end{vmatrix} \quad , \quad b)\begin{vmatrix} 5 & -2 \\ 3 & 7 \end{vmatrix} \quad , \quad c)\begin{vmatrix} -1 & 1 & 0 \\ 2 & 1 & 3 \\ 1 & 5 & 6 \end{vmatrix} \quad , \quad d)\begin{vmatrix} 0 & 4 & 2 \\ -5 & 1 & 3 \\ 2 & 1 & 5 \end{vmatrix}$$

2. د لاندې دیټرمینانتونو مقدار د ساروس په طریقه په لاس راوړئ.

$$a)\begin{vmatrix} 3 & 5 & 6 \\ -1 & 2 & 0 \\ -4 & 1 & 7 \end{vmatrix} \quad , \quad b)\begin{vmatrix} 1 & 2 & -3 \\ 5 & 1 & 7 \\ 1 & 2 & -3 \end{vmatrix}$$

(c) ketabton.com: The Digital Library

د ډيټرمينانت خاصيتونه

که چيرې په يوه ډيټرمينانت کې د سطر ځای له ستون سره بدل شي، د ډيټرمينانت په قيمت کې تغير راځي او که نه؟

$$|A|=\begin{vmatrix}1 & 0 & -1\\ 2 & 4 & 1\\ 5 & 3 & -1\end{vmatrix}$$

$$|B|=\begin{vmatrix}2 & 4 & 1\\ 1 & 0 & -1\\ 5 & 3 & -1\end{vmatrix}$$

فعاليت

- د $|A|=\begin{vmatrix}0 & 0 & 0\\ 1 & 2 & 3\\ 2 & 1 & 4\end{vmatrix}$ او $|A|=\begin{vmatrix}1 & 2 & 3\\ 1 & 2 & 3\\ 2 & 1 & 4\end{vmatrix}$ ډيټرمينانتونه محاسبه کړئ.
- د $|A|=\begin{vmatrix}2 & 1 & 3\\ 4 & 2 & 6\\ 5 & 4 & 1\end{vmatrix}$ ډيټرمينانت په پام کې ونيسئ، ترانسپوز يې په لاس راوړئ ، وروسته يې $|A^T|$ ډيټرمينانت محاسبه کړئ او وښاياست چې $|A|=|A^T|$.

له پورتني فعاليت څخه لاندې پايله په لاس راځي.

که چيرې $A_{n\times n}$ يو ميټريکس وي، د $|A|$ ډيټرمينانت لپاره لاندې خواص صدق کوي.

1. که د $A_{n\times n}$ ميټريکس د يوه سطر او يا يوه ستون ټول عناصر صفرونه وي، نو د A ډيټرمينانت مساوي له صفر سره دی.

$$|A|=\begin{vmatrix}0 & a & b\\ 0 & c & d\\ 0 & e & f\end{vmatrix}=0\ ,\quad |A|=\begin{vmatrix}0 & 0 & 0\\ a & b & c\\ d & e & f\end{vmatrix}=0$$

2. که چيرې د $A_{n\times n}$ ميټريکس دوه سطرونه يا دوه ستونونه سره مساوي وي، نو اړوند ډيټرمينانت يې مساوي له صفر سره دی.

$$A=\begin{pmatrix}a & b & c\\ a & b & c\\ d & e & f\end{pmatrix}\Rightarrow |A|=\begin{vmatrix}a & b & c\\ a & b & c\\ d & e & f\end{vmatrix}=0$$

3. که د $A_{n\times n}$ ميټريکس د يوه سطر او يا يوه ستون عناصر د بل سطر او يا ستون د عناصرو ګډ فکتور وي، نو $|A|=0$ دی.

$$|A|=\begin{vmatrix}a & b & c\\ \lambda a & \lambda b & \lambda c\\ d & e & f\end{vmatrix}=\lambda\begin{vmatrix}a & b & c\\ a & b & c\\ d & e & f\end{vmatrix}=\lambda(0)=0$$

4. د A ميټريکس ډيټرمينانت او A^T ميټريکس ډيټرمينانت يو له بل سره مساوي دي، په همدې ډول ډيټرمينانت ځينې نور خاصيتونه يا ځانګړنې هم لري، لکه:

(c) ketabton.com: The Digital Library

که چېرې په يوه ديټرمېنانت کې د دوو سطرونو يا دوو ستونونو ځايونه يو له بل سره بدل شي، د ديټرمېنانت اشاره بدلون مومي.

لومړی مثال: د $|A|=\begin{vmatrix} 2 & -1 & 4 \\ 1 & 2 & -2 \\ 3 & 1 & 0 \end{vmatrix}$ ديټرمېنانت لومړي ستون له دويم ستون سره بدل کړئ او وروسته د دواړو ديټرمېنانتونو قيمتونه سره پرتله کړئ.

حل:

$$A=\begin{vmatrix} 2 & -1 & 4 \\ 1 & 2 & -2 \\ 3 & 1 & 0 \end{vmatrix} \Rightarrow (0+6+4)-(24-4+0)=-10$$

$$B=\begin{vmatrix} -1 & 2 & 4 \\ 2 & 1 & -2 \\ 1 & 3 & 0 \end{vmatrix} = (0+24-4)-(4+6+0)=20-10=10$$

ليدل کېږي چې د A په ديټرمېنانت کې دويم ستون له لومړي ستون سره بدل شي، په ورته ډول کولای شو،دوه سطرونه هم يوله بل سره بدل کړو،نوداسې پايله په لاس راځي: $|A|=-|B|$

که د K يو ثابت عدد په ديټرمېنانت کې ضرب شي، دغه عدد يوازې په يوه سطر او يا يوه ستون کې په اختياري ډول ضربېدلای شي. په همدې ډول کولای شو د يوه ديټرمېنانت ګډعامل له يوه سطر او يا يوه ستون څخه ګډ عددوټاکوچې د ديټرمېنانت ګډ فکتور بلل کېږي.

دويم مثال: د $|A|$ ديټرمېنانت ګډ ضربي عامل پيدا کړئ.

$$A=\begin{vmatrix} 16 & 3 & 22 \\ 8 & 2 & 21 \\ 20 & 1 & 25 \end{vmatrix}$$

حل: ليدل کېږي چې د ديټرمېنانت په لومړي ستون کې د 4 عددګډ ضربي عامل دی چې په حقيقت کې دا عدد د ديټرمېنانت ګډ ضربي عامل دی.

$$|A|=\begin{vmatrix} 16 & 3 & 22 \\ 8 & 2 & 21 \\ 20 & 1 & 25 \end{vmatrix} = 4\begin{vmatrix} 4 & 3 & 22 \\ 2 & 2 & 21 \\ 5 & 1 & 25 \end{vmatrix}$$

پوښتنې

د ديټرمېنانت دخواصو په مرسته د لاندې ديټرمېنانتونو قيمت په لاس راوړئ.

$a)\ \begin{vmatrix} 0 & 1 & 2 \\ 0 & 3 & 4 \\ 0 & 5 & 6 \end{vmatrix}$ $\quad b)\ \begin{vmatrix} 1 & 2 & 4 \\ 7 & 9 & 11 \\ 0 & 0 & 0 \end{vmatrix}$ $\quad c)\ \begin{vmatrix} 3 & 5 & 8 \\ 0 & 4 & 2 \\ 0 & 0 & 1 \end{vmatrix}$

(c) ketabton.com: The Digital Library

د 2×2 مرتبه يې مټريکسونو ضربي معکوس

Multiplication inverse of 2×2 *matrixes*

آيا د حقيقي عددونودضرب قاعده مو په ياد ده؟

$$A^{-1}=\frac{1}{|A|}\begin{pmatrix} d & -b \\ -c & a \end{pmatrix}$$

د a حقيقي عدد ضربي معکوس کوم عدد دی؟

په همدې ډول د ځينو مربعي مټريکسونو لپاره هم دا خاصيت، د مټريکسونو د خاصيتونو په پام کې نيولو سره شتون لري.

فعاليت

- د $A=\begin{pmatrix} 2 & 1 \\ 3 & 2 \end{pmatrix}$ مټريکس په پام کې ونيسئ او ډيټرمينانت يې محاسبه کړئ.
- د $B=\begin{pmatrix} 2 & -2 \\ -3 & 2 \end{pmatrix}$ مټريکس د A له مټريکس سره ضرب او پايله يې وليکئ.

له پورتني فعاليت څخه لاندې پايله بيانولای شو:

تعريف: د $A=(a_{ij})_{n\times n}$ غير صفري مربعي مټريکس په پام کې نيسو، که چېرې د B مربعي مټريکس داسې موجود وي چې: $AB=BA=I$

په دې صورت کې د B مټريکس د A د مټريکس معکوس بلل کېږي او هغه په A^{-1} سره ښيي. له دې امله ليکلی شوچې: $AA^{-1}=A^{-1}A=I$

په ياد ولرئ: د A مربعي مټريکس ته منفرد مټريکس (Singular Matrix) ويل کېږي، کله چې $|A|=0$ وي او همدارنګه د A مربعي مټريکس ته غير منفرد مټريکس (non singular matrix) ويل کېږي، که چېرې $|A|\neq 0$ وي.

له دې امله هغه وخت يو مټريکس د معکوس مټريکس لرونکی دی چې:

1. مټريکس مربعي وي.
2. ډيټرمينانت يې د صفر خلاف وي.

لومړی مثال: وښاياست چې $A=\begin{pmatrix} -1 & 3 \\ 2 & -7 \end{pmatrix}$ ، $B=\begin{pmatrix} -7 & -3 \\ -2 & -1 \end{pmatrix}$ يو د بل معکوس دي.

حل:

$$A\cdot B=\begin{pmatrix} -1 & 3 \\ 2 & -7 \end{pmatrix}\begin{pmatrix} -7 & -3 \\ -2 & -1 \end{pmatrix}=\begin{pmatrix} (-1)(-7)+3(-2) & (-1)(-3)+3(-1) \\ 2(-7)+(-7)(-2) & 2(-3)+-7(-1) \end{pmatrix}=\begin{pmatrix} 7-6 & 3-3 \\ -14+14 & -6+7 \end{pmatrix}=\begin{pmatrix} 1 & 0 \\ 0 & 1 \end{pmatrix}$$

$$B\cdot A=\begin{pmatrix} -7 & -3 \\ -2 & -1 \end{pmatrix}\begin{pmatrix} -1 & 3 \\ 2 & -7 \end{pmatrix}=\begin{pmatrix} 7-6 & -21+21 \\ 2-2 & -6+7 \end{pmatrix}=\begin{pmatrix} 1 & 0 \\ 0 & 1 \end{pmatrix}$$

ليدل کېږي چې: $AB=BA=I$ دی، نو A او B يو د بل معکوس دي.

(c) ketabton.com: The Digital Library

الحاقي مېټريکس(Ad joint of matrix): د 2×2 مرتبې الحاقي مېټريکس د پيدا کولو لپاره د اصلي قطر د عناصرو ځايونه سره بدلوو او فرعي قطر د اشارې په بدلون سره ليکو، هغه نوی مېټريکس چې لاس ته راځي، له الحاقي مېټريکس (ad joint=adj) څخه عبارت دی، د مثال په ډول:

$$A=\begin{pmatrix} a & b \\ c & d \end{pmatrix} \Rightarrow Adj\ A=\begin{pmatrix} d & -b \\ -c & a \end{pmatrix}$$

$$K=\begin{pmatrix} 1 & 2 \\ 5 & 7 \end{pmatrix} \Rightarrow Adj\ K=\begin{pmatrix} 7 & -2 \\ -5 & 1 \end{pmatrix}$$

هغه وخت يو مېټريکس معکوس مېټريکس لري چې ديټرمينانټ يې د صفر خلاف وي، يعنې $|A|\neq 0$ وي. البته د بحث موضوع 2×2 مرتبې مېټريکس دی چې له لاندې فورمول څخه په لاس راځي.

$$A^{-1}=\frac{1}{|A|}\ Adj\ A \qquad |A|\neq 0$$

لومړی مثال: که چېرې $A=\begin{pmatrix} -3 & -2 \\ 5 & 6 \end{pmatrix}$ وي، معکوس مېټريکس يې پيدا کړئ.

حل: $|A|=\begin{vmatrix} -3 & -2 \\ 5 & 6 \end{vmatrix}=-18+10=-8\neq 0$

ليدل کېږي چې د A مېټريکس ديټرمينانټ د صفر خلاف دی، نو د A مېټريکس معکوس مېټريکس لري.

$$A^{-1}=\frac{1}{|A|}Adj\ A=\frac{1}{-8}\begin{pmatrix} 6 & 2 \\ -5 & -3 \end{pmatrix}=\begin{pmatrix} \frac{6}{-8} & \frac{2}{8} \\ \frac{-5}{-8} & \frac{-3}{-8} \end{pmatrix}=\begin{pmatrix} -\frac{3}{4} & -\frac{1}{4} \\ \frac{5}{8} & \frac{3}{8} \end{pmatrix}$$

ازموينه:

$$\begin{pmatrix} -3 & -2 \\ 5 & 6 \end{pmatrix}\cdot\begin{pmatrix} \frac{-3}{4} & -\frac{1}{4} \\ \frac{5}{8} & \frac{3}{8} \end{pmatrix}=\begin{pmatrix} \frac{9}{4}-\frac{5}{4} & \frac{3}{4}-\frac{3}{4} \\ -\frac{15}{4}+\frac{15}{4} & -\frac{5}{4}+\frac{9}{4} \end{pmatrix}=\begin{pmatrix} 1 & 0 \\ 0 & 1 \end{pmatrix}=I$$

په عمومي ډول ويلی شو، د هر $A=\begin{pmatrix} a & b \\ c & d \end{pmatrix}$ مېټريکس چې ديټرمينانټ يې د صفر خلاف يعنې $|A|\neq 0$ وي، معکوس لري چې له دې فورمول څخه په لاس راځي:

$$A^{-1}=\frac{1}{|A|}\begin{pmatrix} d & -b \\ -c & a \end{pmatrix}$$

پوښتنې

1. د لاندې مېټريکسونو څخه کوم يو مېټريکس معکوس لري.

$a)\quad A=\begin{pmatrix} 5 & 1 \\ -10 & -2 \end{pmatrix}$ $\qquad b)\quad B=\begin{pmatrix} 5 & 19 \\ 4 & 15 \end{pmatrix}$

2. د لاندې مېټريکسونو معکوس مېټريکس په لاس راوړئ او وازموئ.

$1)\quad A=\begin{pmatrix} 1 & 2 \\ 3 & 1 \end{pmatrix}$ $\qquad 2)\quad B=\begin{pmatrix} -1 & 2 \\ 1 & 3 \end{pmatrix}$ $\qquad 3)\quad C=\begin{pmatrix} -1 & -3 \\ 1 & 1 \end{pmatrix}$

(c) ketabton.com: The Digital Library

له معکوس میټریکس څخه په کاراخیستني د خطي معادلو د سیستم حل

آیا تر اوسه مو له معکوس میټریکس څخه په ګټه اخیستنې د خطي معادلو د سیستم د حل په اړه فکر کړی دی؟

$$X = A^{-1} \cdot B$$

فعالیت

د خطي دوه مجهوله معادلو سیستم $\begin{cases} a_1x + b_1y = c_1 \\ a_2x + b_2y = c_2 \end{cases}$ په پام کې و نیسئ:

- د ضریبونو میټریکس، د مجهولینو میټریکس، د ضریبونو او مجهولینو میټریکس ولیکئ.
- هر میټریکس د معادلې په ډول ولیکئ.
- د لاس ته راغلې معادلې اطراف د ضریبونو د میټریکس په معکوس کې ضرب کړئ.

له پورتني فعالیت څخه کولای شو لاندې پایله بیان کړو:

$$A = \begin{pmatrix} a_1 & b_1 \\ a_2 & b_2 \end{pmatrix} \quad , \quad X = \begin{pmatrix} x \\ y \end{pmatrix} \quad , \quad B = \begin{pmatrix} c_1 \\ c_2 \end{pmatrix}$$

څرنګه چې A د سیستم د چپ لوري د ضریبونو میټریکس، B د ښي لوري د ثابتو عددونو ستوني میټریکس او X د مجهولو عددونو ستوني میټریکس دی، نو د A^{-1} په پام کې نیولو سره سیستم داسې حلیږي:

$$AX = B$$

$$A^{-1} \cdot AX = A^{-1} \cdot B \quad \Rightarrow \quad (A^{-1} \cdot A)X = A^{-1} \cdot B$$

$$IX = A^{-1} \cdot B \quad \Rightarrow \quad X = \begin{pmatrix} x \\ y \end{pmatrix} = A^{-1} \cdot B$$

(c) ketabton.com: The Digital Library

لومړی مثال: له معکوس مټریکس څخه په کار اخېستنې سره، د $\begin{cases} x+2y=5 \\ x+3y=7 \end{cases}$ خطي دوه مجهوله سیستم حل کړئ.

حل: پوهېږو چې $A=\begin{pmatrix} 1 & 2 \\ 1 & 3 \end{pmatrix}$ $X=\begin{pmatrix} x \\ y \end{pmatrix}$ او $B=\begin{pmatrix} 5 \\ 7 \end{pmatrix}$ دی.

$$\begin{pmatrix} 1 & 2 \\ 1 & 3 \end{pmatrix}\begin{pmatrix} x \\ y \end{pmatrix}=\begin{pmatrix} 5 \\ 7 \end{pmatrix}$$

$$|A|=\begin{vmatrix} 1 & 2 \\ 1 & 3 \end{vmatrix}=3-2=1\neq 0$$

څرنګه چې د A مټریکس دیټرمینانت د صفر خلاف دی، نو د A مټریکس معکوس لري نو سیستم د حل وړدی چې په لاندې ډول یې په لاس راوړو:

$$Adj\ A=\begin{pmatrix} 3 & -2 \\ -1 & 1 \end{pmatrix}$$

$$A^{-1}=\frac{1}{|A|}\begin{pmatrix} 3 & -2 \\ -1 & 1 \end{pmatrix}$$

$$A^{-1}=\frac{1}{1}\begin{pmatrix} 3 & -2 \\ -1 & 1 \end{pmatrix}=\begin{pmatrix} 3 & -2 \\ -1 & 1 \end{pmatrix}$$

$$X=A^{-1}B=\begin{pmatrix} 3 & -2 \\ -1 & 1 \end{pmatrix}\begin{pmatrix} 5 \\ 7 \end{pmatrix}$$

$$X=\begin{pmatrix} x \\ y \end{pmatrix}=\begin{pmatrix} 3\cdot 5-2\cdot 7 \\ -1\cdot 5+1\cdot 7 \end{pmatrix}=\begin{pmatrix} 15-14 \\ -5+7 \end{pmatrix}=\begin{pmatrix} 1 \\ 2 \end{pmatrix}\ ,\ x=1\ ,\ y=2$$

دویم مثال: له معکوس مټریکس څخه په کار اخیستنې سره د دغه خطي معادلو $\begin{cases} 5x-2y=2 \\ 3x-\ y=3 \end{cases}$ سیستم حل کړئ.

حل: پوهېږو چې:

$$B=\begin{pmatrix} 2 \\ 3 \end{pmatrix}\ ,\ X=\begin{pmatrix} x \\ y \end{pmatrix}\ ,\ A=\begin{pmatrix} 5 & -2 \\ 3 & -1 \end{pmatrix}$$

$$|A|=\begin{vmatrix} 5 & -2 \\ 3 & -1 \end{vmatrix}=-5+6=1\ \Rightarrow\ |A|\neq 0$$

(c) ketabton.com: The Digital Library

ليدل کيږي چې $|A|\neq 0$ دی، نو A معکوس مټريکس لري.

$$AdjA=\begin{pmatrix}-1 & 2\\ -3 & 5\end{pmatrix}$$

$$A^{-1}=\frac{1}{|A|}AdjA=\frac{1}{1}\begin{pmatrix}-1 & 2\\ -3 & 5\end{pmatrix}=\begin{pmatrix}-1 & 2\\ -3 & 5\end{pmatrix}$$

$$X=A^{-1}B=\begin{pmatrix}-1 & 2\\ -3 & 5\end{pmatrix}\begin{pmatrix}2\\ 3\end{pmatrix}$$

$$X=\begin{pmatrix}x\\ y\end{pmatrix}=\begin{pmatrix}-1\cdot 2+2\cdot 3\\ -3\cdot 2+5\cdot 3\end{pmatrix}=\begin{pmatrix}-2+6\\ -6+15\end{pmatrix}=\begin{pmatrix}4\\ 9\end{pmatrix}$$

$$\Rightarrow\ x=4\quad ,\quad y=9$$

دريم مثال: د x او y په کومو قميتونوکې لاندې معادلې په يو وخت کې صدق کوي.

$$\begin{cases}2x-3y=4\\ 4x-6y=1\end{cases}$$

حل:

د ياد شوي سيستم حل د سيستم د ضريبونو د مټريکسونو له تشکيل څخه په لاس راوړو:

$$A=\begin{pmatrix}2 & -3\\ 4 & -6\end{pmatrix},\ B=\begin{pmatrix}4\\ 1\end{pmatrix},\ X=\begin{pmatrix}x\\ y\end{pmatrix}$$

$$|A|=\begin{vmatrix}2 & -3\\ 4 & -6\end{vmatrix}=-12+12=0$$

څرنګه چې د A مټريکس ديټرمينانت صفر دی، نو د A مټريکس معکوس نه لري، په پايله کې ويلای شو چې سيستم حل نه لري.

(c) ketabton.com: The Digital Library

پوښتنې

له معکوس مټریکس څخه په ګټې اخیستنې، د لاندې خطي معادلو سیستمونه حل کړئ.

$$a)\ \begin{cases} 2x - y = 1 \\ 5x - 2y = 2 \end{cases}$$

$$b)\ \begin{cases} 3p - 5q = 7 \\ 2p - 4q = 6 \end{cases}$$

$$c)\ \begin{cases} a + b = 11 \\ 4a - b = 9 \end{cases}$$

(c) ketabton.com: The Digital Library

د خطي معادلو د سیستم حل د کرامر په طریقه

Crammer's rule

آیا کولای شو، د ضریبونو د متریکس د دیټرمینانت او لــه مجهولینــو یعنــي د z, y, x ســره د متنــاظرو متریکسونو د دیټرمینانت په واسطه د خطي معادلو د سیستم حل پیدا کړو؟

$$x = \frac{|A_x|}{|A|}$$

$$y = \frac{|A_y|}{|A|}$$

$$z = \frac{|A_z|}{|A|}$$

د خطي دري مجهوله معادلو سیستم په پام کې نیسو او د ضریبونو متریکس یې په A سره ښیو:

$$a_{11}x + a_{12}y + a_{13}z = d_1$$

$$a_{21}x + a_{22}y + a_{23}z = d_2$$

$$a_{31}x + a_{32}y + a_{33}z = d_3$$

$$A = \begin{pmatrix} a_{11} & a_{12} & a_{13} \\ a_{21} & a_{22} & a_{23} \\ a_{31} & a_{32} & a_{33} \end{pmatrix}$$

کولای شو د y, x او z قیمتونه له لاندې اړیکو څخه په لاس راوړو، په داسې حال کې چې $|A| \neq 0$ وي.

$$X = \frac{|A_x|}{|A|} \quad , \quad y = \frac{|A_y|}{|A|} \quad , \quad z = \frac{|A_z|}{|A|}$$

په پورتنیو اړیکو کې $|A_x|$، $|A_y|$ او $|A_z|$ په ترتیب سره د y, x او z اړوند متناظرو متریکسونو دیټرمینانتونه دي. د هغوی د محاسبې لپاره په لاندې ډول کړنه کوو، د سیستم زیات شوي متریکس لیکو:

$$\left(\begin{array}{ccc:c} a_{11} & a_{12} & a_{13} & d_1 \\ a_{21} & a_{22} & a_{23} & d_2 \\ a_{31} & a_{32} & a_{33} & d_3 \end{array}\right)$$

(c) ketabton.com: The Digital Library

د $|A_x|$ د محاسبې لپاره د لومړی ستون د x ضریبونو په ځای ځلورم ستون(هغه ثابت مقدارونه چې د سیستم ښي لوري ته پراته دي) ځای پر ځای کوو، د 3×3 مرتبې مټریکس دیټرمینانت په لاس راوړو او د $|A_y|$ د محاسبې لپاره د دویم ستون د y ضریبونه په ځای د ځلورم ستون هغه ثابت مقدارونه چې د سیستم ښي لوري ته پراته دي ځای پر ځای کوو او د 3×3 مرتبې د مټریکس دیټرمینانت محاسبه کوو.او د $|A_z|$ د محاسبې لپاره دریم ستون د z ضریبونو په ځای ځلورم ستون ځای په ځای کوو او د 3×3 مرتبې مټریکس دیټرمینانت قیمت په لاس راوړو.

فعالیت

- له پورتنیو معلوماتو څخه په ګټې اخیستنې سره $|A_x|$ ، $|A_y|$ او $|A_z|$ پیدا کړئ.

لومړی مثال: د $\begin{cases} x-3y=3 \\ 2x+y=2 \end{cases}$ سیستم حل د کرامر په طریقه په لاس راوړئ.

حل:

$$A=\begin{vmatrix}1 & -3\\ 2 & 1\end{vmatrix}=1-(-6)=1+6=7\neq 0$$

څرنګه چې $|A|\neq 0$ دي؛ نو سیستم حل لري.

$$\left(\begin{array}{cc:c}1 & -3 & 3\\ 2 & 1 & 2\end{array}\right)$$

$$x=\frac{|A_x|}{|A|}=\frac{\begin{vmatrix}3 & -3\\ 2 & 1\end{vmatrix}}{|A|}=\frac{3-(-6)}{7}=\frac{3+6}{7}=\frac{9}{7}$$

$$x=\frac{|A_y|}{|A|}=\frac{\begin{vmatrix}1 & 3\\ 2 & 2\end{vmatrix}}{7}=\frac{2-6}{7}=-\frac{4}{7}$$

(c) ketabton.com: The Digital Library

دويم مثال: لاندې درې مجهوله سيستم د كرامر په طريقه حل كړئ.

$$\begin{cases} 3x-2y+2z=-4 \\ x+3y+z=5 \\ 2x+2y-z=11 \end{cases}$$

حل:

$$|A|=\left|\begin{array}{ccc|cc} 3 & -2 & 2 & 3 & -2 \\ 1 & 3 & 1 & 1 & 3 \\ 2 & 2 & -1 & 2 & 2 \end{array}\right| \begin{array}{l} =-9-4+4-12-6-2 \\ =-21-8=-29\neq 0 \end{array}$$

خرنګه چې $|A|\neq 0$ دئ نو له دې امله سيستم حل لري.

$$|A_x|=\left|\begin{array}{ccc|cc} -4 & -2 & 2 & -4 & -2 \\ 5 & 3 & 1 & 5 & 3 \\ 11 & 2 & -1 & 11 & 2 \end{array}\right| \begin{array}{l} =12-22+20-(66-8+10) \\ =10-68=-58 \end{array}$$

$$x=\frac{|A_x|}{|A|}=\frac{-58}{-29}=2$$

$$|A_y|=\left|\begin{array}{ccc|cc} 3 & -4 & 2 & 3 & -4 \\ 1 & 5 & 1 & 1 & 5 \\ 2 & 11 & -1 & 2 & 11 \end{array}\right| \begin{array}{l} =-15-8+22-(20+33+4) \\ =-23+22-57=-58 \end{array}$$

$$y=\frac{|A_y|}{A}=\frac{-58}{-29}=2$$

$$|A_z|=\left|\begin{array}{ccc|cc} 3 & -2 & -4 & 3 & -2 \\ 1 & 3 & 5 & 1 & 3 \\ 2 & 2 & 11 & 2 & 2 \end{array}\right| =99-20-8-(-24+30-22)$$

$$=71+16=87$$

$$z=\frac{|A_z|}{A}=\frac{87}{-29}=-3$$

(c) ketabton.com: The Digital Library

میزان:

د y, x او z په لاس راغلي قیمتونه په اصلي سیستم کې وضع کوو:

$$3(2)-2(2)+2(-3)=6-4-6=-4 \quad \Rightarrow \; -4=-4$$
$$2+3(2)-3=2+6-3=8-3=5 \quad \Rightarrow \; 5=5$$
$$2(2)+2(2)-(-3)=4+4+3=11 \quad \Rightarrow \; 11=11$$

فعالیت

دگرامر په طریقې د لاندې معادلو سیستم حل په لاس راوړئ.

$$\begin{cases} 2x-3y=3 \\ x+2y=5 \end{cases}$$

پوښتني

د لاندې معادلو سیستمونه حل کړئ.

$$a)\ \begin{cases} x+y+z=1 \\ x-y-z=2 \\ 2x+y-2z=1 \end{cases} \qquad b)\ \begin{cases} x+y-az=0 \\ ax+2y-z=0 \\ 2x+ay+2z=0 \end{cases}$$

(c) ketabton.com: The Digital Library

د معادلو د سیستم حل دګوس ($Gouse$) په طریقه

آیا کولای شو له مټریکس څخه په کار اخېستني سره

د x, y او z مجهول قیمتونه پیدا کړو؟

$$\begin{cases} x+2y=5 \\ x+3y=7 \end{cases}$$

دګوس په طریقه د معادلو د سیستم د حل لپاره د ضریبونو مټریکس او ثابت قېمتونه لیکو وروسته په سطرونو او ستونونو، باندې لومړنۍ عملیو باندې د جمع، تفریق، ضرب او تقسیم سرته رسوو، یا سطرونه او ستونونه په یو سکالرکې ضربوو چې په پایله کې دوه مجهوله له منځه ځي او دریم مجهول محاسبه کېږي ، وروسته د نورو مجهولونو قیمت په لاس راوړو، د مټریکس سطرونه په $R_1, R_2, R_3, \ldots\ldots$ ښیو:

لومړی مثال: لاندې د خطي معادلو سیستم دګوس په طریقه حل کړئ.

$$\begin{cases} x+2y=5 \\ x+3y=7 \end{cases}$$

حل:د ضریبونو مټریکس لیکو:

$$\left(\begin{array}{cc|c} 1 & 2 & 5 \\ 1 & 3 & 7 \end{array}\right) \xrightarrow[\text{لومړی سطر منفي دوم سطردتفریق حاصل په دویم سطر کې لیکو.}]{R_1 - R_2 \to R_2} \begin{pmatrix} 1 & 2 & 5 \\ 0 & -1 & -2 \end{pmatrix} \xrightarrow[\text{دویم سطر په(-1) کې ضرب بدلون په دویم سطر کې لیکو.}]{R_2 \cdot (-1) \to R_2}$$

$$\left(\begin{array}{cc|c} 1 & 2 & 5 \\ 0 & 1 & 2 \end{array}\right) \Rightarrow y=2 \,, \quad \begin{array}{l} x+2y=5 \\ x+2(2)=5 \Rightarrow x=5-4 \Rightarrow x=1 \end{array}$$

پاملرنه: $R_1 - R_2 \to R_2$ په دې معنا چې له دویم سطر څخه لومړی سطر تفریق شوی او په دویم سطر کې بدلون لیکل شوی دی.

$R_2(-1) \to R_2$ داسې مفهوم لري چې دویم سطر په (-1) کې ضرب شوی او په دویم سطر کې لیکل شوی دی.

(c) ketabton.com: The Digital Library

فعالیت

- د خطي دوه مجهوله معادلو سیستم د گوس په طریقه حل کړئ.

$$\begin{cases} x+2y=-3 \\ 2x-y=4 \end{cases}$$

دویم مثال: د لاندې درې مجهوله معادلو سیستم د گوس په طریقه حل کړئ.

$$\begin{cases} 2x+3y-z=5 \\ 3x+y+2z=11 \\ 4x-2y+z=3 \end{cases}$$

حل: لومړی د سیستم د مجهولینودضریبونو او ثابتو عددونو متریکس لیکو:

$$\begin{matrix} R_1 \\ R_2 \\ R_3 \end{matrix}\left(\begin{array}{ccc|c} 2 & 3 & -1 & 5 \\ 3 & 1 & 2 & 11 \\ 4 & -2 & 1 & 3 \end{array}\right)$$

په لومړی پړاو کې د x ضریب په دویم سطر کې له منځه ورو. داسې چې لومړی سطر په -3 کې ضرب د دویم سطر له دوه چند سره جمع او په دویم سطر کې یې لیکو:

$$\left(\begin{array}{ccc|c} 2 & 3 & -1 & 5 \\ 3 & 1 & 2 & 11 \\ 4 & -2 & 1 & 3 \end{array}\right) \xrightarrow{-3R_1+2R_2 \to R_2} \left(\begin{array}{ccc|c} 2 & 3 & -1 & 5 \\ 0 & -7 & 7 & 7 \\ 4 & -2 & 1 & 3 \end{array}\right)$$

په دویم گام کې لومړی سطر په -2 کې ضرب له دریم سطر سره جمع او په دریم سطر کې یې لیکو:

$$\left(\begin{array}{ccc|c} 2 & 3 & -1 & 5 \\ 0 & -7 & 7 & 7 \\ 4 & -2 & 1 & 3 \end{array}\right) \xrightarrow{-2R_1+R_3 \to R_3} \left(\begin{array}{ccc|c} 2 & 3 & -1 & 5 \\ 0 & -7 & 7 & 7 \\ 0 & -8 & 3 & -7 \end{array}\right)$$

په دریم پړاو کې د y ضریب له دریم سطر څخه حذفوو، داسې چې دویم سطر په -8 کې ضرب د دریم سطر له 7 چند سره جمع او په دریم سطر کې یې لیکو:

$$\left(\begin{array}{ccc|c} 2 & 3 & -1 & 5 \\ 0 & -7 & 7 & 7 \\ 0 & -8 & 3 & -7 \end{array}\right) \xrightarrow{-8R_2+7R_3 \to R_3} \left(\begin{array}{ccc|c} 2 & 3 & -1 & 5 \\ 0 & -7 & 7 & 7 \\ 0 & 0 & -35 & -105 \end{array}\right)$$

(c) ketabton.com: The Digital Library

له دریم سطر څخه کولای شو، د z قیمت په لاس راوړو:

$$-35z=-105 \Rightarrow z=3$$

د z قمیت په دویم سطرکې وضع او د y قیمت په لاس راوړو:

$$-7y+7z=7 \Rightarrow -7y+21=7 \Rightarrow -7y=-14 \quad , \quad y=2$$

په دریم پړاوکې د y او z قیمتونه په لومړي سطرکې ایږدو او x په لاس راځي.

$$2x+3y-z=5 \Rightarrow 2x+3\cdot 2-3=5 \Rightarrow 2x+3=5$$
$$2x=5-3=2 \quad , \quad x=1$$

د خطي معادلو د سیستم حل عبارت دی له: $(x,y,z)=(1,2,3)$

امتحان: لاسه ته داغلي قیمتونه د معادلو په سیستم کې وضع کوو.

$$2\cdot 1+3\cdot 2-3=5 \Rightarrow 2+6-3=5 \quad , \quad 5=5$$
$$3\cdot 1+2+2\cdot 3=11 \Rightarrow 3+2+6=11 \quad , \quad 11=11$$
$$4\cdot 1-2(2)+3=3 \Rightarrow 4-4+3=3 \quad , \quad 3=3$$

دریم مثال: د لاندې خطي معادلاتو سیستم دګوس په طریقه حل کړئ.

$$2x_1+4x_2+6x_3=18$$
$$4x_1+5x_2+6x_3=24$$
$$2x_1+7x_2+12x_3=40$$

حل:

$$\left(\begin{array}{ccc|c} 2 & 4 & 6 & 18 \\ 4 & 5 & 6 & 24 \\ 2 & 7 & 12 & 40 \end{array}\right) \xrightarrow[-2R_1+R_2\to R_2]{\text{لومړی پړاو}} \left(\begin{array}{ccc|c} 2 & 4 & 6 & 18 \\ 0 & -3 & -6 & -12 \\ 2 & 7 & 12 & 40 \end{array}\right)$$

$$\xrightarrow[-R_1+R_3\to R_3]{\text{دویم پړاو}} \left(\begin{array}{ccc|c} 2 & 4 & 6 & 18 \\ 0 & -3 & -6 & -12 \\ 0 & 3 & 6 & 22 \end{array}\right) \xrightarrow[R_2+R_3\to R_3]{\text{دریم پړاو}} \left(\begin{array}{ccc|c} 2 & 4 & 6 & 18 \\ 0 & -3 & -6 & -12 \\ 0 & 0 & 0 & 10 \end{array}\right)$$

لیدل کیږي چې په لاس راغلی میټریکس کې د x_2 , x_1 او x_3 ضریبونه په دریم سطرکې صفر دي، په داسې حال کې چې په یاد شوي سطرکې ثابت عدد 10 دی او دا غیر ممکن دی چې($x_1=x_2=x_3=0=10$) نو سیستم حل نه لري.

(c) ketabton.com: The Digital Library

فعالیت

د لاندې معادلو سیستم حل او میزان کړئ.

$$\begin{cases} x_2 + x_3 = 0 \\ x_1 + x_3 = 2 \\ x_1 + x_2 = 0 \end{cases}$$

پاملرنه: که چېرې د خطي معادلو په سیستم کې یو له مجهولینو څخه موجود نه وي، د هغه ضریب صفر په پام کې نیسو، وروسته د خطي معادلو د ضریبونو او د ثابتو مقدارونو متریکس تشکیلوو:

پوښتنې

د لاندې خطي معادلو سیستمونه د گوس په طریقه حل کړئ.

$$a)\ \begin{cases} 3x - y = -5 \\ x + 3y = 5 \end{cases} \qquad b)\ \begin{cases} 2x + 4y - 10z = -2 \\ 3x + 9y - 21z = 0 \\ x + 5y - 12z = 1 \end{cases} \qquad c)\ \begin{cases} 2x + 2y = 2 \\ x + 2y = 3 \\ -3y = -6 \end{cases}$$

(c) ketabton.com: The Digital Library

د شپږم څپرکي مهم ټکي

د مېټريکس تعریف: یوه ګېډۍ عددونه یا توري چې په سطري او ستوني ډول په یوه مستطیلي جدول کې ځای پر ځای شوي وي. د مېټريکس(Matrix) په نامه یادېږي.

د مېټريکسونو ډولونه:

- **سطري مېټريکس**: هغه مېټريکس چې یوازې یو سطر ولري.
- **ستوني مېټريکس**: هغه مېټريکس چې یوازې یو ستون ولري.
- **صفري مېټريکس**: هغه مېټريکس چې ټول عناصر یې صفرونه وي.
- **مربعي مېټريکس**: هغه مېټريکس چې د سطرونو او ستونونو شمېر یې سره برابر وي.
- **مساوي مېټريکسونه**: دوه مېټريکوسونه، هغه وخت سره مساوي دي چې ټول عناصر یې یو په یو سره برابر او مساوي وی.
- قطري مېټريکس هغه مېټريکس چې ټول عناصر یې پرته له اصلي قطر څخه صفرونه وي، قطر ي مېټريکس بلل کېږي.
- **سکالر مېټريکس**: هر قطري مېټريکس چې د اصلي قطر عناصر یې سره برابر وي، سکالري مېټريکس بلل کېږي.
- **واحد مېټريکس**: په هر سکالري مېټريکس کې که د اصلي قطر عناصر د 1 عدد وي، واحد مېټريکس بلل کېږي.

په مېټريکسونو باندې لومړني عملیات:

- **د مېټريکسونو جمع او تفریق**: د مېټريکسونو جمع او تفریق هغه وخت امکان لري چې:

$$A_{m\times n} \pm B_{m\times n} = (a_{ij})_{m\times n} \pm (b_{ij})_{m\times n} = (a_{ij} \pm b_{ij})_{m\times n} = (C_{ij})_{m\times n} = C_{m\times n}$$

د مېټريکسونو د جمعې او تفریق خواص:

1) $A+B=B+A$
2) $A-B\neq B-A$
3) $(A\pm B)\pm C = A\pm(B\pm C)$
4) $A+0=0+A=A$
5) $A+(-A)=-A+A=0$

په مېټريکس کې د سکالر ضربول: که $K\in IR$ او $A=(a_{ij})_{m\times n}$ وي، نو:

$$KA=K(a_{ij})_{m\times n}=(C_{ij})_{m\times n}=C_{m\times n}$$

په مېټريکس کې د سکالر ضرب خواص:

a) $\alpha(A+B)=\alpha A+\alpha B$
b) $(\alpha+\beta)A=\alpha A+\beta A$
c) $\alpha(\beta A)=(\alpha\beta)A=\beta(\alpha A)$

د دوو مېټريکسونو ضرب: د دوو مېټريکسونو ضرب هغه وخت ممکن دی چې د لومړي مېټريکس د ستونونو شمېر، د دويم مېټريکس د سطرونو له شمېر سره برابر وي، که $A=(a_{ij})_{m\times n}$ او $B=(b_{ij})_{n\times p}$ وي، نو:

$$A\cdot B=(a_{ij})_{m\times n}\cdot(b_{ij})_{n\times p}=(C_{ij})_{m\times p}=C_{m\times p}$$

(c) ketabton.com: The Digital Library

یعنې د دوو مېټریکسونو د ضرب حاصل هغه دریم مېټریکس دی چې د سطرونو شمېر یې له لومړي مېټریکس سره او د ستونونو شمېر یې له دویم مېټریکس سره برابر وي.

د مېټریکسونو د ضرب خواص: که A او B دوه مېټریکسونه وي، نو:

1) $AB \neq BA$ 2) $(AB)C = A(BC)$

3) $A(B+C) = AB + AC$ 4) $I \cdot A = A \cdot I = A$

5) $K(AB) = (KA)B = A(KB)$

د یوه مېټریکس ترانسپوز مېټریکس: که د یوه $A_{m\times n}$ مېټریکس ستونونه په سطرونو او سطرونه په ستونونو بدل شي، هغه نوی مېټریکس چې لاسته راځي ،د ټرانسپوز مېټریکس په نامه یادېږي. د A ترانسپوز مېټریکس په A^T سره ښيي.

مثلثي مېټریکس: که په یوه مېټریکس کې د اصلي قطر پورتني او یا ښکتني عناصر ټول صفرونه وي، نوموړی مېټریکس د مثلثي مېټریکس په نامه یادېږي.

متناظر مېټریکس: که د A یو مېټریکس له خپل ترانسپوز A^T مېټریکس سره برابر شي($A = A^T$) نو د A مېټریکس ته متناظر مېټریکس وايي.

دیټرمېنانت: که د A مېټریکس یوه حقیقي عدد ته نسبت ورکړل شي، د A د مېټریکس له دیټرمېنانت څخه عبارت دی، او د $|A|$ یا $\det A$ په شکل سره ښودل کېږي.

د دیټرمېنانت خواص:

1. که د $A_{n\times n}$ مېټریکس د یوه سطر او یا ستون ټول عناصر صفرونه وي، نو دیټرمېنانت یې صفر دی، یعنې:
$$\det A = |A| = 0$$
2. که د دیټرمېنانت دوه سطرونه او یا دوه ستونونه سره برابر وي، نو دیټرمېنانت یې صفر دی. $|A| = 0$
3. که $A_{n\times n}$ مېټریکس د یوه سطر یا ستون عناصر د بل سطر یا ستون د عناصرو مضرب وي، نو دیټرمېنانت یې صفر دی. $|A| = 0$
4. د A مېټریکس او د A ترانسپوز مېټریکس دیټرمېنانتونه سره مساوي وي، یعنې: $|A^T| = |A|$

د مېټریکسونو ضربي معکوس: د $A = (a_{ij})_{m\times n}$ مربعي مېټریکس په پام کې نیسو ،که چېرې د B مربعي مېټریکس داسې موجود وي چې $AB = BA = I$ ، په دې صورت کې د B مېټریکس د A د مېټریکس معکوس دی او د A د مېټریکس معکوس مېټریکس په A^{-1} سره ښيي: $A \cdot A^{-1} = A^{-1} \cdot A = I$

د خطي معادلو د سیستم حل:

- له معکوس مېټریکس څخه په ګټه اخیستنې د خطي معادلو د سیستم حل.
- د خطي معادلو د سیستم حل د کرامر په طریقه.
- د ګوس په طریقه د خطي معادلو د سیستم حل.

(c) ketabton.com: The Digital Library

د څپرکي پوښتنې

لاندې پوښتنو ته څلور ځوابونه ورکړل شوي دي، له سم ځواب څخه کړۍ تاو کړئ.

1. که $|A| = 3$ وي، نو $|A^{-1}|$ پیدا کړئ.

$a)\ \frac{1}{3}$ $\quad b)\ 9$ $\quad c)\ \frac{1}{9}$ $\quad d)\ 3$

2. که $A = \begin{pmatrix} 2m-3 & -1 \\ 1 & m \end{pmatrix}$ معکوس منونکی متریکس وي، نو د m قیمت به څو وي؟

$a)\ m = 1, \frac{1}{2}$ $\quad b)\ m \neq 1$ $\quad c)\ m = 0$ $\quad d)\ m \neq 1, \frac{1}{2}$

3. که $A = \begin{pmatrix} 3 & 1 \\ 5 & 2 \end{pmatrix}$ وي، د x هغه متریکس په لاس راوړئ چې په دغه رابطه $Ax = A^{-1}$ کې صدق وکړي.

$a)\ \begin{pmatrix} 9 & 5 \\ 25 & 14 \end{pmatrix}$ $\quad b)\ \begin{pmatrix} 9 & -5 \\ -25 & 14 \end{pmatrix}$

$c)\ \begin{pmatrix} 9 & 5 \\ -25 & -16 \end{pmatrix}$ $\quad d)\ \begin{pmatrix} -9 & 5 \\ -25 & -12 \end{pmatrix}$

4. د $\begin{pmatrix} 2 & 1 \\ -2 & 1 \end{pmatrix}$ متریکس لاندې د $y = 2x$ د خط بدلون منونکي خط پیدا کړئ.

a) د y محور $\quad$ b) د x محور $\quad$ c) $y + 2x = 0$ $\quad$ d) $y = 0$

5. د x په کومو قیمتونو دغه دیټرمینانت $\begin{vmatrix} 1 & x & x^2 \\ 1 & 2 & 4 \\ 1 & 3 & 9 \end{vmatrix}$ صفر دی؟

$a)\ x = 1, 2$ $\quad b)\ x = 3, 1$ $\quad c)\ x = \frac{1}{2}, 3$ $\quad d)\ x = 3, 2$

6. د $\begin{vmatrix} 2 & -1 & 3 \\ 0 & 1 & -2 \\ 1 & 3 & 4 \end{vmatrix}$ دیټرمینانت حاصل په لاس راوړئ.

$a)\ 29$ $\quad b)\ 39$ $\quad c)\ 19$ $\quad d)\ 9$

(c) ketabton.com: The Digital Library

لاندې پوښتنې حل کړئ.

1. که $A=\begin{pmatrix}1 & 3\\ 0 & 4\end{pmatrix}$ او $B=\begin{pmatrix}-5 & 1\\ 2 & 3\end{pmatrix}$ وي، لاندې محاسبې غوښتل شوې دي:

$a)\ 3A-2B \qquad b)\ -4A+3B$

2. فرض کړئ که $A=\begin{pmatrix}1 & 0 & 2\\ -1 & 0 & 3\end{pmatrix}$ او $B=\begin{pmatrix}2 & 0\\ -1 & 3\\ 2 & -1\end{pmatrix}$ راکړل شوی وي، نو AB او BA محاسبه کړئ

او وواياست چې $AB = BA$ دی.

3. لاندې مټریکسونه په پام کې ونیسي:

$$C=\begin{pmatrix}-2 & 4\\ 0 & -1\end{pmatrix},\quad B=\begin{pmatrix}3 & 4\\ -2 & 2\end{pmatrix},\quad A=\begin{pmatrix}2 & 4\\ 0 & 1\end{pmatrix}$$

اشتراکي خاصیت، توزیعي خاصیت او د مټریکسونو ضرب د درو مټریکسونو لپاره وښایاست.

4. لاندې ډیټرمینانت په لنډ ډول محاسبه کړئ.

$$A=\begin{vmatrix}1 & 2 & -1\\ 1 & 0 & 2\\ 2 & 1 & 1\end{vmatrix}$$

5. د لاندې مټریکس معکوس مټریکس د الحاق(ad joint) په طریقه پیدا کړئ.

$$M=\begin{pmatrix}2 & -5\\ 3 & -9\end{pmatrix}$$

6. د لاندې خطي معادلو سیستمونه د کرامر په طریقه حل کړئ.

$$a)\ \begin{cases}2x+y+z=6\\ x-2y+2z=10\\ 3x-y-z=4\end{cases} \qquad b)\ \begin{cases}x_1-2x_2=4\\ 2x_1+4x_2=5\end{cases}$$

7. د لاندې خطي معادلو سیستمونه د گوس په طریقه حل کړئ.

$$a)\ \begin{cases}2x-3y+3z=0\\ 3x+2y-5z=0\\ 5x-4y-2z=0\end{cases} \qquad b)\ \begin{cases}2x+3y-7=1\\ 2y+27=-2\end{cases}$$

8. د لاندې خطي معادلو سیستمونه د معکوس مټریکس په طریقه حل کړئ.

$$a)\ \begin{cases}3x+y+1=0\\ 4x+3y-2=0\end{cases} \qquad b)\ \begin{cases}x-y=2\\ x+2y=-1\end{cases}$$

(c) ketabton.com: The Digital Library

اووم څپرکی

وکتورونه

(c) ketabton.com: The Digital Library

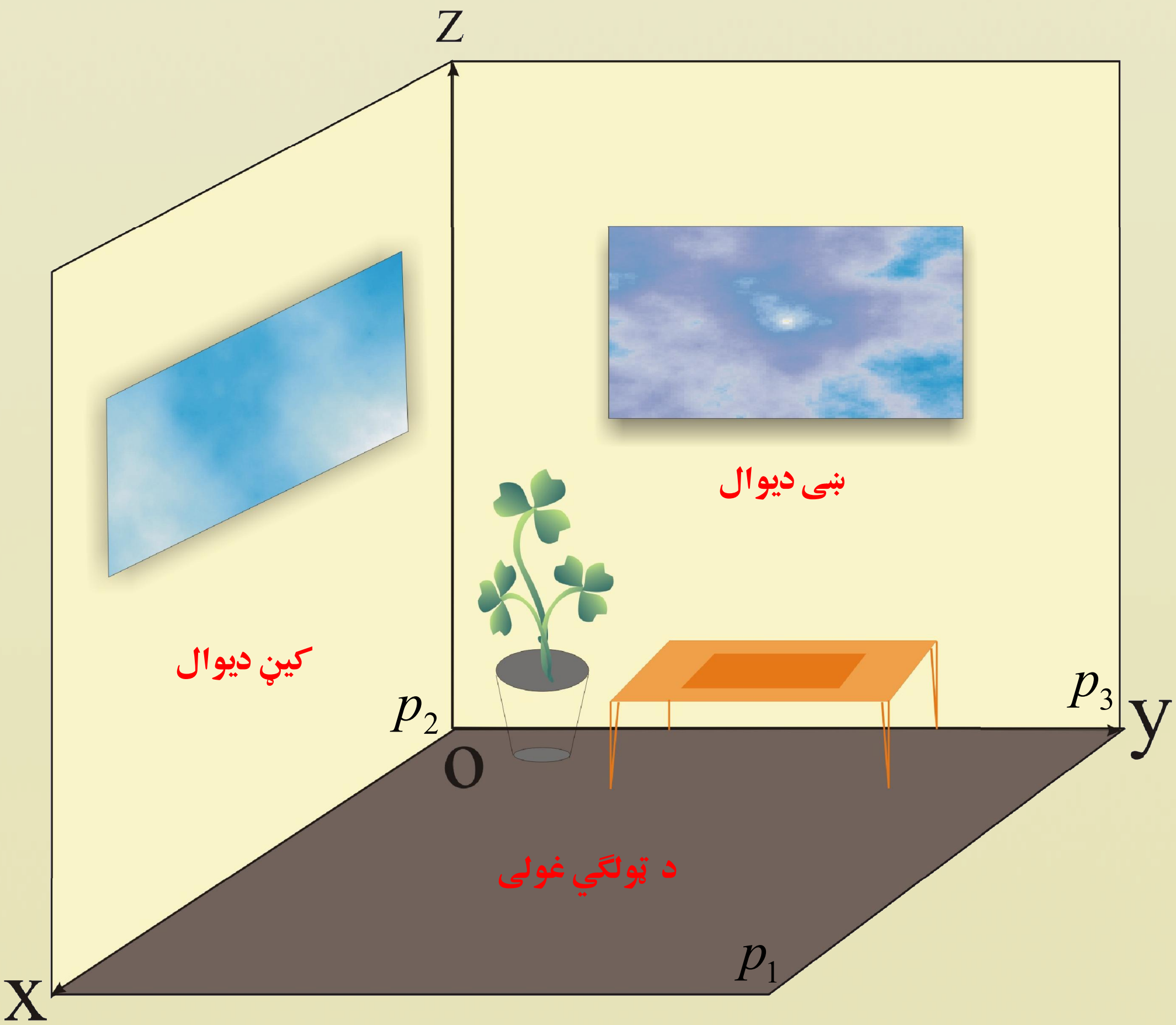

(c) ketabton.com: The Digital Library

د وضیعه کمیتونو په قایم سیستم کې وکتورونه

له یوه ټاکلي ټکي څخه د هغې شاوخوا بېلابېلو پرتو شیانو ته لنډه لاره په نښه کړئ.

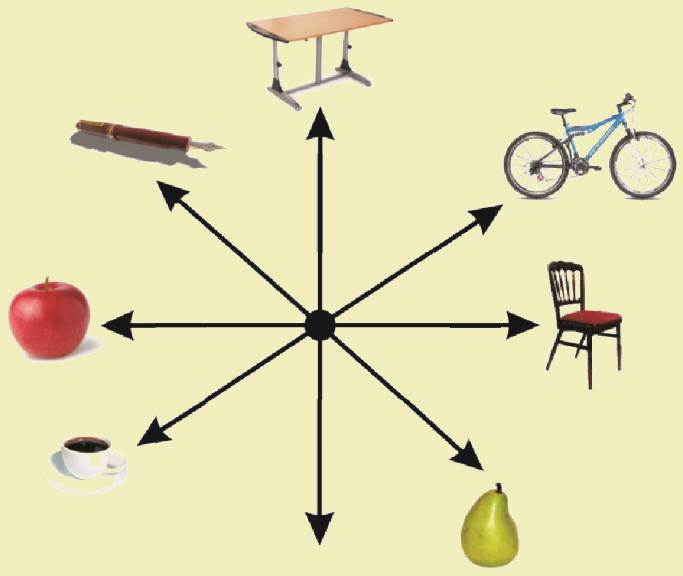

تعریف

جهت لرونکي قطعه خط ته وکتور وايي، یا په بل عبارت هغه کمیت چې هم مقدار لري او هم جهت لکه: قوه، فاصله، تعجیل او داسې نور. هر غشی د یو وکتور ممثل دی.

هغه وکتور چې مبداء یې د وضعیه کمیتونو د قایم سیستم په مبداء کې پروت وي، د شعاع وکتور (Position Vector) په نامه یادیږي.

فعالیت

- د وضعیه کمیاتو په قایم سیستم کې د شعاع وکتور داسې رسم کړئ چې د پای ټکی یې د B (5,5) مختصات ولري.
- د پورتني راکړل شوي وکتور درې ممثل وکتورونه په راکړل شوو قایمو مخصاتو کې داسې رسم کړئ چې وکتور او شعاع وکتورونه یې سره توپیر ولري.
- یو بل وکتور رسم کړئ چې له پورتني وکتور سره مساوي او د مخالف لوري او شعاع وکتور وي.

له پورتني فعالیت څخه لاندې پایله ترلاسه کېږي.

پایله: په یوه مستوي او په فضا کې هر ممثل وکتور د خپل شعاع وکتور په اندازه وي، لکه:

1. د $\vec{a}$ او $\vec{b}$ دوه وکتورونه هغه وخت مساوي بلل کېږي، چې اوږدوالی یې مساوي، $(|\vec{a}|=|\vec{b}|)$ موازي او د یو جهت لرونکی وي.
2. که چېرې یو وکتور $\vec{AB}=0$ وي، په دې صورت کې د $\vec{AB}$ وکتور صفري وکتور (Zero Vector) بلل کېږي.

(c) ketabton.com: The Digital Library

3. دوه وکتورونه هغه وخت مخالف یا منفي بلل کېږي چې اوږدوالی یې مساوي او جهت یې مخالف وي، د بېلګې په توګه:

که $\vec{OA}=\vec{a}$ وي، نو $\vec{AO}=-\vec{a}$ دی، په داسې حال کې چې: $(|\vec{OA}|=|\vec{AO}|)$ وي.

تعریف: د وضعیه کمیتونو په قایم سیستم کې یو وکتور په ستوني شکل داسې ښودل کېږي $\vec{a}=\begin{pmatrix}a_x\\a_y\end{pmatrix}$ په داسې حال کې چې a_x د x پرمحور وضعیه کمیت او a_y د y پرمحور د $\vec{a}$ وکتور فاصله او ترتیب ښیي.

لومړی مثال: د وضعیه کمیتونو په قایم سیستم کې د $\vec{a}=\begin{pmatrix}3\\2\end{pmatrix}$ او $\vec{b}=\begin{pmatrix}2\\3\end{pmatrix}$ وکتورونه وښایاست؟

حل: د پورتني تعریف له مخې لرو:

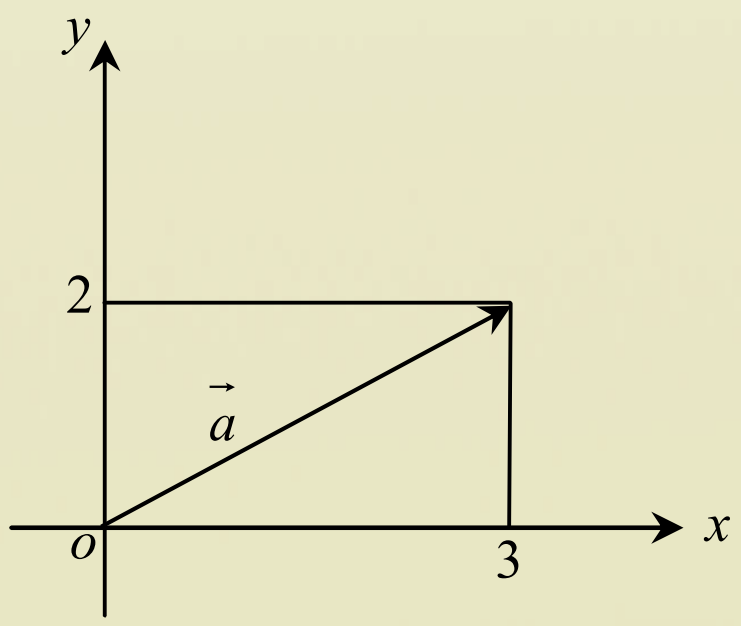

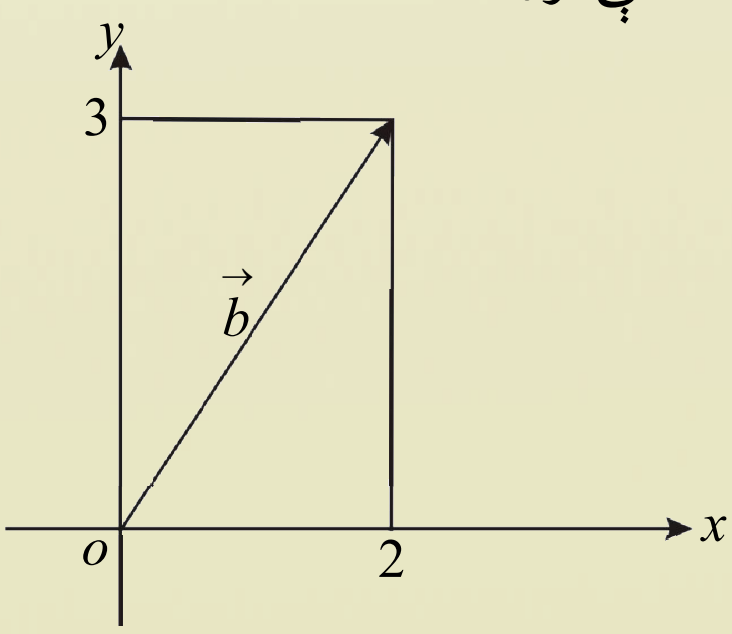

یادونه: د یو وکتور د ښودلو لپاره یوه مستوي په دې خاطر کارول کېږي، چې د قایم مختصاتو په سیستم کې د یو ټکي د ښودلو لپاره د مختصاتو په سیستم کې یوازې یو ځای شته، په داسې حال کې چې په مستوي کې د یو وکتور د ښودلو لپاره چې هماغه وکتور په مستوي کې ځای نیولی شي، بې نهایت ځایونه شته.

پوښتنې

1. د هغو وکتورونو لپاره چې په لومړي مثال کې ورکړل شوي دي، مطلوب دي:

a. د هر یوه وکتور درې ممثل وکتورونه رسم کړئ.

b. دواړه وکتورونه د شعاع وکتور په موقعیت کې رسم کړئ.

c. د هغوی مخالف وکتورونه کوم وکتورونه دي؟

(c) ketabton.com: The Digital Library

د دوو ټکو ترمنځ واټن او منځنۍ ټکی

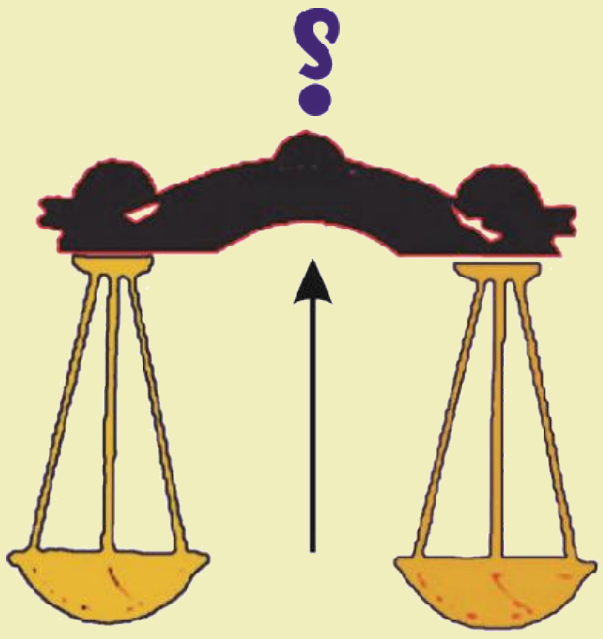

د تلې دوه هم وزنه پلې په پام کې نیسو، چې د یو شاهین په دواړو خواوو کې تړل شوي دي. د تلې د شاهین په لاس کې نیولو لپاره کوم ټکی وټاکو چې په نیولو یې د تلې پلې تعادل غوره کړي؟

فعالیت

د وضعیه کمیاتو په قایم سیستم کې د لاندې شکل په څېر $P(1,2)$ او $Q(4,4)$ ټکې په پام کې ونیسئ:

- د $\vec{PQ}$ د وکتور اوږدوالی څومره دی؟

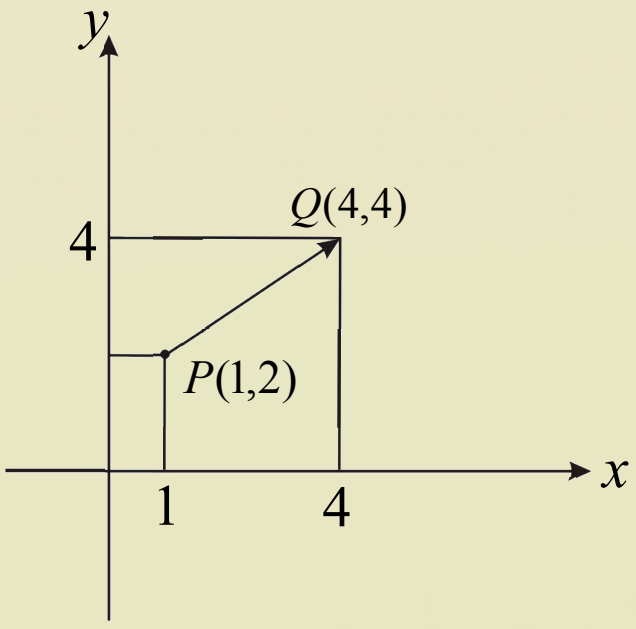

- د $\vec{PQ}$ د منځنې ټکي وضعیه کمیتونه څومره دي؟

د پورتني فعالیت له پای څخه لاندې پایلې ته رسېږو:

پایله: د $\vec{a}=\vec{PQ}$ وکتور د هرو دوو اختیاري ټکو لپاره چې $P(x_1,y_1)$ مبداء او $Q(x_2,y_2)$ انجام دی په دې صورت کې وکتور په $\vec{a}=\begin{pmatrix}a_x\\a_y\end{pmatrix}=\begin{pmatrix}x_2-x_1\\y_2-y_1\end{pmatrix}$ سره ښیو، د $P\hat{Q}N$ قایم الزاویه مثلث په پام کې نیولو سره د $|\vec{a}|$ د وکتور اوږدوالی عبارت دی، له: $|\vec{a}|=\sqrt{a_x^{\,2}+a_y^2}$

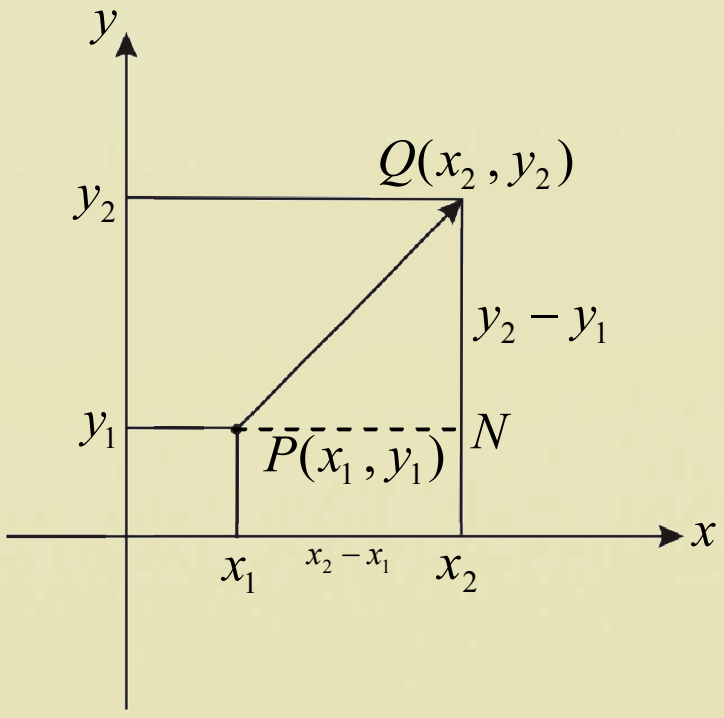

- د $\vec{PQ}$ منځنی ټکی عبارت دی، له:

$$M=\begin{pmatrix}x_m\\y_m\end{pmatrix}=\begin{pmatrix}\dfrac{x_1+x_2}{2}\\\dfrac{y_1+y_2}{2}\end{pmatrix}$$

(c) ketabton.com: The Digital Library

لومړی مثال: د $P(1,2)$ او $Q(4,4)$ د دوو ټکو ترمنځ واټن او منځنی ټکی پیدا کړئ؟

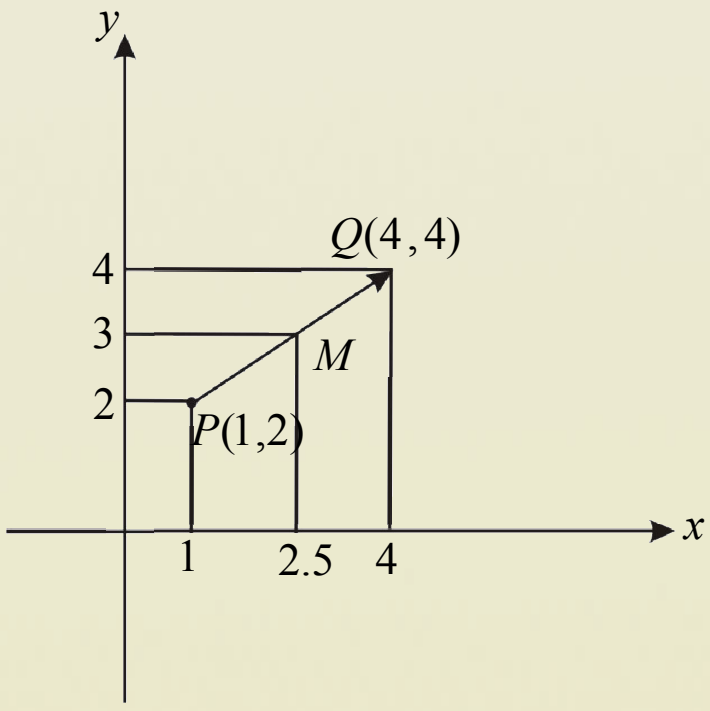

حل: د منځني ټکي د فورمول په کارولو سره لرو:

$$M=\begin{pmatrix}x_m\\ y_m\end{pmatrix}=\begin{pmatrix}\frac{1+4}{2}\\ \frac{2+4}{2}\end{pmatrix}=\begin{pmatrix}\frac{5}{2}\\ \frac{6}{2}\end{pmatrix}=\begin{pmatrix}2.5\\ 3\end{pmatrix}$$

نو د منځني ټکي وضعیه کمیت له $M=\begin{pmatrix}2.5\\ 3\end{pmatrix}$ څخه عبارت دی او د P او Q د دوو ټکو د واټن د پیداکولو لپاره د فیثاغورث د قضیې په پام کې نیولو سره لرو:

$$|\overrightarrow{PQ}|=\sqrt{a_x{}^2+a_x{}^2}=\sqrt{(x_2-x_1)^2+(y_2-y_1)^2}=\sqrt{(4-1)^2+(4-2)^2}=\sqrt{3^2+2^2}=\sqrt{13}$$

دویم مثال: د $A(2,4)$ او $B(5,5)$ د ټکو ترمنځ واټن او منځنی ټکی پیدا کړئ.

حل: د منځني ټکي د فورمول په کارولو سره لرو:

$$M=\begin{pmatrix}x_m\\ y_m\end{pmatrix}=\begin{pmatrix}\frac{2+5}{2}\\ \frac{5+4}{2}\end{pmatrix}=\begin{pmatrix}\frac{7}{2}\\ \frac{9}{2}\end{pmatrix}=\begin{pmatrix}3.5\\ 4.5\end{pmatrix}$$

$$|\overrightarrow{AB}|=\sqrt{(x_2-x_1)^2+(y_2-y_1)^2}=\sqrt{(5-2)^2+(5-4)^2}=\sqrt{9+1}=\sqrt{10}$$

پوښتنې

د لاندې ورکړ شوو ټکو ترمنځ واټن او منځنی ټکي پیدا کړئ.

$i)\ B(2,7)\ ,\ A(3,4)$

$ii)\ N(5,1)\ ,\ M(1,5)$

$iii)\ Q(8,8)\ ,\ P(1,8)$

(c) ketabton.com: The Digital Library

وکتورونه په سطح او فضا کې



د تلسکوپ په واسطه د ستورو د تګلوري ليدل په فضا کې ځانګړې وکتورونه ښيي.

د يوې سطحې پرمخ د وکتورونو لپاره يوه بېلګه راوړلای شئ؟

فعالیت

د لاندې شکل له مخې د وضعيه کمياتو د قايم سيستم او د $IR^2=\{(x,y)\ /\ x,y\in IR\}$ سټ په پام کې نيولو سره لاندې فعاليت سرته ورسوئ.

- د وضعيه کيماتو په سيستم کې د P يو ټکی چې وضعيه کميتونه يې (x,y) دی، په مستوي کې وټاکئ.
- د $\vec{u}$ يو شعاع وکتور چې وضعيه کميتونه يې $\begin{pmatrix}x\\y\end{pmatrix}$ دي، د وضعيه کميتونو په سيستم کې وښيئ.
- په مستوي کې د P يو ټکی چې وضعيه کميتونه يې (x,y) دي، په مستوي کې له $\vec{u}$ يو وکتور سره څه توپير لري چې وضعيه کميتونه يې $\begin{pmatrix}x\\y\end{pmatrix}$ وي؟
- د $\vec{u}=\begin{pmatrix}x\\y\end{pmatrix}$ او $\vec{v}=\begin{pmatrix}x'\\y'\end{pmatrix}$ دوه اختياري وکتورونه او $a\in IR$ يو سکالر لپاره په هندسي توګه د وضعيه کميتونو په قايم سيستم کې په جلا جلا ډول وښيئ، چې:

i) $\vec{u}+\vec{v}=\begin{pmatrix}x\\y\end{pmatrix}+\begin{pmatrix}x'\\y'\end{pmatrix}=\begin{pmatrix}x+x'\\y+y'\end{pmatrix}$ (د جمعې قاعده)

ii) $a\cdot\vec{u}=a\begin{pmatrix}x\\y\end{pmatrix}=\begin{pmatrix}ax\\ay\end{pmatrix}$ (دسکالري ضرب قاعده)

تعريف: د هغو ټولو مرتبو جوړو سټ چې د پورته قاعدې په څېر د جمعې او سکالري ضرب قاعدې پرې تطبيق وي، د IR^2 (مستوي) د وکتورونو فضا او يا په مستوي کې د وکتور په نامه ياديږي.

له پورتني فعاليت او تعريف څخه لاندې پايله لاسته راځي:

(c) ketabton.com: The Digital Library

پایله: د دوو ځانګړو وکتورونو $\vec{i}=\begin{pmatrix}1\\0\end{pmatrix}$ او $\vec{j}=\begin{pmatrix}0\\1\end{pmatrix}$ په پام کې نیولو سره چې اوږدوالی یې یو واحد او $|\vec{i}|=|\vec{j}|$ دي. $\vec{u}=\begin{pmatrix}x\\y\end{pmatrix}$ هر اختیاري وکتور لپاره لرو:

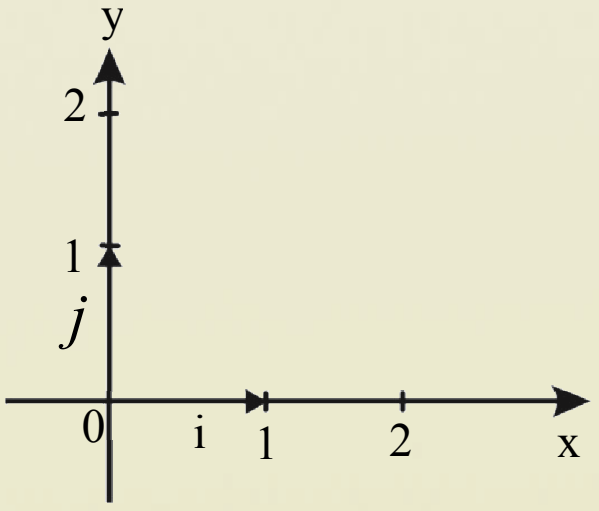

$$\vec{u}=\begin{pmatrix}x\\y\end{pmatrix}=\begin{pmatrix}x\\0\end{pmatrix}+\begin{pmatrix}0\\y\end{pmatrix}=x\begin{pmatrix}1\\0\end{pmatrix}+y\begin{pmatrix}0\\1\end{pmatrix}=x\vec{i}+y\vec{j}$$

$$\Rightarrow \vec{u}=\begin{pmatrix}x\\y\end{pmatrix}=x\vec{i}+y\vec{j}$$

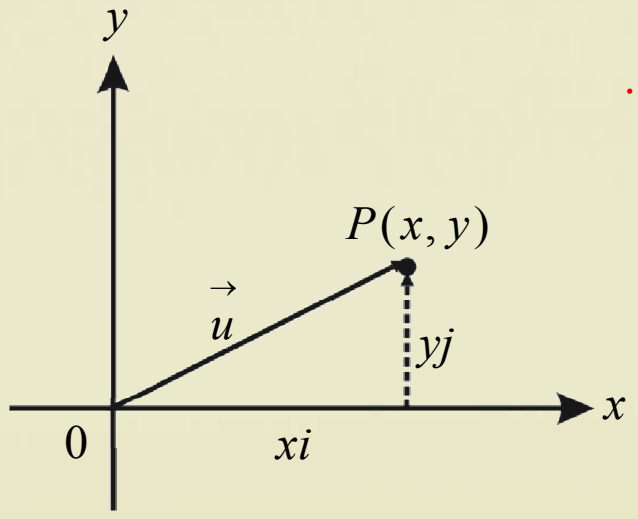

$\vec{i}$ او $\vec{j}$ واحد وکتورونه دی چې د x او y محورونو په امتداد پراته دي.

واحـد وکتـور(unit victor): هغه وکتـور دی چې طول یې یو واحد او د مختصې د جهت د تزایـد لپاره ترې کار اخلي.

لومړی مثال: که $\vec{u}=\begin{pmatrix}1\\-3\end{pmatrix}$ او $\vec{v}=\begin{pmatrix}2\\5\end{pmatrix}$ وي، د لاندې وکتورونو قیمت پیدا کړئ.

(i): $\vec{u}+\vec{v}=?$ (ii): $4\vec{u}+2\vec{v}=?$ (iii): $\vec{u}-\vec{v}=?$

(iv): $\vec{u}-\vec{u}=?$ (v): $|\vec{u}|=?$

حل:

$$i)\quad \vec{u}+\vec{v}=\begin{pmatrix}1\\-3\end{pmatrix}+\begin{pmatrix}2\\5\end{pmatrix}=\begin{pmatrix}1+2\\-3+5\end{pmatrix}=\begin{pmatrix}3\\2\end{pmatrix}=3\vec{i}+2\vec{j}$$

$$ii)\quad 4\vec{u}+2\vec{v}=4\begin{pmatrix}1\\-3\end{pmatrix}+2\begin{pmatrix}2\\5\end{pmatrix}=\begin{pmatrix}4+4\\-12+10\end{pmatrix}=\begin{pmatrix}8\\-2\end{pmatrix}=8\vec{i}-2\vec{j}$$

$$iii)\quad \vec{u}-\vec{v}=\begin{pmatrix}1\\-3\end{pmatrix}-\begin{pmatrix}2\\5\end{pmatrix}=\begin{pmatrix}1-2\\-3-5\end{pmatrix}=\begin{pmatrix}-1\\-8\end{pmatrix}=-\vec{i}-8\vec{j}$$

$$iv)\quad \vec{u}-\vec{u}=\begin{pmatrix}1\\-3\end{pmatrix}-\begin{pmatrix}1\\-3\end{pmatrix}=\begin{pmatrix}0\\0\end{pmatrix}=0$$

$$v)\quad |\vec{u}|=\sqrt{1^2+(-3)^2}=\sqrt{1+9}=\sqrt{10}$$

پوښتنه

1. که $\vec{u}=\begin{pmatrix}2\\-1\end{pmatrix}$ او $\vec{v}=\begin{pmatrix}3\\2\end{pmatrix}$ وي، $\vec{u}+2\vec{v}$، $\vec{u}-2\vec{v}$ او $2\vec{u}+4\vec{v}$ پیدا کړئ.

(c) ketabton.com: The Digital Library

په درې بعدي فضا کې د ټکي مختصات

که د ټولګي په فضا کې یو ټکی وټاکئ آیا داسې یوه د حل لاره شته چې د ټکي واټن نسبت د ټولګي غولي او مجاور دیوال ته وټاکو؟

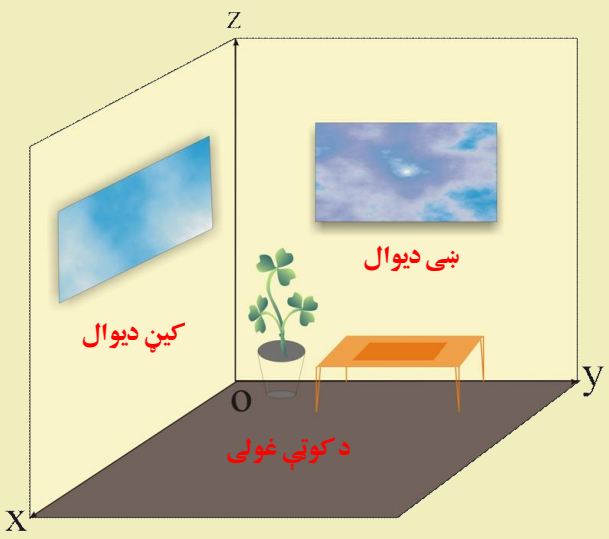

تعریف

درې بُعدي IR^3 فضا د ټولو هغو مرتبو درې ګونو (x, y, z) څخه عبارت دی چې په لاندې ډول تعریفیږي:

$$IR^3 = IR \times IR \times IR = \{(x, y, z) / x, y, z \in IR\}$$

هغه درې مستویګانې p_3, p_2, p_1 چې دوه په دوه یو په بل عمود دي، د درې بُعدي فضا د مختصاتو مستویګانې بلل کېږي.

د دغو مستویګانو د دوه په دوه ګډ فصل درې قایمې زاویې جوړوي چې هغه د درې بُعدي فضا قایم مختصات بولي. د درې بعدي فضا قایم مختصات داسې نوموي چې که یو تن ودرېږي، هغه محور چې د لیدونکي د تنې په لور دی، د z محور او هغه محور چې د لیدونکی د لید په لور دی د y محور او هغه محور چې د لیدونکو د ښي لاس په لور پروت دی، د x محور دی او د دغو درې واړو محورونو د تقاطع ټکی له O ټکي څخه عبارت دی . چې د قایمو مختصاتو مبداء ښیي.

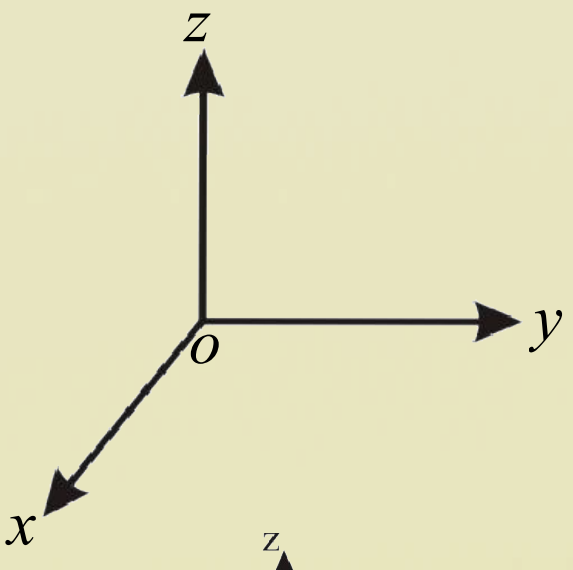

په درې بعدي فضا کې د یوه ټکي مختصات له هغه واټن څخه عبارت دي چې له درې واړو مستویګانو څخه یې لري.

د ټکي واټن د مختصاتو له مستوي ګانو څخه په $|x|$، $|y|$ او $|z|$ سره ښیي.

په درې بعدي فضا کې د یوه ټکي د ځای ټاکل:

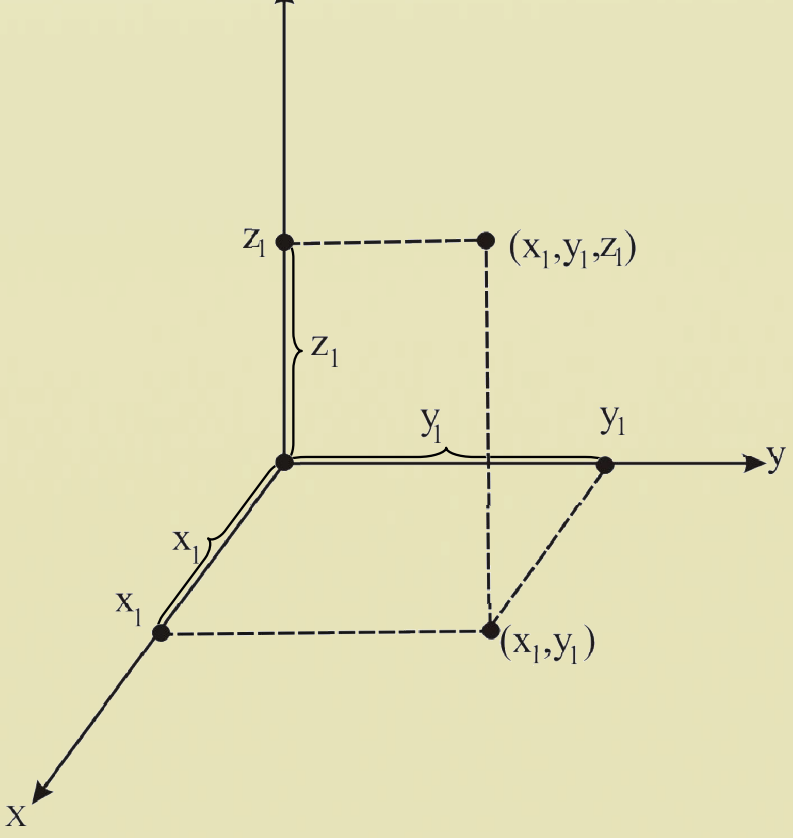

د درې بعدي فضا په قایمو مختصاتو کې د $A(x_1, y_1, z_1)$ ټکي د ټاکلو لپاره د هرې مختصې په اړوند محور باندې د مختصې علامې په پام کې نیولو سره فاصلې جلا کوو، لومړی د x له محور څخه موازي خط د y له محور سره رسموو، د تقاطع ټکی یې چې (x, y) دی، پیدا او وروسته له یاد شوي ټکي څخه یو بل خط موازي د z له محور سره رسموو، په پایله کې د تقاطع ټکی په لاس راځي چې په دې ترتیب د ټکي ټاکل په درې بعدي فضا کې بشپړیږي.

(c) ketabton.com: The Digital Library

يادونه: په درې بعدي فضا کې د y, x او z مختصو منفي جهتونه د نومړو محورونو له امتداد يافته څخه عبارت دي.

فعاليت

- د $A(2,4,3)$ او $B(-2,-3\ ,3)$ ټکي د درې بعدي فضا قايم سيستم کې وښاياست.

په فضا کې د $P(x,y,z)$ يو ټکی چې د $\overrightarrow{OP}$ وکتور له $\vec{u}$ سره مساوي دی، د IR^2 د فضا په شان په درې بعدي فضا يا IR^3 کې هم د جمعې او سکالري ضرب قاعدې د $\vec{u}$ او $\vec{v}$ دواړو وکتورونو لپاره او د a سکالر لپاره صورت نيسي:

$$\vec{u}+\vec{v}=\begin{pmatrix}x\\y\\z\end{pmatrix}+\begin{pmatrix}x'\\y'\\z'\end{pmatrix}=\begin{pmatrix}x+x'\\y+y'\\z+z'\end{pmatrix}$$ (د جمعې قاعده)

$$a\cdot\vec{u}=a\begin{pmatrix}x\\y\\z\end{pmatrix}=\begin{pmatrix}ax\\ay\\az\end{pmatrix}$$ (د سکالري ضرب قاعده)

لومړی مثال: که $\vec{v}=\begin{pmatrix}2\\1\\3\end{pmatrix}$ او $\vec{w}=\begin{pmatrix}-1\\4\\0\end{pmatrix}$ وي، $\vec{v}+\vec{w}$ ، $\vec{v}-\vec{w}$ ، $2\vec{w}$ او $\left|v-2\vec{w}\right|$ پيدا کړئ.

حل: لرو چې:

$$i)\quad \vec{v}+\vec{w}=\begin{pmatrix}2\\1\\3\end{pmatrix}+\begin{pmatrix}-1\\4\\0\end{pmatrix}=\begin{pmatrix}2-1\\1+4\\3+0\end{pmatrix}=\begin{pmatrix}1\\5\\3\end{pmatrix}$$

$$ii)\quad \vec{v}-\vec{w}=\begin{pmatrix}2\\1\\3\end{pmatrix}-\begin{pmatrix}-1\\4\\0\end{pmatrix}=\begin{pmatrix}2+1\\1-4\\3-0\end{pmatrix}=\begin{pmatrix}3\\-3\\3\end{pmatrix}$$

$$iii)\quad 2\vec{w}=2\begin{pmatrix}-1\\4\\0\end{pmatrix}=\begin{pmatrix}-2\\8\\0\end{pmatrix}$$

$$iv)\quad \left|\vec{v}-2\vec{w}\right|=\left|\begin{pmatrix}2\\1\\3\end{pmatrix}-\begin{pmatrix}-2\\8\\0\end{pmatrix}\right|=\left|\begin{pmatrix}2+2\\1-8\\3-0\end{pmatrix}\right|=\left|\begin{pmatrix}4\\-7\\3\end{pmatrix}\right|=\sqrt{4^2+(-7)^2+3^2}$$

$$=\sqrt{16+49+9}=\sqrt{74}$$

(c) ketabton.com: The Digital Library

یادونه:

A- کېدای شي سطحې ته ورته درې واحد وکتورونه $\vec{i}=\begin{pmatrix}1\\0\\0\end{pmatrix}$ ، $\vec{j}=\begin{pmatrix}0\\1\\0\end{pmatrix}$ ، $\vec{k}=\begin{pmatrix}0\\0\\1\end{pmatrix}$ چې:

$|\vec{i}|=|\vec{j}|=|\vec{k}|=1$ دي، په درې بعدي فضاکې په پام کې نیول شوي، د z,y,x محورونو په امتداد د واحد وکتورونو په نامه یادکړو. د جمعې د قاعدې په پام کې نیولو سره د $\vec{v}=\begin{pmatrix}x\\y\\z\end{pmatrix}$ هر اختیاري وکتور د واحد وکتور په پام کې نیولو سره په لاندې توګه ښودلی شو:

$$\vec{v}=\begin{pmatrix}x\\y\\z\end{pmatrix}=\begin{pmatrix}x\\0\\0\end{pmatrix}+\begin{pmatrix}0\\y\\0\end{pmatrix}+\begin{pmatrix}0\\0\\z\end{pmatrix}=x\vec{i}+y\vec{j}+z\vec{k}$$

B- **په فضا کې د دوو ټکو ترمنځ واټن**: که چېرې $\vec{OP_1}$ او $\vec{OP}_2$ د $P_1(x_1,y_1,z_1)$ او $P_2(x_2,y_2,z_2)$ د ټکو دوه شعاع وکتورونه وي، په دې توګه لرو:

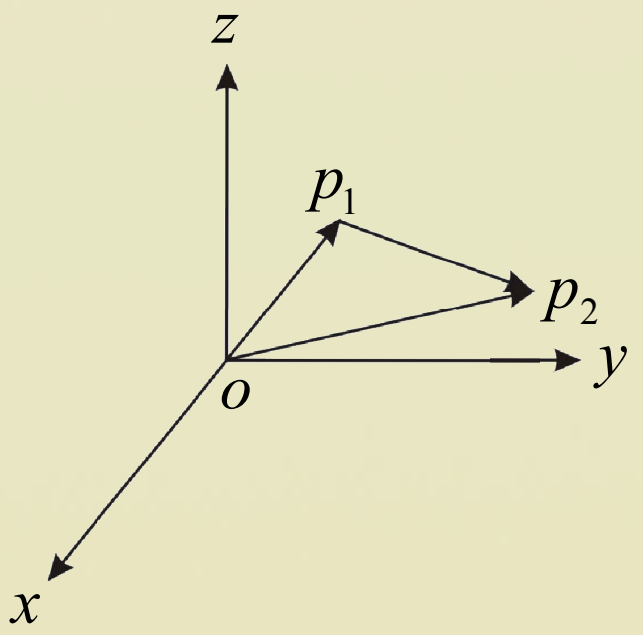

$$\overrightarrow{OP_1}+\overrightarrow{P_1P_2}=\overrightarrow{OP_2} \Rightarrow \overrightarrow{P_1P_2}=\overrightarrow{OP_2}-\overrightarrow{OP_1}$$

$$\Rightarrow \overrightarrow{p_1p_2}=\begin{pmatrix}x_2-x_1\\y_2-y_1\\z_2-z_1\end{pmatrix}$$

نو د P_1 او P_2 د ټکو ترمنځ د واټن د پیداکولو لپاره لرو:

$$\left|\overrightarrow{P_1P_2}\right|=\sqrt{(x_2-x_1)^2+(y_2-y_1)^2+(z_2-z_1)^2}$$

پورتنی فورمول د P_1 او P_2 ټکو ترمنځ واټن ښیي.

C- که په درې بُعدي فضا کې د یو ټکي واټن له مبدأ څخه مطلوب وي یعنې $(x_1,y_1,z_1)=(0,0,0)$ او $(x_2,y_2,z_2)=(x,y,z)$ وي؛ نو د ټکي واټن له مبدأ څخه د لاندې فورمول په واسطه پیداکولای شو:

$$\left|\overrightarrow{p_1p_2}\right|=\sqrt{(x-0)^2+(y-0)^2+(z-0)^2}=\sqrt{x^2+y^2+z^2}$$

(c) ketabton.com: The Digital Library

دويم مثال: که $\vec{a}=(-5\ ,\ 4\ ,\ 5)$ وی؛ نو د نومورِي شعاع وکتور طول څو دی؟

حل: د شعاع وکتور موقعیت ته په کتو سره چې د شعاع وکتور مبدأ د وضعیه کمیتونو په مبدأکې پرتـه ده د C جز له فورمول څخه ګټه اخلو:

$$|\vec{a}|=\sqrt{x^2++y^2+z^2}=\sqrt{(-5)^2+4^2+5^2}=\sqrt{25+16+25}=\sqrt{66}$$

دريم مثال: که $\vec{u}=2\vec{i}+3\vec{j}+\vec{k}$ ، $\vec{v}=4\vec{i}+6\vec{j}+2\vec{k}$ او $\vec{w}=6\vec{i}-9\vec{j}-3\vec{k}$ راکړل شوی وي.

ومومئ $ii)\ |\vec{u}-\vec{v}-\vec{w}|=?$ $\qquad i)\ \vec{u}+2\vec{v}=?$

حل: لرو چې:

$$i)\quad \vec{u}+2\vec{v}=2\vec{i}+3\vec{j}+\vec{k}+2(4\vec{i}+6\vec{j}+2\vec{k})$$

$$=2\vec{i}+3\vec{j}+\vec{k}+8\vec{i}+12\vec{j}+4\vec{k}=10\vec{i}+15\vec{j}+5\vec{k}$$

$$ii)\quad \vec{u}-\vec{v}-\vec{w}=2\vec{i}+3\vec{j}+\vec{k}-4\vec{i}-6\vec{j}-2\vec{k}-6\vec{i}-9\vec{j}+3\vec{k}=-8\vec{i}-12\vec{j}+2\vec{k}$$

$$|\vec{u}-\vec{v}-\vec{w}|=|-8i-12j+2k|=\sqrt{(-8)^2+(-12)^2+2^2}=\sqrt{64+144+4}=\sqrt{212}$$

پوښتني

1. د $\vec{u}$ او $\vec{v}$ وکتورونو جهت ته واحد وکتور پیداکړئ.

2. په دريم مثال کې چې $\vec{u},\vec{v}$ او $\vec{w}$ وکتورونه راکړل شوي دي پـه پام کې ونیسـئ او لانـدې پوښـتنو تـه ځوابونه ومومئ.

$a)\ 2\vec{u}-6\vec{v}+4\vec{w}=?$ $\qquad b)\ |\vec{u}-\frac{1}{3}\vec{v}-2\vec{w}|=?$

3. $\vec{u}$ او $\vec{v},\vec{v}$ او $\vec{w},\vec{w}$ او $\vec{u}$ وکتورونو ترمنځ واټن پیداکړئ.

4. د هغه وکتور واحدونه پیداکړئ چې د $\vec{u},\vec{v}$ او $\vec{w}$ وکتورونو په جهت پراته وي؟

(c) ketabton.com: The Digital Library

د یوه وکتور د جهت زاویې او کوساینونه

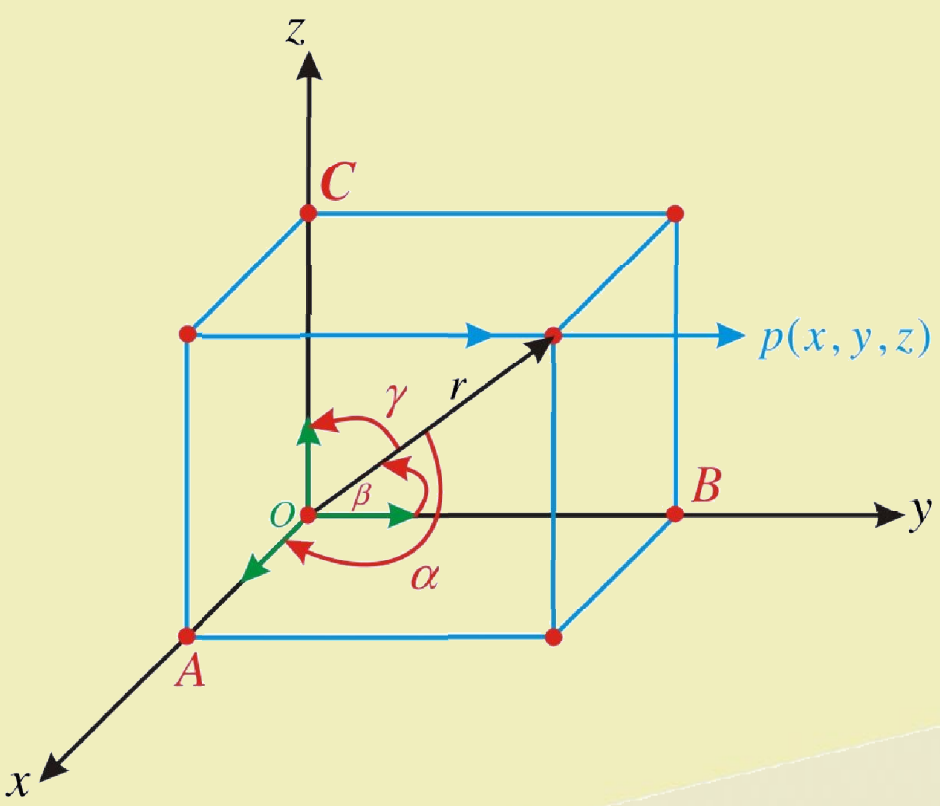

تعریف: که د $\vec{r}$ شعاع وکتور د قایمو مختصاتو له محورونو سره په ترتیب د α, β او γ زاویې جوړې کړي په دې صورت کې شکل ته په کتو سره لیکلای شو:

$$\overrightarrow{OP} = \vec{r}$$
$$\overrightarrow{OA} = \vec{r}_x$$
$$\overrightarrow{OB} = \vec{r}_y$$
$$\overrightarrow{OC} = \vec{r}_z$$

کولای شو د $\vec{r}$ د وکتور جهت کوساینونه په لاندې ډول ولیکو:

$$\cos\alpha = \frac{x}{r} \Rightarrow x = r\cos\alpha$$
$$\cos\beta = \frac{y}{r} \Rightarrow y = r\cos\beta$$
$$\cos\gamma = \frac{z}{r} \Rightarrow z = r\cos\gamma$$

د پورتنیو اړیکو چپ لوری مربع کوو او وروسته یې سره جمع کوو:

$$\cos^2\alpha + \cos^2\beta + \cos^2\gamma = \frac{x^2}{r^2} + \frac{y^2}{r^2} + \frac{z^2}{r^2} = \frac{x^2+y^2+z^2}{r^2}$$

پوهېږو چې $x^2 + y^2 + z^2 = r^2$ دی، نو:

$$\cos^2\alpha + \cos^2\beta + \cos^2\gamma = \frac{r^2}{r^2} = 1$$

فعالیت

که چېرې په یوه درې بعدي فضا کې $\vec{v} = \overrightarrow{OP} = x\vec{i} + y\vec{j} + z\vec{k}$ وکتور چې د صفر خلاف دی، ورکړ شوی وي، په داسې حال کې چې د پورته شکل په شان α, β او γ په ترتیب سره د $\vec{v}$ د وکتور زاویې او $\vec{i}, \vec{j}, \vec{k}$ واحد وکتورونه وي، په دې ډول لاندې فعالیت اجرا کړئ.

(c) ketabton.com: The Digital Library

- آیا ویلاي شئ چې د α, β او γ زاویې په کومه اندازه تحول کوي؟
- آیا له پورتنیو زاویو څخه یوه یې منفي کیدای شي؟
- که چیرې له زاویو څخه یوه یې صفر شي، د وکتور د موقعیت په هکله څه ویلای شئ؟
- د $\vec{v}$ د وکتور د جهت زاویو د کوساین لپاره یوه ګډه اړیکه پیدا کړئ؟

له پورتني فعالیت څخه لاندې پایلې ته رسیږو:

پایله: که په فضاکې د $\vec{v}$ یو وکتور، چې صفر نه وي، یعنې $\vec{v}=\begin{pmatrix} x \\ y \\ z \end{pmatrix}$، راکړل شوی وي، نو د جهت د زاویو د کوساینونو ترمنځ لاندې اړیکې شته:

$$\cos^2\alpha+\cos^2\beta+\cos^2\gamma=1$$

د پورتنۍ پایلې د ثبوت لپاره پوهیږو، چې:

$$\left|\vec{v}\right|=\left|\begin{pmatrix} x \\ y \\ z \end{pmatrix}\right|=\left|x\vec{i}+y\vec{j}+z\vec{k}\right|=\sqrt{x^2+y^2+z^2}$$

له بلې خوا د جهت د واحد وکتور یا د $\vec{v}=\vec{OP}$ مسیر عبارت دی، له:

$$\frac{\vec{v}}{\left|\vec{v}\right|}=\begin{pmatrix} \dfrac{\vec{v}_x}{\left|\vec{v}\right|} \\ \dfrac{\vec{v}_y}{\left|\vec{v}\right|} \\ \dfrac{\vec{v}_z}{\left|\vec{v}\right|} \end{pmatrix}$$

پوښتنې

1. که $\vec{u}=\vec{i}+2\vec{j}-\vec{k}$، $\vec{v}=3\vec{i}-2\vec{j}+2\vec{k}$ او $\vec{w}=5\vec{i}-\vec{j}+3\vec{k}$ وي، پیدا کړئ؟

$a)\ \vec{u}+2\vec{v}+\vec{w}=?$ $\qquad b)\ v-3\vec{w}=?$ $\qquad c)\ \left|3\vec{v}+\vec{w}\right|=?$

2. د α اندازه داسې پیدا کړئ چې د $\alpha\,\vec{i}+(\alpha+1)\,\vec{j}+2\vec{k}$ وکتور اوږدوالی مساوي په 3 وي.

(c) ketabton.com: The Digital Library

د دوو وکتورونو د سکالري ضرب حاصل

$$\vec{a}\cdot\vec{b}=|\vec{a}|\cdot|\vec{b}|\cdot\cos\theta$$

د دوو وکتورونو د سکالر ضرب حاصل د انجینرۍ او فزیک په زده کړه کې په کارېږي او د هغو ترمنځ زاویې په پام کې نیولو سره له یو سکالري کمیت سره مساوي دی، که چېرې:

$\vec{a}\cdot\vec{b}=|\vec{a}|\cdot|\vec{b}|\cdot\cos\theta$ وي، نو $\vec{a}\cdot\vec{b}=\vec{b}\cdot\vec{a}$ ده، که نه؟

تعریف

$\vec{u}$ او $\vec{v}$ دوه وکتورونه چې صفر نه وي په مستوي یا فضا کې په پام کې نیسو.

د $\vec{u}$ او $\vec{v}$ سکالري ضرب حاصل په $\vec{u}\cdot\vec{v}$ سره ښیو، چې حاصل یې عبارت دی، له: $\vec{u}\cdot\vec{v}=|\vec{u}|\cdot|\vec{v}|\cos\theta$

په داسې حال کې چې θ د $\vec{u}$ او $\vec{v}$ ترمنځ زاویه جوړه کړې او $(0\le\theta\le\pi)$ سره دي.

فعالیت

د وکتورونو د سکالري ضرب د حاصل په پام کې نیولو سره وښایاست، چې:

(i $\vec{i}\cdot\vec{i}=1,\quad \vec{j}\cdot\vec{j}=1,\quad \vec{k}\cdot\vec{k}=1$

(ii $\vec{i}\cdot\vec{j}=0,\quad \vec{j}\cdot\vec{k}=0,\quad \vec{k}\cdot\vec{i}=0$

(iii $\vec{u}\cdot\vec{v}=\vec{v}\cdot\vec{u}$

(iv که $\vec{u}$ او $\vec{v}$ د صفر خلاف او $\vec{u}\cdot\vec{v}=0$ وي، نو وکتورونه یو پر بل عمود دي.

- د دوه $\vec{a}=a_1\vec{i}+b_1\vec{j}$ او $\vec{b}=a_2\vec{i}+b_2\vec{j}$ وکتورونو لپاره د $\vec{a}\cdot\vec{b}$ ضرب حاصل د $a_1a_2+b_1b_2$ له سکالري قیمت سره مساوي دی.
- په فضا کې د $\vec{a}\cdot\vec{b}$ د ضرب حاصل مطلوب یا غوښتل شوی په دې ډول چې $\vec{a}=a_1\vec{i}+b_1\vec{j}+c_1\vec{k}$ او $\vec{b}=a_2\vec{i}+b_2\vec{j}+c_2\vec{k}$ وي.

د وکتورونو د سکالري ضرب د حاصل لپاره له پورتني فعالیت څخه لاندې پایله لاسته راځي.

پایله: که $\vec{u}$، $\vec{v}$ او $\vec{w}$ درې اختیاري وکتورونه او c یو حقیقي عدد وي، نو لرو:

(c) ketabton.com: The Digital Library

i) $\vec{u}\cdot\vec{v}=0 \Rightarrow \vec{u}\perp\vec{v}$

ii) $\vec{u}\cdot\vec{v}=\vec{v}\cdot\vec{u}$ (د ضرب تبادلوي خاصیت یا ځانګړتیا).

iii) $\vec{u}(\vec{v}+\vec{w})=\vec{u}\,\vec{v}+\vec{u}\,\vec{w}$ (په جمع د ضرب توزیعي خاصیت).

iv) $(c\cdot\vec{u})\vec{v}=c(\vec{u}\cdot\vec{v})$ د ضرب توزیعي خاصیت.

لومړی مثال: که $\vec{u}=a_1\vec{i}+b_1\vec{j}+c_1\vec{k}$ او $\vec{v}=a_2\vec{i}+b_2\vec{j}+c_2\vec{k}$ دوه وکتورونه د صفر خلاف وي، د سکالري ضرب حاصل یې پیدا کړئ.

حل: د تعریف له مخې لرو چې:

$$\vec{u}\cdot\vec{v}=(a_1\vec{i}+b_1\vec{j}+c_1\vec{k})(a_2\vec{i}+b_2\vec{j}+c_2\vec{k})$$

$$=a_1\cdot a_2(\vec{i}\cdot\vec{i})+a_1b_2\cdot(\vec{i}\cdot\vec{j})+a_1c_2(\vec{i}\cdot\vec{k})+b_1a_2(\vec{j}\cdot\vec{i})+b_1b_2(\vec{j}\cdot\vec{j})+b_1c_2(\vec{j}\cdot\vec{k})$$

$$+c_1\cdot a_2(\vec{k}\cdot\vec{i})+c_1b_2(\vec{k}\cdot\vec{j})+c_1c_2(\vec{k}\cdot\vec{k})=a_1a_2+b_1b_2+c_1c_2$$

دویم مثال: که $\vec{v}=\begin{pmatrix}x_1\\y_1\end{pmatrix}$ او $\vec{w}=\begin{pmatrix}x_2\\y_2\end{pmatrix}$ د یوې مستوي دوه وکتورونه وي، وښیاست چې:

$$\vec{v}\cdot\vec{w}=x_1x_2+y_1y_2$$

حل: د تعریف له مخې لرو: $\left|\vec{v}-\vec{w}\right|^2=\left|\vec{v}\right|^2+\left|\vec{w}\right|^2-2\vec{v}\cdot\vec{w}\cdot\cos\theta$

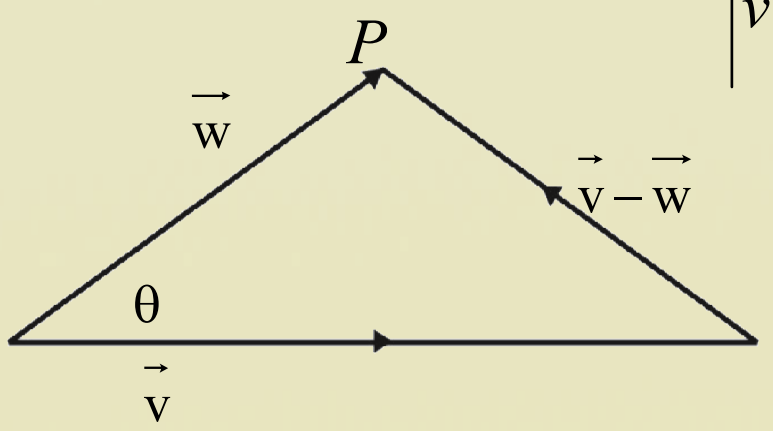

څرنګه چې $\vec{v}=\begin{pmatrix}x_1\\y_1\end{pmatrix}$ ، $\vec{w}=\begin{pmatrix}x_2\\y_2\end{pmatrix}$ په پایله کې $\vec{v}-\vec{w}=\begin{pmatrix}x_1-x_2\\y_1-y_2\end{pmatrix}$ دي، نو د پورتنی اړیکی څخه لرو:

$$|x_1-x_2|^2+|y_1-y_2|^2=|x_1^2+y_1^2||x_2^2+y_2^2|-2|\vec{v}|\cdot|\vec{w}|\cos\theta$$

$$\Rightarrow -2x_1x_2-2y_1y_2=-2|\vec{v}|\cdot|\vec{w}|\cos\theta\,/\div -2$$

$$\Rightarrow x_1x_2+y_1y_2=|\vec{w}|\cdot|\vec{v}|\cos\theta=\vec{v}\cdot\vec{w}$$

(c) ketabton.com: The Digital Library

دریم مثال: که چېرې د $\vec{v}=\vec{i}+2\vec{j}-\vec{k}$ او $\vec{u}=\vec{i}+2\vec{j}-\vec{k}$ وکتورونه درکړ شوي وي، د سکالري د ضرب حاصل يې پيدا کړئ.

حل: د فورمول په پام کې نیولو سره لرو:

$$\vec{u}\cdot\vec{v}=(\vec{i}+2\vec{j}-\vec{k})(\vec{i}+2\vec{j}-\vec{k})=i^2+4j^2+k^2=1+4+1=6$$

څلورم مثال: وښاياست چې د $\vec{v}=4\vec{i}-3\vec{j}-4\vec{k}$ او $\vec{u}=2\vec{i}-4\vec{j}+5\vec{k}$ وکتورونه یو پر بل عمود دي.

حل: په دې هکله لرو:

$$\vec{u}\cdot\vec{v}=(2\vec{i}-4\vec{j}+5\vec{k})(4\vec{i}-3\vec{j}-4\vec{k})=(2)(4)+(-4)(-3)+(5)(-4)$$

$$=8+12-20=0 \quad \Rightarrow \vec{u}\perp\vec{v}$$

څرنګه چې د وکتورونو د سکالري ضرب حاصل مساوي په صفر شو، نو وکتورونه یو پر بل عمود دي.

پنځم مثال: د α قیمت داسې پیدا کړئ چې د $2\vec{i}+\alpha\vec{j}+5\vec{k}$ او $3\vec{i}+\vec{j}+\alpha\vec{k}$ وکتورونه یو پربل عمود وي.

حل: د $\vec{u}$ او $\vec{v}$ وکتورونو له عمود والي څخه دې پايلې ته رسېږو چې: $\vec{u}\cdot\vec{v}=0$ دی، نو لرو:

$$\vec{u}\cdot\vec{v}=(2\vec{i}+\alpha\vec{j}+5\vec{k})\,(3\vec{i}+\vec{j}+\alpha\vec{k})=0 \quad\Rightarrow\quad 6+\alpha+5\alpha=0\;,\;\alpha=-1$$

شپږم مثال: وښاياست چې د $2\vec{i}-\vec{j}+\vec{k}$ ، $\vec{i}-3\vec{j}-5\vec{k}$ او $3i-4j-4k$ وکتورونه د یو قایم الزاويه مثلث ضلعې دی.

حل: که $\overrightarrow{AB}=2\vec{i}-\vec{j}+\vec{k}$ او $\overrightarrow{BC}=\vec{i}-3\vec{j}-5\vec{k}$ د مطلوب مثلث دوه ضلعې په پام کې ونیسو، نو دریمه ضلع يې د مثلث د وکتورونو د جمعې حاصل په پام کې نیولو سره چې د مثلث دریمه ضلع ټاکي عبارت دی له: $\overrightarrow{AB}+\overrightarrow{BC}=(2\vec{i}-\vec{j}+\vec{k})+(\vec{i}-3\vec{j}-5\vec{k})$

(چې د مثلث له دریمې ضلعې څخه عبارت دی) $3\vec{i}-4\vec{j}-4\vec{k}$ اوس ښيو چې نوموړی مثلث قايم الزاويه دی، د دې لپاره د وکتوري ضرب حاصل $\overrightarrow{AB}\cdot\overrightarrow{BC}=0$ وي.

$$\overrightarrow{AB}\cdot\overrightarrow{BC}=(2\vec{i}-\vec{j}+\vec{k})\,(\vec{i}-3\vec{j}-5\vec{k})$$

$$=(2)(1)+(-1)(-3)+(1)(-5)=2+3-5=0$$

$$\Rightarrow\overrightarrow{AB}\perp\overrightarrow{BC}$$

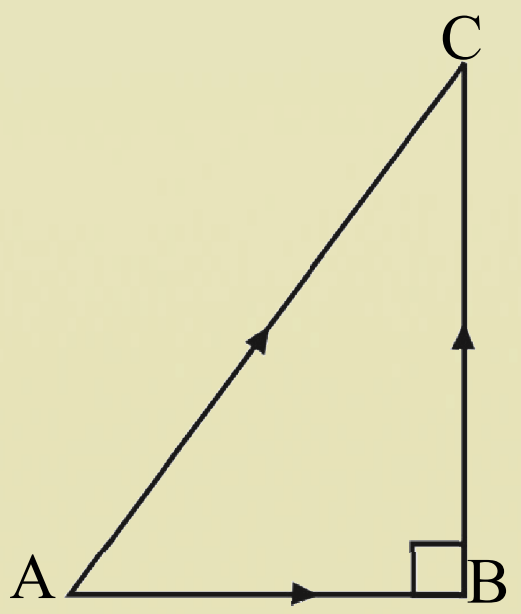

(c) ketabton.com: The Digital Library

پوښتنې

1. وښایاست چې د $\vec{v}=a\vec{i}+b\vec{j}+c\vec{k}$ وکتور مرتسمونه د $\vec{i},\vec{j},\vec{k}$ واحد کتورونو په امتداد په ترتیب سره له a, b او c سره مساوي دي.

2. وښایاست چې هر $\overset{\Delta}{ABC}$ کې لاندې اړیکې وجود لري:

$i)\ a^2=b^2+c^2-2bc\cdot\cos A \qquad ii)\ a=b\cdot\cos C+c\cdot\cos B$

3. ثبوت کړئ چې: $\cos(\alpha-\beta)=\cos\alpha\cos\beta+\sin\alpha\sin\beta$

(c) ketabton.com: The Digital Library

د وکتوري ضرب حاصل

The cross Product

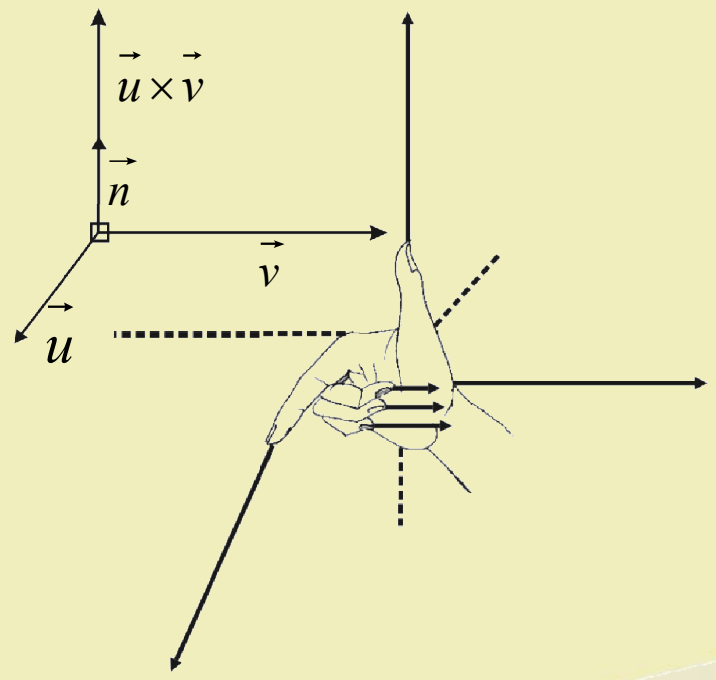

د راکړل شوي شکل له مخې د کوم لاس (ښي یا کیڼ) په واسطه د $\vec{v}\cdot\vec{u}$ او $\vec{u}\times\vec{v}$ وکتورونه داسې وښيو چې $\vec{u}$ د ورغوي په جهت، $\vec{v}$ د ښنګل په جهت او $\vec{u}\times\vec{v}$ د ښي لاس د غټې ګوتې په لور واقع شي؟

تعریف

د $\vec{u}$ او $\vec{v}$ دوه وکتورونه، چې صفر نه وي، په پام کې نیسو. د $\vec{u}$ او $\vec{v}$ دوو وکتورونو د وکتوري ضرب حاصل په $\vec{u}\times\vec{v}$ چې($\vec{u}$ کرس $\vec{v}$ لوستل کیږي) عبارت دی، له: یعنې د دوو وکتورونو وکتوري ضرب له هغه دریم وکتور څخه عبارت دی چې د دوی د مبدأ په ټکي عمود وي.

$$\vec{u}\times\vec{v}=(|\vec{u}|\cdot|\vec{v}|\sin\theta)\,\vec{n}$$

په داسې حال کې چې θ د $\vec{u}$ او $\vec{v}$ $(0\le\theta\le\pi)$ وکتورنو تر منځ زاویه او $\vec{n}$ د $\vec{u}$ او $\vec{v}$ د وکتورونو په واسطه جوړه شوي مستوي له عمود واحد وکتور څخه عبارت دی، د ښي لاس قاعدې په واسطه (Right hand rule) ښودل کیږي.

د دوو وکتورونو وکتوري ضرب

مخکې له دې چې د دوو وکتورنو وکتوري ضرب توضیح کړو، لازمه ده چې د وکتورونو خطي ترکیب، وکتوري فضا، د وکتورونو خطي خپلواکي(استقلالیت) په لنډ ډول تر څېړنې لاندې ونیسو.

1. **د وکتورونو خطي ترکیب**: د یوه سټ د وکتورونو د سکالري مضربونو مجموعه د همغه سټ د وکتورونو د خطي ترکیب په نامه یادیږي.

که $\vec{a}_1,\vec{a}_2,\ \dots\ ,\vec{a}_n$ د یوه سټ وکتورونه او $\alpha_1,\alpha_2,\ \dots\ ,\alpha_n\in IR$ سکالرونه وي، په دې صورت کې د $\vec{a}$ وکتور په داسې حال کې چې $\vec{a}=\alpha_1\vec{a}_1+\alpha_2\vec{a}_2+\dots+\alpha_n\vec{a}_n$ وي، $\vec{a}$ وکتور د $\vec{a}_1,\vec{a}_2,\ \dots\ ,\vec{a}_n$ وکتورونو د خطي ترکیب په نامه یادیږي.

لومړی مثال: که $\vec{a}_1=2i+j-3k$ او $\vec{a}_2=i+2j+2k$ وکتورونه راکړل شوی وي، د هغوی خطي ترکیب په لاس راوړئ، په داسې حال کې چې $\alpha_1=5$ او $\alpha_2=2$ وي.

(c) ketabton.com: The Digital Library

حل:

$$\vec{a} = 5\vec{a}_1 + 2\vec{a}_2 = 5(2i + j - 3k) + 2(i + 2j + 2k)$$
$$= 10i + 5j - 15k + 2i + 4j + 4k$$
$$= 12i + 9j - 11k$$

د $\vec{a}$ وکتور د $\vec{a}_1$ او $\vec{a}_2$ وکتورونو د خطي ترکيب په نامه يادېږي.

دويم مثال: کـه $\vec{a}_1 = (2,3)$ او $\vec{a}_2 = (5,1)$ وکتورونـه راکـړل شـوي وي، وښاياسـت چـې د $\vec{a} = (6\ ,-5)$ وکتور د $\vec{a}_1$ او $\vec{a}_2$ وکتورونو خطي ترکيب دی.

حل: څرنګه چې $\alpha_1\ ,\ \alpha_2 \in IR$ سکالرونه دي، نو:

$$\vec{a} = (6\ ,-5) = \alpha_1(2\ ,\ 3) + \alpha_2(5\ ,1)$$
$$= (6\ ,-5) = (2\alpha_1\ ,3\alpha_1) + (5\alpha_2\ ,\ \alpha_2)$$
$$= (6\ ,-5) = (2\alpha_1 + 5\alpha_2\ \ ,3\alpha_1 + \alpha_2)$$
$$\Rightarrow \begin{cases} 2\alpha_1 + 5\alpha_2 = 6 \\ 3\alpha_1 + \alpha_2 \ \ = -5 \end{cases}$$

له پورتني سيستم څخه د α_1 او α_2 قيمتونه په لاس راوړو:

$$\begin{matrix} 3 \\ 2 \end{matrix}\begin{cases} 2\alpha_1 + 5\alpha_2 = 6 \\ 3\alpha_1 + \alpha_2 = -5 \end{cases}$$

$$6\alpha_1 + 15\alpha_2 = 18$$
$$-6\alpha_1 \pm 2\alpha_2 = \mp 10$$

$$13\alpha_2 = 28 \Rightarrow \alpha_2 = \frac{28}{13}$$

$$2\alpha_1 + 5\frac{28}{13} = 6$$

$$2\alpha_1 + \frac{140}{13} = 6 \Rightarrow 2\alpha_1 = 6 - \frac{140}{13} = \frac{78 - 140}{13}$$

$$2\alpha_1 = \frac{-62}{13} \Rightarrow \alpha_1 = -\frac{62}{26} = -\frac{31}{13}$$

$$\vec{a} = (6\ ,-5) = \alpha_1(2\ ,\ 3) + \alpha_2(5\ ,\ 1)$$

$$\vec{a} = (6\ ,-5) = -\frac{31}{13}(2\ ,\ 3) + \frac{28}{13}(5\ ,\ 1)$$

يعنې که α_1 او α_2 قيمتونه په $\vec{a}_1$ او $\vec{a}_2$ وکتورنوکې ضرب شي، په پايله کې د $\vec{a}$ وکتور پـه لاس راځـي، نو وموليدل چې $\vec{a}_1$ او $\vec{a}_2$ وکتورونه د $\vec{a}$ د وکتور خطي ترکيب دی.

(c) ketabton.com: The Digital Library

د طبعي واحد وکتورونو د خطي ترکيب په واسطه د يوه وکتور ښودل:

که په دوه بعدي، درې بعدي او بلاخره په n بعدي فضاکې د شعاع وکتورونه راکړل شوي وي. کولای شو هغه د واحدو وکتورونو د ضريبونو د مجموعې په شکل په لاندې ډول وښيو.

a) که دوه بعدي فضا وي $(x_1, x_2) = (x_1, 0) + (0, x_2)$

نو: $= x_1(1, 0) + x_2(0, 1)$

که $e_1 = (1, 0)$ او $e_2 = (0, 1)$ وي.

نو: $(x_1, x_2) = e_1 x_1 + e_2 x_2$

او په بل ډول يې هم ليکلای شو:

$$(x, y) = (x, 0) + (0, y) = x(1, 0) + y(0, 1)$$
$$= xe_1 + ye_2 = xi + yj$$

b) که فضا درې بعدي وي، نو په لاندې ډول کړنه کوو:

$$(x_1, x_2, x_3) = (x, y, z) = (x_1, 0, 0) + (0, x_2, 0) + (0, 0, x_3)$$
$$= x_1(1, 0, 0) + x_2(0, 1, 0) + x_3(0, 0, 1)$$

څرنګه چې $e_1 = (1,0,0)$, $e_2 = (0,1,0)$ او $e_3 = (0,0,1)$ په درې بُعدي فضاکې واحد وکتورونه دي، نو:

$$(x_1, x_2, x_3) = x_1 e_1 + x_2 e_2 + x_3 e_3$$
$$(x, y, z) = xi + yj + zk$$

c) په عمومي حالت کې که فضا n بعدي وي

$$(x_1, x_2, \dots, x_n) = (x_1, 0, \dots, 0) + (0, x_2, \dots, 0) + \dots + (0, 0, \dots, x_n)$$
$$= x_1(1, 0, \dots, 0) + x_2(0, 1, \dots, 0) + \dots + x_n(0, 0, \dots, 1)$$
$$= x_1 e_1 + x_2 e_2 + \dots + x_n e_n$$

په داسې حال کې چې $e_1, e_2, \dots, e_n$ طبيعي واحد وکتورونه دي.

د وکتورونو خطي خپلواکي: د $\vec{a}_1, \vec{a}_2, \dots, \vec{a}_n$ وکتورونه په يوه وکتوري ساحه کې خطي خپلواکي(خطي استقلال) لري، که چېرې دغه خطي ترکيب $\alpha_1 \vec{a}_1 + \alpha_2 \vec{a}_2 + \dots + \alpha_n \vec{a}_n = 0$ مساوي په صفر وي او همدارنګه $\alpha_1 = \alpha_2 = \dots = \alpha_n = 0$ وي.

فعاليت

که $S = \{(1, 0, 0), (0, 1, 0), (0, 0, 1)\}$ وي وښاياست چې S خطي خپلواکي لري.

(c) ketabton.com: The Digital Library

غیرې خپلواک خطي وکتورونه: د $\vec{a}_1, \vec{a}_2, \ldots, \vec{a}_n$ وکتورونه خطاً مربوط خطي غیر خپلواک یا خطي انحصار لري، که چېرې یوازې او یوازې $\alpha_1\vec{a}_1 + \alpha_2\vec{a}_2 + \ldots + \alpha_n\vec{a}_n = 0$ وي او کم ترکمه یو له ضریبونو د $\alpha_1, \alpha_2, \ldots, \alpha_n$ څخه د صفر خلاف وي.

یادونه:

ددې لپاره چې د وکتورونو یو سټ په لاس راوړو چې خطي خپلواکي ولري، نو لاندې پړاوونه په پام کې نیسو:

لومړی پړاو: د وکتورونو ترکیب په لاس راوړو او له صفر وکتور سره یې مساوي نیسو.

دویم پړاو: د وکتورونو د جمعې عملیه سرته رسوو.

دریم پړاو: د معادلاتو سیستم تشکیلوو.

څلورم پړاو: د معادلاتو سیستم د سکالرونو لپاره حلوو، په هغه صورت کې چې ټول سکالرونه صفر شي نو وایو چې نوموړي وکتورونه خطي خپلواکي لري او که چېرې له ټولو سکالرونو څخه کم ترکمه یو سکالر د صفر خلاف وي، نو وکتورونه خطي خپلواکي نه لري.

مثال: د $\vec{a}_1, \vec{a}_2, \ldots, \vec{a}_n$ وکتورونه په لاندې ډول راکړل شوي دي $\vec{a}_1 = (1,2,0)$, $\vec{a}_2 = (0,3,1)$, $\vec{a}_3 = (2,3,1)$ وښایاست چې $\vec{a}_1$, $\vec{a}_2$ او $\vec{a}_3$ وکتورونه خطي خپلواکي لري او که نه؟

حل: د خطي خپلواکو وکتورونو له اړیکې څخه په ګټې اخیستنې سره کولای شو، ولیکو:

لومړی پړاو: $\alpha_1 a_1 + \alpha_2 a_2 + \alpha_3 a_3 = \alpha_1(1,2,0) + \alpha_2(0,3,1) + \alpha_3(2,3,1) = 0$

دویم پړاو:

$$= (\alpha_1, 2\alpha_1, 0) + (0, 3\alpha_2, \alpha_2) + (2\alpha_3, 3\alpha_3, \alpha_3) = (0,0,0)$$
$$= (\alpha_1 + 0 + 2\alpha_3, 2\alpha_1 + 3\alpha_2 + 3\alpha_3, 0 + \alpha_2 + \alpha_3) = (0,0,0)$$

دریم پړاو:

$$\begin{cases} \alpha_1 + 0 + 2\alpha_3 = 0 \\ 2\alpha_1 + 3\alpha_2 + 3\alpha_3 = 0 \\ 0 + \alpha_2 + \alpha_3 = 0 \end{cases} \Rightarrow \begin{cases} \alpha_1 + 2\alpha_3 = 0 \\ 2\alpha_1 + 3\alpha_2 + 3\alpha_3 = 0 \\ \alpha_2 + \alpha_3 = 0 \end{cases}$$

څلورم پړاو: اوس د معادلاتو سیستم د α_1 ، α_2 او α_3 لپاره حلوو:

$$\alpha_2 = -\alpha_3$$
$$2\alpha_1 + 3(-\alpha_3) + 3\alpha_3 = 2\alpha_1 - 3\alpha_3 + 3\alpha_3 = 0 \Rightarrow 2\alpha_1 = 0, \quad \alpha_1 = 0$$
$$\alpha_1 + 2\alpha_3 = 0$$
$$0 + 2\alpha_3 = 0 \Rightarrow \alpha_3 = 0$$
$$2\alpha_1 + 3\alpha_2 + 3\alpha_3 = 0$$
$$0 + 3\alpha_2 + 0 = 0 \Rightarrow 3\alpha_2 = 0 \quad , \quad \alpha_2 = 0$$

(c) ketabton.com: The Digital Library

خرنګه چې $\alpha_1 = \alpha_2 = \alpha_3 = 0$ دي، نو نوموړي وکتورونه خطي خپلواکي لري.

فعالیت

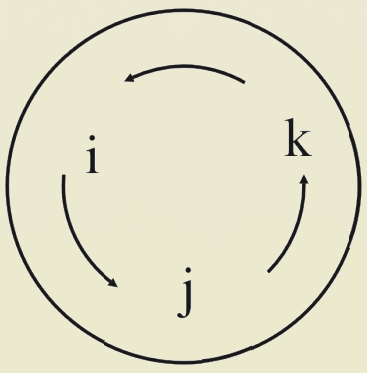

د تعریف لـه مخـې د ښـي لاس د قاعـدې پـه واسـطه د $\vec{u}\times\vec{v}$ او $\vec{v}\times\vec{u}$ مسیر او یا جهت په مخامخ شکل کې وښیي.

- وښایاست چې $\vec{i}\times\vec{i}=0$ او $\vec{i}\times\vec{j}=\vec{k}$ دی.
- د پورتنیو څېړنو له مخې د $\vec{j}\times\vec{j}$ ، $\vec{k}\times\vec{k}$ ، $\vec{j}\times\vec{k}$ او $\vec{k}\times\vec{i}$ وکتورونو د ضربونو حاصل پـه هکلـه څه ویلای شئ؟
- وښایاست چې: $\vec{u}\times\vec{v}=-\vec{v}\times\vec{u}$ او $\vec{u}\times\vec{u}=0$ دی.
- **په عمـومي ډول ویـلای شـو چې د $\vec{i},\vec{j}$ او $\vec{k}$ وکتورونـو د ضـرب حاصل په دایروي ډول د لومړني او دویم وکتور د ضرب له حاصل څخه دریم وکتور، لکه: د ورکړل شوي دایرې په ښې لاس ته راځي.**

له پورتني فعالیت څخه لاندې پایلې لاس ته راځي:

پایله: د $\vec{u}$ او $\vec{v}$ دوه وکتورونـه چې صفر نـه وي. د وکتـوري ضـرب لـه حاصـل څخـه او د ښـي لاس د قاعدی په کارولو سره لرو:

$$\text{i)}\quad \vec{u}\times\vec{u}=0$$

$$\text{ii)}\quad \vec{u}\times\vec{v}=-\vec{v}\times\vec{u}$$

$$\text{iii)}\quad \vec{u}\times(\vec{v}+\vec{w})=\vec{u}\times\vec{v}+\vec{u}\times\vec{w}$$

$$\text{iv)}\quad \vec{u}\times(k\vec{v})=(k\vec{u})\times\vec{v}=k\,(\vec{u}\times\vec{v})\ ,\quad k\in IR$$

د وکتوري ضرب د حاصل د تعریف له مخې د پورته پایلې ثبوت دې زده‌کوونکو ته پرېښودل شي.

لومړی مثال: کـه چېرې $\vec{u}=a_1\vec{i}+b_1\vec{j}+c_1\vec{k}$ او $\vec{v}=a_2\vec{i}+b_2\vec{j}+c_2\vec{k}$ وکتورونـه صفر نـه وي، نو وښایاست چې:

$$\vec{u}\times\vec{v}=\begin{vmatrix}\vec{i} & \vec{j} & \vec{k}\\ a_1 & b_1 & c_1\\ a_2 & b_2 & c_2\end{vmatrix}=(b_1c_2-c_1b_2)\,\vec{i}-(a_1c_2-c_1a_2)\,\vec{j}+(a_1b_2-b_1a_2)\,\vec{k}$$

(c) ketabton.com: The Digital Library

حل: د تعریف نه په ګټې اخیستنې سره لیکو، چې:

$$\vec{u}\times\vec{v}=(a_1\vec{i}+b_1\vec{j}+c_1\vec{k})\times(a_2\vec{i}+b_2\vec{j}+c_2\vec{k})$$

$$=a_1a_2(\vec{i}\times\vec{i})+a_1b_2(\vec{i}\times\vec{j})+a_1c_2(\vec{i}\times\vec{k})+b_1a_2(\vec{j}\times\vec{i})+b_1b_2(\vec{j}\times\vec{j})+b_1c_2(\vec{j}\times\vec{k})$$

$$+c_1a_2(\vec{k}\times\vec{i})+c_1b_2(\vec{k}\times\vec{j})+c_1c_2(\vec{k}\times\vec{k})$$

$$\left.\begin{array}{l}\vec{i}\times\vec{j}=\vec{k}\\ \vec{i}\times\vec{k}=-\vec{j}\\ \vec{j}\times\vec{i}=-\vec{k}\end{array}\right\} \quad , \quad \left.\begin{array}{l}\vec{j}\times\vec{k}=\vec{i}\\ \vec{k}\times\vec{i}=\vec{j}\\ \vec{k}\times\vec{j}=-\vec{i}\end{array}\right\} \quad , \quad \left.\begin{array}{l}\vec{i}\times\vec{i}=0\\ \vec{j}\times\vec{j}=0\\ \vec{k}\times\vec{k}=0\end{array}\right\}$$

$$=a_1b_2\cdot\vec{k}-a_1c_2\cdot\vec{j}-b_1a_2\cdot\vec{k}+b_1c_2\cdot\vec{i}+c_1a_2\,\vec{j}-c_1b_2\cdot\vec{i}$$

$$=(b_1c_2\cdot\vec{i}+c_1a_2\cdot\vec{j}+a_1b_2\cdot\vec{k})-(c_1b_2\cdot\vec{i}+a_1c_2\,\vec{j}+b_1a_2\cdot\vec{k}$$

$$=(b_1c_2-c_1b_2)\cdot\vec{i}+(c_1a_2-a_1c_2)\cdot\vec{j}+(a_1b_2-b_1a_2)\cdot\vec{k}$$

$$=(b_1c_2-c_1b_2)\cdot\vec{i}-(a_1c_2-c_1a_2)\cdot\vec{j}+(a_1b_2-b_1a_2)\cdot\vec{k}$$

$$\Rightarrow\quad \vec{u}\times\vec{v}=\begin{vmatrix}\vec{i}&\vec{j}&\vec{k}\\ a_1&b_1&c_1\\ a_2&b_2&c_2\end{vmatrix}=(b_1c_2-c_1b_2)\cdot\vec{i}-(a_1c_2-c_1a_2)\cdot\vec{j}+(a_1b_2-b_1a_2)\cdot\vec{k}$$

دویم مثال: وښایاست چې د $\vec{a}=2\vec{i}+\vec{j}+\vec{k}$ او $\vec{b}=4\vec{i}+2\vec{j}-\vec{k}$ لپاره د $\vec{a}\times\vec{b}$ حاصل له $(-\vec{i}+6\vec{j}+8\vec{k})$ سره مساوي دی.

حل: د لومړي مثال نه په ګټې اخیستنې سره پوهېږو، چې:

$$\vec{a}\times\vec{b}=(2\vec{i}+\vec{j}+\vec{k})\times(4\vec{i}+2\vec{j}-\vec{k})=8(\vec{i}\times\vec{i})+4(\vec{i}\times\vec{j})-2(\vec{i}\times\vec{k})$$

$$+4(\vec{j}\times\vec{i})+2(\vec{j}\times\vec{j})-(\vec{j}\times\vec{k})+4(\vec{k}\times\vec{i})+2(\vec{k}\times\vec{j})-(\vec{k}\times\vec{k})$$

$$=0+4\vec{k}+2\vec{j}-4\vec{k}+0-\vec{i}+4\vec{j}-2\vec{i}-0=-3\vec{i}+6\vec{j}$$

د مخلوط ضرب حاصل (دري ګوني ضرب) Triple Product

تعریف: د دوو یا څو وکتورونو د ضرب لپاره څو امکانه شته چې هر یو یې په لاندې ډول تر څېړنې لاندې نیسو:

i) د $(\vec{a}\cdot\vec{b})\vec{c}$ دضرب حاصل.

(c) ketabton.com: The Digital Library

د پورتنيو $\vec{a}$ او $\vec{b}$ وکتورونو د ضرب حاصل چې په سکالري ډول ضرب شوی، يو سکالر دی. وروسته نوموړی سکالر د $\vec{c}$ په وکتور کې ضرب شوی چې له پايلې يې وکتور په لاس راځي دغه وکتور له $\vec{c}$ وکتور سره هم جهت دی.

په پورتني ضرب کې لاندې قانون شته: $(\vec{a}\cdot\vec{b})\vec{c} \neq (\vec{b}\cdot\vec{c})\vec{a} \neq (\vec{c}\cdot\vec{a})\vec{b}$

د $(\vec{b}\cdot\vec{c})\vec{a}$ وکتور جهت د $\vec{a}$ د وکتور هم جهت او د $(\vec{c}\cdot\vec{a})\vec{b}$ وکتور جهت د $\vec{b}$ د وکتور هم جهت دی.

ii) $$\vec{a}(\vec{b}\times\vec{c}) = \begin{vmatrix} a_1 & a_2 & a_3 \\ b_1 & b_2 & b_3 \\ c_1 & c_2 & c_3 \end{vmatrix}$$

iii) $$\vec{a}(\vec{b}\times\vec{c}) = \vec{b}(\vec{c}\times\vec{a}) = \vec{c}(\vec{a}\times\vec{b})$$

iiv) $$\vec{a}(\vec{a}\times\vec{b}) = 0$$

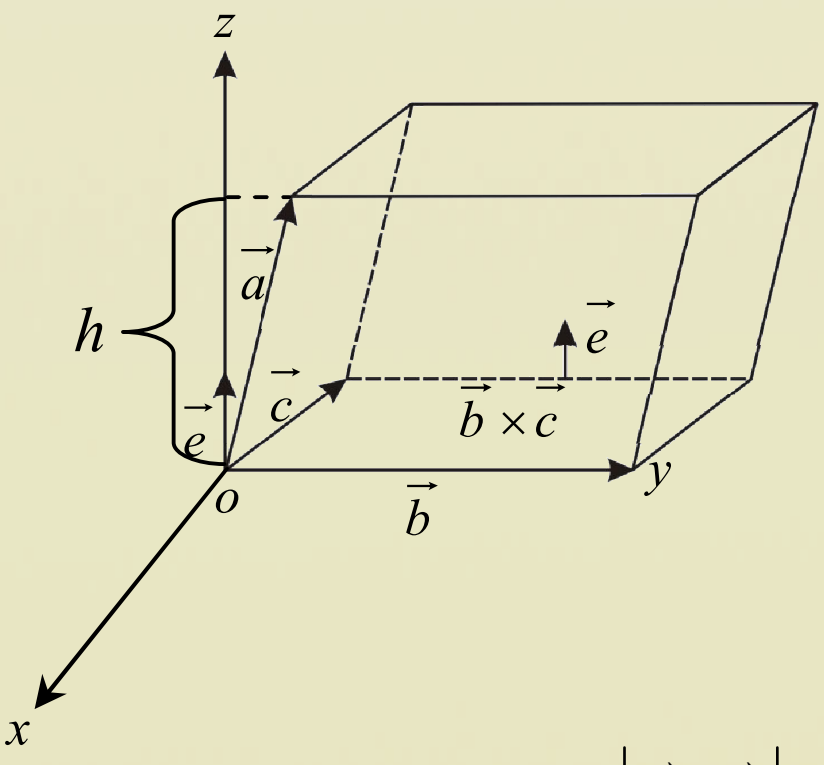

د $\vec{a}(\vec{b}\times\vec{c})$ اړیکه د هغه متوازي السطوح له حجم څخه عبارت دی چې a, b او c د متوازي‌السطوح اضلاع دي، څرنگه چې په شکل کې ليدل کېږي $|\vec{b}\times\vec{c}|$ د متوازي-السطوح قاعده او h د متوازي‌السطوح جگوالی دی، نو له دې امله:

$$\text{د متوازي‌السطوح حجم} = v = |\vec{b}\times\vec{c}|(\vec{a}\cdot\vec{e}) = \vec{b}\,|\vec{a}\times\vec{c}|\,\vec{e}$$

$$v = \vec{b}(\vec{a}\times\vec{c}) = |\vec{b}\times\vec{c}|\,h$$

تطبيقاتي مسئلې:

1- که چېرې $\vec{a} = 4\vec{i} + 3\vec{j} + \vec{k}$ او $\vec{b} = 2\vec{i} - \vec{j} + 2\vec{k}$ وکتورونه راکړل شوي وي، هغه وکتور مطلوب غوښتل کيږي چې پر دواړو وکتورونو عمود وي، آيا دغه وکتور يوازنی وکتور دی، که څنگه؟ دليل مو څه دی؟

حل: د ښي لاس د قاعدې په کارولو پوهېږو چې د $\vec{a}\times\vec{b}$ وکتور پر هغو وکتورونو عمود دی، نو لرو:

$$\vec{a}\times\vec{b} = \begin{vmatrix} \vec{i} & \vec{j} & \vec{k} \\ 4 & 3 & 1 \\ 2 & -1 & 2 \end{vmatrix} = 7\vec{i} - 6\vec{j} - 10\vec{k}$$

(c) ketabton.com: The Digital Library

نو د $\vec{a}\times\vec{b}=7\vec{i}-6\vec{j}-10\vec{k}$ وکتور پر $\vec{a}$ او $\vec{b}$ وکتورونه یوازیني عمود وکتورونه دي، بلکې $\vec{b}\times\vec{a}$ وکتور هم د $\vec{a}$ او $\vec{b}$ په وکتورونو عمود دي، یعنې لرو:

$$\vec{b}\times\vec{a}=\begin{vmatrix}\vec{i} & \vec{j} & \vec{k}\\ 2 & -1 & 2\\ 4 & 3 & 1\end{vmatrix}=-7\vec{i}+6\vec{j}+10\vec{k}=-(7\vec{i}-6\vec{j}-10\vec{k})=-\vec{a}\times\vec{b}$$

2- ثبوت کړئ چې د α او β د هرې اختیاري زاویې لپاره $\sin(\alpha+\beta)=\sin\alpha\cos\beta+\cos\alpha\sin B$.

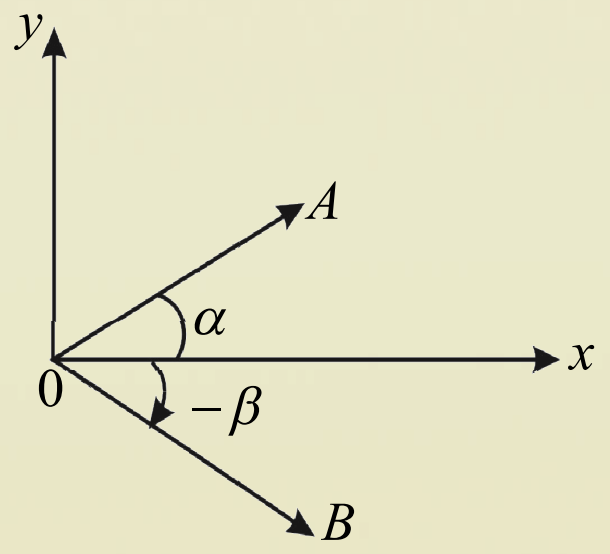

حل: که $\vec{OA}$ او $\vec{OB}$ دوه وکتورونه د x, y په مستوي کې داسې راکړل شوي دي چې د x له محور سره د α او β زاویې جوړې کړي، له شکل څخه پوهېږو: $\hat{AOB}=\alpha+\beta$

له بلې خوا پوهېږو چې $\vec{OA}=\cos\alpha\,\vec{i}+\sin\alpha\,\vec{j}$ او $\vec{OB}=\cos(-\beta)\,\vec{i}+\sin(-\beta)\,\vec{j}$ نو لرو:

$$\overrightarrow{OA}\times\overrightarrow{OB}=(\cos\alpha\,\vec{i}+\sin\alpha\,\vec{j})\times(\cos\beta\,\vec{i}-\sin\beta\,\vec{j})=\begin{vmatrix}\vec{i} & \vec{j} & \vec{k}\\ \cos\alpha & \sin\alpha & 0\\ \cos\beta & -\sin\beta & 0\end{vmatrix}$$

$$=\vec{k}(-\sin\beta\cos\alpha-\sin\alpha\cos\beta)=-\vec{k}\sin(\alpha+\beta)$$

$$\Rightarrow\ \left|\left|\vec{OA}\right|\times\left|\vec{OB}\right|\right|=\left|-\vec{k}\right|\cdot\sin(\alpha+\beta)=\sin(\alpha+\beta)$$

3- په یوه کیفي مثلث کې وښیئی، چې: $\dfrac{a}{\sin A}=\dfrac{b}{\sin B}=\dfrac{c}{\sin C}$

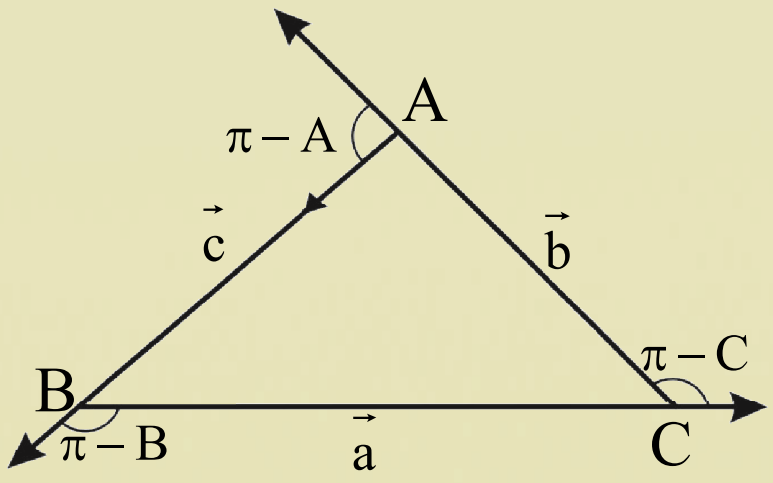

حل: فرضوو چې د لاندې شکل له مخې د $\vec{a}$، $\vec{b}$ او $\vec{c}$ وکتورونه د $\overline{BC}$، $\overline{CA}$ او $\overline{AB}$ د مثلث د ضلعو په امتداد راکړل شوي دي، نو لرو:

$$\vec{a}+\vec{b}+\vec{c}=0$$

$$\Rightarrow\ \vec{b}+\vec{c}=-\vec{a}\qquad \text{..........}\ (i)$$

(c) ketabton.com: The Digital Library

که د مساوات دواړه خواوې په $\vec{c}$ وکتور کې وکتوري ضرب کړو، لاسته راځي، چې:

$$(\vec{b}+\vec{c})\times\vec{c}=-\vec{a}\times\vec{c}$$

$$(\vec{b}\times\vec{c})+(\vec{c}\times\vec{c})=-\vec{a}\times\vec{c}=\vec{c}\times\vec{a}$$

$$\vec{c}\times\vec{c}=0 \quad\Rightarrow\quad \vec{b}\times\vec{c}=\vec{c}\times\vec{a} \quad\Rightarrow\quad |\vec{b}\times\vec{c}|=|\vec{c}\times\vec{a}|$$

دپورتینو مساواتو د تعریف له مخې داسې لیکلای شو:

$$|\vec{b}|\ |\vec{c}|\sin(\pi-A)=|\vec{c}|\ |\vec{a}|\ \sin(\pi-B)$$

$$\Rightarrow\quad |\vec{b}|\,|\vec{c}|\ \sin A=|\vec{c}|\ |\vec{a}|\ \sin B \quad\Rightarrow\quad b\sin A=a\sin B\ \ /\div ab$$

$$\frac{\sin B}{b}=\frac{\sin A}{a}\quad ....\ (ii)$$ یا $$\frac{b}{\sin B}=\frac{a}{\sin A}\quad ....\ (ii)$$

د پورته په څېر که چېرې د (i) د رابطې دواړه خواوې په $\vec{b}$ وکتور کې په وکتوري ډول ضرب شي، لاسته راځي چې:

$$(\vec{b}+\vec{c})\times\vec{b}=-\vec{a}\times\vec{b}=\vec{b}\times\vec{a}$$

$$(\vec{b}\times\vec{b})+(\vec{c}\times\vec{b})=\vec{b}\times\vec{a}$$

$$\vec{b}\times\vec{b}=0 \quad\Rightarrow\quad (\vec{c}\times\vec{b})=\vec{b}\times\vec{a}$$

$$|\vec{c}||\vec{b}|\sin A=|\vec{b}||\vec{a}|\sin C$$

$$c\sin A=a\sin C\ \ /\div ac$$

$$\frac{a}{\sin A}=\frac{c}{\sin C}\quad .....\ iii$$ یا $$\frac{\sin A}{a}=\frac{\sin C}{c}$$

د (ii) او (iii) معادلو له پرتلې څخه د ساین قضیه لاسته راځي: $$\frac{a}{SinA}=\frac{b}{SinB}=\frac{c}{SinC}$$

4- **د یوې متوازي الاضلاع مساحت**: د $\vec{u}$ او $\vec{v}$ دوه وکتورونه چې صفر نه وي، د دوی ترمنځ زاویه د θ لاندې شکل په څېر په پام کې نیسو. ګورو چې $\vec{u}$ او $\vec{v}$ د متوازي الاضلاع ضلعې دي چې د هغې د مساحت د پیداکولو لپاره کولای شو، ولیکو:

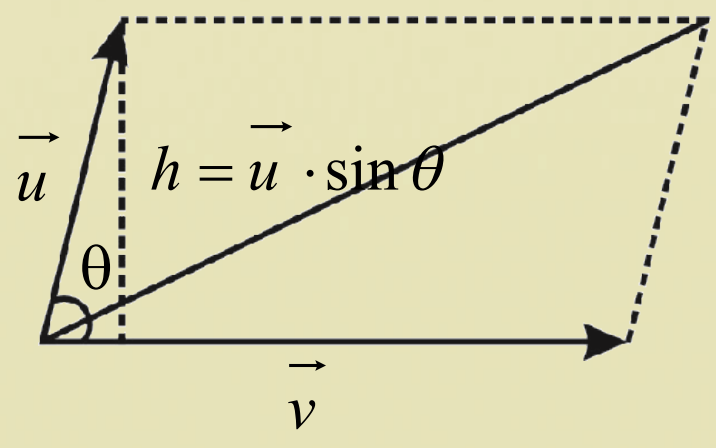

ارتفاع × قاعده = د متوازي الاضلاع مساحت

ځرنګه چې: $|\vec{v}|$ = قاعده او $h=|\vec{u}|\sin\theta$ = ارتفاع ده

$|\vec{u}||\vec{v}|\sin\theta=|\vec{u}\times\vec{v}|$ = د متوازي الاضلاع مساحت

(c) ketabton.com: The Digital Library

يعنې د يوې متوازي الاضلاع مساحت، د يوې متوازي الاضلاع د ضلعو د وکتوري ضرب له حاصل څخه عبارت دی چې د متوازي الاضلاع ضلعې هم دي.

پایله:څرنګه چې د يوه مثلث مساحت د متوازي الاضلاع مساحت نيمايي دی، نو د مثلث مساحت د لاندې شکل په پام کې نيولو سره عبارت دی، له:

د مثلث مساحت $= \frac{1}{2}$ (د متوازي الاضلاع مساحت) $= \frac{1}{2}|\vec{u}\times\vec{v}|$

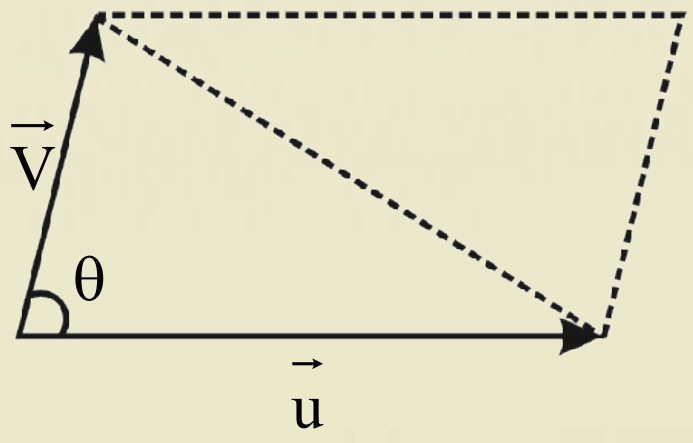

پوښتنې

1. که $\vec{a}_1 = t^2 + t + 2$, $\vec{a}_2 = 2t^2 + t$ او $\vec{a}_3 = 3t^2 + 2t + 2$ وي وښاياست چې نومړي وکتورونه خطي خپلواکي لري؟

2. وښاياست چې $\vec{a} = 2i + 3j + 4k$ او $\vec{b} = 4i + 6j + 8k$ وکتورونه يو له بل سره کوم ډول خطي اړيکه لري؟

3. د هغه مثلث مساحت پيدا کړئ چې راسونه يې د $A(1,-1,1)$ ، د $B(2,1,-1$ او $C(-1,1,2)$ وکتورونو په واسطه درکړل شوي وي. همدارنګه هغه واحد وکتور چې پر ABC مستوي عمود وي، مطلوب دي.

4. د هغه متوازي الاضلاع مساحت پيدا کړئ چې: د $P(0,0,0)$, $Q(-1,2,4)$، $R(2,-1,4)$ او $S(1,1,8)$ وکتورونو په واسطه ځانګړی شوي وي.

5. که $\vec{u} = 2i - j + k$ ، $\vec{v} = 4i + 2j - k$ سره وي، د لاندې وکتورونو د ضرب حاصل پيدا کړئ؟

i) $\vec{u}\times\vec{u}$ ii) $\vec{u}\times\vec{v}$ iii) $\vec{v}\times\vec{u}$

(c) ketabton.com: The Digital Library

د ښېرکي مهم ټکي

د وضعیه کمیتونو په قایم سیستم کې وکتورونه: هغه کمیتونه چې هم جهت اوهم مقدار ولري وکتور نومېږي. هغه وکتورونه چې اوږدوالی یې مساوي او عین جهت ولري، یو له بله سره د ممثلو وکتورونو په نامه یادیږي. هغه وکتور چې مبداء یې د وضعیه کمیتونو د قایم سیستم په مبداء کې پرته وي شعاع وکتور (Position Vector) بلل کیږي. یو وکتور په مستوي کې د $\vec{a}=\begin{pmatrix}a_x\\a_y\end{pmatrix}$ په ښېر ښودل کیږي. چې a_x د x او a_y د y محور پرمخ له فاصلې او ترتیب څخه عبارت دی.

د دوو ټکو ترمنځ واټن او منځنی ټکی: که $P(x_1,y_1)$ وکتور مبداء او $Q(x_2,y_2)$ د پای ټکی د $\vec{a}=\vec{PQ}$ وکتور وي. په دې ډول $\vec{a}$ وکتور په $\vec{a}=\begin{pmatrix}a_x\\a_y\end{pmatrix}=\begin{pmatrix}x_2-x_1\\y_2-y_1\end{pmatrix}$ ښیو او د $P\overset{\Delta}{Q}N$ قایم الزاویه مثلث او $|\vec{a}|$ وکتور اوږدوالي له مخې لرو چې:

د P او Q ټکو ترمنځ واټن، $|\vec{a}|=\sqrt{a_x^2+a_y^2}=\sqrt{(x_2-x_1)^2+(y_2-y_1)^2}$ د $\vec{a}$ اوږدوالې د P او Q منځنې ټکی $M=\begin{pmatrix}x_m\\y_m\end{pmatrix}=\begin{pmatrix}\frac{x_1+x_2}{2}\\\frac{y_1+y_2}{2}\end{pmatrix}$ د $\vec{PQ}$ د منځنې ټکې کمیتونه یا مختصات دی.

واحد وکتور: هغه وکتور چې د راکړل شوی وکتور په عین جهت پروت او یو واحد اوږوالی ولري، د واحد وکتور په نامه یادیږي.

مثال: $\vec{i}=\begin{pmatrix}1\\0\end{pmatrix}$ او $\vec{j}=\begin{pmatrix}0\\1\end{pmatrix}$ په قایم سیستم کې د x او y د مستوي د محورونو په جهت واحد وکتورونه دي، په داسې حال کې چې $\vec{i}=\begin{pmatrix}1\\0\\0\end{pmatrix}$، $\vec{j}=\begin{pmatrix}0\\1\\0\end{pmatrix}$ او $\vec{k}=\begin{pmatrix}0\\0\\1\end{pmatrix}$ په فضاکې د وضعیه کمیتونو په قایم سیستم کې د x، y او z محورونو په جهت واحد وکتورونه دي.

د وکتورونو سکالري او وکتوری ضرب حاصل: د $\vec{u}$ او $\vec{v}$ دوه وکتورونه، چې صفر نه وي، د سکالري ضرب حاصل یې په مستوي او فضاکې عبارت دی له: $\vec{u}\cdot\vec{v}=|\vec{u}|\,|\vec{v}|\,Cos\theta$

(c) ketabton.com: The Digital Library

په داسې حال کې چې θ د $\vec{u}$ او $\vec{v}$ ترمنځ زاويه ده. او د وکتوري ضرب حاصل يې يـو وکتـور دي چې د $\vec{u}\times\vec{v}$ په واسطه ښودل کيږي، عبارت دی، له: $\vec{u}\times\vec{v}=|\vec{u}|\cdot|\vec{v}|Sin\theta\cdot\vec{n}$

په داسې د حال کې چې د $\vec{u}\times\vec{v}$ وکتور د $\vec{u}$ او $\vec{v}$ پـر وکتورونـو عمـود دی او $\vec{u}$ او $\vec{v}$ وکتورونـه سـره د ښي لاس قاعدې په واسطه ټاکل کيږي.

د ښي لاس قاعده: که د شهادت ګوته په قايم ډول کږه شي، لکه د لاندې شکل په شان، په دې صورت کې د شهادت ګوته د $\vec{u}$ محور په جهت، د خنګل په جهت د $\vec{v}$ محور او غټـه ګوتـه د $\vec{u}\times\vec{v}$ وکتـور حاصـل ضرب ښيي.

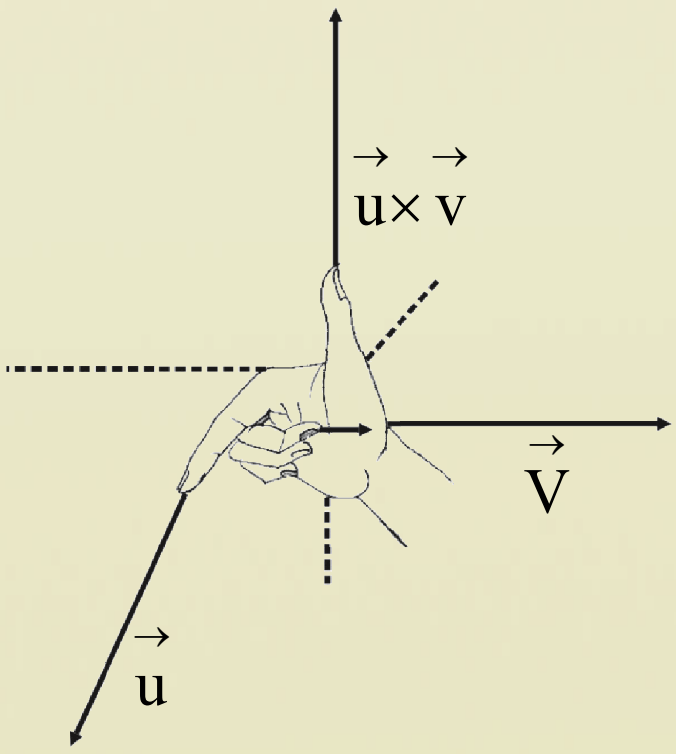

په فضا کې د دوو وکتورونو وکتوري ضرب:

کـــه $\vec{a}=a_1\vec{i}+b_1\vec{j}+c_1\vec{k}$ او $\vec{b}=a_2\vec{i}+b_2\vec{j}+c_2\vec{k}$ ورکړل شوی وي، په دې صورت کې وکتوري حاصل ضـرب يعنې $\vec{a}\times\vec{b}$ عبارت دی له:

$$\vec{a}\times\vec{b}=\begin{vmatrix} i & j & k \\ a_1 & b_1 & c_1 \\ a_2 & b_2 & c_2 \end{vmatrix}$$

$$=\vec{i}\begin{vmatrix} b_1 & c_1 \\ b_2 & c_2 \end{vmatrix}-\vec{j}\begin{vmatrix} a_1 & c_1 \\ a_2 & c_2 \end{vmatrix}+\vec{k}\begin{vmatrix} a_1 & b_1 \\ a_2 & b_2 \end{vmatrix}$$

مساحت او د وکتوري ضرب حاصـل: د $\vec{a}$ او $\vec{b}$ دوه وکتورونـه، چـې صفر نـه وي، د وکتوري ضـرب قيمت يې د متوازي الاضلاع له مساحت څخه عبارت دی، چې د وکتورونو په واسطه په لاندې شـکل کـې تشکيليږي.

$|\vec{u}\times\vec{v}|=$ د متوازي الاضلاع مساحت

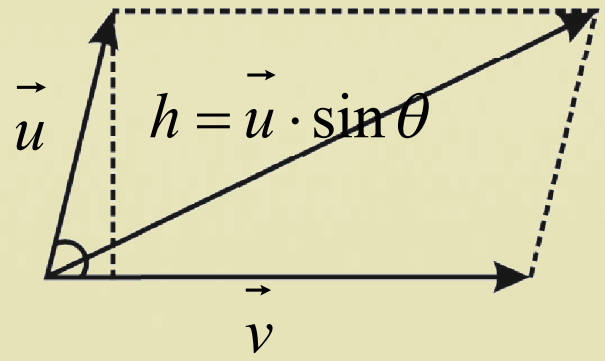

(c) ketabton.com: The Digital Library

د څېرکي پوښتنې

1): که $\vec{a} = 3\vec{i} - \vec{j} + 5\vec{k}$ او $\vec{b} = 4\vec{i} + 3\vec{j} - 2\vec{k}$ وي:

a): $\vec{a}\cdot\vec{b}$ b): $\vec{b}\cdot\vec{a}$ مطلوب دی

2): که چېرې د $P(2,3)$ او $Q(6,-2)$ ټکي د $\vec{op}$ او $\vec{OQ}$ شعاع وکتورونو پای وي، په دې صورت کې د P او Q په مستوي کې د $xi + yj$ په څېر ولیکئ.

3): که چېرې $A(1,-1)$ ، $B(2,0)$ ، $C(-1,3)$ او $D(-2,2)$ درکړل شوي وي، د $\vec{AB}$ او $\vec{CD}$ وکتورونو حاصل جمع مطلوب ده.

4): که چیرې $A(2,5)$ ، $B(-1,1)$ او $C(2,-6)$ درکړل شوي وي، مطلوب دی:

i) $\vec{AB} = ?$ ii) $2\vec{AB} - \vec{CB} = ?$ iii) $2\vec{CB} - 2\vec{CA} = ?$

5): که چېرې $\vec{u} = \vec{i} + 2\vec{j} - \vec{k}$ ، $\vec{v} = 3\vec{i} - 2\vec{j} + 2\vec{k}$ او $\vec{w} = 5\vec{i} - \vec{j} + 3\vec{k}$ ورکړل شوی وي، مطلوب دی:

i) $\vec{u} + 2\vec{v} + \vec{w}$ ii) $\vec{v} - 3\vec{w}$ iii) $\left|3\vec{v} + \vec{w}\right| = ?$

iv) : د $\vec{u}$ ، $\vec{v}$ او $\vec{w}$ راکړل شوو وکتورنو په جهت واحد وکتورونه پیدا کړئ

6): د $\vec{a}$ او $\vec{b}$ درکړل شوو وکتورونو لپاره سکالري ضرب حاصل د $\vec{a}\cdot\vec{b}$ ، $\vec{b}\cdot\vec{a}$ او وکتوري ضرب حاصل د $\vec{a}\times\vec{b}$ او $\vec{b}\times\vec{a}$ پیدا او دوه په دوه یې پرتله کړئ، که چېرې $\vec{a}$ او $\vec{b}$ په لاندې توګه وي:

i) $\begin{cases} \vec{a} = 2i + j - k \\ \vec{b} = i - j + k \end{cases}$ ii) $\begin{cases} a = i + j \\ b = i - j \end{cases}$

iii) $\begin{cases} \vec{a} = 3i - 2j + k \\ \vec{b} = i + j \end{cases}$ iv) $\begin{cases} \vec{a} = -4i + j - 2k \\ \vec{b} = 2i + j + k \end{cases}$

(c) ketabton.com: The Digital Library

7): د هغو مثلثونو مساحت مطلوب دی چې راسونه يې د لاندې ټکو په واسطه ټاکل کېږي:

$i): \quad P(0,0,0), \quad Q(2,3,2), \quad R(-1,1,4)$

$ii): \quad P(1,-1,-1), \quad Q(2,0,-1), \quad R(0,2,1)$

8): د هغه متوازي الاضلاع مساحت مطلوب دی چې راسونه يې د لاندې ټکو په واسطه ټاکل شوی وي.

$i): \quad A(0,0,0), \quad B(1,2,3), \quad C(2,-1,1), \quad D(3,1,4)$

$ii): \quad A(1,2,-1), \quad B(4,2,-3), \quad C(6,-5,2), \quad D(-3.5,-4)$

$iii): \quad A(1,-1,1), \quad B(-1,2,2), \quad C(-3,4,-5), \quad D(-3,5,-4)$

9): کوم وکتورونه عمود او کوم موازي دي ؟

$i): \quad \vec{u} = 5i - j + k, \quad \vec{v} = j - 5k, \quad \vec{w} = -15i + 3j - 3k$

$ii): \quad \vec{u} = i + 2j - k\ , \quad \vec{v} = i + j + k, \quad \vec{w} = -\frac{\pi}{2}\vec{i} + \frac{\pi}{2}\vec{j}$

(c) ketabton.com: The Digital Library

اتم څپرکی

احصائیه

(c) ketabton.com: The Digital Library



$$\frac{\text{وزن}}{\text{ونه}} = \frac{150kg}{170cm} = ?$$

(c) ketabton.com: The Digital Library

$$\frac{\text{وزن}}{\text{ونه}} = \frac{150kg}{170cm} = ?$$

دبدلونونو ضریب

Coefficient Variations

که چېرې د يوې ټولنې تيتوالی په متر او د بلې ټولنې په کيلوگرام ښودل شوې وي. آيا فکر کولای شئ چې دغه دواړه تيتوالی په دواړو ټولنوکې د پرتلې وړ دي او که نه؟

فعالیت

10 تنه زده کوونکي له خپل ټولگي څخه په تصادفي ډول وټاکئ؟

- د زده کونکو ونه او وزن تشخيص کړئ.
- د زده کوونکو د ونې او وزن واريانس او معياري انحراف محاسبه کړئ.
- آيا فکر کولای شئ چې د دې دواړو متحولينو د تيتوالی د ميزان پرتله د واريانس او معياري انحراف له لارې امکان لري؟ ولې؟
- که چېرې معياري انحراف په اوسط ووېشل شي، نو په لاس راغلی مقدار یا عدد واحد به څه وي؟
- د بدلونونو يا تغييراتو ضريب يا نسبې تيتوالی داسې کارول کېږي، چې واريانس او معياري انحراف هغه نه لري. يو له دغو کارونو څخه د دوو نا متجانسو ټولنو پرتله ده چې د يادولو وړ ده.

دبدلونونو يا تغييراتو ضريب چې په $C \cdot V$ ښودل کېږي عبارت له هغه خارج قسمت څخه دی، چې د معياري انحراف پر اوسط باندې په لاس راځي اويو مطلق بې واحده عدد دی په لاس راځي يعنې:

$$\text{دبدلونونو يا تغييراتو ضريب} = \frac{\text{معياري انحراف}}{\text{اوسط}} \qquad \text{يا} \qquad C \cdot V = \frac{S}{\bar{x}}$$

که د تغيراتو ضريب په 100 کې ضرب شي، د تحول ضريب په لاس راځي:

$$C \cdot V = 100 \cdot \frac{S}{\bar{x}}$$

- د بدلون ضريب يوازې د مثبتو ډېټاوو لپاره تعريف شوي وي.
- که چېرې ټوله ډېټا سره برابره وي، د بدلون ضريب مساوي په صفر دی.
- که ټوله ډېټا په يو مثبت عدد کې ضرب شي، د بدلون ضريب تغير نه کوي.

(c) ketabton.com: The Digital Library

- که په ټوله ډېټا یو مثبت عدد ورزیات شي، د بدلون نوی ضریب چې په لاس راځي له لومړي ضریب څخه کوچنی دی.

لومړی مثال: د لاندې ډېټا د بدلون ضریب محاسبه کړئ:

$$\{1,3,5\}$$

حل: د فورمول له مخې لیکلای شو:

$$\bar{x}=\frac{\sum x_i}{n}=\frac{1+3+5}{3}=\frac{9}{3}=3$$

$$S^2=\frac{\sum(x_i-\bar{x})^2}{n}=\frac{(1-3)^2+(3-3)^2(5-3)^2}{3}=\frac{4+4}{3}=2.67$$

$$S=\sqrt{2.67}$$

$$C\cdot V=\frac{S}{\bar{x}}=\frac{\sqrt{2.67}}{3}=0.543$$

دویم مثال: د تصویري ټلویزوني لامپونو یو تولیدونکی دوه ډوله لامپونه A او B تولیدوي، په داسې حال کې چې د A متوسط عمر مساوي په 1495 او د B متوسط عمر مساوي په 1875 ساعته دی او معیاري انحرافونه يې په ترتیب سره 280 او 310 دي، تولیدوي.

دکوم یوه لامپ تصویر له پاسنیو ډولونو څخه د نسبي تیتوالي یا دبدلون ضریب قیمت زیات دی؟

حل: د فورمول له مخې لرو چې:

$$C\cdot V_A=\frac{S_A}{\bar{x}_A}=\frac{280}{1495}\cdot100=18.7\%$$ د A لامپونو د بدلون ضریب

$$C\cdot V_B=\frac{S_B}{\bar{x}_B}=\frac{310}{1875}\cdot100=16.5\%$$ د B لامپونو د بدلون ضریب

څرنګه چې $C\cdot V_A > C\cdot V_B$ څخه دی، له دې کبله د A لامپ ډېر تیتوالی لري، ولې ټېنګښت يې کم دی.

پوښتنې

1. دلاندې ډېټا د بدلون یا تغیراتو ضریب حساب کړئ؟

1 3 4 5 6

2. که چېرې اوسط مساوي په 4 او معیاري انحراف مساوي په 6 وي، د بدلون یا تغیراتو ضریب څو دي؟
3. ستاسو د ټولګي د زده‌کوونکو د سن دبدلون ضریب 10 کاله وروسته څومره تغییر یا بدلون کوي؟ کمېږي او که ډېرېږي؟

(c) ketabton.com: The Digital Library

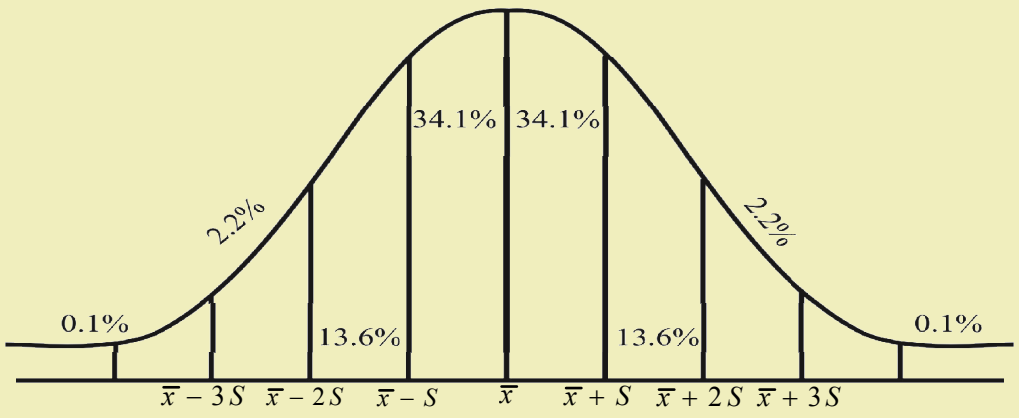

په نورمال منحني کې تيتوالی

اوريدلي به مو وي چې وايي: يو ښه تصوير د زر کلميو ارزښت لري.

لاندې شکل ته وګورئ، د هغه په اړوند فکر او بحث وکړئ.

فعاليت

لاندې دوه ګرافونو د دوه A او B شرکتونو د حقوقو تأديه ښيي.

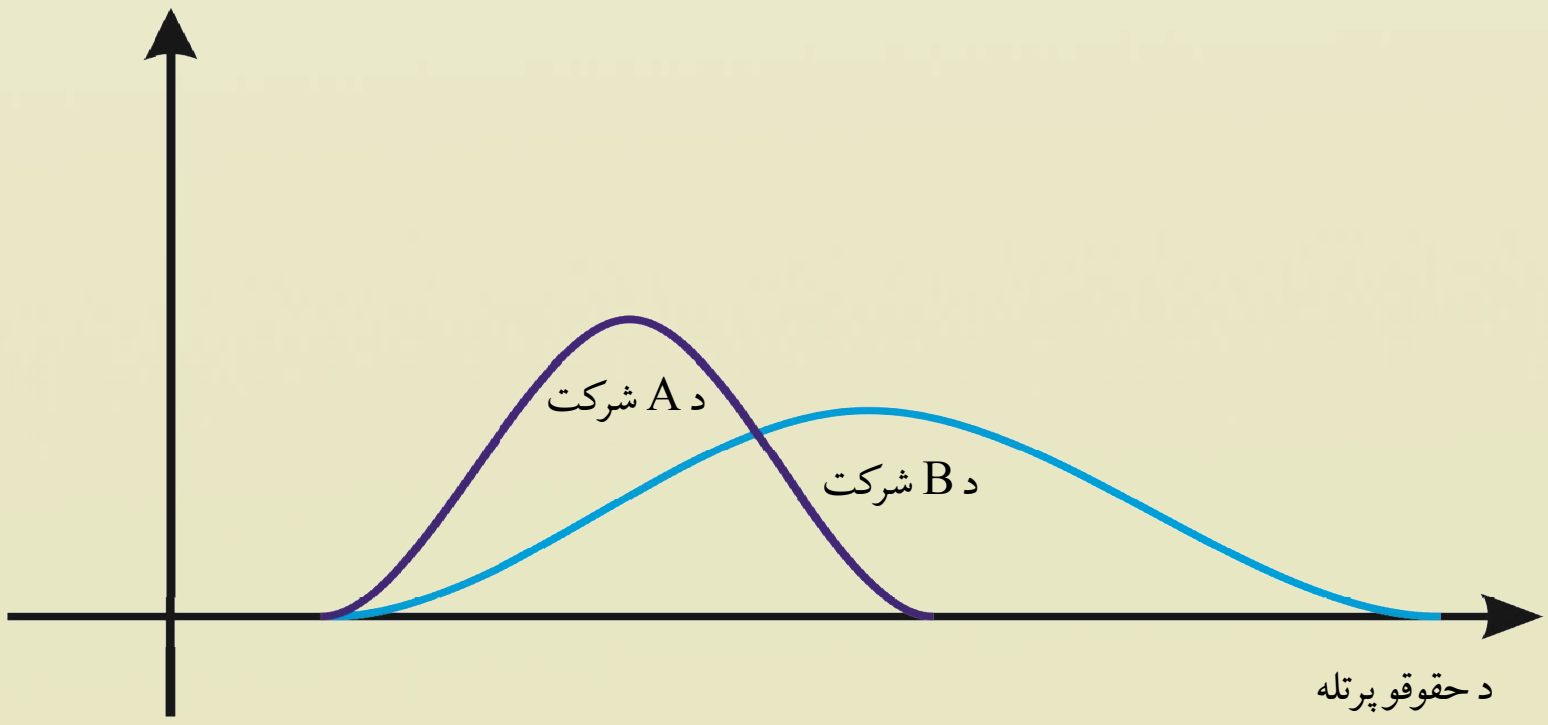

- کوم شرکت په اوسط ډول د حقوقو تاديه ډېره لري؟
- کوم شرکت د حقوقو د تأديې په ميزان کې خپلو کارمندانو ته لړه پراګنده ګي لري؟
- د دواړو شرکتونو د حقوقو تأديات سره پر تله کړئ.

لاندې ټکي د اوسط او معياري انحراف په نورمال منحني کې صدق کوي.

- که چېرې $\bar{x}$ اوسط او S معياري انحراف وي؛ نو 68% دپلټني موارد په $(\bar{x}-S\ ,\ \bar{x}+S)$ فاصله کې يعني د اوسط په شا او خوا د معياري انحراف په فاصله کې ځای لري.
- 96% د پلټني موارد په $(\bar{x}-2S\ ,\ \bar{x}+2S)$ فاصله کې يعني د اوسط په شاوخوا د دوه معياري انحرافونو په فاصله کې ځای لري .
- 99% د پلټني موارد په $(\bar{x}-3S\ ,\ \bar{x}+3S)$ فاصله کې يعني د اوسط په دواړو خواوو درې معياري انحرافونو په فاصله کې قرار لري.

(c) ketabton.com: The Digital Library

- په یوه نورمال منحني کې له $2S$ څخه ډېر انحراف غیر عادي او له $3S$ څخه زیات انحراف زیات غیر عادي شمېرل کېږي.

هغه ډېټا چې د $3S$ په اندازه له اوسط څخه فاصله یا واټن ولري، د تیتوالي یا تیتې ډېټا په نامه یادیږي.

مثال: که د یوې مؤسسې د کارکوونکو د معاش اوسط 12500 افغانۍ او معیاري انحراف یې مساوي په 700 افغانۍ وي نو:

الف: له نورمال توزیع څخه د فیصدي په ګټه اخیستنې سره، د ورکړل شوي معاش توزیع تشریح کړئ؟

ب: آیا ویلای شئ چې د 1400 افغانیو معادل معاش یو غیر عادي معاش دی؟

د الف حل: لومړی د $\bar{x}\pm S$ ، $\bar{x}\pm 2S$ ، $\bar{x}\pm\ 3S$ قیمتونه په لاس راوړو.

فاصله د S له مخې	فاصله د افغانیو له مخې	فیصدي
$\bar{x}\pm S$	11800 – 13200	68%
$\bar{x}\pm 2S$	11100 – 13900	96%
$\bar{x}\pm\ 3S$	10400 – 14600	99.6 %

د ب حل: لومړی $\bar{x}-1400$ په لاس راوړئ چې مساوي په 1500 کېږي؛ یعنې 1400 افغانیو په اندازه 1500 افغانۍ له اوسط څخه ډېرې دي، که چېرې اوس دغه رقم په S وویشو په لاس را ځي:

$$\frac{1500}{700}=2.1$$

په دې ډول د 1400 افغانیو معاش غیر عادي معاش دی، ځکه چې د 2S له اندازې څخه زیات او له $\bar{x}$ څخه پورته دی.

پوښتنه

که چېرې 62.28% فیصده مشاهدات د $(\bar{x}-S\,,\,\bar{x}+S)$ په فاصله کې پراته وي، آیا ویلای شئ، چې 95.45% او 99.73% مشاهدات په کومه فاصله کې قرار لري؟ انټروالونه له نورمالې منحني سره وښایاست؟

(c) ketabton.com: The Digital Library

دنورمالي توزيع دډول معيارونه

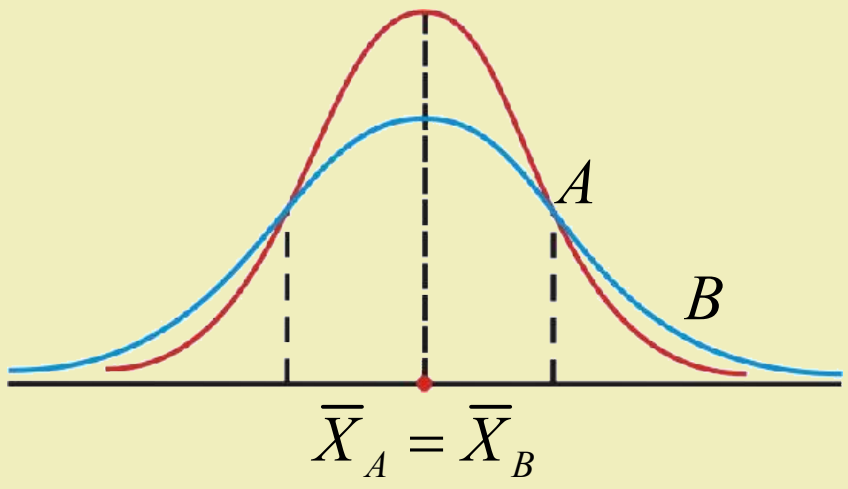

د مرکزي تیتوالي دوه معیارونه یو زیات شمیر د یـوې احصایوي مجموعې اطلاعاتو ته په لنډ ډول انعکاس ورکوي.
ددې لپـاره چـې د یـوې احـصایوي مجمـوعې اطلاعـات، تناظر او د مثبت او منفـي اشـارو لرونکـي وي؛ نـو لـه کـوم ډول منحني څخه بايدګټه واخلو.

فعالیت

- په یو ه نورماله توزیع کې وسط، اوسط او د موډ معیارونه څه وخت سره مساوي دي؟
- که توزیع د اوسط په اطراف کې متناظره نه وي، د وسط اوسط او موډ د کمیتونو په اړه څه فکر کوئ؟
- که چیرې یوه توزیع متناظر ه وي؛ نو د اوسط او وسـط تفاضل څو ده؟
- که چیرې دواړه توزیع ګاني یو شان اوسط او تناظر ولري؛ نو د ځګوالي او تیتوالي له اړخه به څه وضعیت ولري؟

دتوزیع د ډول معیارونه په دوو لاندې حالتونو کې څېړل کېږي:

1- **د خمېدلو skewness معیار**: هغه توزیع چې د اوسط په دواړو خواوو کې متناظره نه وي، خمېدل نومېږي، چې په دوو لاندې ضریبونو ښودل کېږي.

الف: د خمېدلو ضریب: دا هغه معیار دی چې د خمېدلو د میزان د ټاکلو لپاره کارول کېږي، چې په لاندې ډول تعریف شوی دی:

$$\alpha_3 = \frac{\frac{1}{n}\sum(x_i - \overline{x})^3}{S^3}$$

هغه عدد دی چې یوازې د پرتله کولو لپاره تري کار اخېستل کېږي.

که $\alpha_3 = 0$ وي؛ د نو توزیع متناظره ده.

که $\alpha_3 > 0$ وي؛ توزیع مثبت خمېدل (possitve skewness)لري، یعني ښي لوري ته خمېدګي لري.

اوکه $\alpha_3 < 0$ وي؛ توزیع منحني منفي خمېدل (negative skewness)لري یعني کیڼ لورې ته خمېدګي لري.

که چیرې دکثرت جدول موجود وي، خمېدګي(عدم تناظر) یې د $\alpha_3 = \frac{\sum f_i(x_i - \overline{x})^3}{S^3}$ فورمـول پـه واسـطه پیداکېږي. چې f_i فریکونسي ښیي.

ب: د پیرسون د خمېدلو ضریب: د پیرسون ضریب په لاندې ډول تعریف شوی دی.

$$Sk_{(p)} = \frac{3(\overline{x} - med)}{S}$$

په متناظره توزیع کې د پیرسون د خمیدلو ضریب مساوي په صفر دی. د پیرسـون د خمېـدلو د لـو ضـریب مثبـت او منفي قیمتونه په ترتیب سره د توزیع د منحني مثبت یا منفي خمېدل ښیي.

(c) ketabton.com: The Digital Library

2- **د پړسوب kurtosis معیار**: د پړسوب معیار ددې ښودونکی دی چې د توزیع یوه منحني څه وخت جګه او څه وخت ټیټوالي لري.

د پړسوب شاخص هغه معمولي معیار دی چې د یوې منحني د پړسېدلو د اندازه کولو لپاره په کار اچول کېږي او په لاندې ډول تعریف شوی دی:

$$\alpha_4 = \frac{\frac{1}{n}\sum_{i=1}^{n}(x_i - \overline{x})^4}{S^4}$$

که د کثرت جدول په لاس کې ولرو، نو د پړسوب معیار فورمول $\alpha_4 = \frac{\frac{1}{n}\sum_{i=1}^{n} f_i(x_i - \overline{x})^4}{S^4}$ دی چې دلته f_i فریکونسي، x_i ډېټا او $\overline{x}$ د x_i اوسط او S معیاري انحراف دی.

د پړسوب معیار د توزیع په ځای او پراګنده ګي پورې اړه نه لري. دغه معیار د پرتله کیدو لپاره په کار لوېږي.

مثال: مخامخ شکل په پام کې ونیسئ د α_4 ضریب د درې ډوله خمېدلو او پړسوب ډولونه چې په شکل کې د هغوی توزیع ښودل شوې ده ښیي.

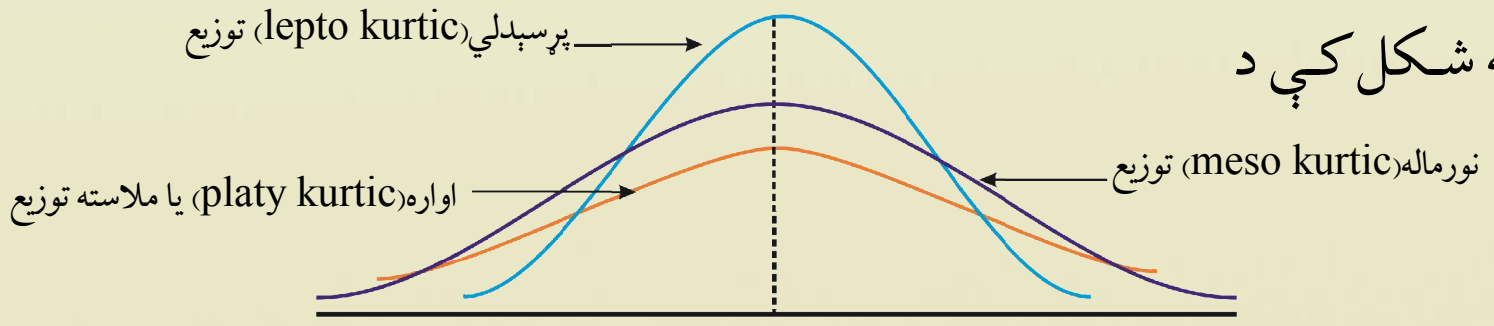

حل: د نورمالي توزیع د پړسوب د درجې او میزان د پرتله کېدو لپاره لکه: یو سټنډرډ په کار اچول کېږي.

د نورمالي توزیع لپاره د α_4 قیمت مساوي په 3 دی، په داسې حال کې چې که چېرې α_4 له 3 څخه زیاته وي نظر نورمال منحني ته د منحني پړسوب زیات دی.

یا په بل عبارت یوه پړسیدلې توزیع چې څوکه لري او که چیرې α_4 له 3 لږ وي، نظر نورمالي منحني ته یې پړسوب کم دی چې د ملاستې یا اوارې توزیع په نامه یادېږي.

پوښتنې

د یوه ټولګي د زده‌کوونکو د احصایې د مضمون نمرې په لاند ې ډول ورکړ شوي دي، د پیرسون د پړسوب ضریب حساب کړئ.

نمرې	د زده‌کوونکو شمېر
40-50	4
50-60	6
60-70	10
70-80	4
80-90	4
90-100	2

(c) ketabton.com: The Digital Library



خو متحوله ټولني

که چېرې د خپل يوه ټولګيوال د ونې په اندازه وپوهېږئ، کولای شئ هغه ته په پام د هغه د وزن په اندازه پوه او په دې اړوند فکر وکړئ.

فعاليت

آيا په تېرو درسونو کې مو د اشخاصو د ونې او وزن په اړوند يو ځای مطالعه او څېړنه کړې ده.

- فکر کولای شئ چې د يوه سړي د ونې او وزن مقدار د يو متحول په توګه کولای شو چې وړاندې يې کړو؟
- که وغواړو چې د يوه ټولګي د زده کوونکو د ونې او وزن مقدار يو ځای وڅېړو، نو دغه يوه ټولنه ده.
- دخپلو 10 تنو ټولګيوالو ونې او وزن اندازه کړئ.
- لاس ته راغلي معلومات د مرتبو جوړو په توګه وليکئ.
- هغه ټکي چې د مرتبو جوړو په مرسته په مستوي کې ټاکل کېږي، څه ډول شکل لري؟د يوه خط په واسطه يې وصل کړئ.
- آيا ويلای شئ هغه ټکي چې په مستوي کې وصل شي، کوم شکل لري؟

له پاسني فعاليت څخه پوهېږو چې د بحث موضوع، دوه ډوله متحولين دي. تر اوسه مو په تېرو درسونو کې داسې ټولنې پلټلې چې ټولنو په هغوی کې يوازې يو متحول درلوده اوس غواړو داسې ټولنې ولټوو چې دوه او يا له هغو څخه زيات متحولين ولري، دکار د آساني لپاره معمولاً د يو يا څو متحولينو تر منځ درياضيکي اړيکې په مرسته د قايمو مختصاتو په قايم سېستم کې جوړيږي.

په لومړي ګام کې په دې منظور د معادلو د جوړېدو لپاره لازم معلومات را ټول شي او په دويم ګام کې را ټول شوي معلومات د ارزښت لرونکو متحولينو په څېر په يوه مستوي کې راټول او په نښه کېږي، هغه شکل چې د دغو ټکو له وصلېدو څخه لاس ته راځي، مونږ ته يو ګراف را ښيي.

مثال: يو متخصص د غذايي رژيم يو ډول تأثير په يو شمېر موږکانو څېړلی دی. په دې ډول يې د هر موږک لومړنی وزن اندازه کړی او بيا يې د عمليې په تطبيق پيل کړي چې په پای کې يې بيا د موږکانو وزن اندازه کړی چې لاندې معلومات په لاس راغلی دي: $(1,8),(2,3),(1,7),(3,5),(2,4)$

(c) ketabton.com: The Digital Library

په دې ډول لومړی مختصه د موږک لومړنی او دویمه مختصه د موږک وزن دغذایي رژیم له تطبیق څخه وروسته ښیي.

- معلومات په یوه سطري او ستوني جدول کې ترتیب کړئ؟
- که چېرې ډېټا د یوې ټولنې په څېړ وګڼل شي، نو دغه ټولنه به څو متحولین ولري؟

حل: لاندې سطري جدول په پام کې نیسو:

د موږکانو شمیر	1	2	3	4	5
د موږکانو لومړنی وزن	1	2	1	3	2
د غذایي رژیم له تطبیق څخه وروسته د موږکانو وزن	8	3	7	5	4

لاندې ستوني جدول په پام کې نیسو.

د موږکانو شمېر	د موږکانو لومړنی وزن	د غذایي رژیم له تطبیق څخه وروسته د موږکانو وزن
1	1	8
2	2	3
3	1	7
4	3	5
5	2	4

پورتني ډېټا یوه دوه متحوله ټولنه معرفي کوي.

پوښتنه

د زراعتي محصولاتو دلوړوالي لپاره فکتورونه، لکه: اوبه، کود، د کود ډول، لمر او د خاورې ډول موثر ګڼل کېږي، آیا ویلی شئ چې په دغه ټولنه کې لږ تر لږه له څو ډوله متحولینو سره سروکار لرئ؟

(c) ketabton.com: The Digital Library

د تیتوالي ګراف

Scatter diagram

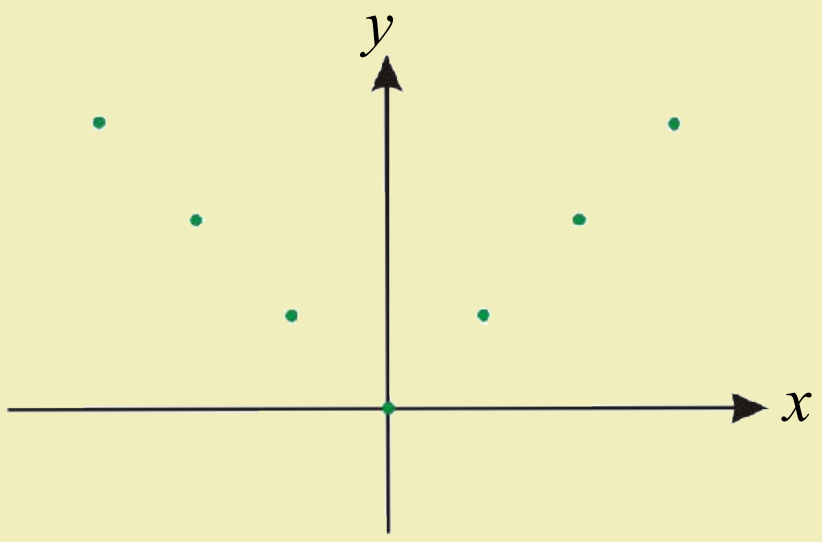

مخامخ شکل ته په پام ، هغه ټکي چې په مستوي کې په نښه شوي دي، د مرتبو جوړو په ډول ترتیب او ریاضیکي معادله یې ولیکئ:

فعالیت

لاندې مرتبې جوړې ورکړل شوي دي:

(1,2) (2,3) (3,4) (4,5)

- د ورکړل شوو مرتبو جوړو ګراف په دقیق ډول رسم کړئ.
- مشخص شوي ټکي سره ونښلوئ او ریاضیکي معادله یې پیدا کړئ.
- په لاندې ډول د دغو ډېټا د هر یوه، دویمه مختصه په لاندې ډول بدلوو.
- د هر ټکي لپاره یوه سکه پورته وغورځوئ، که شېر راغله په y یو واحد اضافه او که خط راغله له y څخه یو واحد کم کړئ، نو د لاس ته راغلو ټکو یا تغییراتو ګراف رسم کړئ.
- دغه عملیه څو ځلې تکرار، خو دا ځل کله چې قیمتونه زیات یا کموي، بدلون مه ورکوئ په x او y پورې تړلي قیمتونه څنګه تغیر کوي؟

مثال: لاندې مرتبې جوړې چې پر موږکانو دغذایي رژیم تأثیراتو څخه مو په لاس راوړي دي، په پام کې ونیسئ: (2,4) (3,5) (1,7) (2,3) (1,8)

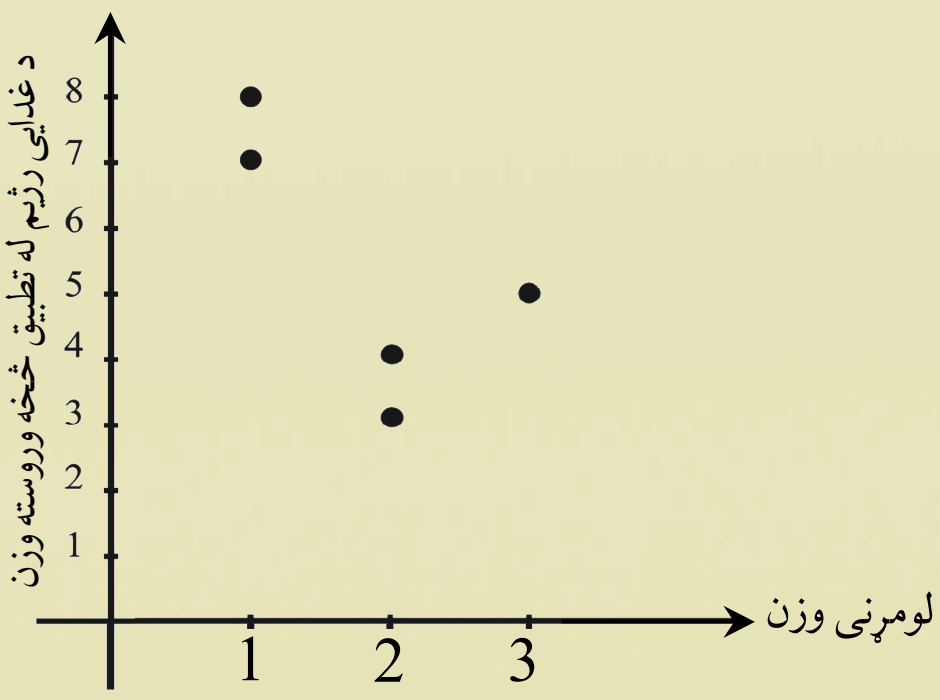

دغه مرتبې جوړې د مخامخ شکل په څېر په یوه مستوي کې ښودل شوي دي.

پورتنی ګراف چې د موږکانو وزن راښيي، د هغو پاشلو ټکو مجموعه ده چې په مستوي کې ده چې د اړوندې ډېټا په اندازه کېدلو په یوه دوه متحوله ټولنه کې د مختصاتو په سیستم کې لاسته راځي.

(c) ketabton.com: The Digital Library

مثلاً: لاندې ګرافونه په پام کې ونیسئ:

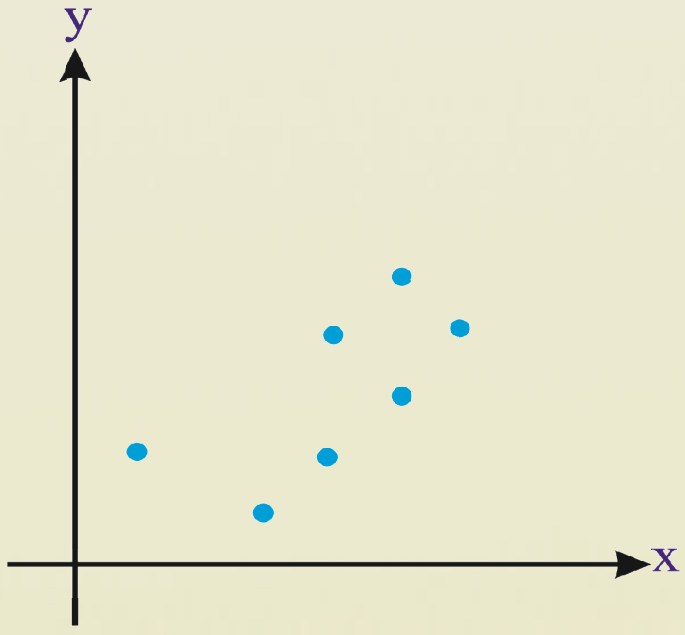

(الف)

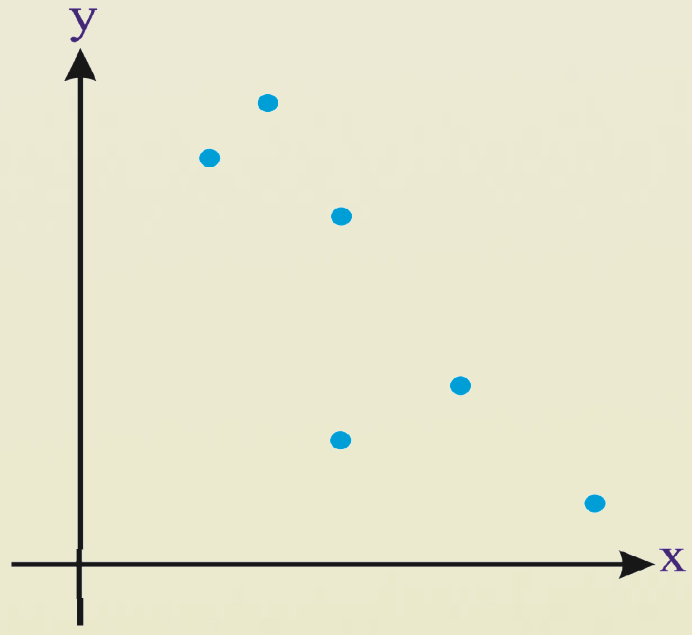

(ب)

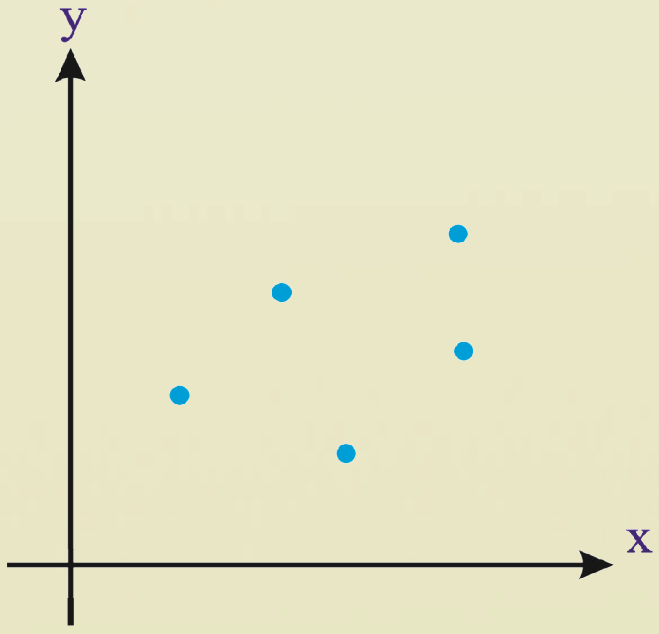

(ج)

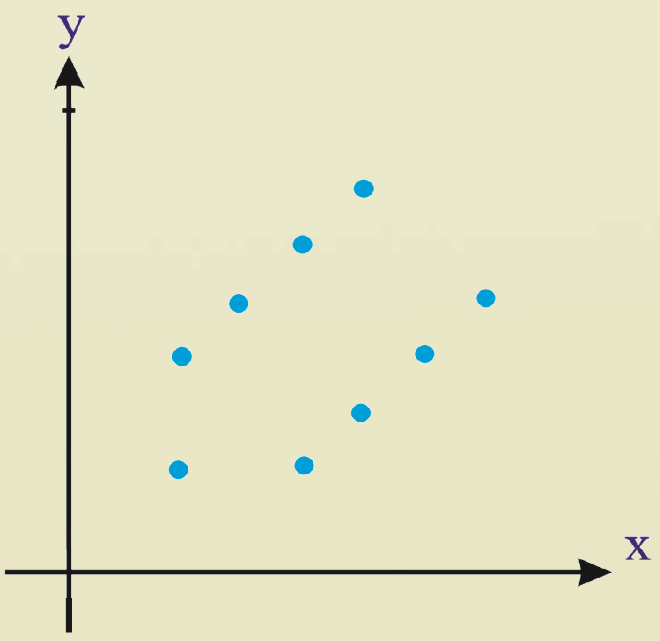

(د)

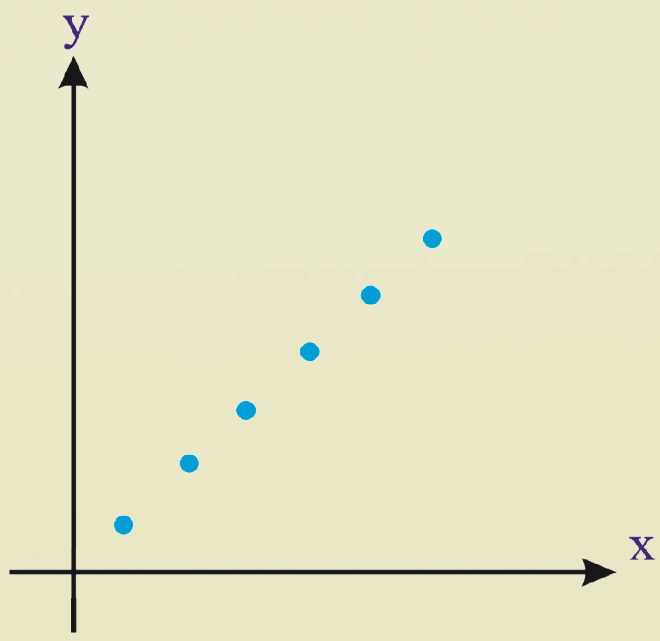

(هـ)

د(الف) په ګراف کې لیدل کېږي چې که چیرې د x قیمتونه زیات شي؛ نو د y قیمتونه هم زیاتېږي، خو د (ب) په ګراف کې بر عکس د x د قیمتونو په زیاتوالي د y قیمتونه کمېږي.

د(ج) په ګراف کې د x په قیمت کې تغییرات هیڅ ډول اطلاع د y دبدلونونویه اړوند نه ورکوي ځکه د x قیمت په درلودلو سره په ډېر دقت سره په دې ګراف کې د(الف) او (ب) ګرافونو پـه پرتلـه زیاتـه ده، د (هـ)پـه ګراف کې د y د قیمت حدس په ډېرې پاملرنې صورت مومي.

پوښتنې

لاندې ګراف دیو شمېر ټراکټرونو عمر راښیي، آیا ددې دوو متحولینو تر منځ کومه اړیکـه یـا ارتبـاط وینـې؟ توضیح یې کړئ.

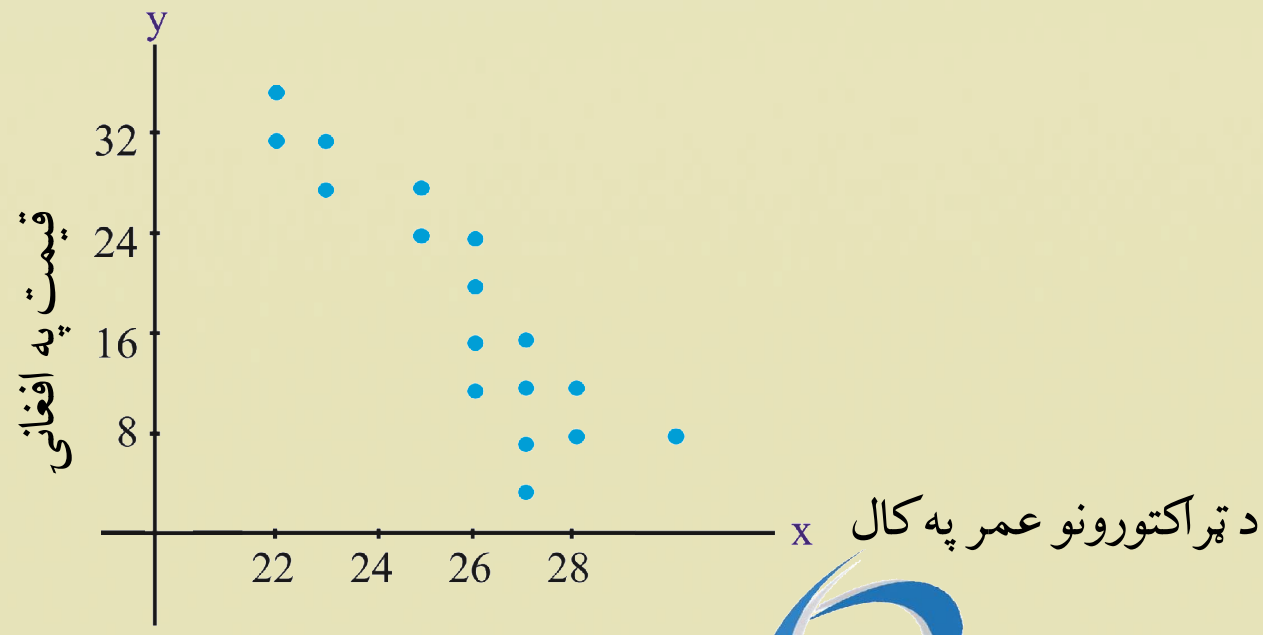

(c) ketabton.com: The Digital Library

پيوستون او ډيپوستون ضريب

د A, B, C او D ټکي لکه: مخامخ شکل راکړل شوي دي، آيا شوني ده چې ټکي په يوه مستقيمه کرښه سره وصل شي، ولې؟

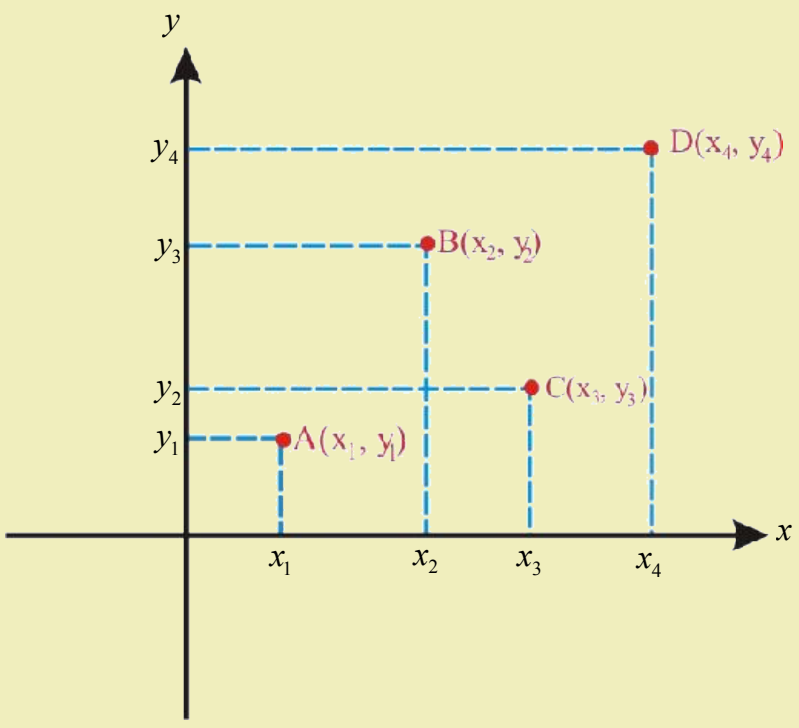

فعاليت

لاندې شکلونه په پام کې ونيسئ:

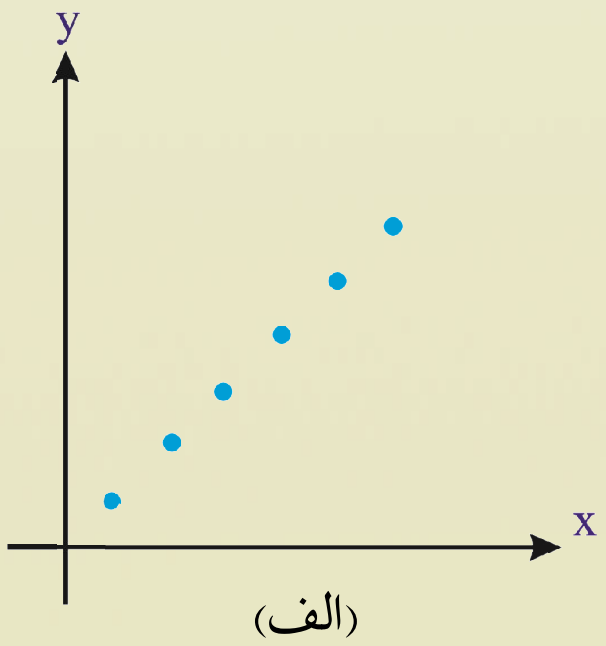

(الف)

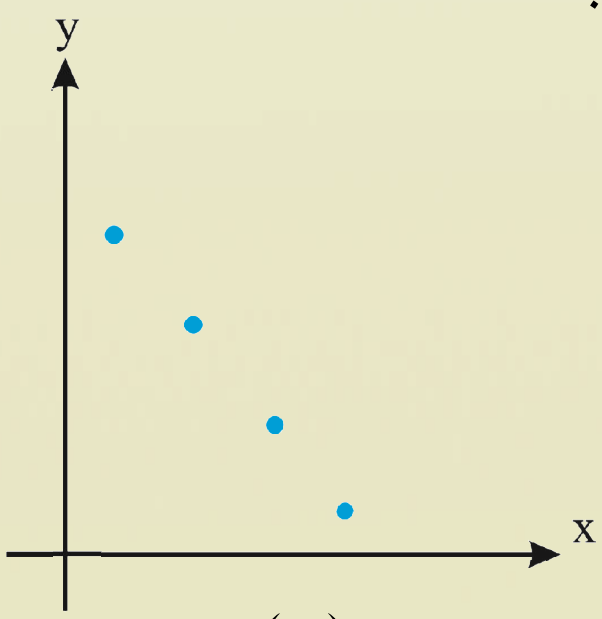

(ب)

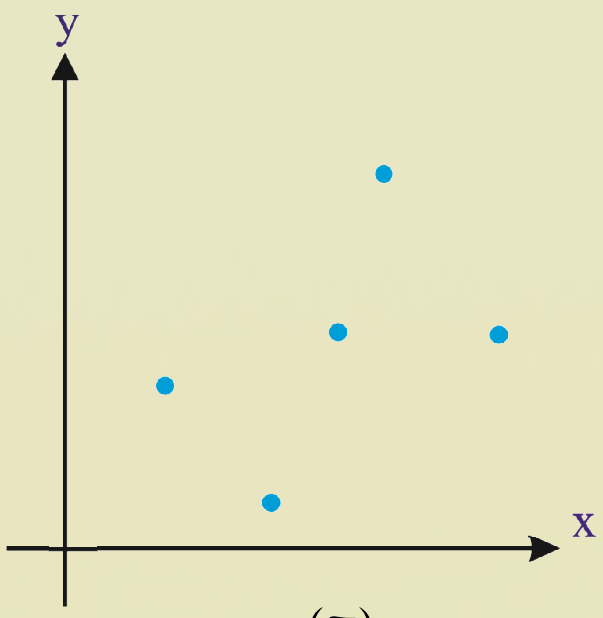

(ج)

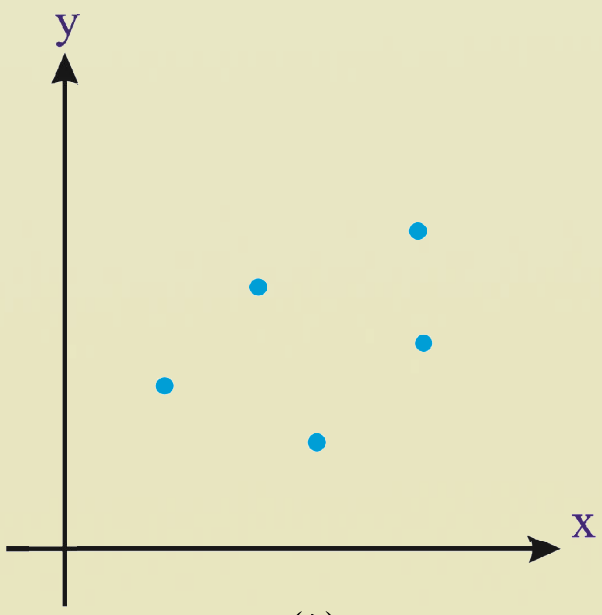

(د)

- د (الف) او (ب) په شکلونو کې کولای شو چې د y متحول د هغې کرښې په مرسته چې له دغو ټکو تېرېږي وټاکو.
- د (الف) او (ب) په شکلونو کې د x او y تر مينځ څه ډول اړيکه ده؟
- آيا کولای شو چې د(ج) او(د) په شکلونو کې داسې يوه کرښه وټاکو چې ټول ټکي پرې پراته وي؟
- د(ج) او (د) په شکلونو کې د x او y ترمنځ اړيکې په څه ډول دي؟
- - د (الف) او (ب) د شکلونو اړيکې د(ج) او(د) د شکلونو له اړيکو سره پرتله او ووايئ چې د y د متحول خطا د x د متحول په مرسته په کوم شکل کې ډېره ده؟

(c) ketabton.com: The Digital Library

له پورتني فعالیت څخه داسې پوهېږو چې که چېرې ټکي په مستوي کې یوې مستقیمې کرښې ته نږدې پراته وي؛ نو په دې صورت کې د y د متحول خطا نظر x ته لږ ده او برعکس هر څومره چې ټکي له کرښې لرې پراته وي، نو په هم هغه اندازه د y خطا ډېره ده.

له دې کبله داسې معیار غواړو در وپېژنو چې د ټکو پیوستون مونږ ته اندازه کړي.

هغه فورمول چې د پیوستون د محاسبې لپاره ورکړ شوی ده، د پیوستون د ضریب په نامه یاد او په r سره ښودل کېږي چې عبارت دی له:

$$r = \frac{\frac{\text{د } x \text{ او } y \text{ د ضرب د حاصل مجموعه}}{n} - (\text{د } y \text{ ګانو اوسط})(\text{د } x \text{ ونو اوسط})}{(\text{د } y \text{ ګانو معیاري انحراف})(\text{د } x \text{ ونو معیاري انحراف})} = \frac{\frac{\sum xy}{n} - \bar{x}\,\bar{y}}{S_x S_y}$$

مثال: دموږکانو د لومړني وزن او غذايي رژیم څخه وروسته ډېټا لکه: لاندې جدول په پام کې ونیسئ.

د موږکانو شمېره	لومړنی وزن X	له عملیې څخه وروسته وزن y	د x او y دضرب حاصل
1	1	8	8
2	2	3	6
3	1	7	7
4	3	5	15
5	2	4	8
	$\sum 9$	$\sum 27$	$\sum 44$

دلومړني او وروستني غذايي رژیم د وزنونو تر منځ د پیوستون ضریب محاسبه کړئ.

حل: که چیرې x لومړني وزنونه او y د غذايي رژیم له تطبیق څخه وروسته وزنونه او $n = 5$ د موږکانو شمېر په پام کې ونیسو، نو د x او y اوسطونه عبارت دی له:

$$\bar{x} = \frac{9}{5} = 1.8 \qquad , \qquad \bar{y} = \frac{27}{5} = 5.4$$

$$S_x^2 = \text{د } x \text{ ونو واریانس} = \frac{(1-1.8)^2+(2-1.8)^2+(1-1.8)^2+(3-1.8)^2+(2-1.8)^2}{5}$$

$$= \frac{0.64+0.04+0.64+1.44+0.04}{5} = \frac{2.8}{5} = 0.56$$

$$S_y^2 = \text{د } y \text{ ګانو واریانس} = \frac{(8-5.4)^2+(3-5.4)^2+(7-5.4)^2+(5-5.4)^2+(4-5.4)^2}{5}$$

$$= \frac{6.76+5.76+2.56+0.16+1.96}{5} = \frac{17.2}{5} = 3.44$$

$$\frac{\text{د } x \text{ او } y \text{ ګانو د ضرب د حاصل مجموعه}}{\text{د ډېټا شمېر}} = \frac{\sum x \cdot \sum y}{n} = \frac{(1\cdot 8)+(2\cdot 3)+(1\cdot 7)+(3\cdot 5)+(2\cdot 4)}{5} = \frac{44}{5} = 8.8$$

(c) ketabton.com: The Digital Library

په دې ډول په پايله کې د پيوستون ضريب په لاندې ډول لاس ته را ځي:

$$r = \text{د پيوستون ضريب} = \frac{8.8-(1.8)(5.4)}{\sqrt{0.56}\cdot\sqrt{3.44}} = \frac{-0.92}{1.36} = -0.67$$

اوس داسې سوال را منځ ته کېږي چې د پيوستون د -0.67 ضريب د x او y ترمنځ د ډېر پيوستون ښودونکې ده او که نه؟ د دې سوال د ځواب د پيدا کېدو لپاره د پيوستون ضريب له لاندې مثالونو څخه په څو مرحلو کې په لاس راوړو:

مثال: لاندې جدولونه په پام کې و نيسئ:

x	y
1	3
2	5
3	7
4	9

x	y
1	2
2	6
3	6
4	10

x	y
1	2.5
2	5.5
3	6.5
4	8.5

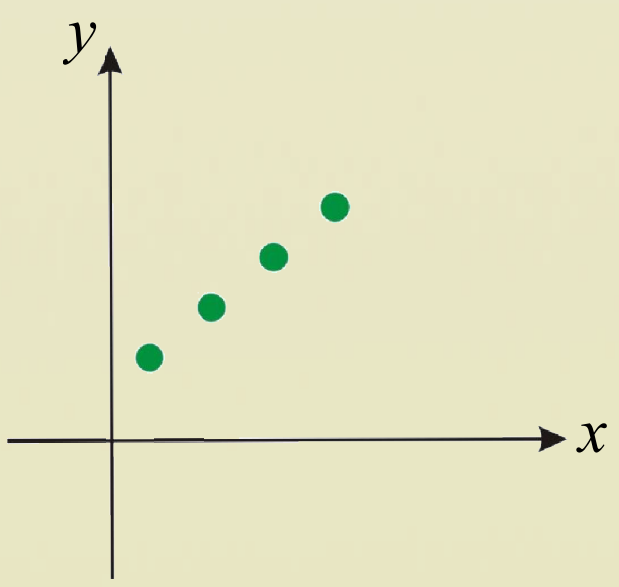

(الف)

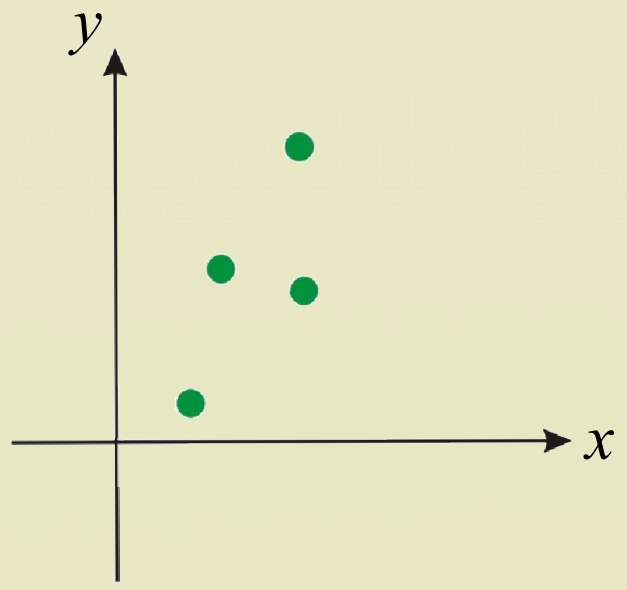

(ب)

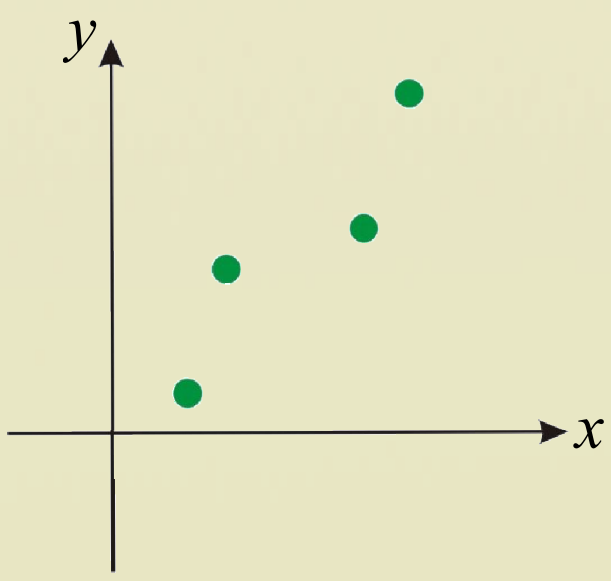

(ج)

د (الف) په شکل کې ټکي ټول په يوه کرښه پراته دي، نو په دې ډول د ټکو ترمنځ د پيوستون ضريب ډېر لوړ قيمت لري. د (ب) په شکل کې ټکي د يوې مستقيمې کرښې په شاخوا پراته دي، نو له دې کبله نظر د(الف) حالت ته د ټکو تر منځ د پيوستون ضريب لږ دی د (ج) په شکل کې څرنګه چې ټکي د مستقيمې کرښې د(ب) د حالت په اندازه نږدې پراته دي، نو بايد ضريب يې په دې حالت کې د(ب) له حالته زيات، خو د(الف) له حالته لږ دی، د دې خبرې د پخلي لپاره موضوع په لاندې ډول څېړو، د پيوستون ضريب د(الف) حالت لپاره:

$$\bar{x} = \frac{10}{4} = 2.5 \qquad \bar{y} = \frac{24}{4} = 6$$

$$\text{د } x \text{ ونو واريانس} = \frac{(-1.5)^2+(-0.5)^2+(0.5)^2+(1.5)^2}{4} = \frac{2.25+0.25+0.25+2.25}{4} = \frac{5}{4} = 1.25$$

$$\text{د } y \text{ ګانو واريانس} = \frac{(-3)^2+(-1)^2+1^2+3^2}{4} = \frac{9+1+1+9}{4} = \frac{20}{4} = 5$$

$$\text{د } x \text{ او } y \text{ ګانو دضرب حاصل} = (1\cdot3)+(2\cdot5)+(3\cdot7)+(9\cdot4) = 70$$

(c) ketabton.com: The Digital Library

$$r = \text{دپیوستون ضریب} = \frac{\frac{70}{4}-(2.5)(6)}{\sqrt{1.25}\cdot\sqrt{5}} = \frac{17.5-15}{\sqrt{6.25}} = \frac{2.5}{2.5} = 1$$

د پیوستون ضریب د (ب) په حالت کې:

$$\bar{x} = 2.5 \quad , \quad \bar{y} = \frac{24}{4} = 6$$

د x ونو واريانس $= 1.25$ ، د y گانو واريانس $= \frac{16+0+0+16}{4} = 8$

د x او y گانو د ضرب د حاصل مجموعه $= 2+12+18+40 = 72$

$$\text{د پیوستون ضریب} = \frac{\frac{72}{4}-(2.5)(6)}{\sqrt{1.25}\cdot\sqrt{8}} = \frac{3}{\sqrt{10}} = 0.9486$$

د (ج) په حالت کې د پیوستون ضریب: $\bar{y} = \frac{23}{4} = 5.75$ ، $\bar{x} = 2.5$

د x ونو واريانس $= 1.25$ ، د y گانو واريانس $= 4.6875$

$$\frac{\text{د } x \text{ او } y \text{ گانو د ضرب د حاصل مجموعه}}{4} = 16.75$$

$$\text{د پیوستون ضریب} = \frac{16.75-(2.5)(5.75)}{\sqrt{1.25}\sqrt{4.6875}} = \frac{2.375}{\sqrt{5.858}} = 0.9812$$

په ياد ولرئ چې په هغو شرايطو کې چې y لږ خطا و لري(د x او y مقدارونه خط ته نږدې پراته دي) که چيرې د پیوستون ضريبونه 1او -1 وي، x او y پر يوه مستقيمه کرښه پراته دي. غير له هغه څخه د پیوستون ضريب د دغو دوو مقدارونو تر منځ پروت دی.

پوښتنې

1- لاندې ډېټا راکړل شوې ده.

x	1	2	3	4	5
y	4	3	2	1	0

د ډېټا دپیوستون ضريب محاسبه کړئ.

2- د خپلو ټولگيوالو د ونې او وزن تر منځ د پیوستون ضريب حساب کړئ؟

(c) ketabton.com: The Digital Library

د خطي میلان معادله

The linear regression equation

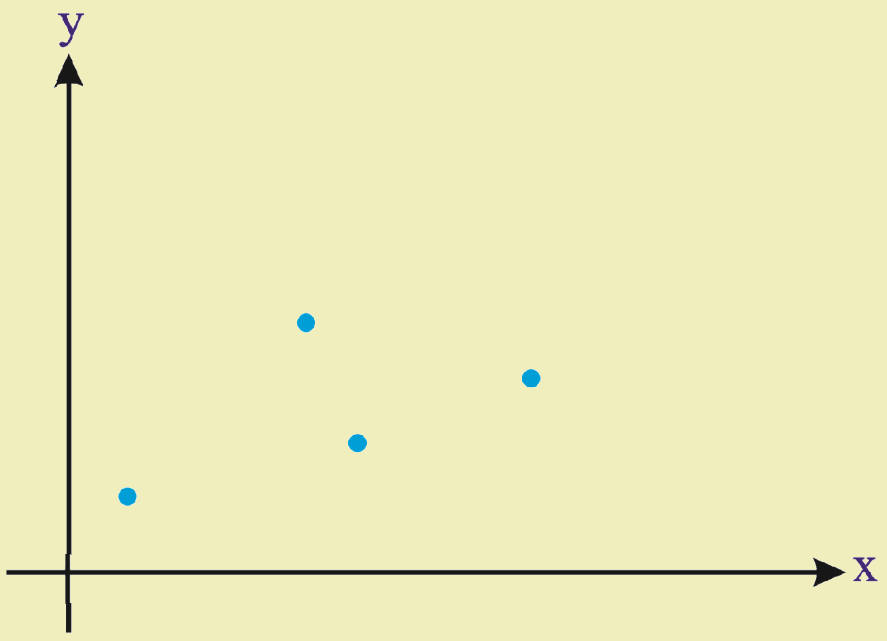

فرض کړئ چې یو پاشلی ګراف په لاندې ډول راکړل شوی وي. یوه مستقیمه کرښه چې معادله یې د $y = ax + b$ په ډول ورکړل شوې وي، پیدا کړئ چې ګراف یې ټولو ټکو ته نږدې فاصله یا واټن ولري.

فعالیت

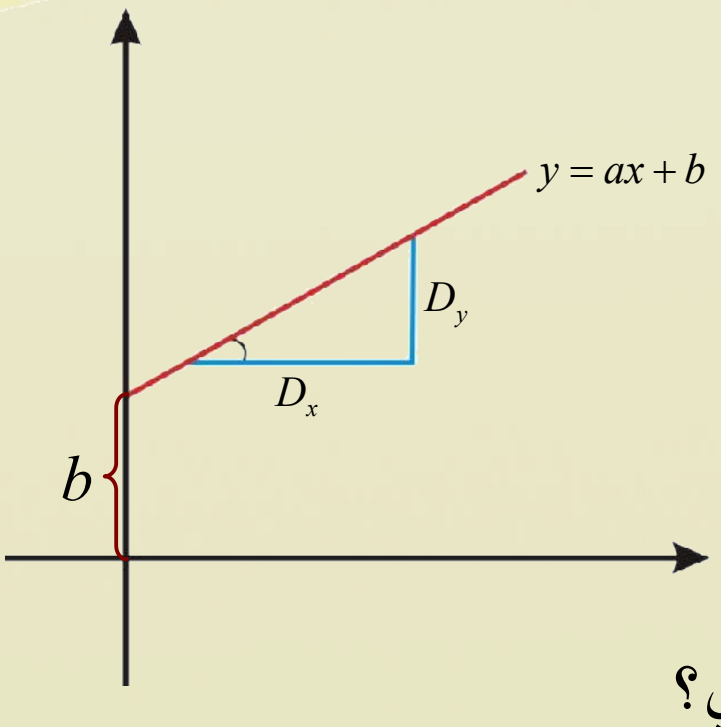

په مخامخ شکل کې یوه خطي تابع(لومړی درجه) چې ګراف یې مستقیمه کرښه ده، رسم شوې ده.

- د $y = ax + b$ خطي تابع کې a او b څه ډول مقدارونه دي؟
- د $y = ax + b$ په تابع کې د x او y متحولین په کوم نوم یادیږي؟
- د $y = ax + b$ مستقیمې کرښې میل پیدا کړئ؟
- د $y = ax + b$ په معادله کې د y بدلون ، د یو واحد په اندازه په x کې و ټاکئ؟
- د $y = ax + b$ معادله کې که چیرې $a > 0$ وي؛ د تابع ګراف متزاید او که متناقص دی؟

همدغه راز که چیرې $a < 0$ سره وي، د تابع ګراف څه شکل لري؟

او که چیرې $a = 0$ وي، د تابع دګراف شکل و ټاکئ؟

مخامخ شکل په پام کې ونیسئ:

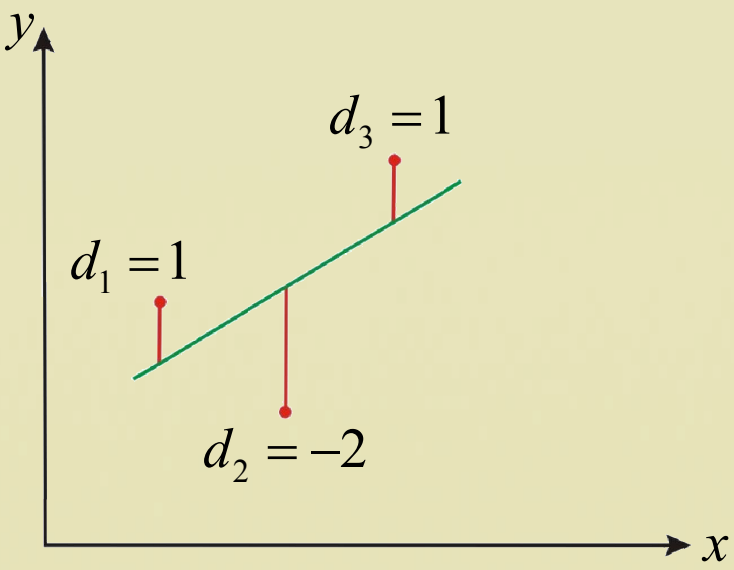

د فاصلو مجموع $d_1 + d_2 + d_3$ او $d_1^2 + d_2^2 + d_3^2$ محاسبه کړئ.

(c) ketabton.com: The Digital Library

له پورتني فعالیت څخه پوهېږو چې د $y = ax + b$ معادله يوه خطي تابع ده چې د a ضريب ددې معادلې ميل جوړ وي او کله چې a مثبت وي، مستقيمه کرښه متزايد او که چېرې a منفي وي، نو کرښه متناقصه ده.
پاملرنه وکړئ چې که د (x, y) جوړه د $y = ax + b$ په معادله کې صدق وکړي، په دې صورت کې نوموړي ټکي د مستقيمې کرښې په ګراف پراته دي.
هر خومره چې د پاشلي ټکی مستقيمې کرښې ته نژدې وي، نو د پيوستون ضريب به -1 او $+1$ ته ورنژدې وي، که چېرې د يوې مستقيمې کرښې معادله ولرو او پوه شو چې د پيوستون ضريب مناسب او کولای شو د y د متحول په مرسته متحول وټاکو او که چيرې مستقيمه کرښه ونلرو، کولای شو چې دغه کرښه په داسې يوه تګلاره چې د لږکيو يعنې اصغري مېتود جوړونې[1] مربعو په نامه يادېږي، په لاندې ډول په لاس راوړو.
فرض کوو چې د پاشلو ټکو ګراف(متفرقه دیاګرام یا Scatrter diagram) په دې ډول راکړل شوی وي.

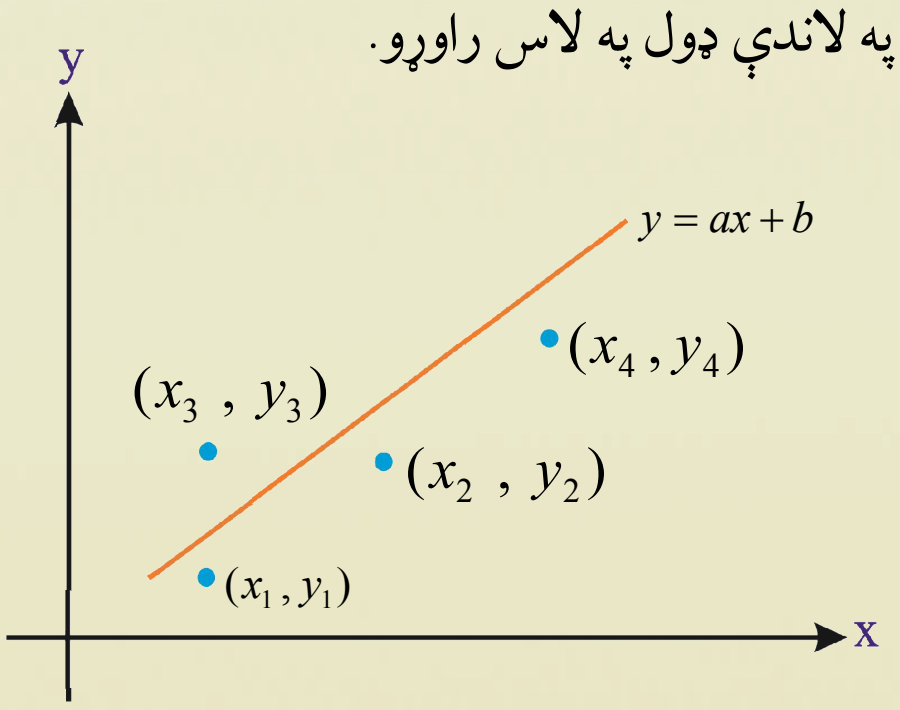

او غواړو داسې يوه کرښه چې معادله يې $y = ax + b$ وي، د ټکو له منځ څخه داسې تيره کړو چې ټولو ټکو ته نږدې وي. په دې تګلاره کې بايد په مناسب ډول د کرښې معادله داسې جوړه شي چې د عمودي انحرافونو د دويم توان مجموع له مستقيمې کرښې څخه لږ تر لږه اصغري وي، مخ کې له فورمول څخه لاندې مثال په پام کې نيسو:

x	1	5	9
y	6	5	7

لاندې شکلونه د دغې ډېټا لپاره رسموو او د کرښو خطاوې له مشاهدو څخه تشخيصوو.

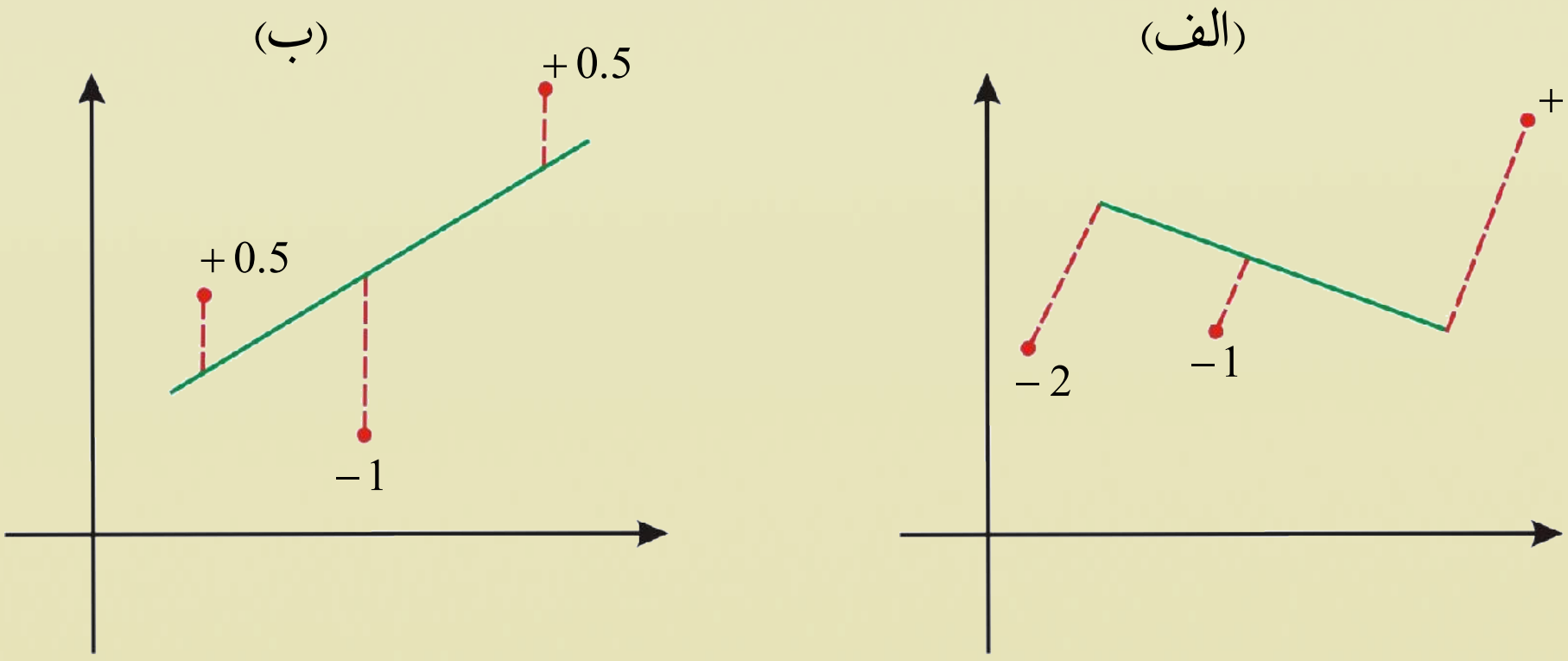

[1] the method of least square -

(c) ketabton.com: The Digital Library

ښکاره ده چې رسم شوې کرښه د (ب) په حالت کې په مرتب ډول د(الف) له حالته څخه ښه ده.

په دواړو حالتونو کې د کرښو د خطاګانو الجبري جمع صفر ده.

د (الف) حالت: $0=3+(-1)+(-2)=$ د کرښې د خطاګانو الجبري جمع.

د (ب) حالت: $0=0.5+(-1)+(0.5)=$ د کرښې د خطاګانو الجبري جمع.

څرنګه چې په دواړو حالتونو کې د جمعې حاصل مساوي په صفر ده، نو له دې کبله نشو ویلای چې کومه کرښه یوه مناسبه کرښه ده. ددې لپاره چې مثبت او منفي خطاوې یو له بله د منځه یو نسي، نو هره کرښه وروسته له مربع کولو جمع کوو:

$$14=(3)^2+(-1)^2+(-2)^2=$$ د خطاګانو د دویم توان مجموع

$$1.5=(0.5)^2+(-1)^2+(0.5)^2=$$ د خطاګانو ددویم توان مجموع

له دې کبله د کرښې د خطاګانو د دویم توان مجموع څرنګه چې د(ب) په حالت کې نظر له(الف) حالت څخه یې قیمت لږ دی، نو ویلی شو چې:

مناسبه کرښه هغه ده چې د خطاګانو د مربعاتو مجموع یې له نورو کرښو کمه وي، دغه راز کرښو ته د ریګریشن کرښې وایي.

که چېرې د ریګریشن کرښې د مقدار او هغو مشاهداتو تر منځ د مقدارونو توپیرچې منځ ته راځي په $\bar{y}$ وښیو، په دې صورت کې د دویمو توانونو د مجموع د لا کوچني والي په خاطر په لاندې ډول عمل کوو:

$$\text{د خطاګانو ددویمو توانونو مجموع} = \sum(y-\bar{y})^2=\sum[y-(ax+b)]^2$$
$$=\sum(y-b-ax)^2$$
$$=(ax_1+b-y_1)^2+(ax_2+b-y_2)^2+.....$$

په دې حالت کې x او y ثابت، a او b متحولین دي.

پرته له دې مونږ هغه تګلاره چې د a او b د محاسبې او په لاس راوړلو لپاره په کار لویدلې، ورننو څو، یوازې د هغوی د محاسبې خطا په پام کې نیسو:

$$a=r\frac{sy}{sx}b=\text{د پیوستون ضریب}\times\frac{\text{د } y \text{ معیاري انحراف}}{\text{د } x \text{ معیاري انحراف}}$$

$$b=\bar{y}-a\bar{x} \qquad , \qquad b=\frac{\sum x\,y-n\,\bar{x}\,y}{\sum x^2-n\,\bar{x}^2}=\frac{\sum x\,y}{\sum x^2}$$

د a او b د محاسبې دغه لاره چې د لږکیو مربعاتو تګلارې په نامه یادیږي.

(c) ketabton.com: The Digital Library

پایله: د ریګریشن کرښه هغه وسیله ده چې د یو متحول د مقدار د وړاند وینې لپاره د بل متحول په حسابولو کې چې ورسره تړلې دی، د استفادې وړ ګرځي.

مثال:لاندې ډېټا په پام کې ونیسئ.

x	1	2	3	4	5
y	4	3	2	1	0

د y د ریګریشن کرښه نظر x ته په لاس راوړئ.

حل: څرنګه چې:

$$\bar{x} = \frac{\sum x_i}{n} = \frac{1+2+3+4+5}{5} = \frac{15}{5} = 3$$

$$\bar{y} = \frac{\sum y_i}{n} = \frac{4+3+2+1+0}{5} = \frac{10}{5} = 2$$

$$S_x^2 = \frac{\sum (x_i - \bar{x})^2}{2} = \frac{4+1+0+1+4}{5} = \frac{10}{5} = 2 \quad \Rightarrow \quad S_x = \sqrt{2}$$

$$S_y^2 = \frac{\sum (y_i - \bar{y})^2}{n} = \frac{4+1+0+1+4}{5} = \frac{10}{5} \quad \Rightarrow \quad S_y = \sqrt{2}$$

$$\frac{\sum xy}{n} = \frac{4+6+6+4+0}{5} = \frac{20}{5} = 4$$

$$r = \frac{\frac{1}{n}\sum xy - \bar{x}\cdot\bar{y}}{S_x \cdot S_y} = \frac{4-3\cdot 2}{\sqrt{2}\sqrt{2}} = \frac{-2}{2} = -1$$

له دې کبله:

$$b = \bar{y} - b\bar{x} = 2 - b\cdot 3$$

$$a = r\frac{S_y}{S_x} = -1\frac{\sqrt{2}}{\sqrt{2}} = -1$$

$$b = \bar{y} - b\bar{x} = 2-(-1)(3) = 2+3 = 5$$

په دې ډول د ریګریشن معادله عبارت ده له: $y = ax + b = -x + 5$

پوښتنه

که چېرې $y = 2x+3$ د y د ریګریشن معادله نظر x ته او د x اوسط مساوي په 2 راکړل شوي وي، د y اوسط به څومره وي؟

(c) ketabton.com: The Digital Library

د بدلون ضریب: د بدلون ضریب د معیاري انحراف له اوسط څخه عبارت دی چې مطلق بې واحده عدد دی لکه:

$$د\ بدلون\ ضریب = \frac{معیاري\ انحراف}{اوسط} \quad یا \quad C\cdot V = \frac{S}{\bar{x}}$$

دغه ضریب ډېر ځلې د فیصدي په ډول ښودل کېږي چې د تحول د ضریب په نامه یادېږي.

$$د\ تحول\ ضریب \quad C\cdot V = 100\cdot\frac{S}{\bar{x}}$$

د بدلون ضریب د مثبتې ډېټا لپاره تعریفېږي، په یاد یې ولرئ که چېرې ډېټا سره مساوي وي، نو د ټیټوالي ټول معیارونه مساوي له صفر سره دي.

په نورماله منحني کې ټیټوالی: نورماله منحني د احصایوي مجموعې یوه داسې توصیفي وسیله ده چې په نورماله منحني کې ډېټا په نورماله توزیع او کثرت منحني کې متناظر پراته دي؛ نو واریانس عمده نقش لري، په حقیقت کې د دوو پارامترو مشخص کېدل او معیاري انحراف په نورماله توزیع کې په عمومي ډول مشخص او د هر ډول شاخص د محاسبې زمینه برابر وي.

د نورمالي توزیع د شکل شاخصونه: د اوسط او معیاري انحراف په مرسته کولای شو د لید څرنګوالی د کږېدو او پرسېدو (اوج) په ډول په ښه توګه څرګند او وړاندې کړو.

د کږېدلو معیار د کږېدو او پیوستون د ضریبونو په مرسته چې د اندازه کولو او اندازو د پرتله کولو لپاره پکارېږي په لاندې ډول لیکل کېږي:

$$\alpha_3 = \frac{\frac{1}{n}\sum(x_i-\bar{x})^3}{S^3} \quad , \quad \alpha_3 = \frac{\frac{1}{n}\sum f_i(x_i-\bar{x})^3}{S^3} \quad , \quad SK_{(p)} = \frac{3(\bar{x}-med)}{S}$$

د پرسېدو (جګېدلو) معیار د پرسېدو د ضریب α_4 په مرسته اندازه او پرتله کېږي.

$$\alpha_4 = \frac{\sum_{i=1}^{n}(x_i-\bar{x})^4}{S^4} \quad , \quad \alpha_4 = \frac{\sum_{i=1}^{n} f_i(x_i-\bar{x})^4}{S^4}$$

څومتحوله ټولنې: په احصایوي څېړنو کې تر ټولو لویه موخه وړاندوینه او د یو متحول ټاکل د بل متحول له مخې دي. کله چې د دوو شیانو ترمنځ اړیکې څېړل زموږ مقصد وي، په حقیقت کې موخه یوه دوه متحوله ټولنه ده لکه: د یو غاز د حجم او فشار ترمنځ اړیکه د صحت او حرکت د میزان ترمنځ اړیکه، د کرنې او د حاصل د مقدار ترمنځ اړیکه او یا هم د یوې دایرې د شعاع او مساحت ترمنځ اړیکه چې دغه راز ټولې اړیکې دوه متحوله ټولنې بیانوي. د آسانتیا لپاره معمولاً د دوه یا څو متحولینو ترمنځ اړیکه د ریاضي معادلو په مرسته وړاندې کوي.

(c) ketabton.com: The Digital Library

د تيتوالي ګراف: د تيتوالي ګراف د رسمولو لپاره ډېټا د مرتبو جوړو په شکل په يوه مستوي کې د قايمو مختصاتو په سېستم کې ښودل کېږي. کيداى شي د ټکو او تيتوالي ګراف په مرسته دري ډوله اطلاعات زموږ په اختيار کې راکړي.

الف: آيا داسې نمونه چې د څېړنو ترمنځ اړيکه ښيي، شته او که نه؟

ب: د يو ډول اړيکې د شتون په صورت کې دغه اړيکه خطي ده او که نه؟

ج: که چېرې اړيکه خطي وي، نو څه ډول اړيکه ده؟

پيوستون او د پيوستون ضريب: پيوستون د متحولينو ترمنځ د اړيکو د مېندلو درجه ده، کله کله دواړه متحولين په يوه لورې بدلون کوي يعنې x او y دواړه په يوه کرښه لوی او ياهم کوچنی شي، چې پيوستون يې مستقيمه کرښه ده. که چېرې د دوو متحولينو اندازه يو د بل پر خلاف بدلون وکړي يعنې که چېرې x لوی شي y کوچنی کېږي. او يا هم برعکس صورت نيسي.

د پېژندنې ډېر ښه معيار د پيوستون شتون او نه شتون دی او حتا د خطي پيوستون ډول، جهت او ميزان د پيوستون ضريب دی، چې د لاندې فورمول په واسطه ښوول کېږي:

$$r = \frac{\frac{1}{n}\sum xy - (\bar{x}\,\bar{y})}{S_x \cdot S_y}$$

په پورتنيو اړيکو کې $\sum xy$ د x ونو او y ګانو د ضرب د حاصل مجموع، $\bar{x}$ د x ونو اوسط او $\bar{y}$ د y ګانو اوسط دی، همداراز S_x د x ونو معياري انحراف او S_y د y ګانو معياري انحراف دی.

د ريګريشن کرښه: ريګريشن(تخميني) د تابع د يوه متحول له قيمت لاسته راوړل او سنجش څخه عبارت دی، چې د يو يا څو مستقلو متحولينو له ارزښت څخه په لاس راځي.

هغه معادله چې د متحولينو ترمنځ اړيکې افاده کوي، د ريګرېشن معادلې په نامه يادېږي.

کولای شو دغه معادله د ډېرو لږو مربعاتو د محاسبې په طريقه حساب او همدارنګه د a او b ضريبونه د دغې طريقې په مرسته په لاندې ډول په لاس راوړو:

$$a = \bar{y} - b\bar{x} \quad , \quad b = r\frac{S_y}{S_x}$$

چې S_y د y معياري انحراف او S_x د x معياري انحراف دی، په داسې حال کې چې r د پيوستون ضريب، $\bar{x}$ د x ونو اوسط او $\bar{y}$ د y ګانو اوسط دی.

(c) ketabton.com: The Digital Library

د خپرکي پوښتنې

1-که چېرې په یوه ټولنه کې چې اوسط یې $\bar{x}=50$ او واریانس یې $S^2=64$ وي، د بدلون ضریب y چې له $y=2x+10$ رابطې سره سم بدلون مومي څو دی؟

2-که چېرې د هر زده کوونکی په نمرو کې 20% نمبرې ورزیاتې شي، نو د نمرو د بدلون په ضریب څه اغیزه کوي؟

3- د هغو ټولنو فیصدي چې په لاندې درکړل شوو منحني ګانو کې پرته ده، ولیکئ؟

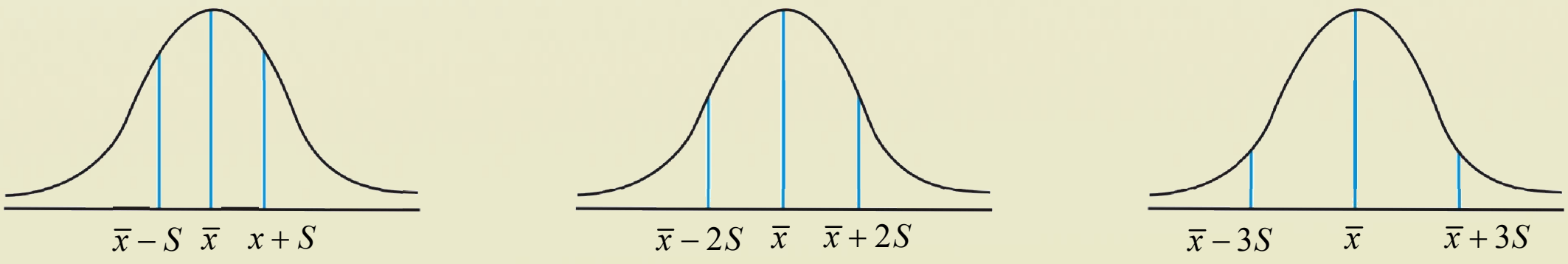

4- لاندې اړیکو ته په پاملرنې سره ووایاست چې کومه یوه له دغو اړیکو څخه یو متحوله، دوه متحوله او درې متحوله اړیکې دي.

الف: ستاسو د ټولګیوالو د ونو اندازه؟

ب: د یو شي د عمومي مصرف او جنس ترمنځ اړیکه؟

ج: د یوې استوانې د حجم، جګوالی او د قاعدې د مساحت تر منځ اړیکې؟

5- د یو ټولګي د مصرف شوو ساعتونو د شمېر او د زدکوونکو د نمبرو تر منځ چې د 20% له مخې اخېستل شوی دی، د مرتبو جوړو په شکل په لاندې ډول دی:

(2,10) , (3,10) , (3,14) , (4,10) , (4,14)
(5,14) , (5,16) , (6,12) , (6,16) , (6,18)
(7,14) , (7,18) , (7,20) , (8,16) , (8,18)

د زده کونکو د مصرف شوو ساعتونو او نمبرو تر منځ د اړیکو له مخې ګراف رسم او خپلې پایلې وڅېړئ؟

6- مخامخ ډېټا په پام کې ونیسئ:

x	1	1	2	3
y	1	5	4	2

په ورکړ شوې ډېټا کې د پیوسټون ضریب حساب کړئ؟

که چېرې د پیوسټون ضریب صفر ته نژدې وي، نو خطا ډېره، که لږه ده؟

که چېرې د پیوسټون ضریب د $+1$ او -1 عدد ته نژدې وي، نو د y د خطا په اړوند څه وایئ؟

د سروې له مخې چې د یوه ښوونځي په دوو A او B ټولګیو کې شوې ده، لاندې عددونه د کیلوګرام په حساب د زده کوونکو د وزن لپاره راټول شوي دي:

A:	65	63	67	64	62	70	66	68	67	78	69	71
B:	68	66	68	65	69	66	68	65	71	67	68	70

(c) ketabton.com: The Digital Library

د پورتنيو اعدادو په پام کې نيولو سره:

الف: د معلومات د تيتوالي ګراف رسم کړئ؟

ب: د اړوندي مستقيمي کرښې معادله په لاس راوړئ a او b وټاکئ؟

ج: اړونده مستقيمه کرښه نظر د ريګرېشن معادلې ته رسم کړئ؟

10- که چېرې x او y سره بشپړ پيوستون او معکوس ولري، يعنې $S_x = S_y$، نو د y نسبت x ته د ريګرېشن خط کوم دی؟

1) $y = -\frac{1}{2}x + b$ 2) $y = \frac{1}{2}x + b$ 3) $y = x + b$ 4) $y = -x + b$

11- د 20 تنو زده کوونکو د رياضي او فزيک د مضمون 20% د آزموينې پايلې چې په لاندې ډول ورکړ شوي، رسم کړئ؟

زده‌کوونکي	1	2	3	4	5	6	7	8	9	10	11
د رياضي نمبرې	18	8	12	18	16	6	10	6	16	10	12
د فزيک نمبرې	16	10	8	18	14	10	10	6	10	14	10

زده‌کوونکي	12	13	14	15	16	17	18	19	20
د رياضي نمبرې	12	10	16	18	12	6	14	14	12
د فزيک نمبرې	6	12	16	12	12	8	12	14	16

ـ د ريګريشن د کرښې معادله په لاس راوړئ؟

ـ آيا د دوو آزموينو د پايلو تر منځ اړيکې شتون لري؟

12- پر چنګښو د خوراک د مالګې د 5 او يو فيصده محلول اغيزې د يون پلازما پر ميزان د هغوی په بدن کې په لاندې جدول کې ثبت شوي دي؟

د مالګې په محلول کې د پاتې کېدو وخت	50	40	30	20	10	5	0
د يون پلازما ميزان(mm)	136	132	126	122	118	110	90

ـ په پورتنی جدول کې متحولين وڅېړئ؟

ـ په پورتنيو متحولينو کې کوم يو خپلواک او کوم يو ناخپلواک متحول دی؟

ـ يو داسې ګراف رسم کړئ چې د دواړو متحولينو ترمنځ اړيکه وښيي؟

ـ د دې ګراف په رسم کې خپلواک متحول په افقي محور وښاياست؟

(c) ketabton.com: The Digital Library

نهم څپرکی

احتمالات

(c) ketabton.com: The Digital Library

(c) ketabton.com: The Digital Library

پرموټېشن يا ترتيب

Permutation

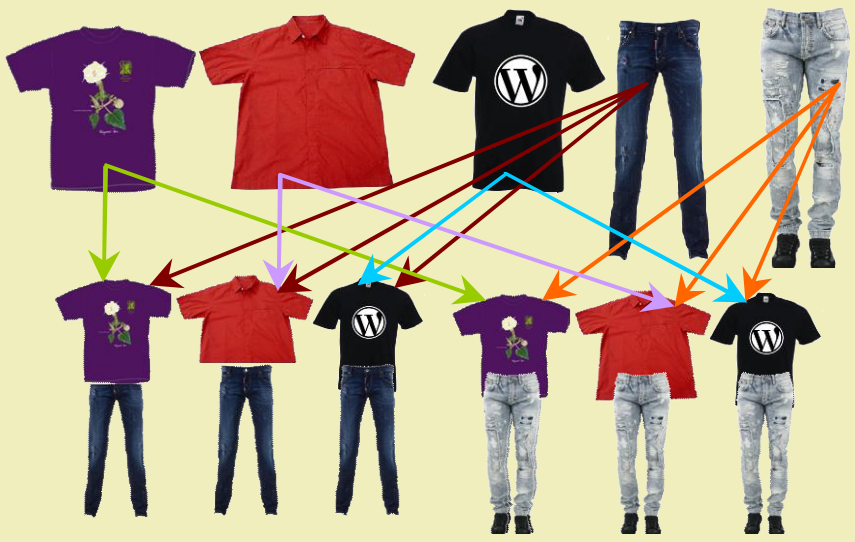

که چېرې درې بېلابېل کميسونه او دوه پطلونونه ولرو، پـه څـو ډولـه کـولای شـو هغـه سـره جـوړه جـوړه واغوندو؟

فعاليت

خپل درې تنه ملګري وآزمويئ چې په څو ډوله کولای شي په يو کتار کې و درېږي؟

- له درې يو رقمي اختياري عددونو څخه څو درې رقمي عددونه کولای شو جوړ کړو.
- له پورتنيو عددونو څخه چې پورته مو د درې رقمي عددونو د جوړولو لپاره ټاکلي دي څـو درې رقمـي عدونه جوړولای شو، په دې شرط چې په عددکې رقم تکرار نه وي.
- د پورتنی فعاليت د اول، دويم او دريم پاراګراف پايلې سره پرتله او ووايې چې څه اړيکې سره لري؟

له پورتني فعاليت څخه لاندې پايله په لاس راځي:

پايله

د n شيانو د ترتيب د شمېر ډولونه چې سره خوا په خوا راشي عبارت دي له:

- که تکرار مجاز نه وي مساوي په $n\cdot(n-1)\ \ldots\ 2\cdot 1$ سره دي.

- که تکرار مجاز وي مساوي په $\underbrace{n\cdot n\cdot\ \ldots\ \cdot n}_{n \text{ ځلې}} = n^n$ سره دي.

تعريف: د يوه طبيعي عـدد لپاره د $(1\cdot 2\cdot 3\cdot\ \ldots\ \cdot n)$ حاصـل ضـرب پـه لنـډ ډول پـه n! (n – فکتوريـل) ښودل کېږي. او د تعريف له مخې $1! = 1, 0! = 1$ سره دي.

2: د n عنصرونو د ترتيب ډولونه چې د n غړو د پرموټېشن(Permutation) په نامـه هـم يـادېږي په P_n سره ښودل کېږي.که چېرې تکرار په ترتيب کې ناشونی او يا مجازنه وي.

نو د پاسني تعريف په پام کې نيولو سره $P_n = n!$ سره کېږي.

(c) ketabton.com: The Digital Library

که چیرې په ترتیب کې تکرار شونی او یا مجاز وي، نو په دې صورت کې د ترتیب ډولونه او یا پرموټېشنونه په مجاز تکرار کې عبارت دي له. $(k \le n)$, $P_n^{(k)} = \frac{n!}{k!}$ او دارنګه معنا ورکوي چې یو عنصر په n ترتیب کې k ځلې تکرار شوي دي.

لومړی مثال: (1) : د لاندې عددونو قیمت پیدا کړئ.

$$3!, 8!, 5!$$

(2) د هر یوه طبیعي عدد لپاره وښیئ چې $n! = n(n-1)!$ سره ده؟

حل (i):د تعریف له مخې لرو چې:

$$3! = 1\cdot 2\cdot 3 = 6$$
$$5! = 1\cdot 2\cdot 3\cdot 4\cdot 5 = 120$$
$$8! = 1\cdot 2\cdot 3\cdot 4\cdot 5\cdot 6\cdot 7\cdot 8 = 40320$$

(ii) پوهېږو چې: $n! = 1\cdot 2\cdot 3\cdot \ \ldots \ \cdot n = (1\cdot 2\cdot 3\cdot \ \ldots \ \cdot n-1)(n) = n(n-1)!$

دویم مثال: د آزموینې لپاره په یوسالون کې 16 زده کوونکي له بېلابېلو ټولګیو د سوېې آزموینې لپاره راغونډ شوي دي.

په څو ډوله کولای شو د 16 مېزونو تر شا په لیکه کښېني چې د هر یو د ځای تغییر د ناستې یو حالت وشمېرل شي.

حل: پوهېږو چې ځواب 16! دی چې تکرار پکې ناشونی دی. که چیرې تکرار مجاز وي، په دې صورت کې مسئله عبارت له ترتیب د n شیانو چې k عدده یې د مثال په ډول په تکراري ډول راښکاربږي، نو په دې صورت کې لرو چې: $P_n^k = \frac{n!}{k!}$, $(k \le n)$

مثلاً په پاسني مثال کې، که چیرې 16 زده کوونکي وغواړي خپل ځایونه په خپلو لاسي بکسونو ونیسي او له دې ځخه 4 تنه یو ډول لاسي بکسونه ولري، نو لرو چې:

$$P_{16}^{(4)} = \frac{16!}{(16-4)!} = \frac{16!}{12!} = 13\cdot 14\cdot 15\cdot 16 = 43680$$

که چیرې د دې مسئلې عمومي حالت په پام کې ونیسو، نو په دې صورت کې د $P_n^{(k_1,k_2,\ \ldots\ ,k_n)}$ n ترتیبه یا پرموټېشنونه چې په هغه کې تکرار مجاز نه او په حقیقت کې، m ګروپه شیان چې هر یو یې په ترتیب سره د $k_1!, k_2!\cdot \ \ldots \ \cdot k_n!$ په اندازه سره یو شان دي، لرو چې:

$$P_n^{(k_1,k_2,\ \ldots\ ,k_n)} = \frac{n!}{k_1!\cdot k_2!\cdot k_3!\cdot \ \ldots \ \cdot k_n!}$$

(c) ketabton.com: The Digital Library

دریم مثال: له پنځه $(5,5,5,4,4)$ عددونو څخه په څو ډوله کولای شو، پنځه رقمي عددونه جوړ کړو.

حل: پوهېږو چې د فورمول له مخې د عددونو شمېر عبارت دی له: $P_3^{(2,3)} = \frac{5!}{2!.3!} = 10$

چې په خپله عددونه په لاندې ډول دي:

55544 , 55454 , 54554 , 45554 , 45545

45455 , 44555 , 54545 , 55445 , 54455

څلورم مثال: د سبا کاروان ټرانسپورټي شرکت د کابل جلال آباد په لین کې 5 لوی سروېسونه او د جلال آباد- کنړ په لاره 3 میني بسه لري. په څو ډوله کولای شو، د نوموړي ټرانسپورټ په سروېسونو او میني بسونو کې له کابله- کنړ ته سفر وکړو؟

حل:پوهېږو له کابله تر جلال آباد پورې د نوموړي شرکت له سروېسونو څخه یوازې 5 امکانه وجود لري، چې د هر یوه امکان په وړاندې 3 امکانه د میني بس د انتخاب چانس له جلال آباد څخه تر کنړه، د نوموړي شرکت وجود لري.

په دې ډول ټول امکانات مساي دي په: $5 \times 3 = 15$

پنځم مثال: د $8,7,2$ او 5 عددونو په مرسته څو درې رقمي عددونه پرته له تکراره جوړولای شو.

حل: دې خبرې ته په پاملرنې سره چې عددونه درې رقمي دي، نو درې خالي ځایونه لرو، چې په لاندې ډول د هغو ډکول په عددونو امکان لري:

د دریم رقم ځای	د دویم رقم ځای	د لومړي رقم ځای	
2	3	4	دامکاناتو ډولونه

پوهېږو چې د لومړي رقم د ځای د ډکولو لپاره 4 امکانه شتون لري، په دې ډول د دویم رقم د ځای د ډکولو لپاره 3 امکانه پاتې کېږي، ځکه چې له څلور عددونو څخه یو د لومړي رقم لپاره نیول شوی دی، او بلې خواته څرنګه چې تکرار مجاز نه دی، نو یوازې 3 امکانه د دویم رقم د ځای د ډکولو لپاره شته او د دریم رقم د ځای د ډکولو لپاره دوه امکانه شته چې ټول حالتونه عبارت دي له: $4\cdot3\cdot2 = 24$ او د فورمول له مخې لروچې:

$$P_4^{(3)} = \frac{4!}{(4-3)!} = \frac{4\cdot3\cdot2\cdot1!}{1!} = 24$$

(c) ketabton.com: The Digital Library

پوښتنې

1. څو پنځه رقمي عددونه وجود لري چې لومړی رقم یې 2 او وروستی رقم یې مساوي په 4 وي، په عدد کې هیڅ رقم تکراري نه وي؟
2. په څو ډوله 10 نفره کولای شي، د یوه ګردي میز په شاوخوا کې کښېني چې له دې جملې څخه 2 تنه غواړي په هر حالت کې سره خوا په خوا کښېني.
3. په څو ډول کولای شئ 3 سره توپونه، 2 آسماني او څلور زیړ توپونه سره خوا په خوا په یو کتار کې کېږدو. د هم رنګه تو پونو په کتار کې د هم رنګه توپونو ځای بدلول بل حالت نه شمېرل کېږي.

(c) ketabton.com: The Digital Library

ترکیب یا کمبینیشن

Combination

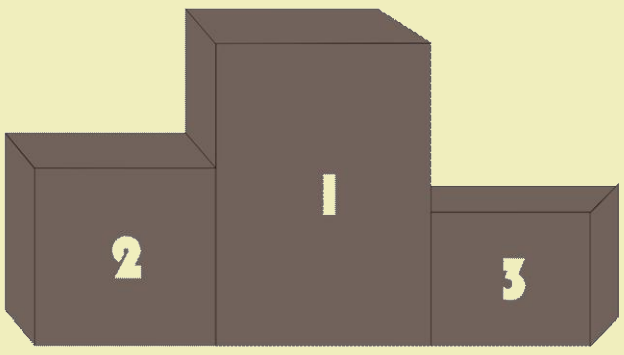

د 1 او 2 عددونو ترکیب څه دی؟

د 1 او 2 عددونو ترتیب کوم دی؟

ستا سو له نظره ترکیبونه او ترتیبونه څه توپیر سره لري؟

مخکې له دې چې لاندې فعالیت سرته ورسوو، لاندې تعریف چې په فعالیت کې به له هغه څخه کار واخلو په پام کې نیسو.

تعریف

د $\binom{n}{k}$ لیکدود چې n د k له پاسه ویل کیږي او په حقیقت کې د بینوم د ضریبونو په نامه یادیږي چې k د بینوم توان ښیي او په لاندې ډول دی:

$$\binom{n}{k} = \frac{n!}{k!(n-k)!} \quad , \quad 0 \le k \le n \quad , \quad k, n \in IN$$

فعالیت

- د پورتني تعریف په پام کې نیولو سره، د بینوم د $(a+b)^2$ د دوه حدي په انکشاف کې د بینوم ضرایب چې مساوي په $\binom{2}{k}$, $k = 0,1,2,$ سره دی، پرتله کړئ:

$$(a+b)^2 = \square a^2 + \square ab + \square b^2$$

- د بینوم ضریبونه چې په پاسني انکشاف کې، په چوکاټونو کې نیول شوي، د $\binom{2}{k}$ $k = 0,1,2$ له قیمتونو سره پرتله کړئ؟
- څرنګه چې $1 = \binom{2}{0} = \binom{2}{2}$ سره دي، ویلای شئ چې د هر $n \in IN$ لپاره $\binom{n}{n}$ او د $\binom{n}{0}$ قیمتونه هم سره برابر او مساوي په 1 دي؟
- د $(a+b)^n$ په انکشاف کې د بینوم د ضریب د دویم حد قیمت د $\binom{n}{k}$ له مخې حساب کړئ.
- د $\binom{4}{k}$ $k = 0,1,2,3,4,$ قیمتونه د بینوم د انکشاف له کومو ضریبونو سره مساوي دی، ویې لیکئ؟

له پاسني فعالیت څخه لاندې پایله په لاس راځي:

پایله: د هر n او k طبیعي عددونو لپاره، په داسې حال کې چې $0 \le k \le n$ سره دی لرو:

(c) ketabton.com: The Digital Library

(i) $\binom{n}{n}=1 \quad , \quad \binom{n}{0}=1$

(ii) $\binom{n+1}{r} = \binom{n}{r-1} + \binom{n}{r}$

(iii) له n څخه د r شیانو ترکیبونه عبارت د یو n عنصره سټ د غړو د ترکیب یا کمبینیشن د r لـه n شیانو څخه ده چې په C_r^n سره ښودل کېږي او قیمت یې عبارت دی له: $C_r^n = \binom{n}{r} = \dfrac{n!}{r!(n-r)!}$

لومړی مثال: په یوه ښوونځي کې د لسم 7 ټولګي شتون لري. د ښوونځي اداره غواړي چې لسم ټولګي له 7 تنو اول نمره ګانو، 4 تنه و ټاکي. په څو ډوله دغه انتخاب کېدلای شي؟

حل: لیدل کېږي چې له 7 تنو څخه د 4 تنو په ټاکنه کې هیڅ ډول برلاسي او ترتیب په پام کې نـشته؛ یعنـي دا چې، مهمه نه ده زده کوونکي د کوم ټولګي دي، نو دا ډول مسئله عبارت له ترکیـب څخه ده چې لـه 7 تنو څخه 4 تنه و ټاکو، نو لرو چې: $C_4^7 = \binom{7}{4} = \dfrac{7!}{4!(7-4)!} = \dfrac{7\cdot6\cdot5\cdot4!}{3!\cdot4!} = \dfrac{5\cdot6\cdot7}{6} = 35$

دویم مثال: که له 7 تنو زده کوونکو 4 تنه د لسم ټولګي د زده کوونکو د اتحـادیې د مـشرتابه لپـاره، داسـې چې لومړی تن رئیس، دویم معاون، دریم منشي او څلورم تن د مالي مسؤول پـه توګـه و ټاکـل شـي، پـه دې صورت کې لرو چې:

څرنګه چې لیدل کېږي په دې ټاکنه کې ترتیب مهم دی، ځکه چې د ABCD د انتخاب ترتیب پـه داسـې حال کې چې A رئیس، B معاون، C منشي او D مالي مسؤول دی، په داسې حال کـې چـې د CABD پـه ترکیب کې C رئیس، A معاون، B منشي او D مالي مسؤول ګڼل کېږي.

دا ډول مسئله عبارت له ترتیب یا پرموټېشن څخه ده چې له 7تنو څخه د 4 تنو په ترتیب انتخاب دی؛ یعني لرو چې: $P(7,4) = \dfrac{7!}{(7-4)!} = \dfrac{7!}{3!} = \dfrac{7\cdot6\cdot5\cdot4\cdot3!}{3!} = 120\cdot7 = 840$

پوښتنې

1- له اوو حرفونو څخه لکه: A, B, C, D, E, F او G څو 4 حرفي کلمې، پرته له تکراري حرفه جوړولای شو؟

2- د والیبال په یوه لیګ کې، 7 ټیمونه ګډون لري. څو ډوله ټیمونه کولای شي لومړی، دویم او دریـم مقـام لاس تـه راوړي؟

3- له 4 نارینه‌وو او 6 مېرمنو څخه 2 نارینه او 3 ښځې داسې وټاکو چې نارینـه پـه کـې یـو رئـیس او دویـم یـې مـالي مسؤول وي.

(c) ketabton.com: The Digital Library

ترکیب

Combination



آیا پوهېږئ چې اصلي رنګونه کوم دي؟

د نارنجي او بنفش رنګ ترکیب کوم رنګ دی؟

ستاسو په نظر ژېړ رنګ د کومو رنګونو له ترکیبه جوړېږي؟

آسماني رنګ، بنفش رنګ، نارنجي رنګ.

فعالیت

د خپلو 5 تنو ټولګیوالو څخه 3 تنه په څو ډوله ټاکلی شئ؟

- موضوع په عملي توګه په ټولګي کې تجربه او حالتونه یې و شمېرئ؟
- که چېرې له 5 تنو زده‌کوونکو څخه 3 تنه داسې و ټاکل شي چې، لومړی کس سر ګروپ، دویم د سرګروپ مرستیال او دریم تن منشي وي، د دري تنو ګروپ، د ټاکلو ټول ډولونه څو دي؟
- د پورتني فعالیت لومړی او وروستی جزء یو تر بله څه توپیر لري؟
- آیا فکر کولای شئ د پاسنیو ګروپونو د ټاکلو شمېر مساوي له کوم عدد سره دی؟

له پاسني فعالیت څخه لاندې پایله په لاس راځي:

پایله: دلته د k په شمېر غړو یو ګروپ له یو سټ څخه چې n غړي لري، په عمومي ډول په دوه ډوله صورت نیسي چې په یوه کې ترتیب په پام کې دی، خو په بل کې ترتیب مهم نه شمېرل کېږي، یوازې د هغوي ترکیب د پام وړ دی.

په دې ترتیب د یو ترکیب یا کمبینیشن چې k شیان له n بېلابېلو شیانو څخه مطلب دی، چې په لاندې تعریف کې بیانېږي.

تعریف: د k شیانو ترکیب له یوه n عنصره سټ څخه چې په C_k^n ښودل کېږي او عبارت له $\binom{n}{k}$ ترکیبي امکاناتو څخه دی چې د k په شمېر غړي یې پرته له ترتیب څخه ټاکل کېږي، عبارت دي له:

$$C_k^n = \binom{n}{k} = \frac{n!}{k!(n-k)!} \quad , \quad 0 \le k \le n$$

(c) ketabton.com: The Digital Library

لومړی‌مثال: له 30 تنو څخه د 4 تنو ټاکل چې ترتیب په کې مهم نه دی، حساب کړئ؟

حل: پوهیږو چې مسئله عبارت له 30 تنو څخه د 4 تنو دی چې د فورمول له مخې په لاندې ډول په لاس راځي:

$$C_4^{30} = \binom{30}{4} = \frac{30!}{4!(30-4)!} = \frac{30\cdot 29\cdot 28\cdot 27\cdot 26!}{26!\cdot 4!} = 27405$$

دویم مثال: له $A = \{1,2,3,4,5\}$ سټ څخه څو 3 عنصره فرعي سټونه په لاس راځي؟

حل: پوهیږو چې مسئله په حقیقت کې له 5 غړو څخه د 3 غړو ټاکل دي چې شمېر یې په لاندې ډول په لاس راځي:

$$C_3^5 = \binom{5}{3} = \frac{5!}{3!(5-3)!} = \frac{1\cdot 2\cdot 3\cdot 4\cdot 5}{1\cdot 2\cdot 1\cdot 2\cdot 3} = 10$$

پوښتنې

1- که چیرې په یوه آزموینه کې له 10 پوښتنو څخه 7 پوښتنو ته ځواب مطلوب وي، په څو ډوله کولای شو چې له 10 پوښتنو څخه 7 پوښتنې د حل لپاره وټاکو؟

2- په یوه مستوي کې پنځه ټکي چې په یوه کرښه پراته نه دي، په پام کې ونیسئ د دې ټکو په نښلولو سره په څو ډوله مثلث جوړولای شو.

3- که چیرې $P(n,2) - C_2^n = 36$ سره وي، د n قیمت پیدا کړئ؟

(c) ketabton.com: The Digital Library

تبـديـل

Variation



په یوه المپیاکې له 10 ورزشي ټیمونو څخه په څو ډولونو د سرو زرو، سپینو زرو او برونزو مډالونه شتون لري؟

فعالیت

- د n بیلابیلو شیانو په پام کې نیولو سره د k په شمېر شیان ټاکو، د هغوی مجموعي شمېر څو دی؟
- که چېرې د k شیانو په ټاکلو کې ترتیب داسې وي، چې په هغوی کې لومړی، دویم، دریم او ... شتون ولري، ټول مجموعي حالات به څو وي؟
- د پاسنیو دوارو ډولونو ترمنځ توپیر په کومه اندازه ده؟

پایله: د هغو ترکیبونو شمېر چې د k غړو د پرله پسې ترتیب په انتخاب کې له n غړو څخه په پام کې وي، نو په دې صورت کې یې شمېر مساوي په $k!\cdot C_k^n$ سره کېږي.

دغه ترکیب د وریشن Variation یا تبدیل په نامه یاد او په V_k^n سره ښودل کېږي چې عبارت دی له:

$$V_k^n = k!\cdot C_k^n = k!\cdot\frac{n!}{k!\cdot(n-k)!} = \frac{n!}{(n-k)!} \Rightarrow V_k^n = \frac{n!}{(n-k)!}$$

مثال: څو امکانه وجود لري چې په یوه انتخاباتي غونډه کې له 30 تنو ګډون کوونکو څخه 4 تنه د مشرتابه لپاره په داسې حال کې چې یو تن رئیس، یو لومړی مرستیال، یو دویم مرستیال او څلورم تن د منشي په توګه دنده ترسره کړي؟

حل: مسئله په حقیقت کې د 4 تنو تبدیل له 30 تنو څخه ده، چې د تعریف له مخې له لاندې فورمول څخه په لاس راځي:

$$V_4^{30} = \frac{30!}{(30-4)!} = \frac{30\cdot 27\cdot 29\cdot 28\cdot 26!}{26!} = 657520$$

پورتنی حالات چې تر اوسه مو د ترتیبونو، ترکیبونو او تبدیلونو لپاره تر بحث لاندې و نیول په لاندې جدول کې را ټول شوي دي.

(c) ketabton.com: The Digital Library

د ټاکنو ډول k غړي له n غړو څخه	د امکاناتو شمېر	
	له تکرار سره $k \le n$	پرته له تکراره $k \le n$
ترتیب یا پرموټېشن	$P(n,k) = \frac{n!}{k!}$	$P(n,k) = n! \quad , \quad n = k$
ترکیب یا کمبینیشن	$C_k^n = \binom{n+k-1}{k}$	$C_k^n = \binom{n}{k} = \frac{n!}{k!(n-k)!}$
تبدیل یا وریشن	$V_k^n = n^k$	$V_k^n = k!\binom{n}{k} = \frac{n!}{(n-k)!}$

مثال: د یوې سکې په اچولو سره چې د راتګ امکان یې، شیر یا خط ممکن دی او د هرې خوا د راتګ احتمال یې مساوي په $\frac{1}{2}$ دی، په پام کې ونیسئ، که چیرې سکه 2 ځلې، درې ځلې، شپږ ځلې، اته ځلې او یا 16 ځلې وغور ځوو، پوهېږو چې د هم چانسو لومړنیو پېښو په نمونه‌یي فضا کې په یوه ونه‌ییز ګراف کې لاندې حالت لرو: (شیر $= S$ او خط $= T$) دی.

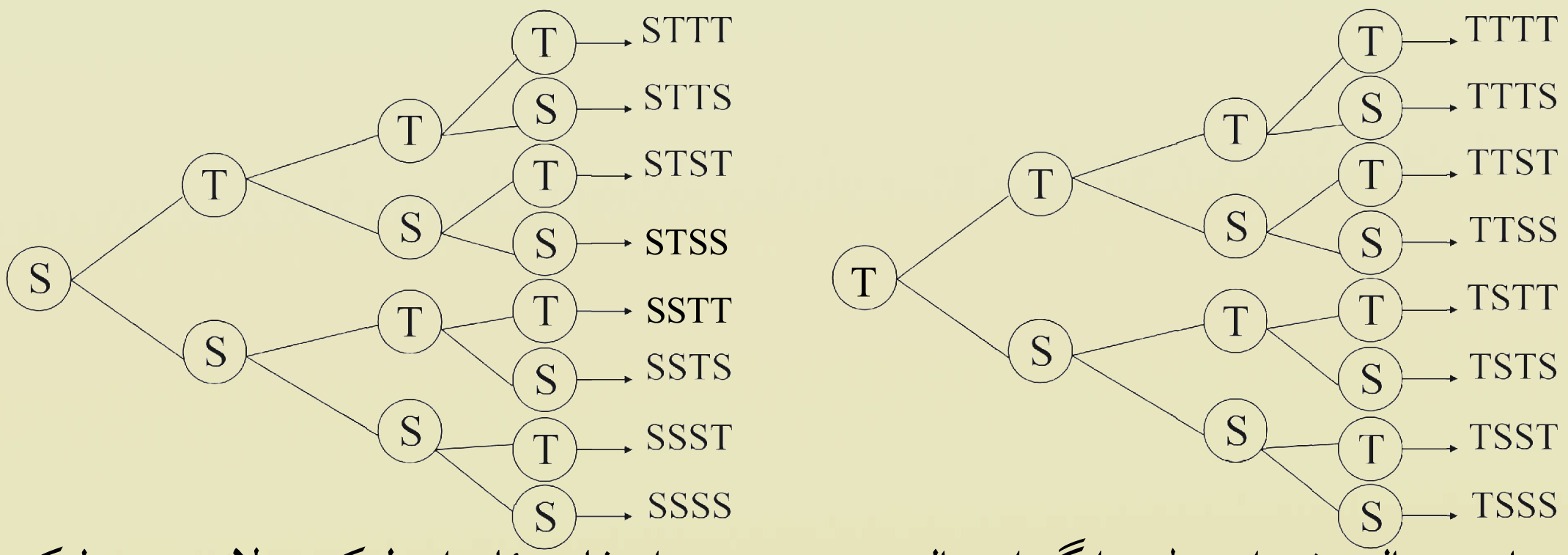

د پاسني مثال د شیر او خط د راتګ احتمال په یو، دوه، درې او څلور ځلې اچولو کې په لاندې جدول کې راټول شوي دي.

(c) ketabton.com: The Digital Library

خلورځله احتمال	خلورځله خط	درې ځله احتمال	درې ځله خط	دوه ځله احتمال	دوه ځله خط	یوځل احتمال	یوځل خط	هیڅ ځل احتمال	هیڅ ځل خط	د سکې غورځول
1/16	0	1/8	0	1/4	0	1/2	0	1	0	د خط د راتګ شمېر
4/16	1	3/8	1	2/4	1	1/2	1			
6/16	2	3/8	2	1/4	2					
4/16	3	1/8	3							
1/16	4									

که چېرې جدول ته په ځیر سره پاملرنه وکړئ، د هر وار د احتمال د کسرونو په صورت کې یو نظم وینو چې د بنیوم په انکشاف کې په ترتیب سره د حدونو ثابت غړي دي چې د لومړي ځل لپاره د پاسکال له خوا راوپېژندل شول او تر اوسه د هغه په نامه یادیږي.

دغه نظم مثلاً په مخامخ مثلث کې په یوه لیکه کې اعداد د کیڼې او ښي خوا د عددونو سره په پورته لیکه کې له جمعې لاس ته راغلي دي.

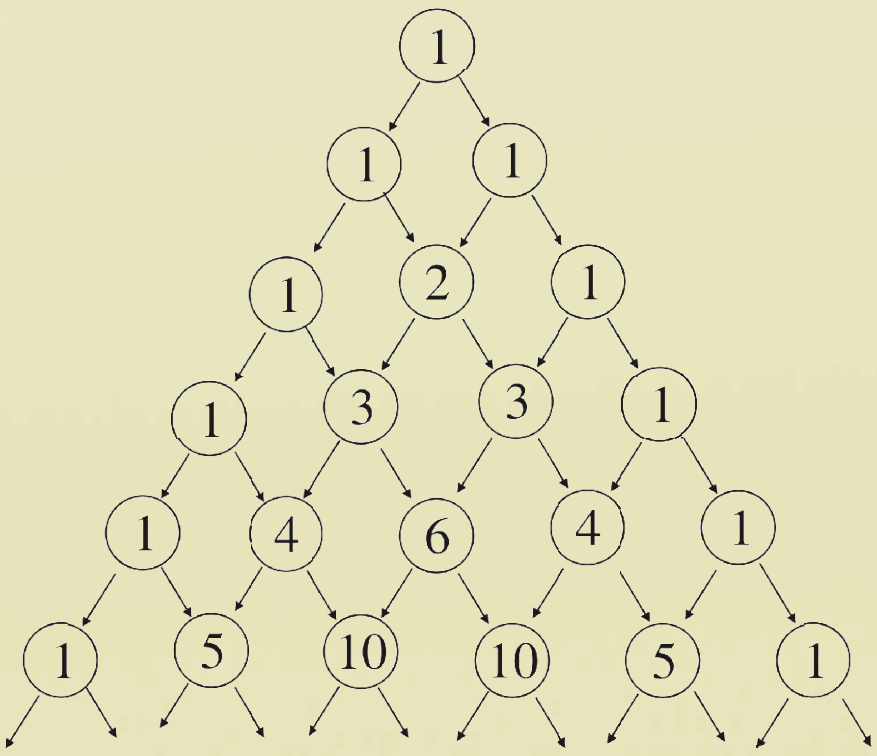

په دې ډول کولای شو چې مثلث ته تر بېنهایت پورې دوام ورکړو، چې که چېرې هغوی د یو دوه جملهیي له انکشاف سره پرتله کړو، لکه: د راکړل شوي پاسکال مثلث عددونه دي، مثلاً پاملرنه وکړئ چې د دوه

(c) ketabton.com: The Digital Library

جملهيي په انکشاف کې له هغو عددونو څخه مو حلقه تاو کړي ده د مثلث له اعدادو سره چې حلقه ترې تاوشوي ده يو شان ده:

$$(a+b)^0 = \textcircled{1}$$
$$(a+b)^1 = \textcircled{1}a + \textcircled{1}b$$
$$(a+b)^2 = \textcircled{1}a^2 + \textcircled{2}ab + \textcircled{1}b^2$$
$$(a+b)^3 = \textcircled{1}a^3 + \textcircled{3}a^2b + \textcircled{3}ab^2 + \textcircled{1}b^3$$
$$(a+b)^4 = \textcircled{1}a^4 + \textcircled{4}a^3b + \textcircled{6}a^2b^2 + \textcircled{4}ab^3 + \textcircled{1}b^3$$

$$\begin{array}{c} \textcircled{1} \\ \textcircled{1}\ \textcircled{2}\ \textcircled{1} \\ \textcircled{1}\ \textcircled{3}\ \textcircled{3}\ \textcircled{1} \\ \textcircled{1}\ \textcircled{4}\ \textcircled{6}\ \textcircled{4}\ \textcircled{1} \end{array}$$

چې دغه ضريبونه د $(a+b)^n$ په انکشاف کې n د k له پاسه د ضريبونو استعمال په لاندې ډول ليکلی‌شو:

$$(a+b)^n = \binom{n}{0}a^n + \binom{n}{1}a^{n-1}b + \cdots + \binom{n}{n-1}ab^{n-1} + \binom{n}{n}b^n = \sum_{k=0}^{n}\binom{n}{k}a^{n-k}b^k$$

د " $\sum$ " علامه د پاسنی مجموع لپاره استعمال شوې ده.

په دې ډول د خط راتللو احتمال په $k-$ امه مرتبه کې عبارت دي له: $P(\text{خط راتگ}) = \dfrac{\binom{n}{k}}{2^n}$

پوښتنې

1. د فوټبال په يوه سيالۍ کې 12 ټيمونه ګډون لري، په څو ډوله کولای شو ګټونکي لومړی، دويم او دريم مقام ته وټاکو.
2. د يوولسم ټولګي له 20 تنو زده‌کوونکو څخه په څو ډوله دوه تنه، د ټولګي د استازي او د استازي د مرستيال په توګه وټاکو.

(c) ketabton.com: The Digital Library

د بینوم قضیه

د پاسکال د مثلث له مخې د بینوم د انکشاف ضریبونه وټاکئ.

```
          1
        1   1
      1   2   1
    1   3   3   1
  1   4   6   4   1
1   5  10  10   5   1
```

$(a+b)^2 = \bigcirc a^2 + \bigcirc ab + \bigcirc b^2$

$(a+b)^3 = \bigcirc a^3 + \bigcirc a^2b + \bigcirc ab^2 + \bigcirc b^3$

$(a+b)^4 = \bigcirc a^4 + \bigcirc a^3b + \bigcirc a^2b^2 + \bigcirc ab^3 + \bigcirc b^4$

فعالیت

- په یوه ناڅاپي تجربه کې چې یوازې دوه ناڅاپي پېښې د A او $\overline{A}$ پېښېږي، یعنې د $\{A, \overline{A}\}$ نمونوي فضا لري. د A د پېښې احتمال عبارت دی له:
- که چېرې $P(A) = P$ د A د پېښې احتمال وي، د هغې د مکملې پېښې احتمال یعنې $\overline{A}$ څو دی
$P(\overline{A}) = ?$
- د پورتنۍ تجربې له بیا بیا تکرار څخه که چېرې د A حادثې پېښېدو ته 1 او د نه پېښېدو حالت ته یې 0 ووایو لاندې جدول د تجربې د بیا بیا تکرار یعنې $n = 2$ لپاره بشپړ کړئ.

k	ممکنې پایلې	احتمال	د بینوم د ضریبونو ارایه
0		$(1-p)^2$	$\binom{2}{0}.p^0.(1-p)^2$
1	10	$2p(1-p)$	
2	11		$\binom{2}{2}p^2(1-p)^2$
		$(p+(1-p))^2$	$\sum\binom{n}{k}p^k(1-p)^{n-k} = ?$

د $B(n,p,k)$ لیکنه د برنولي د مسالې د احتمال په نامه یادېږي.

$$B(n,p,k) = \binom{n}{k}p^k(1-p)^{n-k}$$

د بینوم د حدونو د انکشاف مجموع یعنې $\sum_{k=0}^{n}\binom{n}{k}p^k(1-p)^{n-k}$ پیداکړئ؟

(c) ketabton.com: The Digital Library

له پورتني فعاليت څخه لاندې پايله په لاس راځي:

پايله: په يوه ناڅاپي تجربه کې چې د نمونې فضا غړي يې په مساوي احتمال په تجربه کې بيابيا د تکرار وړ وي، نو د تجربې په n ځله تکرارکې د بينوم د انکشاف k – ام حدکې لاندې احتمال لري:

$$\binom{n}{k}.p^k(1-p)^{n-k}$$

پورتنی بينوم په $B(n,p,k)$ ښودل کېږي، د برنولي د پرابلم د احتمال په نامه يادېږي او ليکو:

$B(n,p,k)=\binom{n}{k}p^k(1-p)^{n-k}$ سره کېږي.

مثال: له n تنو څخه د 10 تنو په شمېر په ناڅاپي ډول ټاکو، د k تنو انتخاب شوو خلکو له جملې څخه 2 تنه ټاکو، پيداکړئ د دې احتمال چې دواړه تنه په يوه ورځ زېږېدلي وي. $P(k\le n)=?$

حل: په دې ډول د Ω په نمونهيي فضاکې داسې فرضوو چې د کال د هرې ورځې احتمال $\frac{1}{365}$ او د زوکړې ورځ د سوال وړ ده نه د زږکړې کال.

په دې ډول Ω په نمونهيي فضاکې ټول امکانات له 365 ورځو څخه د k شمېر لپاره عبارت دی له:

د A حارثه $\qquad |\Omega|=(365)^k$

په دې ډول اوس که چېرې د A ناڅاپي پېښه چې لږترلږه دوه تنه په يوه ورځ زېږېدلي وي، په ساده ډول داسې د محاسبې وړ ده، چې د A د حادثې مکمله په پام کې نيسو، په دې ډول $\overline{A}$ عبارت له هغې نا څاپي پېښې څخه ده چې k تنه په بېلابېلو ورځو کې زېږېدلي دي. په دې ډول $\overline{A}$ عبارت د k پرموټېشن له 365 څخه ده چې لرو:

$$P(\overline{A})=\binom{365}{k}=\frac{365!}{(365-k)!}$$

په دې ډول:

$$P(A)=1-P(\overline{A})=1-\frac{|\overline{A}|}{|\Omega|}=1-\binom{365}{k}=1-\frac{365!}{(365-k)!}\cdot\frac{1}{(365)^k}$$

پوښتنې

وښيئ چې:

$$\binom{n}{0}-\binom{n}{1}+\cdots+(-1)^n\binom{n}{n}=0 \qquad (I)$$

$$\binom{n}{0}+\binom{n}{1}+\cdots+\binom{n}{n}=2^n \qquad (II)$$

(c) ketabton.com: The Digital Library

دوه جمله يي احتمال

آيا کولای شو چې د هرې نمونه‌يي فضا پايلې په دوه ناخاپي پيښو چې له يو بل سره هيڅ ګډ عنصر ونه‌لري، ترتيب کړو. موضوع د سټ د تيوري له مخې په يوه اختياري نمونه‌يي فضا Ω کې، دوه ناخاپي پېښو ته چې اتحاد يې نمونه‌يي فضاوي په مثال کې يې تشريح کړي.

فعاليت

- د هغو تجربو څخه چې تر اوسه يې پېژنئ يا دونه وکړئ او يوه نمونه‌يي فضا د دوه اتفاقي يا ناخاپي پېښو په ارايه چې ټوله نمونه‌يي فضا يې يوازې دوه غړي ولري.
- آيا هغه ناخاپي تجربې چې نمونه‌يي فضاګانې يې له 2 څخه زيات غړي لري. کولای شو په داسې نمونه‌يي فضاګانو واړوو چې يوازې 2 غړي ولري؟ مثال راوړئ.
- په عمومي ډول څنګه کولای شو چې يوه نمونه‌يي فضا چې ډېر غړي لري، په يوه داسې نمونه‌يي فضا چې 2 غړي لري، واړوو؟
- که چېرې د دا ډول فضاګانو د يو غړي د پېښې احتمال p وي، د بلې پېښې د احتمال قيمت به څو وي؟
- که چېرې تجربه n ځلې سرته ورسوو، او د k په شمېر له n ځلې($0 \le k \le n$) وړل او نور يې بايلل دي و، د k ځلې برياليتوب (P) په n ځلې تکرار کې پيدا کړئ؟

له پورتني فعاليت څخه لاندې پايله په لاس راځي:

پايله: د هرې ناخاپي تجربې نمونه‌يي فضا کولای شو چې په داسې يوې نمونه‌وي فضا واړوو چې دوه غړي ولري.

- که چېرې د دا ډول نمونه‌وي فضا د يو غړي احتمال (P) وي، نو هرو مرو د بل حالت احتمال $1-p$ او بايلل دي.
- که چېرې دا ډول تجربې n ځلې تکرار شي، نو د k – ام ځلې وړل په n ځلې تکرار کې او د بايللو احتمال به $q=1-p$ سره دي، يعنې لرو چې:

$$0 \le k \le n \quad , \quad \binom{n}{k} p^k (1-p)^{n-k} = $$ k، – ام ځلې وړل په n ځلې تکرار کې

(c) ketabton.com: The Digital Library

لومړی مثال: پاملرنه وکړئ چې که چېرې په یوه تجربه کې د ورلو احتمال $\frac{1}{2}$ ، د بایللو احتمال هم مساوي په $\frac{1}{2}$ سره وي، په دې ډول ناخاپي پېښو کې پورتنی اړیکه په لاندې ډول حسابیږي:

$$\binom{n}{k}p^k(1-p)^{n-k}$$

$$\binom{n}{k}.(\frac{1}{2})^k.(1-\frac{1}{2})^{n-k}=\binom{n}{k}.\left(\frac{1}{2}\right)^k.\left(\frac{1}{2}\right)^{n-k}=\frac{\binom{n}{k}}{2^n}$$

پورتنی پایله د یوې تجربې په n ځله تکرار کې چې لـه هغې جملې څخه k ځلې یې ورل وي، یـوې دوه عنصره نمونه‌یي فضا ته وخیږئ؟

دویم مثال: په یوه کورنی کې چې 5 ماشومان لري، د دې احتمال چې لـه اولادونـو څخه 2 تنـه هلکـان او پاتې نجونې وي، څو دی؟

حل: که چېرې د اولادونو د هلك او نجلی زوکړې چانس برابر په پام کې ونیسو لرو چې:

څرنګه چې په دې مثال کې $p=\frac{1}{2}$ او $q=1-\frac{1}{2}=\frac{1}{2}$ سره دی، نو لیکلای شو:

$$=\frac{\binom{5}{2}}{2^5}=\frac{10}{2^5}=\frac{5}{16}=0.3125=31.25\%$$ د دې احتمال چې دوه هلکان او درې نجونې وي.

دریم مثال: د رمل یوه دانه 6 ځلې غورځوو، د دې احتمال پیداکړئ چې په 4 ځلې غورځیدوکې راغلي خالونه له دریو څخه لږ وي؟

حل: که چېرې له 3 څخه لږ راتلل حالت ورل په پام کې ونیسو نو:

$$p=\frac{2}{6}=\frac{1}{3}=0.3333=33.33\%$$

$$q=1-\frac{1}{3}=\frac{2}{3}=0.6666=66.66\%$$

$$\binom{6}{4}.\left(\frac{1}{3}\right)^4.\left(\frac{2}{3}\right)^2=\frac{20}{243}=0.0823=8.23\%$$ (د دې احتمال چې په 4 ځله غورځېدو کې له 6 ځلې څخه، خالونه له 3 څخه لږ وي)

څلورم مثال: یوه فلزي سکه داسې جوړه شوې ده چې د خط راتلـو احتمـال یـې مـساوي پـه $\frac{1}{3}$ وي، کـه چېرې دغه سکه 4 ځلې وغورځول شي، د دې احتمال چې لږ تر لږه 3 ځلې شېر راشي، مطلوب دی.

حل: که چېرې د سکې د خط راتللو حالت ته ورل او احتمـال یـې p پـه پـام کې ونیسـو، نـو د خـط د نـه راتللو یا شېر راتګ مساوي په $1-p$ سره دی یعنې: $1-p=\frac{1}{3}p$

(c) ketabton.com: The Digital Library

له دې ځخه $p=\frac{3}{4}$ او $q=\frac{1}{4}$ په لاس راځي:

$$\left\langle \text{د دې احتمال چې په 4 ځله غورځېدوکې لږ تر لږه 3 ځله شېر راشي.} \right\rangle = \binom{4}{3}\cdot\underbrace{\left(\frac{1}{4}\right)^{3}}_{\text{3خلې شېر}}\cdot\left(\frac{3}{4}\right)+\underbrace{\binom{4}{4}}_{\text{1 ځل خط}}\cdot\underbrace{\left(\frac{1}{4}\right)^{4}}_{\text{4 ځلې شېر}}=\frac{3}{64}+\frac{1}{256}=\frac{13}{256}$$

پنځم مثال: یوه نورماله سکه څو ځلې وغورځوو چې لږ تر لږه د خط راتلو احتمال یې له 0.99 ځخه ډېر وي؟

حل: داسې فرضوو چې سکه n ځلې غورځوو د دې احتمال چې لږتر لږه یو ځل سکه خط راشي مساوي ده په:

د هر n ځلې شیر راتګ احتمال $-1=$ دی لږ تر لږه یو ځل خط راتلو احتمال

$$=1-\binom{n}{n}\cdot\frac{1}{2^{n}}=1-\frac{1}{2^{n}}$$

په دې ډول ددې شرط $1-\frac{1}{2^{n}}>0.99$ یا $\frac{1}{2^{n}}<0.01$ سره دی چې $2^{n}>100$ یا $n\geq 7$ سره کېږي.

په دې ډول باید سکه 7 ځلې وغورځوو چې لږتر لږه یو ځل خط راشي، احتمال به یې له 0.99 ځخه لوی وي.

پوښتني

یوه سکه څو ځله غورځوو، د دې احتمال پیداکړی چې:

(i): په 4 ځله غورځیدوکې، 2 ځلې خط راشي.

(ii): په 6 ځله غورځیدوکې، 3 ځلې خط راشي

(iii): په 8 ځله غور ځیدوکې، 4 ځلې خط راشي.

(iv): فکر وکړئ چې که سکه 2n ځلې وغورځول شي او n ځلې خط راشي، د n په ډېریدو، د p بدلون په څه ډول دی؟

(c) ketabton.com: The Digital Library

د څېرکي مهم ټکي

فکتوریـــل: د هـــر n طبیعـــي عـــدد لـپاره د n، ... $1\cdot2\cdot3\cdot$ د ضـــرب حاصـــل پـــه لنـــډ ډول پـــه $n!$ (n فکتوریل) ښودل کېږي، د تعریف له مخې $0!=1$ سره دی.

پرموټېشن یا ترتیب: د n غړو ترتیب په p_n ښودل کېږي که چېرې:

- په ترتیب کې تکرار غیر مجاز او ممکن نه وي: $P_n = n!$

خو که چېرې تکرار مجاز وي، د ترتیبونو شمېر مساوي په P_k^n سره ده او داسې معنا ورکوي چې k ځلې په n ځلې ترتیبونو کې تکرار وجود لري. چې د پورتني حالت په پام کې نیولو سره ټول حالتونه مساوي دي په:

$$P_k^n = \frac{n!}{k!} \quad , \quad k \le n$$

له پاسه: د $\binom{n}{k}$، n د k له پاسه، د $\binom{n}{k}$، n د k له پاسه، د بینوم هغه ضریبونه دي چې k د بینوم د توان پـه ټاکلو سره، د ضریبونو لپاره داسې صورت نیسي:

$$\binom{n}{k} = \frac{n!}{k!(n-k)!} \text{،} \quad n,k \in IN \text{،} \quad 0 \le k \le n$$

- له n شیانو څخه د r شیانو ترکیبونه په:

$$C_r^n = \binom{n}{r} = \frac{n!}{r!(n-r)!} \quad \text{،} \quad r \le n$$

وریشن یا تبدیلونه: په ترتیبونو کې چې پر له پسې ترتیب د k انتخابي غړو له n غـړو څخه مطلوب وي، په نامه دي، n په k تبدیلونو یاد او لیکو:

$$V_k^n = k!\cdot C_k^n = k!\frac{n!}{k!(n-k)!} = \frac{n!}{(n-k)!}$$

$$V_k^n = \frac{n!}{(n-k)!}$$

دبینوم قضیه: د $(a+b)^n$ دو جملهيي انکشاف عبارت دی له:

$$(a+b)^n = \sum_{k=0}^{n}\binom{n}{k}\cdot a^k \cdot b^{n-k}$$

د یوې تجربې په n ځلې تکرارکې، چې هر حالت یې p او د $q=1-p$ احتمال لري.

د $k-$ام ځلې ورلو یعنې p له n ځلې څخه او نور پاتې حالتونه چې بایلل ګڼل کېږي؛یعنې $q=1-p$ سره دي اوصورت نیسي:

$$\left\langle \begin{array}{c}\text{د k ځلې ورلو د احتمال قیمت د تجربې} \\ \text{د n ځلې په پای کې}\end{array} \right\rangle = \binom{n}{k}\cdot p^k \cdot (1-p)^{n-k} \text{،} \quad 0 \le k \le n$$

(c) ketabton.com: The Digital Library

د څپرکي پوښتنې

1- د لاندې عددونو سټ په پام کې ونيسئ:

$$S=\{0,1,2,3,4,5,6\}$$

(i): په څو ډوله کولای شو له پاسنيو عددونو څخه 3 رقمي عددونه جوړ کړو.

(ii): ټول 3 رقمي جفت عددونه به څو وي؟

2- په څو ډوله 6 تنه زده‌کوونکي په يوه کتار کې څنګ په څنګ دربدلی شي؟

3- په څو ډوله ابوبکر، زبير، ياسر، حنظله او حبيب کولای شي، په يو کتار کې خوا په خوا د يو يادګاري تصوير د اخېستلو لپاره ودرېږي؟

4- په څو ډولونو کولای شو چې 9 تنه په درې 3 ګروپونو وويشو؟

5- د پاسکال د مثلث له مخې د $(a+b)^7$ انکشاف په لاس راوړئ؟

Get more e-books from www.ketabton.com
Ketabton.com: The Digital Library